2026

الدراسات الاجتماعية

تطبيق
الامتحان التفاعلى



الامتحان

الصف الثالث الإعدادى

الفصل الدراسى الأول

محتويات الكتاب

أولًا | الجغرافيا



◄ الوحدة الأولى

الجغرافيا الطبيعية للعالم.

◄ الوحدة الثانية

جغرافية سكان العالم.

ثانيًا | التاريخ



◄ الوحدة الثالثة

مصر تحت الحكم العثمانى.

◄ الوحدة الرابعة

مصر والزحف الاستعمارى
ومحاولات التحرر الوطنى.

يُصرف مع الكتاب

◄ **كتاب المراجعة** ويشمل:

- مراجعة شهرية. جديد
- أسئلة عامة وامتحان على كل وحدة.
- امتحان على الجغرافيا.
- امتحان على التاريخ.
- امتحانات نهاية الفصل الدراسى.
- الإجابات.

◄ **مفكرة الامتحان** وتشمل:

- مراجعة على كل وحدة.



هدية أطلس الامتحان

أولًا الجغرافيا



تنويه

المعلومات الموجودة فى هامش بعض الصفحات ومشار إليها بالعلامة * هى معلومات للاطلاع فقط

الوحدة الأولى | الجغرافيا الطبيعية للعالم

الدرس الأول	قارات العالم «الموقع والمساحة».
الدرس الثانى	تضاريس العالم.
الدرس الثالث	المناخ والنبات الطبيعى فى العالم.

الوحدة الثانية | جغرافية سكان العالم

الدرس الأول	السلالات البشرية فى العالم.
الدرس الثانى	توزيع السكان فى العالم.
الدرس الثالث	خصائص سكان العالم.

أسئلة كل درس تشمل :

- أسئلة تفاعلية
- أسئلة للتميز.
- أسئلة من امتحانات المحافظات.
- امتحان على الدرس.

هام

- أسئلة عامة وامتحان على كل وحدة — انظر كتاب المراجعة
- مراجعة على كل وحدة — انظر مفكرة الامتحان

أهـــم المفاهيـــم الجغـرافيـــة



المسطحات المائية	**الأجزاء المنخفضة من سطح الأرض وغمرتها المياه.**
محيط	مساحة واسعة من الماء المالح ذات أعماق كبيرة.
بحـــر	مساحة من الماء المالح أصغر مساحة وأقل عمقًا من المحيط.
من أنواع البحار: **خـارجى**	بحر يتصل بالمحيط بفتحة واسعة.
من أنواع البحار: **داخـلـى**	بحر يتصل بالمحيط بفتحة ضيقة.
من أنواع البحار: **مغلــق**	بحر يوجد داخل اليابس ولا يتصل بأى بحار أخرى أو محيطات.
خليـج	امتداد من البحر أو المحيط داخل اليابس.
بحـيرة	مساحة صغيرة من الماء المالح أو العذب يحيط بها اليابس من جميع الجهات.
نـهـر	مجرى مائى عذب تكوّن نتيجة سقوط وتجمع مياه الأمطار أو ذوبان الجليد.
مضيـق	ممر مائى طبيعى ضيق يصل بين مسطحين مائيين.
قـنـاة	ممر مائى صناعى يصل بين مسطحين مائيين.
اليابـــس	**الأجزاء المرتفعة عن مستوى سطح البحر والتى لم تغمرها المياه.**
قـــارة	مساحة كبيرة من اليابس، مقسمة سياسيًا إلى مجموعة من الدول.
قارات العالم القديم	القارات المعروفة للإنسان قديمًا وهى آسيا وأفريقيا وأوروبا.
قارات العالم الجديد	القارات التى تم اكتشافها حديثًا وهى أمريكا الشمالية وأمريكا الجنوبية وأستراليا (الأوقيانوسية) والقارة القطبية الجنوبية (أنتاركتيكا).
جـزيـــرة	مساحة صغيرة من اليابس يحيط بها الماء من جميع الجهات.

شبه جزيرة	مساحة من اليابس يحيط بها الماء فى أغلب جهاتها إلا جهة واحدة.
برزخ	يابس ضيق يصل بين مساحتين كبيرتين من اليابس ويفصل بين مسطحين مائيين.
دوائر العرض	دوائر وهمية أفقية متوازية غير متساوية فى الحجم وتتوسطها دائرة الاستواء (دائرة العرض الرئيسية).
خطوط الطول	أنصاف دوائر وهمية تصل بين القطبين الشمالى والجنوبى ويتوسطها خط جرينتش (خط الطول الرئيسى).
تضاريس	أشكال سطح الأرض المختلفة من مرتفعات ومنخفضات.
جبال	نطاقات أرضية مرتفعة عما حولها لها قمة، شديدة الانحدار من الجانبين وتظهر ككتلة مرتفعة ذات قمة عالية أو فى شكل سلاسل ممتدة لمئات أو آلاف الكيلومترات تُعرف بالسلاسل الجبلية.
هضاب	مناطق واسعة مستوية السطح ومرتفعة عما حولها.
تل	أرض مرتفعة من سطح الأرض تشبه الجبل ولكنها أقل منه ارتفاعًا.
سهول	أراضٍ مستوية أو شبه مستوية السطح.
من أنواع السهول: ساحلية	سهول تمتد على سواحل البحار والمحيطات والخلجان ويختلف اتساعها من ساحل إلى آخر.
من أنواع السهول: فيضية	سهول تمتد على جوانب الأنهار، تتكون من رواسب الأنهار وتتميز بصلاحيتها للزراعة.
من أنواع السهول: صحراوية	سهول قد تظهر صخرية متماسكة أو مكونة من تكوينات مفككة من رمال أو حصى.
مناخ	متوسط حالة الجو من حيث الحرارة والضغط والرياح والأمطار لفترة زمنية طويلة قد تكون شهرًا أو فصلًا من فصول السنة أو عامًا كاملًا.
طقس	وصف حالة الجو من حيث الحرارة والضغط والرياح والأمطار لفترة زمنية قصيرة قد تكون يومًا أو عدة أيام أو أسبوع.
نبات طبيعى	نبات ينمو طبيعيًا دون تدخل الإنسان نتيجة تفاعل مجموعة من العوامل الطبيعية كالحرارة والضوء والمياه والتربة.
تعداد السكان	حصر شامل للسكان من حيث العدد والنوع والتعليم ومكان الإقامة والحالة الاجتماعية والنشاط الاقتصادى.
كثافة سكانية	نسبة عدد السكان إلى المساحة التى يُقيمون عليها.
نمو سكانى	زيادة عدد السكان خلال فترة زمنية معينة.
الهجرة	انتقال الفرد من منطقة لأخرى بغرض الإقامة والعمل.



الوحدة الأولى

الجغرافيا الطبيعية للعالم

من المتوقع بعد الانتهاء من الدرس أن يكون التلميذ قادرًا على أن :

الدرس الأول	قارات العالم. «الموقع والمساحة».	- يوزع على خريطة صماء قارات العالم. - يرتب قارات العالم تبعًا لمساحة كل قارة. - يحدد أسماء المحيطات على خريطة صماء للعالم. - يذكر بعض الجزر بقارات العالم. - يحدد الموقع الجغرافي والفلكي لكل قارة من قارات العالم.
الدرس الثانى	تضاريس العالم.	- يقرأ التضاريس من خريطة تضاريس العالم. - يصف التضاريس التي تميز كل قارة من قارات العالم. - يميز بين أنواع السهول في العالم. - يقارن بين مظاهر السطح في قارات العالم. - يقدر عظمة الله في تنوع مظاهر السطح بين قارات العالم.
الدرس الثالث	المناخ والنبات الطبيعى في العالم.	- يحدد العوامل المؤثرة في مناخ قارات العالم. - يذكر الأقاليم المناخية في قارات العالم. - يقارن بين بعض الأقاليم المناخية من حيث موقع الإقليم وأهم خصائصه المناخية والنباتية. - يعدد الخصائص المميزة لكل إقليم مناخي. - يوزع الأقاليم المناخية في كل قارة على خريطة. - يستنتج العلاقة بين الأقاليم المناخية والنبات الطبيعي في العالم. - يذكر الأهمية الاقتصادية لبعض النباتات الطبيعية في قارات العالم.

الدرس
الأول

قـارات العـالم «الموقع والمساحة»

فى هذا الدرس سندرس

الموقع الفلكى والجغرافى لقارات العالم

- قارة آسيا
- قارة أفريقيا
- قارة أوروبا
- قارة أمريكا الشمالية
- قارة أمريكا الجنوبية
- قارة أستراليا (الأوقيانوسية)
- القارة القطبية الجنوبية (أنتاركتيكا)



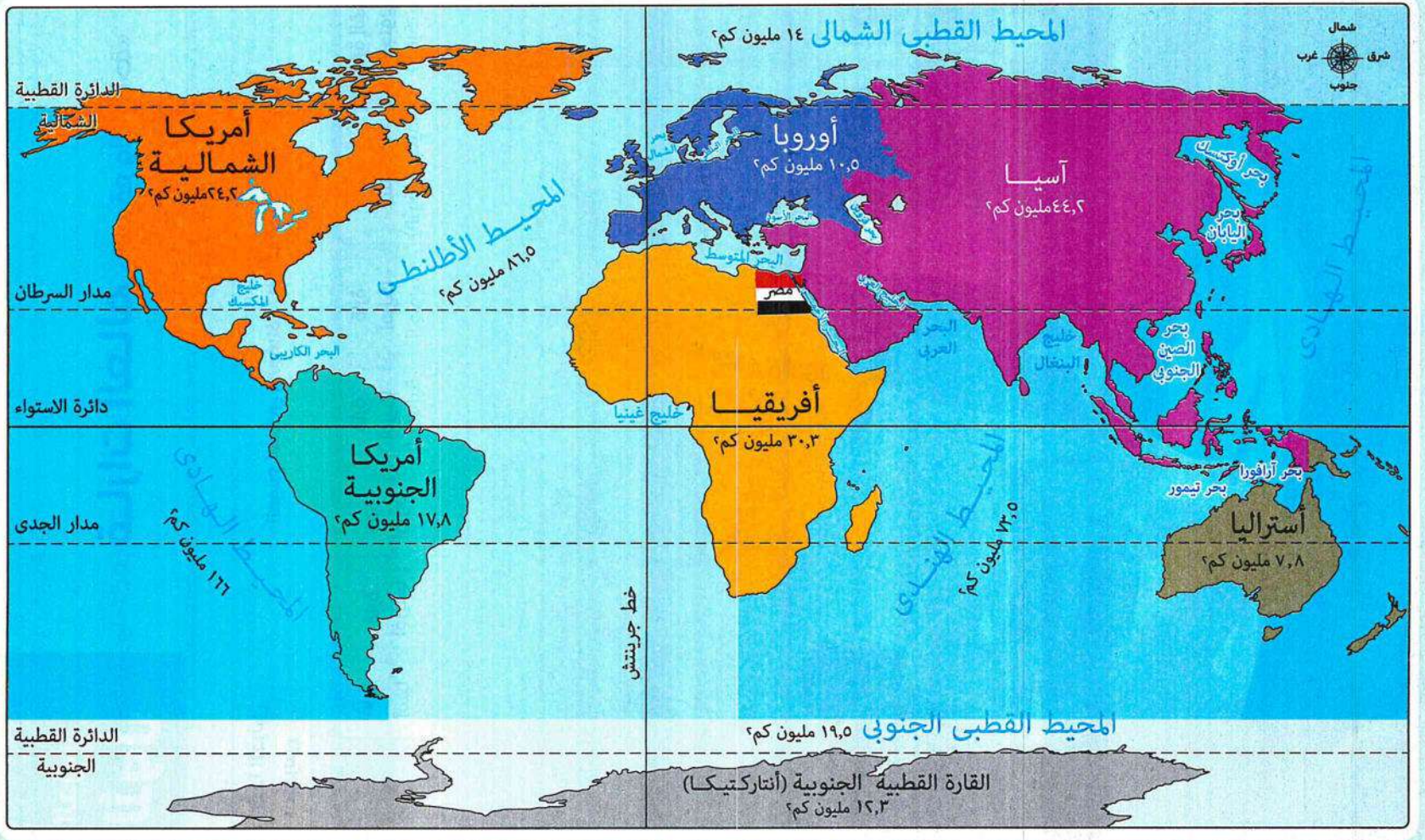

مساحة قارات ومحيطات العالم

* تبلغ مساحة الكرة الأرضية : ٥١٠ مليون كم٢ ، وتنقسم إلى :

اليابس

* يشغل نحو ٢٩,٣ ٪ من مساحة الكرة الأرضية، ويتمثل فى القارات، وهى :



الماء

* يشغل نحو ٧٠,٧ ٪ من مساحة الكرة الأرضية، ويتمثل معظمه فى المحيطات، وهى :

مرتبة تنازليًا

①	آسيا (أكبر القارات)	٤٤,٢ مليون كم٢
②	أفريقيا	٣٠,٣ مليون كم٢
③	أمريكا الشمالية	٢٤,٢ مليون كم٢
④	أمريكا الجنوبية	١٧,٨ مليون كم٢
⑤	القارة القطبية الجنوبية (أنتاركتيكا)	١٢,٣ مليون كم٢
⑥	أوروبا	١٠,٥ مليون كم٢
⑦	أستراليا (أصغر القارات)	٧,٨ مليون كم٢

①	الهادى (أكبر المحيطات)	١٦٦ مليون كم٢
②	الأطلنطى	٨٦,٥ مليون كم٢
③	الهندى	٧٣,٥ مليون كم٢
④	القطبى الجنوبى	١٩,٥ مليون كم٢
⑤	القطبى الشمالى (أصغر المحيطات)	١٤ مليون كم٢

يمكن تقسيم قارات العالم إلى :

- **قارات العالم القديم:** آسيا، أفريقيا، أوروبا.
- **قارات العالم الجديد:** أمريكا الشمالية، أمريكا الجنوبية، أستراليا، القارة القطبية الجنوبية (أنتاركتيكا).

وفيما يلى نتعرف الموقع الفلكى والموقع الجغرافى لقارات العالم بشىء من التفصيل :

ما المقصود بـ ... ؟

الموقع الفلكى	الموقع الجغرافى
موقع المكان بالنسبة لخطوط الطول ودوائر العرض	موقع المكان بالنسبة للأماكن الأخرى من بحار ومحيطات وقارات أو دول مجاورة

١ قارة آسيا (أكبر القارات)

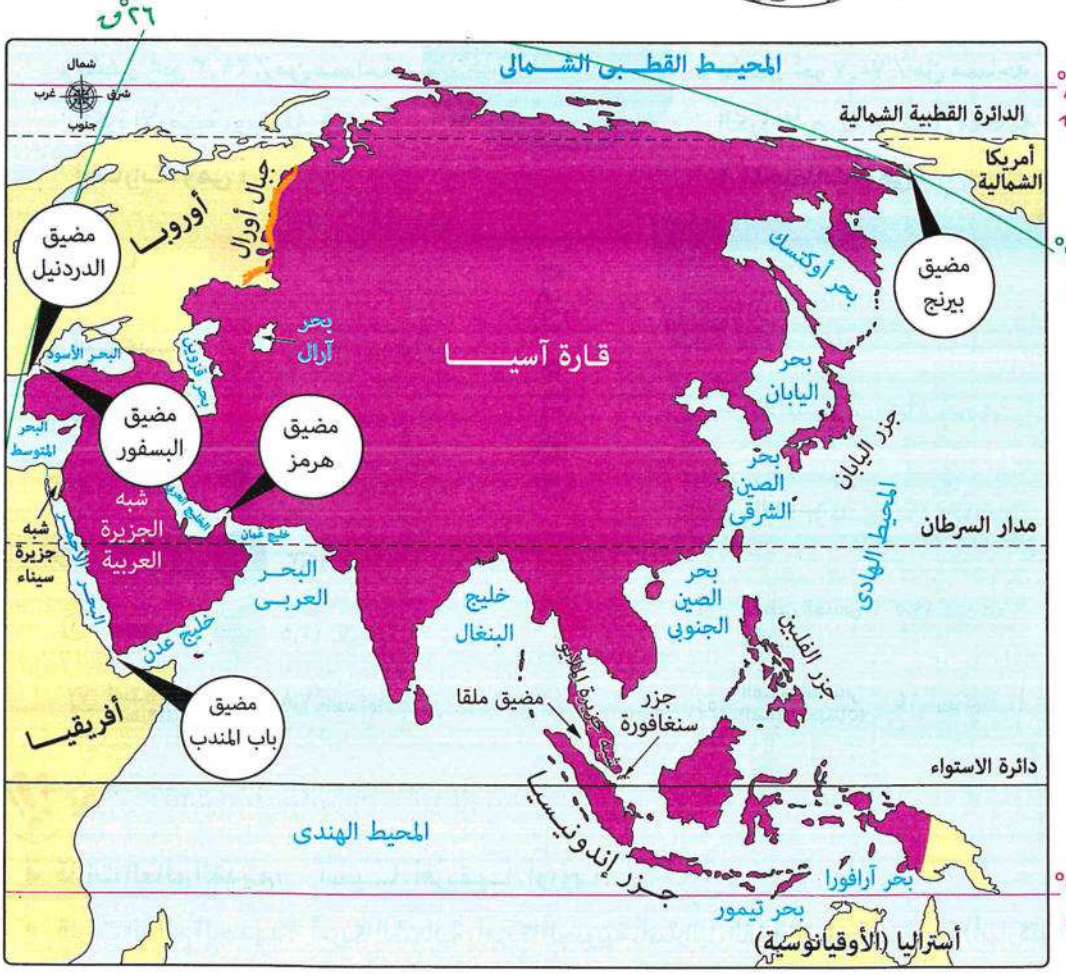

الموقع الفلكى

تمتد بين :

- دائرتى عرض : ٨١° شمالًا، ١٠° جنوبًا.
- خطى طول : ٢٦° شرقًا، ١٧٠° غربًا.

الموقع الجغرافى

يحدها :

- شمالًا : المحيط القطبى الشمالى.
- شرقًا : المحيط الهادى.
- جنوبًا : المحيط الهندى.
- غربًا : قارة أوروبا، والبحر المتوسط، والبحر الأحمر.

تحاط آسيا بالمحيطات من ثلاث جهات.



من خلال الموقع الجغرافى لقارة آسيا، والخريطة السابقة نلاحظ ما يلى:

- يفصل آسيا عن **أوروبا** جبال أورال.
- يفصل آسيا عن **أفريقيا** البحر الأحمر، وتقترب منها عند مضيق باب المندب، وتتصل بها عند شبه جزيرة سيناء.
- تقترب آسيا من **أمريكا الشمالية** عند مضيق بيرنج.
- يفصل آسيا (جزر إندونيسيا) عن **أستراليا** بحر آرافورا.

تتميز آسيا بـ :

- وجود أكبر بحر مغلق فى العالم، **هو** بحر قزوين.
- وجود الكثير من أشباه الجزر، **مثل** :
  - شبه الجزيرة العربية.
  - شبه جزيرة الملايو.
- كثرة الجزر القريبة من سواحلها، **مثل** :

جزر اليابان



جزر الفلبين



- وجود عدد من الدول الجزرية.

ما المقصود بـ : دول جزرية ؟

الدول التى تتكون من جزيرة أو أكثر أو قد تكون جزءًا من جزيرة.

نشاط إثرائى

أى من الدول الجزرية التالية تتكون من جزيرة ... ؟ وأيها تتكون من جزء من جزيرة ؟ وأيها تتكون من أكثر من جزيرة ؟

(١) البحرين. (٢) ماليزيا. (٣) سيريلانكا. (٤) إندونيسيا. (٥) برونای.

٢ قارة أفريقيا



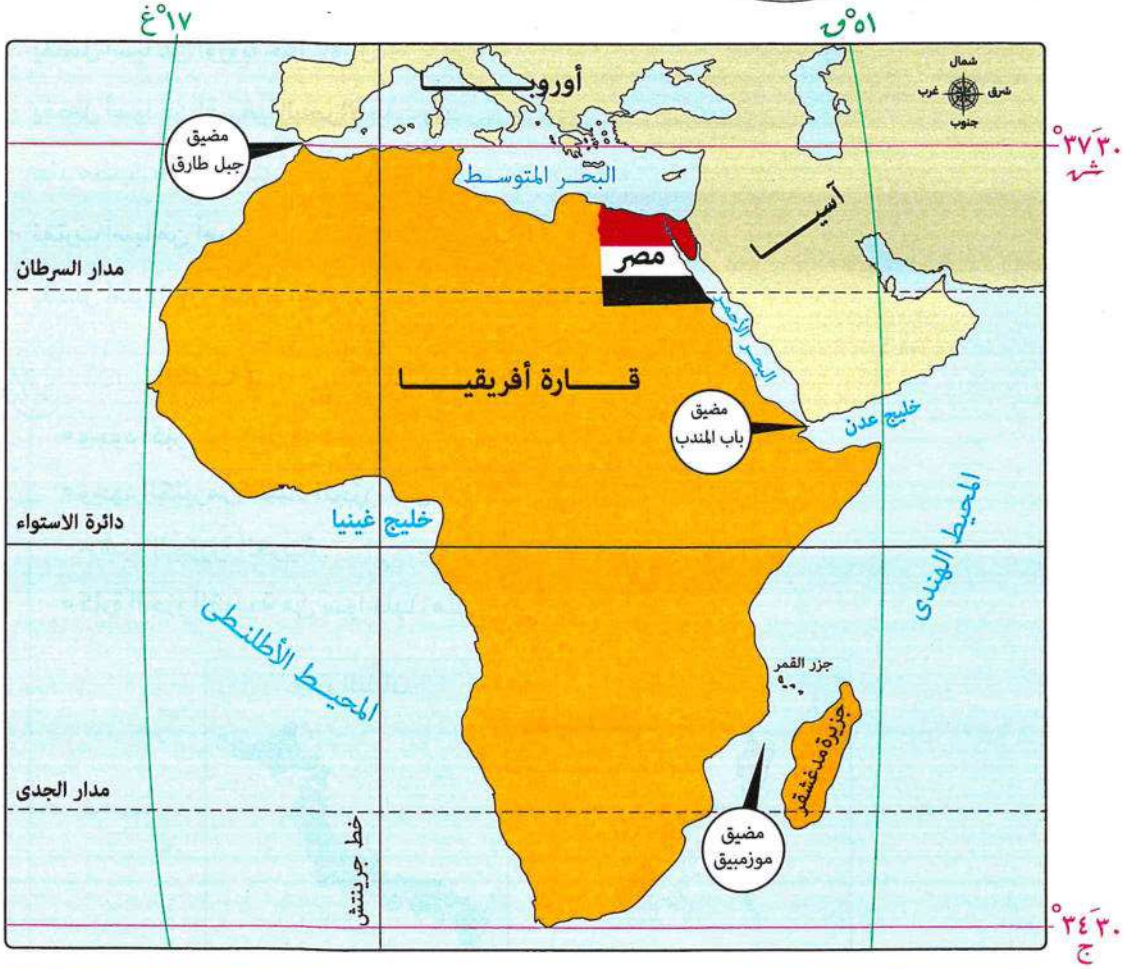

الموقع الفلكى

تمتد بين :

- دائرتى عرض : ٣٠ ٣٧° شمالًا ، ٣٠ ٣٤° جنوبًا.
- خطى طول : ٥١° شرقًا ، ١٧° غربًا.

الموقع الجغرافى

يحدها :

- **شمالًا :** البحر المتوسط (يفصلها عن أوروبا).
- **شرقًا :** المحيط الهندى والبحر الأحمر.
- **غربًا :** المحيط الأطلنطى.

تتميز أفريقيا بقلة الجزر، ومن أهمها :

- جزيرة مدغشقر (أكبر جزر أفريقيا).
- جزر القمر.

٣ قارة أوروبا

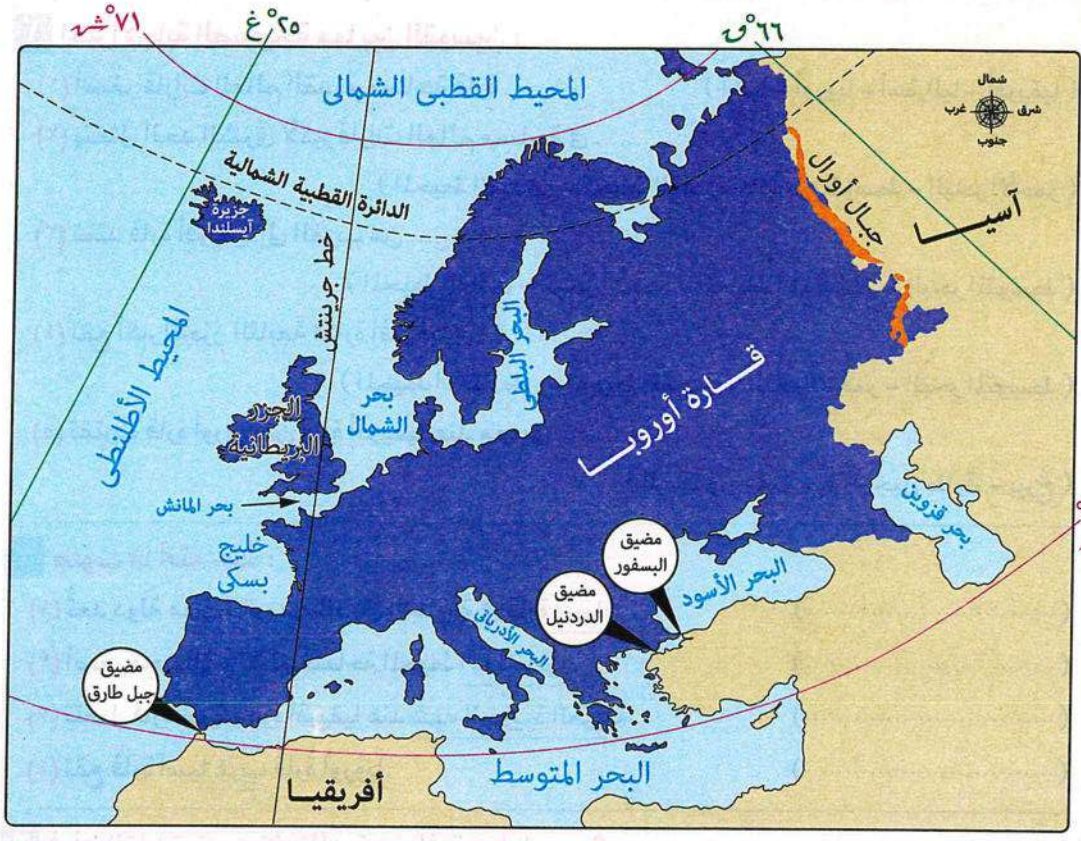

الموقع الفلكى

تمتد بين :

- دائرتى عرض : ٣٦° ، ٧١° شمالًا.
- خطى طول : ٦٦° شرقًا ،
  ٢٥° غربًا (غرب جزيرة آيسلندا).

الموقع الجغرافى

يحدها :

- شمالًا : المحيط القطبى الشمالى.
- شرقًا : قارة آسيا.
- جنوبًا : البحر المتوسط.
- غربًا : المحيط الأطلنطى.

تتميز أوروبا بـ :

تعرج السواحل وكثرة الجزر **ما النتائج ؟** **مما ساعد على** إنشاء الموانئ.

التدريب الأول

١ اختر الإجابة الصحيحة مما بين القوسين :

(١) أصغر قارات العالم القديم مساحة قارة ..... (آسيا - أوروبا - أستراليا - أفريقيا)

(٢) يتمثل الحد الشرقى لأكبر قارات العالم مساحة فى .....

(المحيط الهندى - المحيط الهادى - البحر المتوسط - البحر الأحمر)

(٣) تمتد قارة أفريقيا إلى الغرب من .....

(المحيط الهادى - البحر الأحمر - المحيط الأطلنطى - البحر المتوسط)

(٤) تقع أكبر الجزر التابعة لقارة أفريقيا فى .....

(المحيط الأطلنطى - المحيط الهندى - البحر الأحمر - البحر المتوسط)

(٥) تقترب قارة أوروبا من قارة أفريقيا عند مضيق .....

(البسفور - موزمبيق - جبل طارق - بيرنج)

---

٢ صوب ما تحته خط :

(١) تُعد دولة مدغشقر من الدول الجزرية فى قارة آسيا. (.....)

(٢) أصغر محيطات العالم مساحة المحيط الأطلنطى. (.....)

(٣) تتصل قارة آسيا بقارة أفريقيا عند شبه الجزيرة العربية. (.....)

(٤) تقع قارة آسيا غرب قارة أوروبا. (.....)

---

٣ فى أى القارات توجد كل ظاهرة جغرافية مما يلى ... ؟

(١) شبه جزيرة الملايو. (.....) (٢) جزر القمر. (.....)

(٣) بحر قزوين. (.....) (٤) جزيرة آيسلندا. (.....)

---

٤ بم تفسر : كثرة الموانئ فى قارة أوروبا ؟

.....

---

٥ دلل على صحة العبارة التالية : تتميز قارة آسيا بكثرة الجزر.

.....

---

٦ حدد وجه الشبه بين : قارة أوروبا، وقارة أفريقيا من حيث الموقع الجغرافى.

.....

٤ قارة أمريكا الشمالية



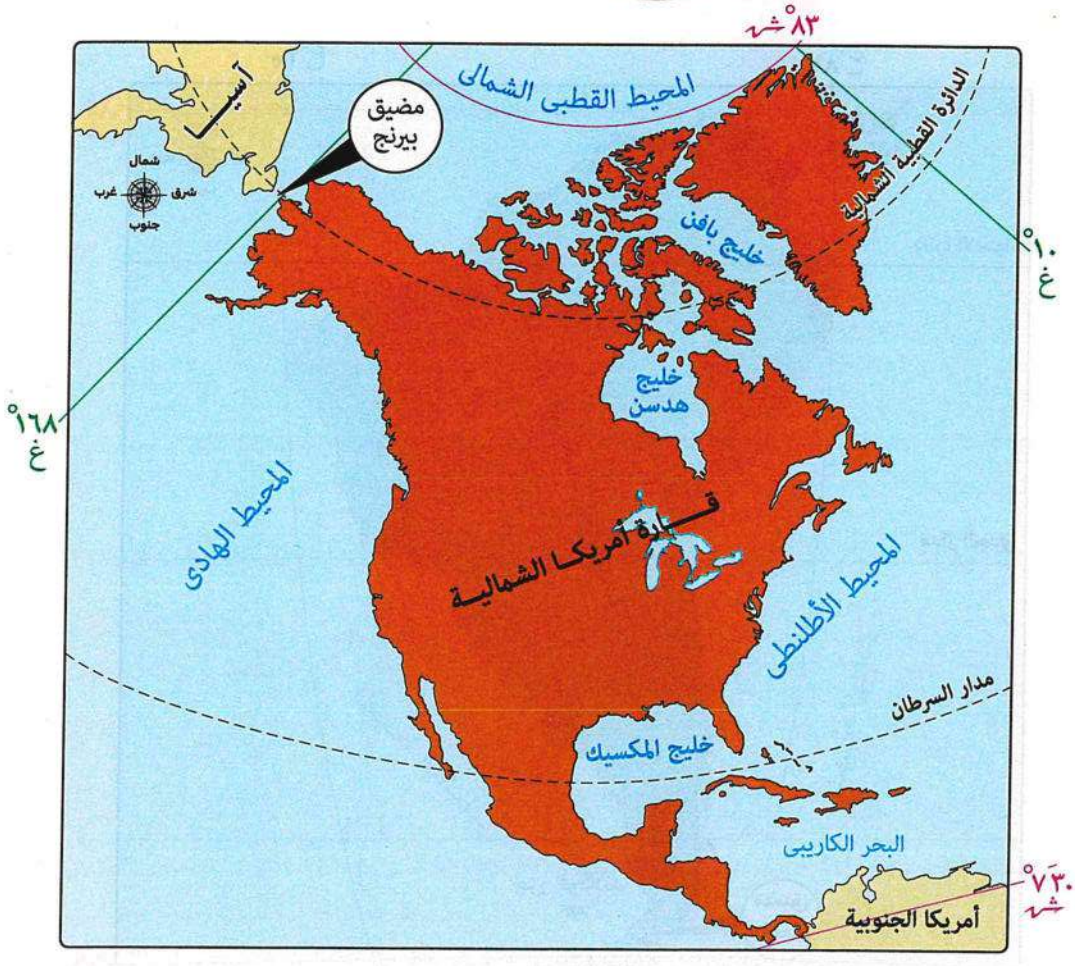

الموقع الفلكى

تمتد بين :

- دائرتى عرض : ٣٠ ٧°، ٨٣° شمالًا.
- خطى طول : ١٠°، ١٦٨° غربًا.

الموقع الجغرافى

يحدها :

- **شمالًا :** المحيط القطبى الشمالى.
- **شرقًا :** المحيط الأطلنطى.
- **غربًا :** المحيط الهادى.
- **من الجنوب الشرقى :** خليج المكسيك والبحر الكاريبى.

٥ قارة أمريكا الجنوبية

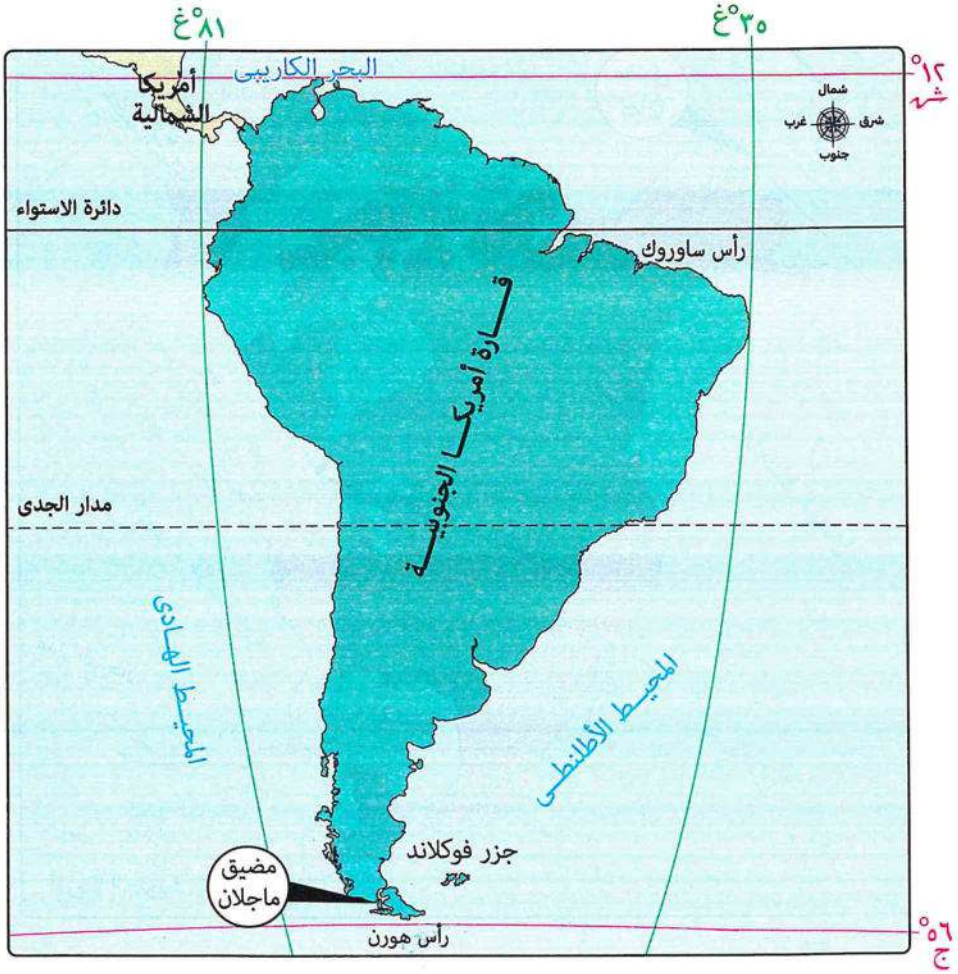

الموقع الفلكى

تمتد بين :

- دائرتى عرض : ١٢° شمالًا، ٥٦° جنوبًا.
- خطى طول : ٣٥° ، ٨١° غربًا.

الموقع الجغرافى

تبدو فى شكل أقرب للمثلث، ويحدها :

- شمالًا : البحر الكاريبى.
- شرقًا : المحيط الأطلنطى.
- غربًا : المحيط الهادى.

٦ قارة أستراليا (الأوقيانوسية)

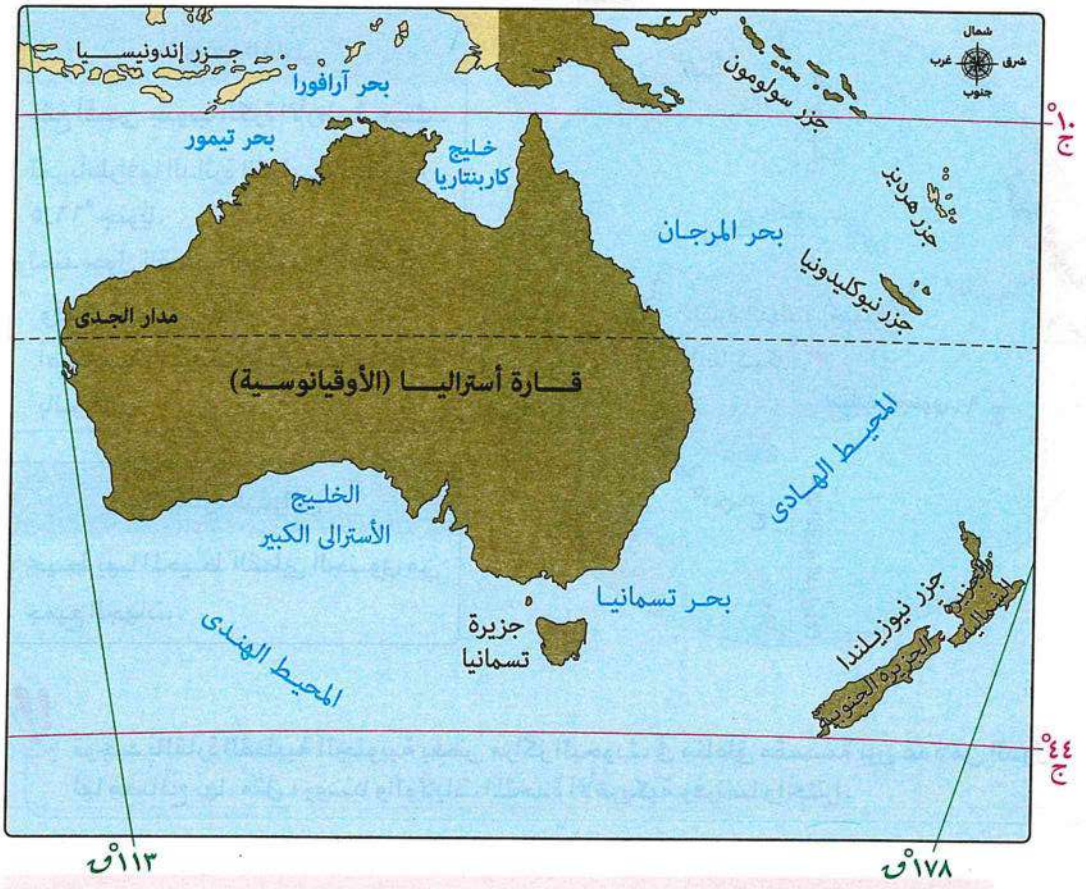

الموقع الفلكى	الموقع الجغرافى
تمتد بين : دائرتى عرض : ١٠° ، ٤٤° جنوبًا. خطى طول : ١١٣° ، ١٧٨° شرقًا.	**يحدها :** شمالًا : بحر آرافورا (يفصلها عن جزر إندونيسيا بآسيا). شرقًا : المحيط الهادى. جنوبًا : المحيط الهندى. غربًا : المحيط الهندى.

تضم أستراليا مجموعة من الجزر، أهمها :

- نيوزيلندا الشمالية.
- تسمانيا.
- نيوزيلندا الجنوبية.
- بجانب مجموعات من الجزر الصغيرة بالمحيط الهادى.

٧ القارة القطبية الجنوبية (أنتاركتيكا)

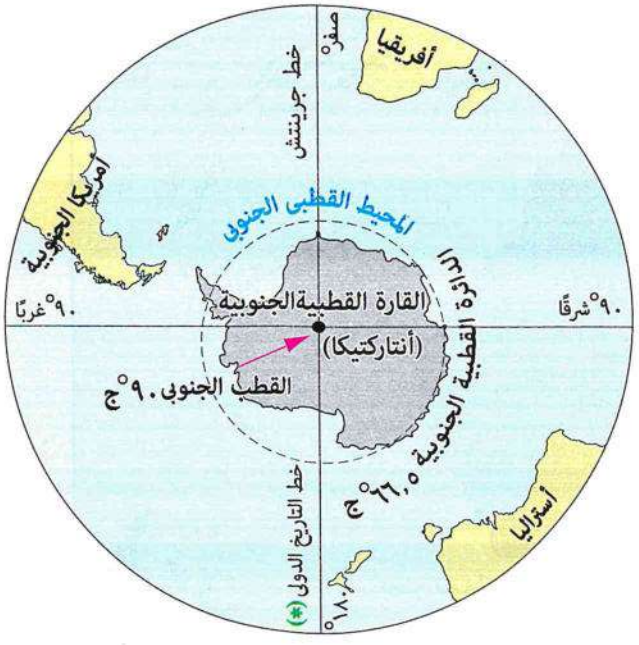

الموقع الفلكى

تقع أقصى جنوب الكرة الأرضية حيث :

- تمر بأطرافها الدائرة القطبية الجنوبية ٦٦,٥° جنوبًا.
- تمتد حول القطب الجنوبى ٩٠° جنوبًا،

وقد ترتب على ذلك :

أصبحت متجمدة، وغير مأهولة بالسكان.

الموقع الجغرافى

- يحيط بها المحيط القطبى الجنوبى من جميع الجهات.

توجد بالقارة القطبية الجنوبية بعض مراكز البحوث فى مناطق مقسمة بين عدد من الدول لها مصالح بها، **مثل :** روسيا والولايات المتحدة الأمريكية وفرنسا وإنجلترا.

بدراسة الموقع الفلكى لقارات العالم نجد أن دوائر العرض الرئيسية تمتد فى قارات العالم كالتالى :

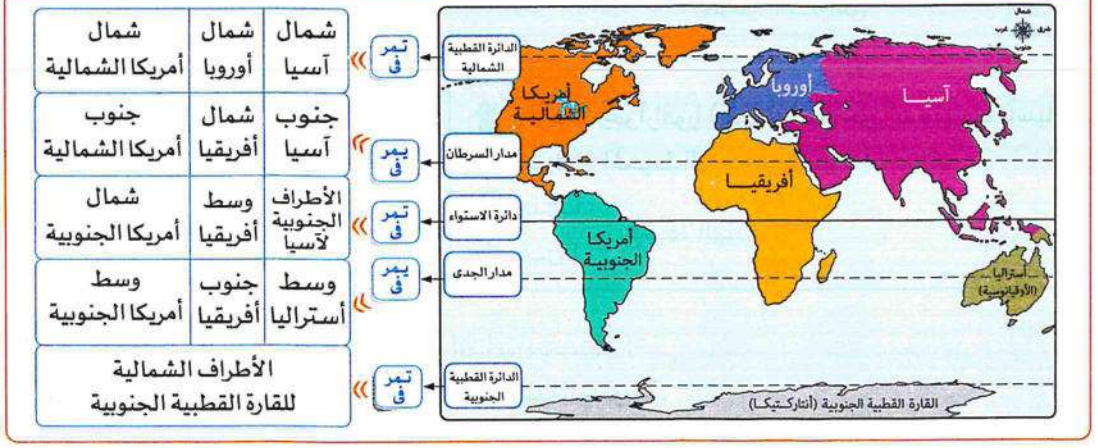

(*) **خط التاريخ الدولى :** هو خط وهمى على سطح الكرة الأرضية منه يبدأ اليوم، وإليه ينتهى ودرجته ١٨٠° وهو الخط المقابل لخط جرينتش.

التدريب الثانى

١ اختر الإجابة الصحيحة مما بين القوسين :

(١) أكبر قارات العالم الجديد من حيث المساحة يحدها من الجنوب الشرقى .....

(المحيط القطبى الجنوبى - بحر آرافورا - خليج المكسيك - المحيط الهادى)

(٢) يحد البحر الكاريبى قارة أمريكا الجنوبية من جهة .....

(الشمال - الجنوب - الشرق - الغرب)

(٣) يتمثل الحد الشرقى لأستراليا والحد الغربى للأمريكتين فى المحيط .....

(الأطلنطى - الهندى - الهادى - القطبى الشمالى)

(٤) تقع جزر إندونيسيا بالنسبة لقارة أستراليا فى جهتها .....

(الشمالية - الشرقية - الغربية - الجنوبية)

(٥) تعتبر تسمانيا إحدى الجزر التابعة لقارة .....

(أمريكا الشمالية - أستراليا - أمريكا الجنوبية - أنتاركتيكا)

(٦) تمر دائرة الاستواء شمال قارة .....

(آسيا - أمريكا الشمالية - أفريقيا - أمريكا الجنوبية)

---

٢ اكتب كلمة (صواب) أمام العبارة الصحيحة، وكلمة (خطأ) أمام العبارة غير الصحيحة، مع التصويب :

(١) يحد قارة أمريكا الشمالية المحيط الهندى من جهة الشمال. ☐

(٢) تبدو قارة أمريكا الجنوبية فى شكل أقرب للمثلث. ☐

(٣) يحد المحيط الأطلنطى الأمريكتين من جهة الشرق. ☐

(٤) تضم قارة أستراليا مجموعات من جزر صغيرة تقع فى المحيط الهادى. ☐

(٥) يمر مدار الجدى فى وسط قارتى أستراليا وأمريكا الشمالية. ☐

(٦) تُعد فرنسا من الدول التى تمتلك مركزًا للبحوث بقارة أنتاركتيكا. ☐

---

٣ دلل على صحة العبارة التالية : تُعد قارة أستراليا جزيرة كبيرة.

.....

---

٤ بم تفسر : قارة أنتاركتيكا غير مأهولة بالسكان ؟

.....

أهم نقاط الدرس

يقصد بـ :

موقع فلكى	موقع المكان بالنسبة لخطوط الطول ودوائر العرض.
موقع جغرافى	موقع المكان بالنسبة للأماكن الأخرى من بحار و محيطات و قارات أو دول مجاورة.
دول جزرية	الدول التى تتكون من جزيرة أو أكثر أو قد تكون جزءًا من جزيرة.

		الموقع الفلكى		الموقع الجغرافى
		بين دائرتى عرض	بين خطى طول	
قارات العالم القديم	 **آسيا** (أكبر القارات)	٨١° شمالًا، ١٠° جنوبًا.	٢٦° شرقًا، ١٧٠° غربًا.	**شمالًا :** المحيط القطبى الشمالى. **شرقًا :** المحيط الهادى. **جنوبًا :** المحيط الهندى. **غربًا :** قارة أوروبا والبحر المتوسط والبحر الأحمر.
	 **أفريقيا**	٣٧° ٣٠ شمالًا، ٣٤° ٣٠ جنوبًا.	٥١° شرقًا، ١٧° غربًا.	**شمالًا :** البحر المتوسط. **شرقًا :** المحيط الهندى والبحر الأحمر. **غربًا :** المحيط الأطلنطى.
	 **أوروبا**	٣٦°، ٧١° شمالًا.	٦٦° شرقًا، ٢٥° غربًا.	**شمالًا :** المحيط القطبى الشمالى. **شرقًا :** قارة آسيا. **جنوبًا :** البحر المتوسط. **غربًا :** المحيط الأطلنطى.
قارات العالم الجديد	 **أمريكا الشمالية**	٧° ٣٠، ٨٣° شمالًا.	١٠°، ١٦٨° غربًا.	**شمالًا :** المحيط القطبى الشمالى. **شرقًا :** المحيط الأطلنطى. **غربًا :** المحيط الهادى. **الجنوب الشرقى :** خليج المكسيك والبحر الكاريبى.
	 **أمريكا الجنوبية**	١٢° شمالًا، ٥٦° جنوبًا.	٣٥°، ٨١° غربًا.	**شمالًا :** البحر الكاريبى. **شرقًا :** المحيط الأطلنطى. **غربًا :** المحيط الهادى.
	 **أستراليا** (الأوقيانوسية) (أصغر القارات)	١٠°، ٤٤° جنوبًا.	١١٣°، ١٧٨° شرقًا.	**شمالًا :** بحر آرافورا. **شرقًا :** المحيط الهادى. **جنوبًا وغربًا :** المحيط الهندى.
	 **القارة القطبية الجنوبية** (أنتاركتيكا)	* تقع أقصى جنوب الكرة الأرضية حيث : • تمر بأطرافها الدائرة القطبية الجنوبية ٦٦,٥° جنوبًا. • تمتد حول القطب الجنوبى ٩٠° جنوبًا. * يحيط بها المحيط القطبى الجنوبى من جميع الجهات.		

أسئلة على الدرس الأول

أسئلة تفاعلية

• تذكر • فهم ○ تطبيق ❖ مستويات عليا

١ أمامك خرائط لقارات العالم، أجب حسب المطلوب :

(أ) آسيا :

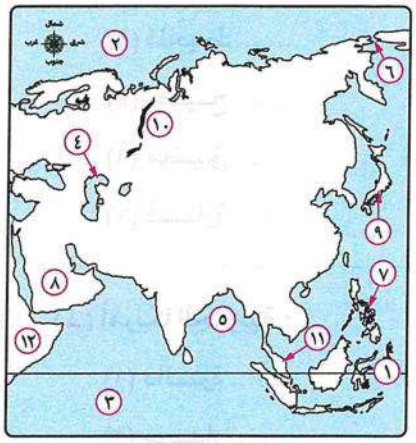

(١) دائـــــرة ..... (٢) المحيـــط .....

(٣) المحيـــط ..... (٤) بحـــــر .....

(٥) خليـــج ..... (٦) مضيـــق .....

(٧) جـــــزر ..... (٨) شبه الجزيرة .....

(٩) جـــــزر ..... (١٠) جبـــال .....

(١١) شبه جزيـرة ..... (١٢) قـــارة .....

(ب) أفريقيا :

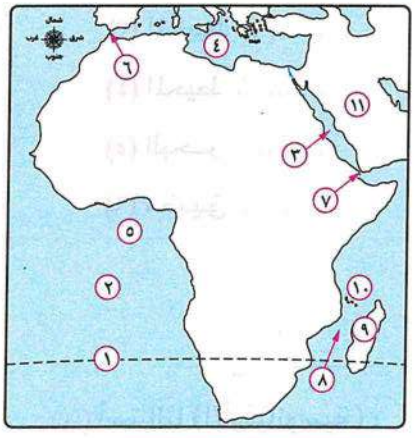

(١) مـــدار ..... (٢) المحيـط .....

(٣) البحـــر ..... (٤) البحـــر .....

(٥) خليـــج ..... (٦) مضيـــق .....

(٧) مضيـــق ..... (٨) مضيـــق .....

(٩) جزيـــرة ..... (١٠) جـــزر .....

(١١) قـــارة .....

(ج) أوروبا :

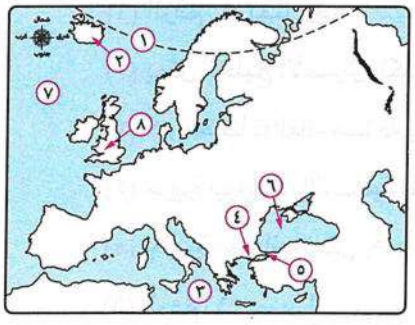

(١) الرقم ⑥ يشير إلى .....

(٢) الرقم ① يمثل دائرة عرض رئيسية وهى .....

(٣) يمثل مضيق البسفور الرقم .....

(٤) الرقم ⑦ يشـير إلى المحيط .....

(٥) يمثل البحر المتوسـط الرقم .....

(٦) جزيرة آيسلندا يشيرلها رقم .....

(د) أمريكا الشمالية :

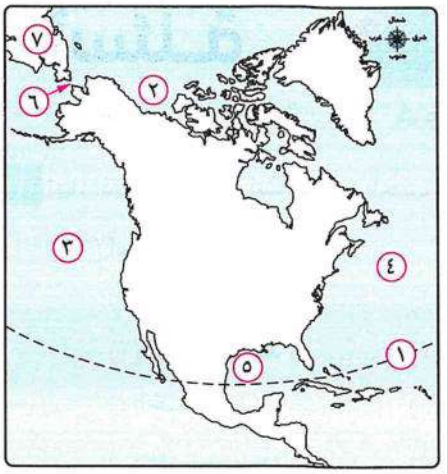

(١) مـــدار .....

(٢) المحيط .....

(٣) المحيط .....

(٤) المحيط .....

(٥) خليـج .....

(٦) مضيـق .....

(٧) قـــارة .....

(هـ) أمريكا الجنوبية :



(١) دائـــرة .....

(٢) مـــدار.....

(٣) المحيط .....

(٤) المحيط .....

(٥) البحـر .....

(٦) مضيـق .....

(و) أستراليا (الأوقيانوسية) :

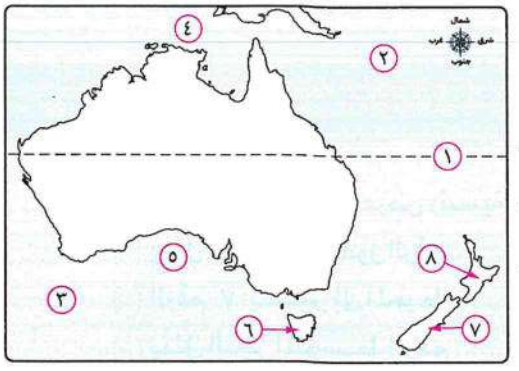

(١) الرقم ④ يمثل بحر.....

(٢) يمثل الخليج الأسترالى الكبير الرقم .....

(٣) أكبر محيطات العالم مساحة يمثل رقم .....

(٤) جزيرة نيوزيلندا الشمالية تمثل رقم .....

(٥) جزيرة تسمانيا تمثل رقم .....

(٦) الرقم ① يشير إلى دائرة عرض .....

٢ استعن بالخريطة التى أمامك فى اختيار الإجابة الصحيحة :

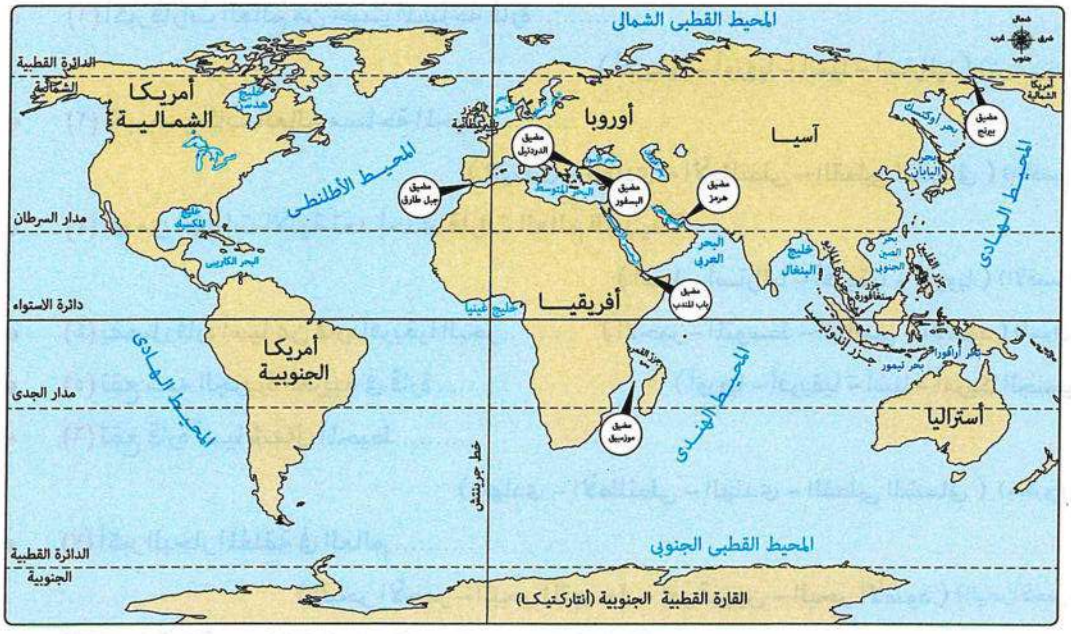

(١) يُعد مضيق جبل طارق نقطة اقتراب بين قارتى .....

(آسيا وأفريقيا - أمريكا الشمالية وآسيا - أفريقيا وأوروبا - أمريكا الشمالية وأوروبا)

(٢) المضيق الذى يصل بين المحيط القطبى الشمالى والمحيط الهادى هو .....

(موزمبيق - بيرنج - جبل طارق - باب المندب)

(٣) أى المسطحات المائية التالية يفصل بين أكبر وأصغر قارات العالم مساحة ؟ .....

(بحر آرافورا - بحر قزوين - البحر المتوسط - البحر الكاريبى)

(٤) أكثر القارات التى تمر بأراضيها دوائر عرض رئيسية هى قارتى .....

(أفريقيا وأمريكا الشمالية - أوروبا وأمريكا الجنوبية - أستراليا وآسيا - أفريقيا وآسيا)

(٥) المسطح المائى الذى تتقاسم سواحله ثلاث قارات هو .....

(البحر الأحمر - البحر المتوسط - المحيط الهادى - المحيط الأطلنطى)

(٦) أكثر القارات اقترابًا من قارة أنتاركتيكا ..... (أفريقيا - أستراليا - أمريكا الجنوبية - آسيا)

٣ اختر الإجابة الصحيحة مما بين القوسين :

(١) أكبر قارات العالم من حيث المساحة قارة .....

(أفريقيا - أوروبا - آسيا - أستراليا) (ش. سيناء ١٩)

(٢) أكبر محيطات العالم مساحة المحيط .....

(الهندى - الهادى - الأطلنطى - القطبى الشمالى) (الأقصر ٢٤)

(٣) أى من القارات الآتية تعد إحدى قارات العالم الجديد ؟ .....

(آسيا - أستراليا - أفريقيا - أوروبا) (الأقصر ٢٣)

(٤) يفصل قارة آسيا عن قارة أفريقيا البحر..... (الأحمر - المتوسط - الكاريبى - الأسود) (أسوان ٢٢)

(٥) تقع شبه الجزيرة العربية فى قارة ..... (أوروبا - أفريقيا - آسيا - أمريكا الجنوبية)

(٦) تقع قارة آسيا شمال المحيط .....

(الهادى - الأطلنطى - الهندى - القطبى الشمالى) (مطروح ٢٤)

(٧) أكبر البحار المغلقة فى العالم .....

(البحر الأحمر - البحر المتوسط - بحر قزوين - البحر الأسود) (البحر الأحمر ٢٤)

(٨) تتميز قارة آسيا بكثرة الجزر القريبة من سواحلها مثل .....

(جزر الفلبين - جزر القمر - الجزر البريطانية - جزر نيوزيلندا) (الإسكندرية ١٨)

(٩) يقع البحر الأحمر إلى الشرق من قارة ..... (آسيا - أفريقيا - أستراليا - أوروبا)

(١٠) تقع جزر القمر فى المحيط الهندى وتُعد من الدول الجزرية التابعة لقارة .....

(آسيا - أوروبا - أستراليا - أفريقيا)

(١١) تمتلك قارة أفريقيا السيطرة الكاملة على مضيق .....

(باب المندب - البسفور - موزمبيق - بيرنج)

(١٢) أى من الجزر التالية ساهمت فى زيادة الامتداد الفلكى لقارة أوروبا ؟ .....

(الجزر البريطانية - جزيرة تسمانيا - جزر فوكلاند - جزيرة آيسلندا)

(١٣) ملتقى قارات العالم القديم يتمثل فى .....

(المحيط الهندى - المحيط الأطلنطى - البحر الأحمر - البحر المتوسط) (البحر الأحمر ٢٤)

(١٤) يقع أكبر المسطحات المائية مساحة بالنسبة لأمريكا الجنوبية فى الجهة .....

(الشمالية - الجنوبية - الشرقية - الغربية)

(١٥) قارة يحدها المحيط الأطلنطى شرقًا .....

(أوروبا - أستراليا - أفريقيا - أمريكا الشمالية) (الإسكندرية ٢٤)

(١٦) تتفق قارات آسيا وأوروبا وأمريكا الشمالية فى الحد .....

(الجنوبى – الشمالى – الشرقى – الغربى) (المنيا ٢٤)

(١٧) تطل السواحل الغربية للأمريكتين على نفس المسطح المائى الذى تطل عليه السواحل الشرقية لقارة .....

(أفريقيا – آسيا – أوروبا – أنتاركتيكا)

(١٨) أى من القارات الآتية يحيط بها محيط واحد من جميع الجهات ؟ .....

(آسيا – أستراليا – أوروبا – أنتاركتيكا)

(١٩) من قارات العالم القديم وتقع بأكملها فى نصف الكرة الأرضية الشمالى قارة .....

(أمريكا الشمالية – آسيا – أوروبا – أفريقيا) (مطروح ٢٣)

(٢٠) القارة المأهولة بالسكان وتقع بأكملها فى نصف الكرة الأرضية الجنوبى .....

(أفريقيا – أمريكا الجنوبية – أستراليا – القارة القطبية الجنوبية) (بورسعيد ٢٣)

---

٤ اكتب كلمة (صواب) أمام العبارة الصحيحة، وكلمة (خطأ) أمام العبارة غير الصحيحة، مع ذكر السبب فى الحالتين :

(١) تشمل قارات العالم القديم آسيا وأنتاركتيكا وأستراليا. ( ) ( )

(٢) تحاط قارة آسيا بالمحيطات من ثلاث جهات عدا الجهة الشمالية. ( ) ( )

(٣) يوجد بقارة آسيا أكبر بحر مغلق فى العالم. (البحيرة ١٩) ( ) ( )

(٤) يحد قارة أفريقيا من الغرب المحيط الهندى. ( ) ( )

(٥) تقع قارتى أمريكا الشمالية وأمريكا الجنوبية إلى الغرب من المحيط الهادى. (الشرقية ٢٣) ( ) ( )

(٦) يمتد خليج المكسيك والبحر الأحمر بمحاذاة السواحل الجنوبية الشرقية لأمريكا الشمالية. ( ) ( )

(٧) تطل السواحل الشرقية لأكبر وأصغر قارات العالم مساحة على المحيط الهادى. ( ) ( )

(٨) يفصل قارة أستراليا عن جزر إندونيسيا فى الشمال بحر آرال. (الوادى الجديد ٢٤) ( ) ( )

(٩) تتبع جزيرة مدغشقر قارة أستراليا. ( ) ( )

(١٠) يمر مدار السرطان بقارات أستراليا وأفريقيا وأمريكا الجنوبية. ( ) ( )

---

٥ اكتب ما تشير إليه كل عبارة مما يأتى :

(١) موقع المكان سواء كان قارة أو دولة أو غيرها بالنسبة للأماكن الأخرى. (الجيزة ٢٤) (.....)

(٢) الدول التى تتكون من جزيرة أو أكثر أو قد تكون جزءًا من جزيرة. (الفيوم ٢٤) (.....)

(٣) قارة يقع معظمها فى النصف الجنوبى من الكرة الأرضية وتبدو فى شكل أقرب إلى المثلث. (سوهاج ٢٢) (.....)

(٤) قارة تتكون من عدة جزر يحدها المحيط الهادى شرقًا والمحيط الهندى غربًا وجنوبًا. (الفيوم ٢٢) (.....)

(٥) قارة تقع بنصفى الكرة الأرضية الغربى والشرقى حول القطب الجنوبى. (.....)

٦ ما النتائج المترتبة على ... ؟

(١) كثرة الجزر وتعاريج السواحل فى قارة أوروبا. (البحر الأحمر ٢٥)

.....

.....

(٢) امتداد القارة القطبية الجنوبية (أنتاركتيكا) أقصى جنوب الكرة الأرضية. (القليوبية ٢٤)

.....

.....

٧ دلل على صحة العبارة التالية :

يمر بقارة أفريقيا أكثر من دائرة عرض رئيسية.

.....

.....

٨ حدد وجه الشبه بين :

قارة أمريكا الشمالية، وقارة أمريكا الجنوبية، من حيث الموقع الجغرافى. (أسوان ٢٣)

.....

.....

٩ قارن بين :

قارة أفريقيا، وقارة آسيا، من حيث الموقع الجغرافى.

.....

.....

.....

.....

أسئلة للتميز

١٠ اختر الإجابة الصحيحة مما بين القوسين :

(١) تشرف جميع قارات العالم الجديد المأهولة بالسكان على المحيط .....

(الأطلنطى - الهادى - الهندى - القطبى الشمالى)

(٢) تمتد قارة أوروبا فى أكثر من ٩٠ درجة طولية بسبب .....

(كثرة المضايق - موقع الجزر التابعة لها - زيادة عدد الدول - اتساع المساحة)

(٣) أقرب يابس إلى قارة أمريكا الشمالية من جهة الغرب يتمثل فى قارة .....

(أستراليا - آسيا - أوروبا - أمريكا الجنوبية)

(٤) أى من القارات الآتية ينعدم اتصالها البرى بأى قارة أخرى ؟ قارة .....

(أمريكا الشمالية - أفريقيا - أوروبا - أنتاركتيكا)

(٥) أى من المضايق التالية تمثل منطقة التقاء بين قارات العالم القديم والحديث ؟ مضيق .....

(موزمبيق - بيرنج - هرمز - البسفور)

(٦) تتشابه قارة أفريقيا مع قارة أمريكا الجنوبية فى .....

(مرور دائرة الاستواء بأجزائها الشمالية - قلة خطوط الطول المارة بأطرافها الجنوبية - كثرة الجزر بالقرب من سواحلها - عدد دوائر العرض المارة بهما)

(٧) القارة التى تلتقى عندها جميع خطوط الطول هى .....

(آسيا - أفريقيا - أنتاركتيكا - أمريكا الشمالية)

---

١١ اكتب كلمة (صواب) أمام العبارة الصحيحة، وكلمة (خطأ) أمام العبارة غير الصحيحة، مع التصويب :

(١) يتشابه البحر المتوسط مع البحر الأحمر فى كونهما حدودًا فاصلة لقارة أفريقيا عن القارات المجاورة. ( )

(٢) يعتبر المحيط الأطلنطى حدًا طبيعيًا لأربع قارات. ( )

١٢ بم تفسر :

رغم صغر مساحة قارة أستراليا إلا أنها تمتد فى عدد خطوط طول أكثر من قارة أمريكا الجنوبية ؟

.....

.....

١٣ أعط أمثلة لـ : دول جزرية تنتمى لقارات العالم الجديد.

.....

.....

١٤ حدد :

(١) الدول العربية التى تُعد دول جزرية.

.....

.....

(٢) القارات التى يمر بها خط جرينتش.

.....

.....

١٥ دلل جغرافيًا على صحة كل عبارة مما يأتى :

(١) تتميز قارة آسيا بسهولة اتصالها بمعظم قارات العالم.

.....

.....

(٢) تمتلك قارة أنتاركتيكا بعض الخصائص التى تنفرد بها عن باقى قارات العالم.

.....

.....

امتحان ؟ على الدرس الأول

١ (أ) أمامك خريطة للعالم، اكتب مدلول الأرقام التى عليها :

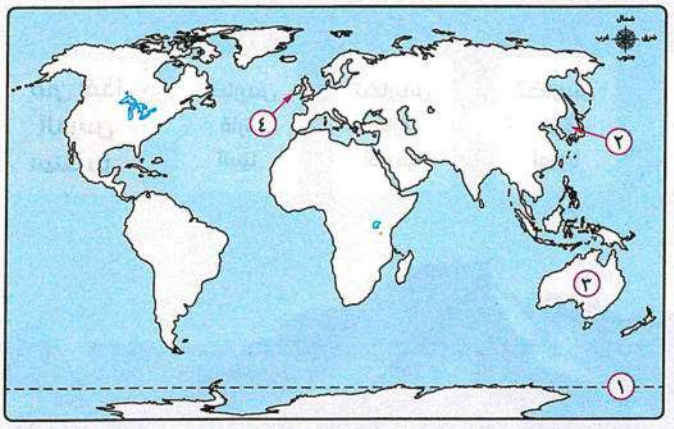

(١) الدائـرة .....

(٢) بحـــر .....

(٣) قـــارة .....

(٤) الجـــزر .....

(ب) صوب ما تحته خط :

(١) تطل قارتى أستراليا وآسيا على السواحل الشرقية للمحيط الأطلنطى. (كفر الشيخ ٢٤)

(٢) من قارات العالم الجديد وتقع بالكامل فى نصف الكرة الأرضية الشرقى قارة أمريكا الشمالية. (القاهرة ٢٣)

(جـ) دلل على صحة كل عبارة مما يأتى :

(١) تضم قارة أفريقيا دول جزرية.

(٢) تعتبر قارة أوروبا شبه جزيرة.

---

٢ (أ) اختر الإجابة الصحيحة مما بين القوسين :

(١) أى من الظواهر التضاريسية التالية يُعد حدًا فاصلًا بين قارتى أوروبا وآسيا ؟ .....

(جبال أورال - بحر آرافورا - البحر المتوسط - المحيط الأطلنطى)

(٢) أى من القارات الآتية تقع بالكامل فى نصف الكرة الأرضية الغربى ؟ قارة .....

(أوروبا - أفريقيا - أستراليا - أمريكا الجنوبية)

(٣) تفصل سواحل غرب أفريقيا عن سواحل شرق الأمريكتين .....

(البحر المتوسط - البحر الأحمر - المحيط الأطلنطى - المحيط الهندى)

(٤) تمر الدائرة القطبية الشمالية بكل من آسيا وأمريكا الشمالية و .....

(أنتاركتيكا - أستراليا - أمريكا الجنوبية - أوروبا) (أسوان ٢٣)

(ب) ما المقصود بـ : موقع جغرافى ؟ (سوهاج ٢٥)

الدرس
الثانى

تضاريـس العالم



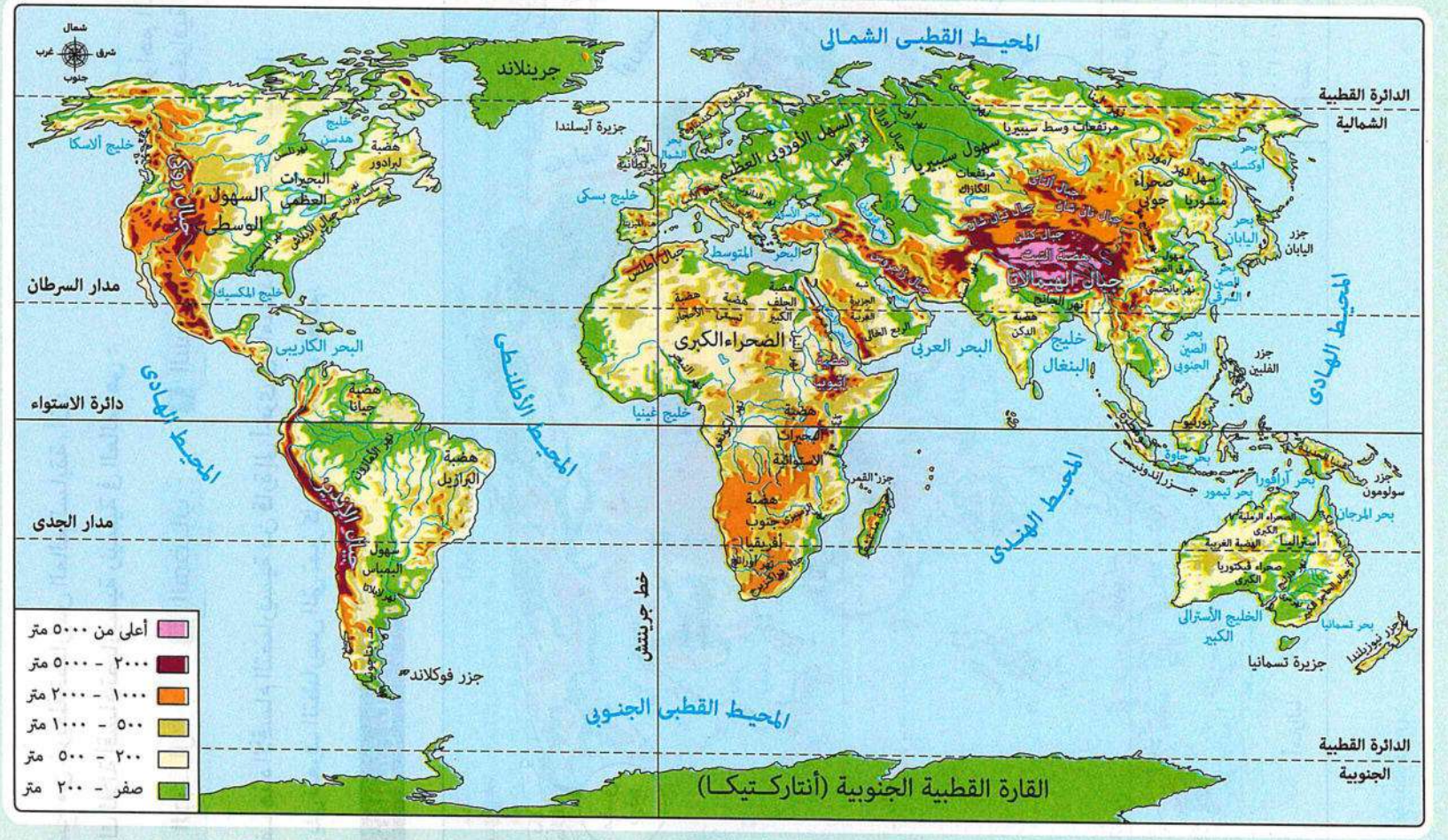

تضاريس العالم

* يتضح من خريطة تضاريس العالم السابقة، أن :

هناك ثلاثة أقسام تضاريسية رئيسية فى العالم، هى :

انظر أهم المفاهيم الجغرافية ص٧

١ الجبـــال ٢ الهضـاب ٣ السهـول

وتختلف هذه الأقسام التضاريسية من قارة إلى أخرى فى : امتدادها، مساحتها، ارتفاعها.

وفيما يلى نتعرف التضاريس التى تميز كل قارة من قارات العالم.

١ تضاريس قارة آسيا

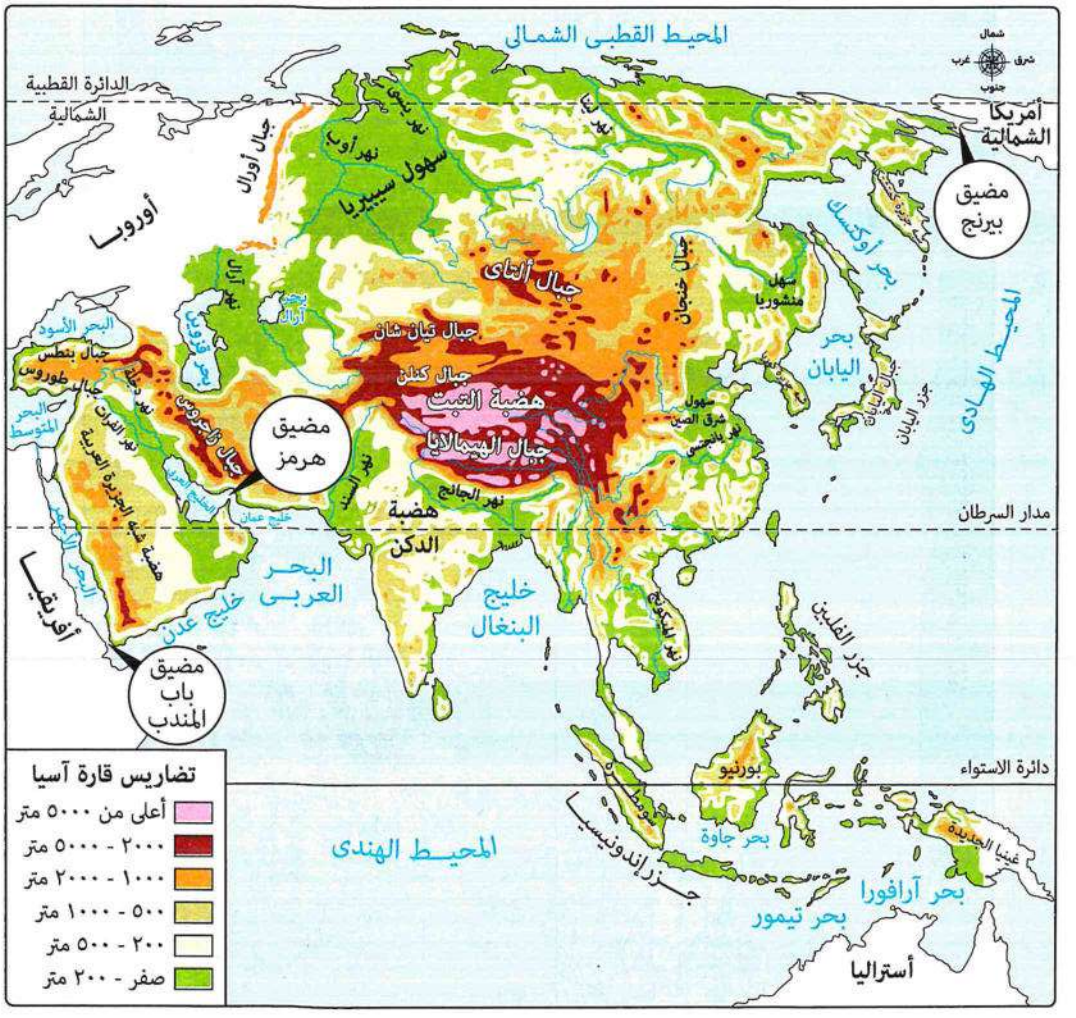



* يتضح من خريطة تضاريس قارة آسيا، أن :

١ الجبـــال

تظهر السلاسل الجبلية الضخمة، ومن أكبرها التى تقع فى :

غـرب القارة منها : • جبال طوروس فى تركيا.
• جبال زاجروس فى العراق وإيران.

وسـط القارة (أعلى جبال العالم) منها : سلسلة جبال الهيمالايا والتى بها قمة إفرست، ارتفاعها أكثر من ٨٨٤٨ مترًا وهى أعلى قمة جبلية فى العالم.

شـرق القارة منها : جبـال اليـابـان.

٢ الهضاب تقـع فـى :

وسـط القارة هضاب تتشابك مع بعضها، من أكبرها هضبة التبت وهى أعلى هضاب العالم، وتُعرف بسقف العالم **بم تفسر؟** بسبب ارتفاعها عن قمم الجبال.

جنوب القارة هضبة الدكن فى وسط الهند.

جنوب غرب القارة هضبة شبه الجزيرة العربية.

معلومة إثرائية
يبلغ متوسط ارتفاع هضبة التبت نحو ٤٥٠٠م فوق مستوى سطح البحر وهى أعلى ارتفاعًا عن جبال طوروس فى تركيا وجبال أطلس شمال غرب أفريقيا.

٣ السهول

سهول ساحلية توجد :
• على طول سواحل المحيطات (القطبى الشمالى والهادى والهندى) والبحار التى تحيط بقارة آسيا.
• متفرقة داخل القارة، مثل : سواحل بحر قزوين.

سهول فيضية منها :
• سهول سيبيريا وهى سهول واسعة تجرى فيها أنهار أوب وينسى ولينا التى تنبع من الجنوب وتصب فى المحيط القطبى الشمالى وتتجمد فى فصل الشتاء (لذلك تفقد أهميتها الاقتصادية) } من السهول الشمالية.
• سهول منشوريا.
• سهول شرق الصين وتجرى فيها عدة أنهار أهمها : نهر اليانجتسى. } من السهول الشرقية.
• سهول نهرى دجلة والفرات : اللذان يصبان فى الخليج العربى.
• سهول نهر السند : الذى يصب فى البحر العربى ومنه إلى المحيط الهندى.

٢ تضاريس قارة أفريقيا

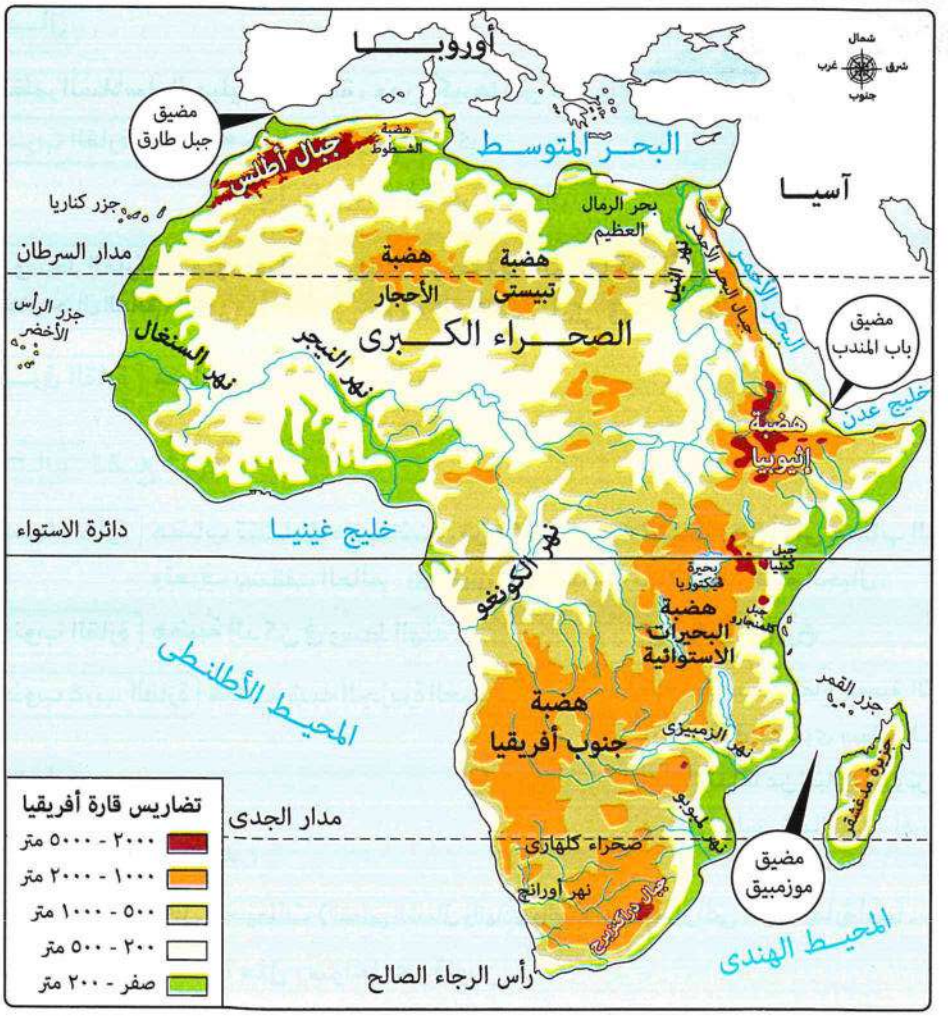

* يتضح من خريطة تضاريس قارة أفريقيا، أن :

١ الجبال تقع فى :

- **أقصى شمال غرب القارة** جبال أطلس وهى سلاسل جبلية تحصر بينها هضبة الشطوط.
- **شمال شرق القارة** جبال البحر الأحمر فى مصر والسودان وأريتريا.
- **شرق القارة** • جبل كينيا. • جبل كلمنجارو.
- **أقصى جنوب شرق القارة** جبال دراكنزبرج.

٢ الهضاب

يسود المظهر الهضبى سطح قارة أفريقيا حيث تشغل الهضاب مساحات واسعة بها والتى تمتد فى :

- **شمال القارة** : هضاب الصحراء الكبرى : ومنها هضبتى الصحراء الشرقية والغربية فى مصر.
- **وسط القارة** : هضبة البحيرات الاستوائية
- **شرق القارة** : هضبة الحبشة (إثيوبيا)

تنبع منهما روافد نهر النيل.

- **جنوب القارة** : هضبة جنوب أفريقيا، ويجرى بها نهرا أورانج ولمبوبو.

٣ السهول

سهول ساحلية

- تمتد على طول سواحل البحرين (المتوسط - الأحمر) والمحيطين (الأطلنطى - الهندى) التى تحيط بأفريقيا.
- تتميز بالضيق بصفة عامة **بم تفسر ؟** بسبب اقتراب حافات الجبال والهضاب من الساحل، ولكنها تتسع عند مصبات الأنهار.

سهول فيضية

- تتميز بجودة التربة وصلاحيتها للزراعة ومن أمثلتها :
  - سهول حوض نهر النيل(*) فى مصر وجمهورية السودان وجمهورية جنوب السودان الذى يصب فى البحر المتوسط.
  - سهول حوض نهر النيجر الذى يصب فى خليج غينيا.
  - سهول حوض نهر الكونغو الذى يصب فى المحيط الأطلنطى.

ما المقصود بـ : حوض النهر ؟

الأرض التى يجرى فيها النهر أو أحد روافده أو تنحدر مياهه إليه.

سهول صحراوية رملية

- السهول التى تنتشر فى الصحراء الكبرى وهى سهول متسعة مثل السهل الممتد بين مصر وليبيا، ويعرف بـ :
  - سهل كلنشو فى ليبيا.
  - بحر الرمال العظيم فى مصر.
- سهول صحراء كلهارى جنوب القارة.

(*) دول حوض النيل : الدول التى يجرى بها نهر النيل وروافده، ويبلغ عددها إحدى عشر دولة هى إثيوبيا، أوغندا، رواندا، بورندى، جمهورية السودان، جمهورية جنوب السودان، تنزانيا، الكونغو، مصر، كينيا، وأريتريا.

٣ تضاريس قارة أوروبا

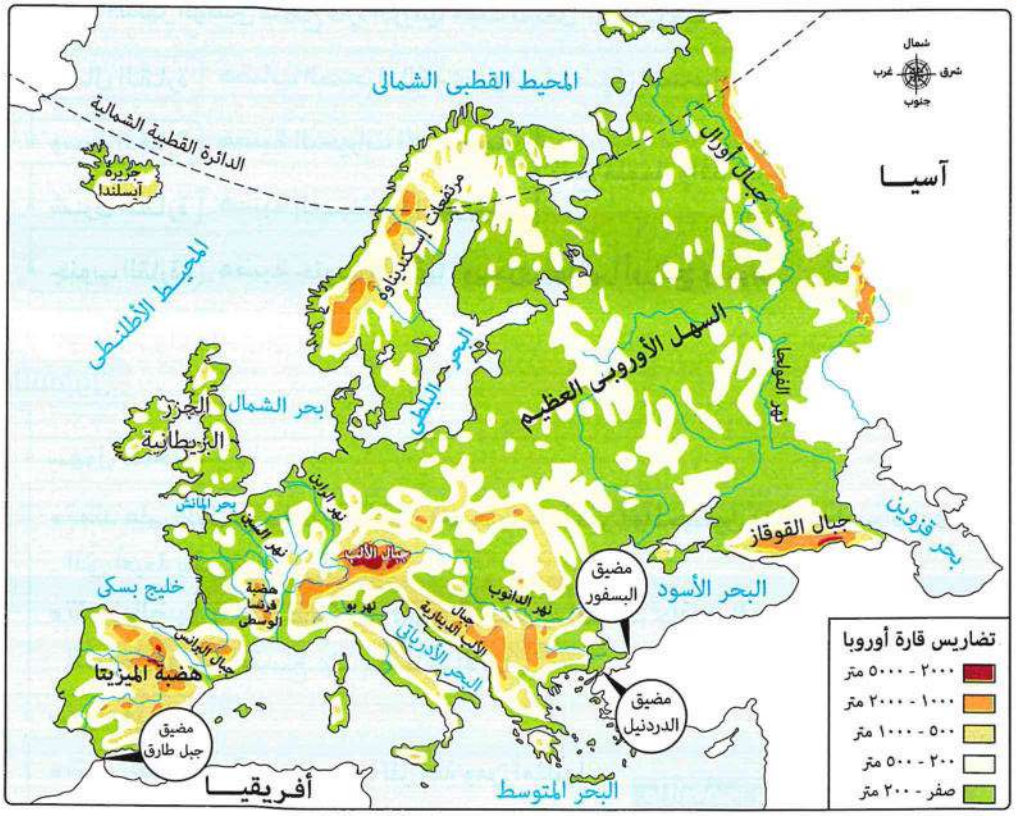

* يتضح من خريطة تضاريس قارة أوروبا، أن :

١ الجبـــال من أهمها :

سلاسل جبال الألب، وهى :

- تمتد فى وسط أوروبا من الغرب إلى الشرق.
- تأخذ مسميات تختلف من دولة لأخرى حيث تعرف بـ :
  - جبال البرانس فى شمال إسبانيا.
  - جبال الألب الدينارية فى شبه جزيرة البلقان.

معلومة إثرائية

جبال أوروبا تتميز بارتفاعها، وتغطية قممها بالجليد شتاءً، كما تفصل بينها أودية تجرى بها الأنهار، مثل : نهرى الراين والدانوب.



٢ الهضاب

- تمتد فى وسط أوروبا من الشرق إلى الغرب وتقطعها أودية نهرية كما تجاورها الجبال.
- من أهمها :
  - هضبة الميزيتا التى تشغل معظم دولة إسبانيا.
  - هضبة فرنسا الوسطى التى تقطعها أنهار مهمة، مثل : نهر السين.

٣ السهول

سهول ساحلية

- تمتد على :
  - سواحل المحيط الأطلنطى والبحر البلطى وبحر الشمال فى الغرب والشمال الغربى.
  - سواحل البحر المتوسط فى الجنوب.
- تتميز باتساعها وتعرجها **ما النتائج ؟** مما أدى إلى إنشاء الموانئ بها.

سهول فيضية

السهل الأوروبى العظيم، الذى :

- يمتد من المحيط الأطلنطى غربًا حتى جبال الأورال شرقًا.
- يوجد به المدن الأوروبية الرئيسية، مثل : باريس وبرلين.
- يتكون معظمه من رواسب طينية تمثل تربة جيدة صالحة للزراعة كونتها الأنهار، ومن أهم هذه الأنهار:
  - نهر الفولجا (أطول أنهار أوروبا) الذى يصب فى بحر قزوين.
  - نهر الراين الذى يصب فى بحر الشمال.
  - نهر الدانوب الذى يصب فى البحر الأسود.



التدريب الأول

١ أمامك عدة ظواهر جغرافية اكتب رقم كل ظاهرة منها فى القارة التى تقع بها كما موضح بالمثال :

(١) جبال البرانس. (٢) جبال الهيمالايا.
(٣) سهول منشوريا. (٤) هضبة التبت.
(٥) جبل كينيا. (٦) جبال الألب الدينارية.
(٧) سهول حوض نهر الكونغو.
(٨) نهر الراين. (٩) نهر لمبوبو.
(١٠) هضبة الدكن. (١١) نهر الدانوب.
(١٢) جبال زاجروس. (١٣) جبال أطلس.
(١٤) سهول نهر السند. (١٥) هضبة الميزيتا.
(١٦) نهر دجلة. (١٧) سهل كلنشو.
(١٨) نهر الفولجا.

قارة آسيا

(٢)، .....
.....

قارة أفريقيا

.....
.....

قارة أوروبا

.....
.....

٢ اختر الإجابة الصحيحة مما بين القوسين :

(١) من الأنهار التى تجرى فى شرق آسيا نهر ..... (دجلة - الفرات - السند - اليانجتسى)

(٢) تقع هضبة شبه الجزيرة العربية بالنسبة لآسيا فى الركن .....

(الشمال الغربى - الجنوب الغربى - الشمال الشرقى - الجنوب الشرقى)

(٣) أى من الأنهار التالية تقطع هضبة فرنسا الوسطى بقارة أوروبا ؟ نهر .....

(الراين - السين - الدانوب - الفولجا)

٣ دلل على صحة العبارة التالية : يؤثر المناخ على القيمة الاقتصادية للأنهار فى السهول الشمالية بآسيا.

.....
.....

٤ ما تقييمك لمصداقية العبارة التالية : تمتلك قارة آسيا سهول ساحلية داخلية ؟

.....
.....

٥ ما العلاقة بين : نهر النيل، وهضاب شرق ووسط أفريقيا ؟

.....
.....

يمكنك حل

أسئلة تفاعلية إلكترونيًّا

عن طريق :

QR Code

الخاص بأسئلة كل درس



1 قم بتحميل أحد تطبيقات QR code reader

على هاتفك الذكى

Available on the App Store

Google play

2 افتح التطبيق وامسح QR code باستخدام الكاميرا الخاصة بالهاتف وابدأ حل الأسئلة مباشرة

٤ تضاريس قارة أمريكا الشمالية

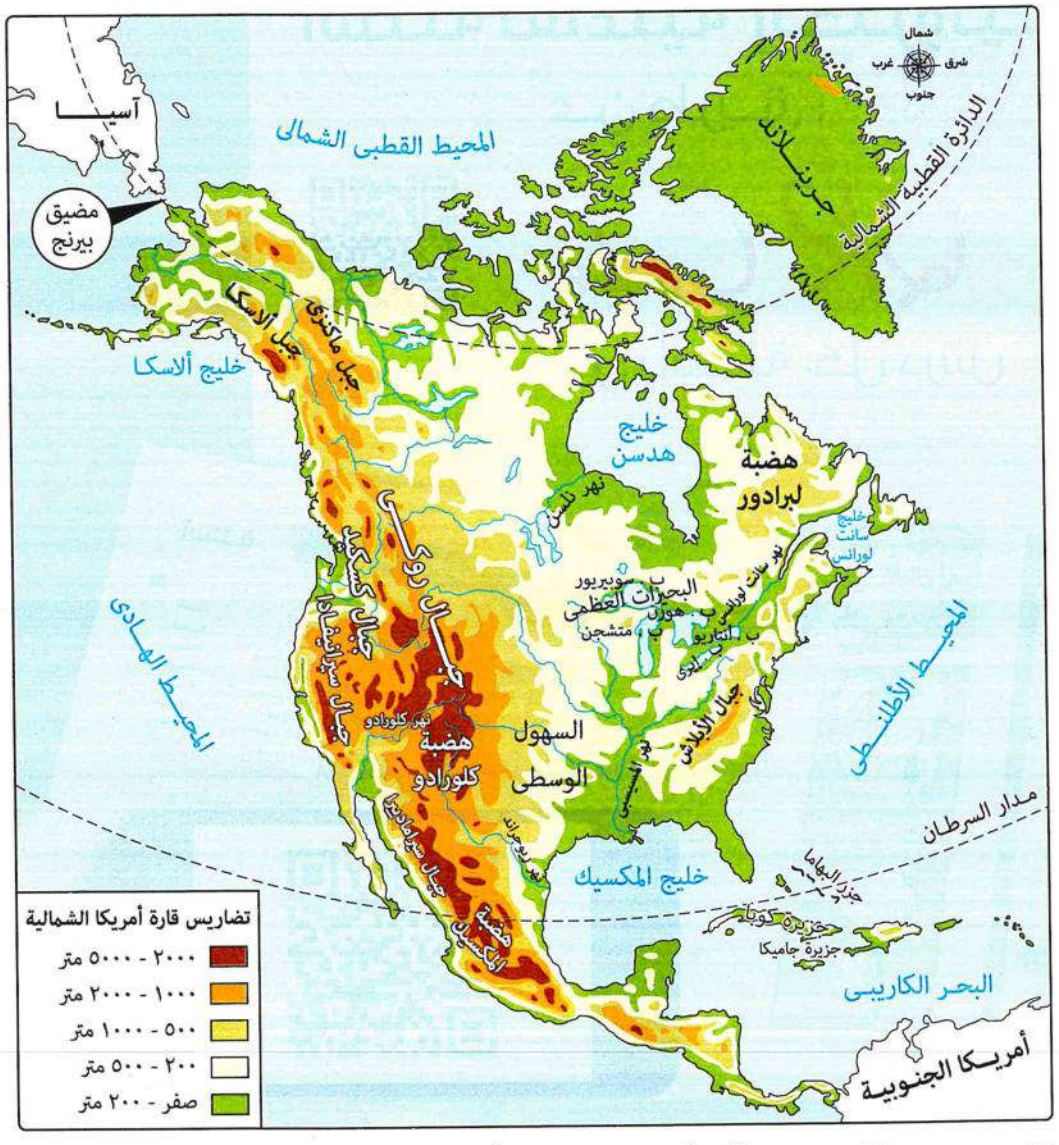

* يتضح من خريطة تضاريس قارة أمريكا الشمالية، أن :

١ الجبـــال أهمها التى توجد فى :

- **شـرق القارة** سلاسل جبال الأبلاش.
- **غرب القارة** سلاسل جبال روكى أعلى جبال أمريكا الشمالية، ويغطى قممها الجليد فى فصل الشتاء.



٢ الهضـاب التى تقع فى :

- **جنـوب القـارة** هضبة المكسيك.
- **شمال شرق القارة** هضبة لبرادور.

٣ السهول تتمثل فى :

- **سهول ساحلية** تمتد على :
  - ساحل المحيط الأطلنطى فى الشرق وخليج المكسيك فى الجنوب الشرقى.
  - ساحل خليج هدسن فى شمال شرق القارة.
  - ساحل المحيط الهادى فى الغرب (وهى سهول ضيقة).
- **سهول فيضية** «السهول الوسطى»
  - تتعدد خصائصها حيث :
    - تمتد من المحيط القطبى الشمالى شمالًا إلى خليج المكسيك جنوبًا.
    - تتسع بوسط أمريكا الشمالية إلى الشرق من جبال روكى.
    - يغطى الجليد أطرافها الشمالية.
    - يوجد بها البحيرات العظمى فى كندا، والولايات المتحدة الأمريكية.
  - أهمها :
    - **سهول نهر نلسن** : الذى يصب فى خليج هدسن
    - **سهول نهر سانت لورانس** : الذى يصب فى خليج سانت لورانس

    } فى شمال شرق القارة.
    - **سهول نهر المسيسبى** : الذى يصب فى خليج المكسيك، وتمتد هذه السهول فى جنوب القارة حيث الأراضى الزراعية.



شلالات نياجرا (بالبحيرات العظمى)

معلومة إثرائية

البحيرات العظمى : بحيرات عذبة توجد معظمها بين كندا والولايات المتحدة الأمريكية وهى سوبيريور، وهورن، وأنتاريو، وإيرى، أما بحيرة متشجن فتوجد بأكملها فى الولايات المتحدة الأمريكية، وتوجد عليها بعض المدن الصناعية، منها شيكاغو، وديترويت.

٥ تضاريس قارة أمريكا الجنوبية

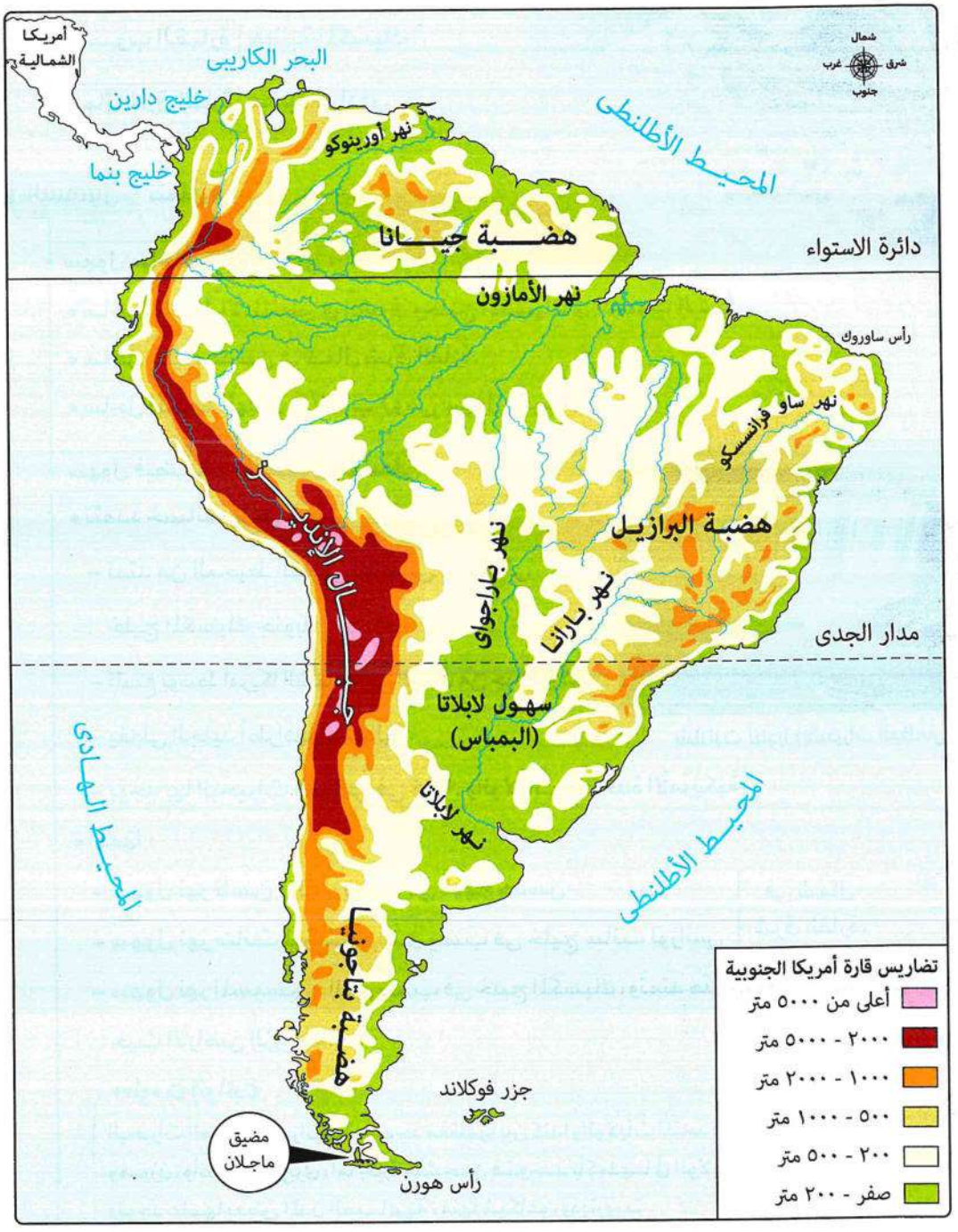



* يتضح من خريطة تضاريس قارة أمريكا الجنوبية، أن :

١ الجبـــال أهمها :

جبال الإنديز، وهى :

- سلاسل جبلية مرتفعة فى غرب القارة قرب سواحل المحيط الهادى.
- تمتد من الشمال حتى الأطراف الجنوبية للقارة.

٢ الهضاب تكثر الهضاب شرق جبال الإنديز، ومنها :

- **هضبة جيانا** شمال القارة.
- **هضبة البرازيل** شرق القارة وهى أكبر هضاب القارة وأكثرها ارتفاعًا.
- **هضبة بتاجونيا** جنوب القارة وهى أصغر هضاب القارة مساحة.

٣ السهول

سهول ساحلية تمتد على :

- ساحل المحيط الهادى فى غرب أمريكا الجنوبية وهى سهول تتميز بالضيق **بم تفسر؟** بسبب اقتراب جبال الإنديز من ساحل المحيط الهادى.
- ساحل المحيط الأطلنطى فى شرق وشمال أمريكا الجنوبية وهى سهول تتميز بالاتساع.

سهول فيضية تتمثل فى :

- **سهول نهر أورينوكو فى الشمال :** الذى يصب فى البحر الكاريبى ومنه إلى المحيط الأطلنطى.
- **سهول حوض نهر الأمازون :**
  - أوسع سهول فيضية فى العالم.
  - يجرى فيها نهر الأمازون بروافده العديدة ويصب فى المحيط الأطلنطى.
- **سهول نهر لابلاتا (البمباس) :**
  - تمتد من الشمال إلى الجنوب.
  - تجرى بها أنهار بارانا وباراجواى ولابلاتا (*) التى تصب فى المحيط الأطلنطى.



نهر الأمازون

(*) يعتبر نهرا بارانا وباراجواى رافدين لنهر لابلاتا الذى يصب فى المحيط الأطلنطى.

٦ تضاريس قارة أستراليا (الأوقيانوسية)

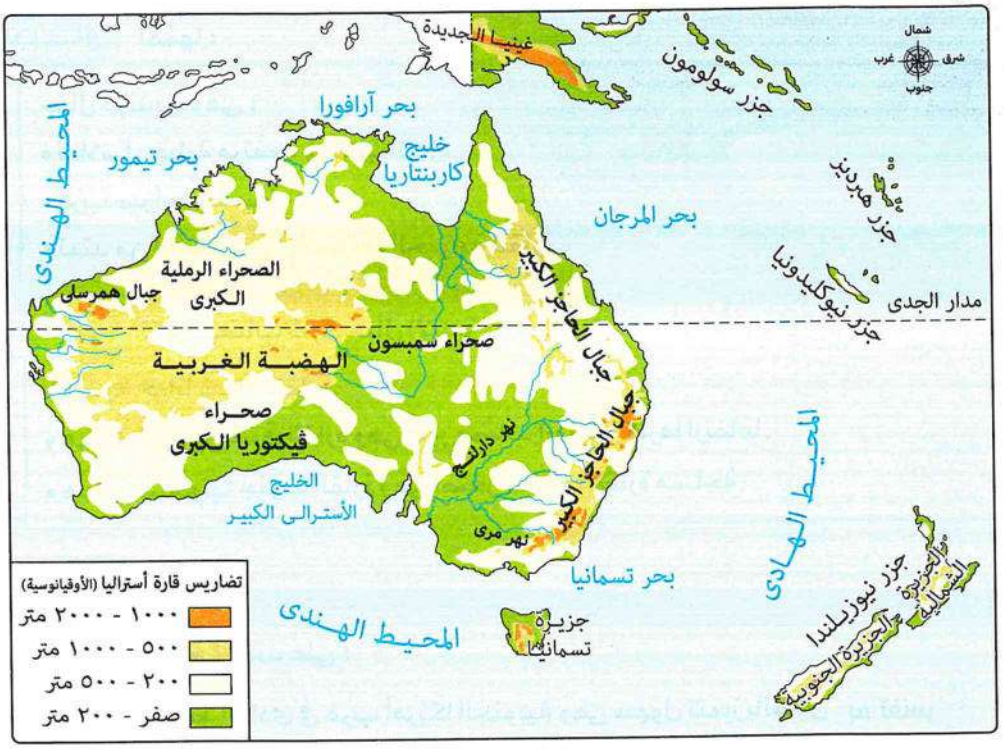

* يتضح من خريطة تضاريس قارة أستراليا (الأوقيانوسية)، أن :

١ الجبـــال من أهمها :

جبال الحاجز الكبير (الألب الأسترالية) :

- تمتد على طول الساحل الشرقى لقارة أستراليا فى شكل قوس وتنقسم إلى قسمين :
  - الحاجز الكبير فى الجنوب.
  - الحاجز الكبير فى الشمال الشرقى.
- تتميز بارتفاعها، كما تقطعها بعض الأنهار.

٢ الهضـاب

الهضبة الغربية :

- تشغل نصف مساحة القارة.
- يتميز معظم سطحها بالاستواء.

تضاريس قارة أستراليا تشبه تضاريس قارة أفريقيا حيث يسودهما المظهر الهضبى.

٣ السهول

سهول ساحلية

- تتسع فى الشمال والغرب والجنوب.
- تضيق فى الشرق **بم تفسر؟** بسبب اقتراب جبال الحاجز الكبير من ساحل المحيط الهادى.

سهول فيضية

سهول متسعة يجرى بها نهرا مرى ودارلنج ويصبان فى الخليج الأسترالى الكبير، وتُعد سهول زراعية وتوجد بها الكثير من المدن المهمة.

سهول صحراوية

- توجد فى داخل وغرب القارة.
- عبارة عن صحارى رملية تقل بها موارد المياه.

التدريب الثانى

١ أمامك عدة ظواهر جغرافية اكتب رقم كل ظاهرة منها فى القارة التى تقع بها كما موضح بالمثال :

(١) جبال الحاجز الكبير.
(٢) نهر دارلنج.
(٣) هضبة بتاجونيا.
(٤) جبال الأبلاش.
(٥) جبال الإنديز.
(٦) نهر سانت لورانس.
(٧) هضبة لبرادور.
(٨) نهر مرى.
(٩) جبال روكى.
(١٠) هضبة جيانا.
(١١) نهر الأمازون.
(١٢) سهول نهر المسيسبى.

قارة أمريكا الشمالية

(٤)، .....
.....

قارة أمريكا الجنوبية

.....
.....

قارة أستراليا

.....
.....

٢ ما تقييمك لمصداقية العبارة التالية :

تقل القيمة الاقتصادية للسهول الفيضية فى شمال قارة أمريكا الشمالية عن جنوبها ؟

.....

٣ بم تفسر : التناقض بين السهول الساحلية الغربية والسهول الساحلية الشرقية فى أستراليا ؟

.....

٤ حدد وجه الشبه بين : تضاريس قارة أمريكا الشمالية، وتضاريس قارة أمريكا الجنوبية.

.....
.....

يقصد بـ :

حوض النهر : الأرض التى يجرى فيها النهر أو أحد روافده أو تنحدر مياهه إليه.

أهم نقاط الدرس

	الجبال	الهضاب	السهول	الأنهار
آسيا 	* جبال طوروس. * جبال زاجروس. * جبال الهيمالايا (من أعلى جبال العالم وبها قمة إفرست أعلى قمة جبلية بالعالم). * جبال اليابان.	* هضبة التبت (أعلى هضاب العالم وتعرف بسقف العالم). * هضبة الدكن. * هضبة شبه الجزيرة العربية.	*** سهول ساحلية :** • تمتد على طول سواحل المحيطات والبحار التى تحيط بالقارة. • داخلية متفرقة، مثل: سواحل بحر قزوين. *** سهول فيضية، ومنها :** • سهول سيبيريا (تفقد أهميتها الاقتصادية شتاءً). • سهول منشوريا. • سهول شرق الصين. • سهول نهرى دجلة والفرات. • سهول نهر السند.	* أوب. * ينسى. * لينا. * اليانجتسى. * دجلة. * الفرات. * السند.
أفريقيا 	* جبال أطلس. * جبال البحر الأحمر. * جبل كينيا. * جبل كلمنجارو. * جبال دراكنزبرج.	هضاب الصحراء الكبرى، ومنها : هضبتى الصحراء الشرقية والغربية فى مصر. * هضبة البحيرات الاستوائية. * هضبة الحبشة (إثيوبيا). (تنبع منهما روافد نهر النيل) * هضبة جنوب أفريقيا.	*** سهول ساحلية تتسم بالضيق بصفة عامة، وتمتد على سواحل :** • المحيطين (الأطلنطى والهندى) • البحرين (الأحمر والمتوسط). *** سهول فيضية، ومنها :** • سهول حوض نهر النيل. • سهول حوض نهر النيجر. • سهول حوض نهر الكونغو. *** سهول صحراوية رملية، ومنها :** • السهول التى تنتشر بالصحراء الكبرى، مثل : السهل الممتد بين مصر وليبيا ويعرف بـ: – سهل كلنشو فى ليبيا. – بحر الرمال العظيم فى مصر. • سهول صحراء كلهارى.	* النيل. * النيجر. * الكونغو. * أورانج. * لمبوبو.
أوروبا 	*** سلاسل جبال الألب، وتعرف بـ:** • جبال البرانس فى شمال إسبانيا. • جبال الألب الدينارية فى شبه جزيرة البلقان.	* هضبة الميزيتا (تشغل معظم دولة إسبانيا). * هضبة فرنسا الوسطى.	*** سهول ساحلية، تمتد على سواحل :** • المحيط الأطلنطى. • البحر البلطى. • بحر الشمال. • البحر المتوسط. *** سهول فيضية :** السهل الأوروبى العظيم.	* الفولجا. * الراين. * الدانوب. * السين.

	الجبال	الهضاب	السهول		الأنهار
أمريكا الشمالية 	* جبال الأبلاش. * جبال روكى (أعلى جبال القارة).	* هضبة المكسيك. * هضبة لبرادور.	* سهول ساحلية، تمتد على سواحل : • المحيط الأطلنطى. • خليج المكسيك. • خليج هدسن. • المحيط الهادى (سهول ضيقة).	* سهول فيضية، (السهول الوسطى) وأهمها : • سهول نهر نلسن. • سهول نهر سانت لورانس. • سهول نهر المسيسبى.	* نلسن. * سانت لورانس. * المسيسبى.
أمريكا الجنوبية 	* جبال الإنديز.	* هضبة جيانا. * هضبة البرازيل (أكبر هضاب القارة وأكثرها ارتفاعًا). * هضبة بتاجونيا (أصغر هضاب القارة).	* سهول ساحلية، تمتد على سواحل : • المحيط الهادى (سهول ضيقة). • المحيط الأطلنطى.	* سهول فيضية، ومنها : • سهول نهر أورينوكو. • سهول نهر الأمازون (أوسع سهول فيضية فى العالم). • سهول لابلاتا «البمباس».	* أورينوكو. * الأمازون. * بارانا. * باراجواى. * لابلاتا.
أستراليا (الأوقيانوسية) 	* جبال الحاجز الكبير (الألب الأسترالية).	* الهضبة الغربية.	* سهول ساحلية : • متسعة فى الشمال والغرب والجنوب. • ضيقة فى الشرق على سواحل المحيط الهادى.	* سهول فيضية : سهول نهرا مرى ودارلنج. * سهول صحراوية : فى داخل وغرب القارة.	* مرى. * دارلنج.

أسئلة على الدرس الثانى

أسئلة تفاعلية

● تذكر ● فهم ○ تطبيق مستويات عليا

١ أمامك خرائط لقارات العالم، أجب حسب المطلوب :

● (أ) آسيا :

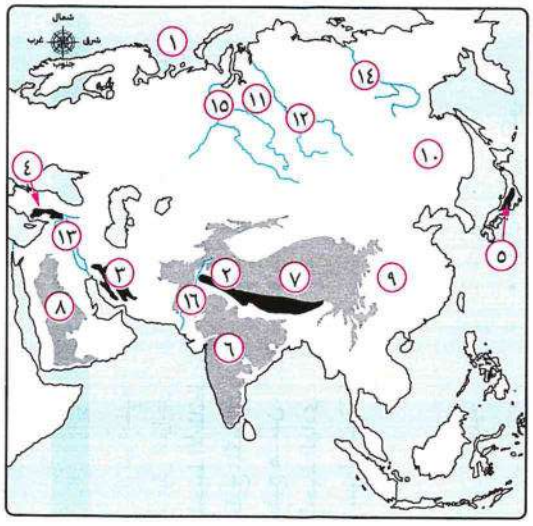

(١) المحيط ..... (٢) جبال .....

(٣) جبال ..... (٤) جبال .....

(٥) جبال ..... (٦) هضبة .....

(٧) هضبة ..... (٨) هضبة .....

(٩) سهول ..... (١٠) سهل .....

(١١) سهول ..... (١٢) نهر .....

(١٣) نهرا ..... (١٤) نهر .....

(١٥) نهر ..... (١٦) نهر .....

● (ب) أفريقيا :

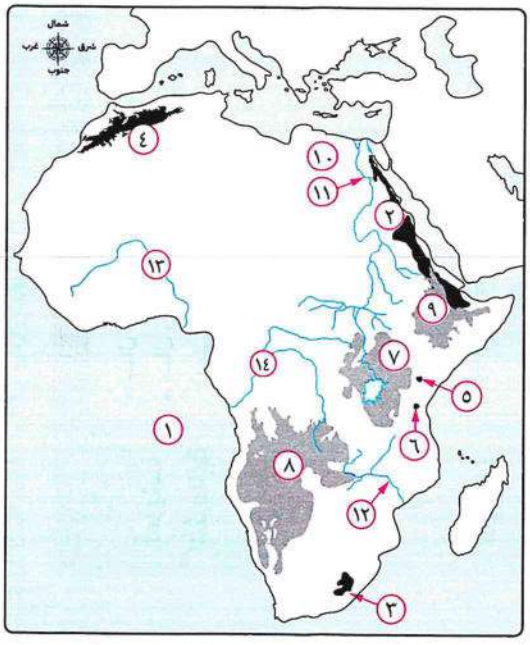

(١) المحيط ..... (٢) جبال .....

(٣) جبال ..... (٤) جبال .....

(٥) جبل ..... (٦) جبل .....

(٧) هضبة ..... (٨) هضبة .....

(٩) هضبة .....

(١٠) سهل صحراوى .....

(١١) نهر .....

(١٢) نهر .....

(١٣) نهر .....

(١٤) نهر .....

(جـ) أوروبا :

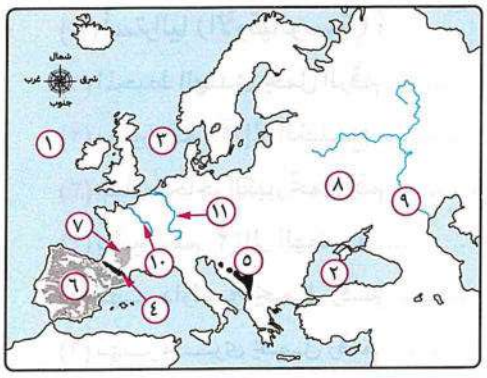

(١) المحيط ..... (٢) البحـر .....

(٣) بحـــر ..... (٤) جبـال .....

(٥) جـبـال ..... (٦) هضبة .....

(٧) هضبـة ..... (٨) السهل .....

(٩) نـهـــر ..... (١٠) نـهـر .....

(١١) نـهـر .....

(د) أمريكا الشمالية :

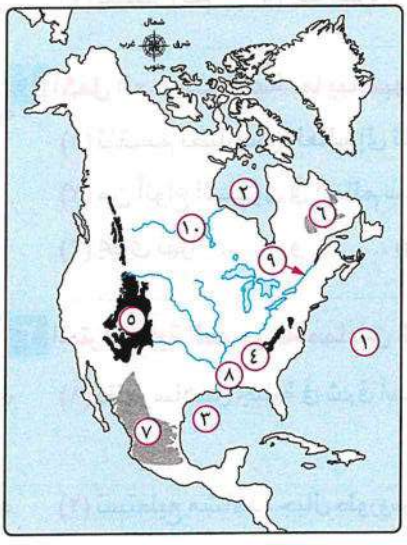

(١) المنطقة المظللة برقم (٧) تمثل .....

(٢) يتمثـل خليـج المكسيـك فى رقـم .....

(٣) هضبـة لـبرادور تتمثـل فى رقـم .....

(٤) أعلى جبـال القـارة يمثلها رقـم .....

(٥) جبـــال الأبـــلاش يمثلها رقـم .....

(٦) نهـر نـلسـن يتمثـل فى رقـم .....

(٧) حوض نهر المسيسبى يمثله رقـم .....

(٨) يـشـــير رقـــم (٩) إلـى نـهـــر .....

(٩) خليـج هدسـن يشـير إليـه رقـم .....

(هـ) أمريكا الجنوبية :



(١) المحيط .....

(٢) المحيط .....

(٣) جبـــال .....

(٤) هضبـة .....

(٥) هضبـة .....

(٦) سهـول .....

(٧) نـهـــر .....

(٨) نـهـــر .....

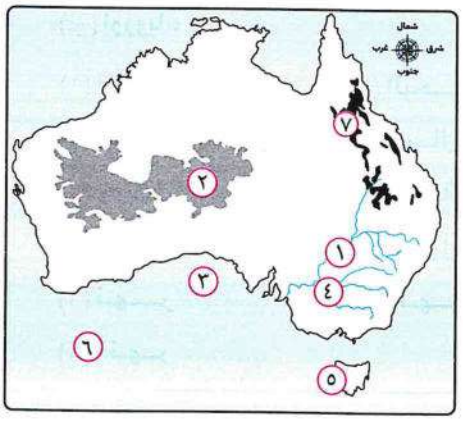

(و) أستراليا (الأوقيانوسية) :

(١) المحيط الهندى يحمل الرقم .....

(٢) يشير رقم (٣) إلى الخليج .....

(٣) جبال الحاجز الكبير تحمل رقم .....

(٤) يشير رقم (٢) إلى الهضبة .....

(٥) نهر دارلنج يحمل رقم .....

(٦) نهر مرى يحمل رقم .....

(٧) يشير رقم (٥) إلى جزيرة .....

٢ أكمل العبارات الآتية بما يناسبها :

(١) تنقسم تضاريس العالم إلى ثلاثة أقسام هى ..... و..... و.....

(٢) من أنواع السهول فى العالم سهول ..... و..... و.....

(٣) يجرى نهرا ..... و..... بهضبة جنوب أفريقيا.

٣ اختر الإجابة الصحيحة مما بين القوسين :

(١) تظهر سلاسل جبلية فى شرق آسيا منها جبال .....

(الهيمالايا - زاجروس - اليابان - طوروس) (البحيرة ٢٤)

(٢) تستطيع مشاهدة جبال طوروس إذا زرت دولة ..... (الهند - اليابان - إيران - تركيا) (الجيزة ٢٣)

(٣) جبال تقع غرب آسيا وتمتد فى العراق وإيران ..... (الهيمالايا - خنجان - طوروس - زاجروس)

(٤) تقع أعلى هضبة فى العالم بقارة ..... (أفريقيا - أوروبا - أستراليا - آسيا) (الغربية ٢٤)

(٥) تقع فى وسط دولة الهند هضبة ..... (التبت - الدكن - الميزيتا - بتاجونيا)

(٦) تصب أنهار سهول سيبيريا فى المحيط .....

(الهادى - الهندى - القطبى الشمالى - القطبى الجنوبى) (الغربية ١٧)

(٧) الجبال التى تقع فى أقصى الجنوب الشرقى لقارة أفريقيا هى .....

(جبل كينيا - جبل كلمنجارو - جبال البحر الأحمر - جبال دراكنزبرج) (البحيرة ٢٥)

(٨) تمتد فى وسط قارة أفريقيا ..... (هضاب الصحراء الكبرى - هضبة الحبشة - هضبة البحيرات الاستوائية - هضبة الشطوط) (الغربية ٢٠)

(٩) تمتد سهول بحر الرمال العظيم غرب دولة ..... (أريتريا - ليبيا - مصر - السودان) (البحيرة ١٧)

(١٠) يُعد سهل كلنشو فى ليبيا ظاهرة تضاريسية تتبع السهول .....
(الساحلية - الفيضية - الصحراوية - الجليدية) (بورسعيد ٢٤)

(١١) توجد جبال الألب الدينارية فى .....
(إسبانيا - بريطانيا - شبه جزيرة البلقان - فرنسا) (البحيرة ٢٢)

(١٢) تشغل هضبة الميزيتا معظم دولة ..... (إسبانيا - فرنسا - آيسلندا - بريطانيا)

(١٣) نهر يجرى فى قارة أوروبا ويصب فى البحر الأسود .....
(السين - الدانوب - الفولجا - الراين) (الأقصر ٢٤)

(١٤) يصب أطول أنهار قارة أوروبا فى .....
(بحر الشمال - بحر قزوين - البحر الأسود - البحر البلطى) (الإسماعيلية ٢٤)

(١٥) تعرف جبال الألب فى شمال إسبانيا بجبال .....
(البرانس - الألب الدينارية - إسكندیناوه - أورال) (الإسكندرية ٢٢)

(١٦) هضبة تقع فى الشمال الشرقى من قارة أمريكا الشمالية .....
(كلورادو - المكسيك - لبرادور - جيانا) (الفيوم ٢٤)

(١٧) تقع هضبة ..... فى شمال أمريكا الجنوبية. (البرازيل - بتاجونيا - جيانا - لبرادور) (ش. سيناء ٢٠)

(١٨) توجد أوسع سهول فيضية فى العالم بقارة .....
(أفريقيا - آسيا - أمريكا الجنوبية - أمريكا الشمالية) (سوهاج ٢٤)

(١٩) يصب نهر لابلاتا فى .....
(الخليج العربى - المحيط الهندى - المحيط الهادى - المحيط الأطلنطى) (السويس ٢٤)

(٢٠) تمتد على طول الساحل الشرقى للقارة الأوقيانوسية جبال .....
(أطلس - الهيمالايا - الحاجز الكبير - الألب الدينارية)

(٢١) أى من الأنهار التالية يختلف فى الامتداد تبعًا لانحدار السطح ؟ .....
(بارانا - المسيسبى - أوب - باراجواى) (بورسعيد ٢٣)

(٢٢) تتسم السهول الساحلية المطلة على المحيط الهادى بالضيق بالقارات الآتية، ولكن يخرج عنها قارة ..... (أستراليا - آسيا - أمريكا الشمالية - أمريكا الجنوبية)

٤ أين يصب كل نهر من الأنهار الآتية ... ؟

(١) الفرات. (بورسعيد ١٨) (.....) (٢) السند. (المنيا ٢٤) (.....)

(٣) الراين. (بنى سويف ٢٠) (.....) (٤) بارانا. (المنيا ٢٤) (.....)

(٥) باراجواى. (.....) (٦) مرى ودارلنج. (المنيا ٢٤) (.....)

٥ اكتب كلمة (صواب) أمام العبارة الصحيحة، وكلمة (خطأ) أمام العبارة غير الصحيحة، مع ذكر السبب فى الحالتين :

(١) تجرى أنهار أوب وينسى ولينا فى سهول آسيا الجنوبية. ( )

(٢) أعلى قمة فى العالم قمة إفرست وتقع بقارة أفريقيا. ( )

(٣) من جبال قارة أفريقيا جبال أطلس وجبال البحر الأحمر وجبل كلمنجارو. ( )

(٤) تدخل هضبة البحيرات الاستوائية ضمن حدود حوض نهر النيل. (الشرقية ٢٤) ( )

(٥) تنتشر سهول صحراء كلهارى غرب قارة أفريقيا. ( )

(٦) تمتد سلاسل جبال الألب بقارة أوروبا باتجاه عام من الشرق إلى الغرب. (ش. سيناء ١٩) ( )

(٧) تحاط قارة أوروبا بالسهول الساحلية من جميع الجهات. ( )

(٨) يوجد بالسهل الأوروبى العظيم عدة مدن رئيسية. ( )

(٩) توجد سلاسل جبال روكى فى شرق قارة أمريكا الشمالية. (بورسعيد ١٨) ( )

(١٠) تمتد البحيرات العظمى فى كل من الولايات المتحدة الأمريكية والمكسيك. (الغربية ٢٢) ( )

(١١) تنتهى السهول الفيضية الوسطى بقارة أمريكا الشمالية فى الجنوب بسهول نهر سانت لورانس. (الغربية ٢٤) ( )

(١٢) توجد سهول نهر نلسن فى الشمال الغربى لأمريكا الشمالية. (القاهرة ٢٥) ( )

(١٣) تمتد سلاسل جبال الإنديز من الشمال حتى الأطراف الجنوبية غرب قارة أمريكا الشمالية. ( )

(١٤) توجد فى قارة أستراليا سهول ضيقة تجرى بها أودية نهرية أهمها نهرا مرى ودارلنج. ( )

٦ اكتب ما تشير إليه كل عبارة مما يأتى :

(١) إحدى قارات العالم القديم ويسود معظم سطحها المظهر الهضبى. (المنوفية ٢٤) (.....)

(٢) الأرض التى يجرى فيها النهر أو أحد روافده أو تنحدر مياهه إليه. (السويس ٢٣) (.....)

(٣) سهل فيضى يمتد فى أوروبا من سواحل المحيط الأطلنطى غربًا حتى جبال أورال شرقًا. (القاهرة ٢٠) (.....)

(٤) أصغر هضاب قارة أمريكا الجنوبية مساحة. (الأقصر ٢٣) (.....)

٧ بم تفسر... ؟

(١) تعرف هضبة التبت بسقف العالم. (المنوفية ٢٤)

.....

(٢) تفقد أنهار أوب وينسى ولينا أهميتها الاقتصادية فى فصل الشتاء. (الإسكندرية ٢٥)

.....

(٣) أهمية هضبتى الحبشة والبحيرات الاستوائية لمصر. (بنى سويف ٢٥)

.....

(٤) تتميز السهول الساحلية بقارة أفريقيا بشكل عام بالضيق. (الغربية ٢٣)

.....

(٥) سهولة إنشاء الموانئ بالسهول الساحلية فى قارة أوروبا. (سوهاج ١٦)

.....

(٦) الأهمية الاقتصادية للسهل الأوروبى العظيم. (دمياط ٢٤)

.....

(٧) ضيق السهول الساحلية فى غرب قارة أمريكا الجنوبية. (الغربية ٢٥)

.....

٨ حدد الأثر الناتج عن : اقتراب جبال الحاجز الكبير من المحيط الهادى بقارة أستراليا. (الإسكندرية ٢٥)

.....

٩ حدد أوجه التشابه بين : تضاريس قارة أفريقيا، وتضاريس قارة أستراليا. (القاهرة ٢٥)

.....

١٠ قارن بين :

(١) السهول الفيضية فى آسيا، والسهول الفيضية فى أفريقيا.

.....

.....

(٢) الجبال فى أمريكا الشمالية، والجبال فى أمريكا الجنوبية.

.....

.....

(٣) السهول الفيضية فى قارة أوروبا، والسهول الفيضية فى قارة أمريكا الشمالية، من حيث :

* الامتداد. * أهم الأنهار. (القليوبية ٢٥)

.....

.....

.....

١١ ماذا يحدث إذا : كانت سواحل قارة أفريقيا تتمتع بمميزات سواحل قارة أوروبا ؟ (الجيزة ٢٥)

.....

١٢ دلل جغرافيًا على صحة كل عبارة من العبارات الآتية :

(١) تتميز قارة آسيا بظواهر تضاريسية تميزها عن باقى قارات العالم.

.....

(٢) تضم قارة أفريقيا الأنواع الرئيسية للسهول.

.....

(٣) يسود المظهر الهضبى سطح أفريقيا. (السويس ٢٥)

.....

(٤) تتعدد الهضاب شرق جبال الإنديز بقارة أمريكا الجنوبية. (البحيرة ٢٥)

.....

أسئلة للتميز

١٣ استعن بالخريطة صفحة ٣٣ واختر الإجابة الصحيحة مما بين القوسين :

(١) الجبال التى تمتد جنوب غرب قارة أوروبا وتفصل بين فرنسا وإسبانيا هى جبال .....

(أورال - البرانس - الألب - الهيمالايا)

(٢) أطول امتداد للجبال بقارة أمريكا الشمالية يوجد فى جهتها .....

(الشرقية - الغربية - الشمالية - الجنوبية)

(٣) يتشابه نهر المسيسبى فى الاتجاه جنوبًا مع نهر..... (النيل - ينسى - السند - نلسن)

(٤) يصب نهر الكونغو فى نفس المسطح المائى الذى يصب فيه نهر .....

(المسيسبى - دارلنج - الأمازون - دجلة)

(٥) يظهر إلى الغرب من بحر اليابان .....

(جبال اليابان - سهول منشوريا - جبال الأورال - هضبة الدكن)

(٦) يوجد أعلى جزء من اليابس فى الجزء ..... من الكرة الأرضية.

(الشمالى الشرقى - الشمالى الغربى - الجنوبى الشرقى - الجنوبى الغربى)

(٧) تنحدر أنهار سهول لابلاتا نحو .....

(الشمال الشرقى - الجنوب الشرقى - الشمال الغربى - الجنوب الغربى)

(٨) من الهضاب الملاصقة للجبال هضبتى .....

(التبت والميزيتا - جيانا ولبرادور - البرازيل والمكسيك - الدكن ولبرادور)

(٩) تُعد سهول حوض نهر الأمازون أوسع سهول نهرية فى العالم بسبب .....

(طول النهر - شدة انحداره - تعدد روافده - انتشار الغابات)

(١٠) السهول الفيضية الشمالية فى قارة آسيا تتشابه مع السهول الفيضية الشمالية لقارة .....

(أمريكا الشمالية - أمريكا الجنوبية - أفريقيا - أستراليا)

(١١) أى من الجبال التالية يوجد شرقها العديد من الهضاب ؟ جبال .....

(الإنديز - دراكنزبرج - الحاجز الكبير - الأبلاش)

(١٢) الجبال التى تنتمى سفوحها الشرقية لقارة بينما تنتمى سفوحها الغربية لقارة أخرى هى جبال ..... (الهيمالايا - الإنديز - روكى - أورال)

---

١٤ حدد تقييمك لمصداقية العبارة الآتية :

يرجع السبب الأساسى فى اختلاف أهمية السهول الفيضية من قارة لأخرى إلى المناخ السائد.

.....

.....

---

١٥ ماذا يحدث إذا : كان انحدار هضبتى الحبشة والبحيرات الاستوائية نحو الجنوب ؟

.....

.....

---

١٦ ما وجه الشبه بين : نهر المسيسبى، ونهرا مرى ودارلنج من حيث الانحدار والمصب ؟

.....

.....

---

١٧ ما وجه التناقض بين : السهول الساحلية فى قارة أوروبا، وقارة أفريقيا ؟

.....

.....

امتحان ؟ على الدرس الثانى

١ (أ) أمامك خريطة للعالم، لاحظها ثم أجب :

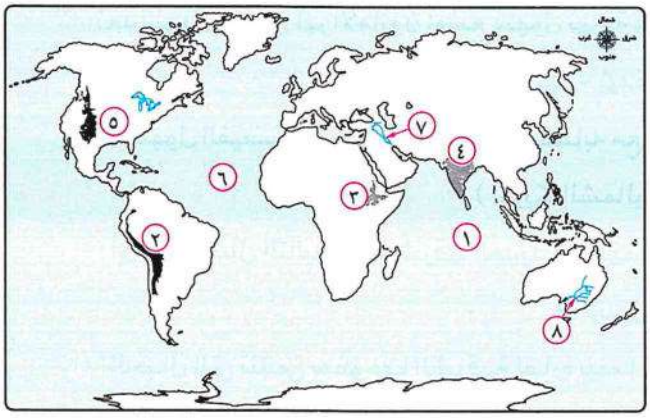

(١) المحيط الأطلنطى يمثله على الخريطة الرقم .....

(٢) هضبة الدكن يمثلها على الخريطة الرقم .....

(٣) جبال روكى يمثلها على الخريطة الرقم .....

(٤) نهرا مرى ودارلنج يمثلهما على الخريطة الرقم .....

(ب) قارن بين : هضبة التبت، وهضبة الحبشة (إثيوبيا)، من حيث :

* الموقع. * المميزات. (قنا ٢٥)

(جـ) صنف الظواهر الجغرافية الآتية حسب نوعها، وفى أى القارات تقع كل منها ... ؟

(١) الميزيتا. (٢) كينيا. (٣) الفرات. (٤) النيجر.

---

٢ (أ) اختر الإجابة الصحيحة مما بين القوسين :

(١) سهول فيضية تمتد من الشمال إلى الجنوب فى قارة أمريكا الجنوبية هى سهول نهر.....

(الأورينوكو - ساو فرانسيسكو - لابلاتا - الأمازون) (القليوبية ٢٣)

(٢) تضيق السهول الساحلية بأستراليا من جهة .....

(الشمال - الجنوب - الغرب - الشرق) (مطروح ٢٤)

(٣) أى من الهضاب الآتية تُعد أكبر هضاب أمريكا الجنوبية مساحة وأكثرها ارتفاعًا ؟

هضبة ..... (البرازيل - بتاجونيا - جيانا - لبرادور) (البحيرة ٢٣)

(ب) دلل على صحة العبارة التالية :

تتعدد خصائص السهول الفيضية وسط قارة أمريكا الشمالية. (دمياط ٢٥)

(جـ) ماذا يحدث إذا :

كانت جبال الإنديز بعيدة عن ساحل المحيط الهادى ؟

الدرس
الثالث

المناخ والنبات الطبيعى فى العالم



تمهيد يختلف المناخ داخل القارة الواحدة من منطقة لأخرى **بم تفسر ؟** وفقًا لعدة عوامل مؤثرة فى مناخ القارة، سبق لك دراستها فى الأعوام السابقة، وأهم هذه العوامل :

تذكر فقط

١ الموقع الفلكى	٢ الموقع الجغرافى	٣ التضاريس
ترتفع درجة الحرارة كلما اقتربنا من دائرة الاستواء وتقل كلما ابتعدنا عنها	المناطق الساحلية القريبة من المسطحات المائية تكون معتدلة وأكثر مطرًا على عكس المناطق الداخلية البعيدة عن المسطحات المائية يكون مناخها قارى ونادرة المطر	تقل درجات الحرارة درجة واحدة كلما ارتفعنا عن مستوى سطح البحر ١٥٠م كما يؤثر اتجاه الكتل الجبلية فى توزيع كمية المطر

الأقاليم المناخية فى العالم

ما المقصود بـ : إقليم مناخى ؟

منطقة محددة على سطح الأرض لها خصائص مناخية معينة من حيث الحرارة والرياح والأمطار وغيرها من عناصر المناخ.

* تتنوع الأقاليم المناخية فى العالم، كالتالى :

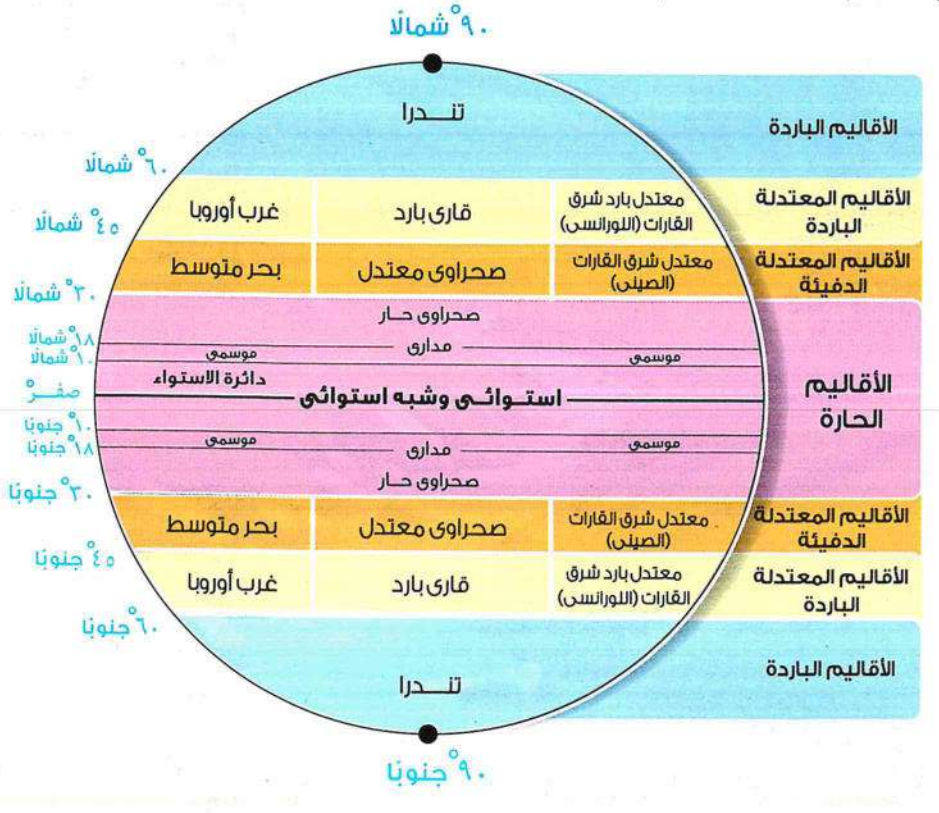

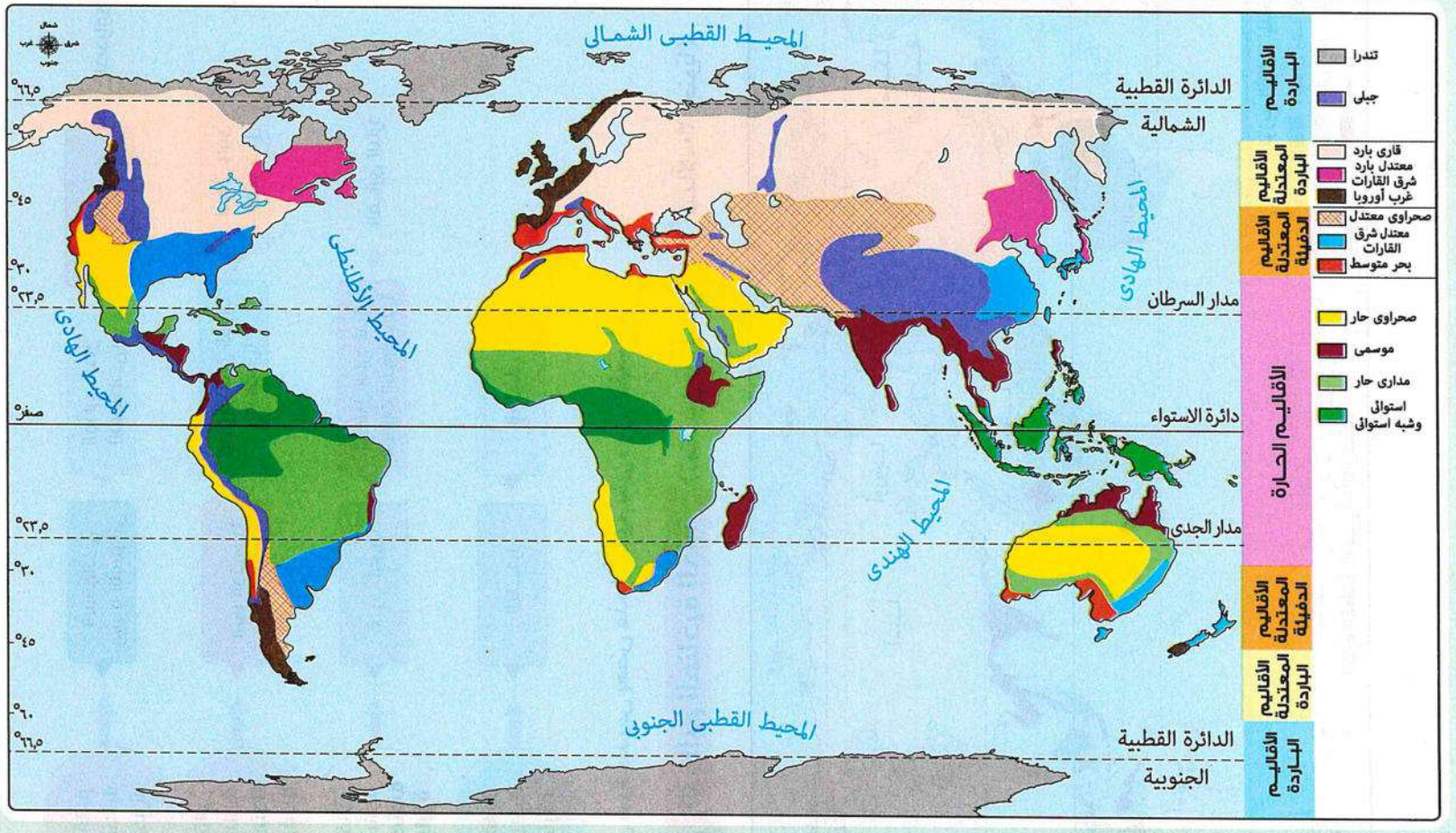

الأقاليم المناخية فى العالم

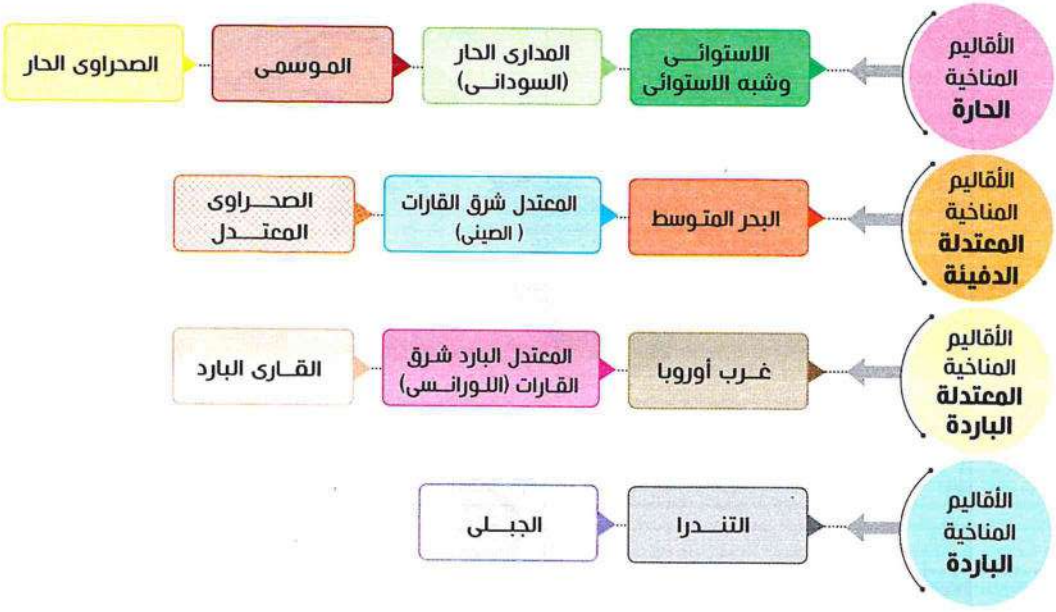

فيما يلى سوف ندرس بعض هذه الأقاليم بشىء من التفصيل.

أولًا الأقاليم المناخية الحارة (تمتد بين دائرتى عرض ٣٠° شمالًا، ٣٠° جنوبًا)

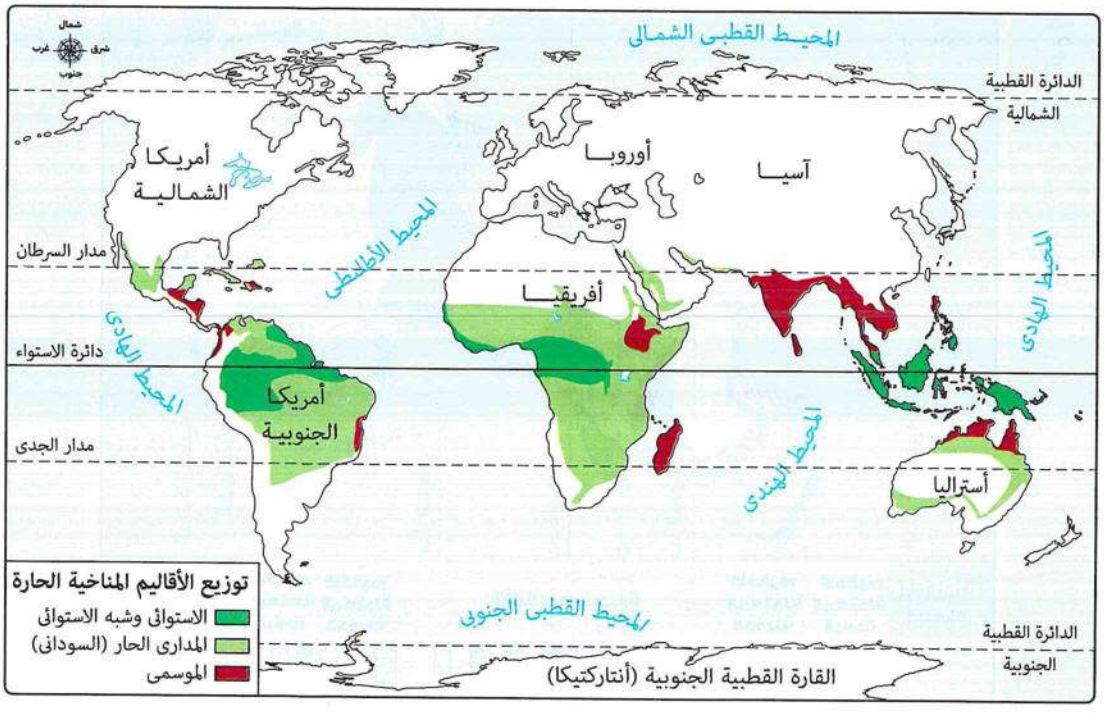

الأقاليم المناخية الحارة	الموقع	الخصائص المناخية	النبات الطبيعى الذى ينمو فيه (الخصائص النباتية)
الإقليم الاستوائى وشبه الاستوائى	* يقع فى المناطق القريبة من دائرة الاستواء (من صفر° : ١٠° شمالًا وجنوبًا). * يظهر فى : • آسيا : كما فى جزر إندونيسيا. • أفريقيا : كما فى حوض الكونغو. • أمريكا الجنوبية : كما فى حوض الأمازون.	* حرارة مرتفعة طوال العام. * أمطار تسقط طوال العام.	* غابات استوائية : • أشجارها : كثيفة ومتشابكة، من أهمها : الماهوجنى والمطاط. • تكثر بها الزواحف والطيور والحيوانات المتسلقة.
الإقليم المدارى الحار (السودانى)	* يقع بين دائرتى عرض (من ١٠° : ١٨° شمالًا وجنوبًا). * يظهر فى : • أفريقيا } شمال وجنوب • أمريكا الجنوبية } الإقليم الاستوائى. • آسيا : جنوب غرب القارة. • أمريكا الشمالية : بعض الأجزاء الجنوبية. • أستراليا : شمال القارة.	* حرارة مرتفعة صيفًا. * أمطار تسقط صيفًا ويسود الجفاف شتاءً.	* أشجار أقل كثافة وتشابكًا من أشجار الغابات الاستوائية. * حشائش الساڤانا.
الإقليم الموسمى	* يظهر فى : • آسيا : – الهند. – شبه جزيرة الهند الصينية (جنوب الصين). • أستراليا : أقصى شمال القارة. • أفريقيا : – هضبة إثيوبيا. – جزيرة مدغشقر.	* حرارة مرتفعة صيفًا. * أمطار غزيرة صيفًا ويسود الجفاف شتاءً.	* غابات موسمية : تنمو بسبب غزارة الأمطار، ومن أهم أشجارها : جوز الهند. * حشائش الساڤانا.

* يتشابه الإقليم المدارى مع الإقليم الموسمى فى :
  - الخصائص المناخية : صيف حار ممطر وشتاء جاف.
  - الخصائص النباتية : تنمو بها حشائش الساڤانا.
* حشائش الساڤانا :
  - تتميز بالتدرج فى أطوالها حسب كمية المطر.
  - تعتبر حديقة حيوان طبيعية **دلل ؟** حيث يعيش بها حيوانات آكلة عشب وأخرى آكلة لحوم.

ثانيًا الأقاليم المناخية المعتدلة الدفيئة (تمتد بين دائرتى عرض ٣٠° ، ٤٥° شمالًا وجنوبًا)

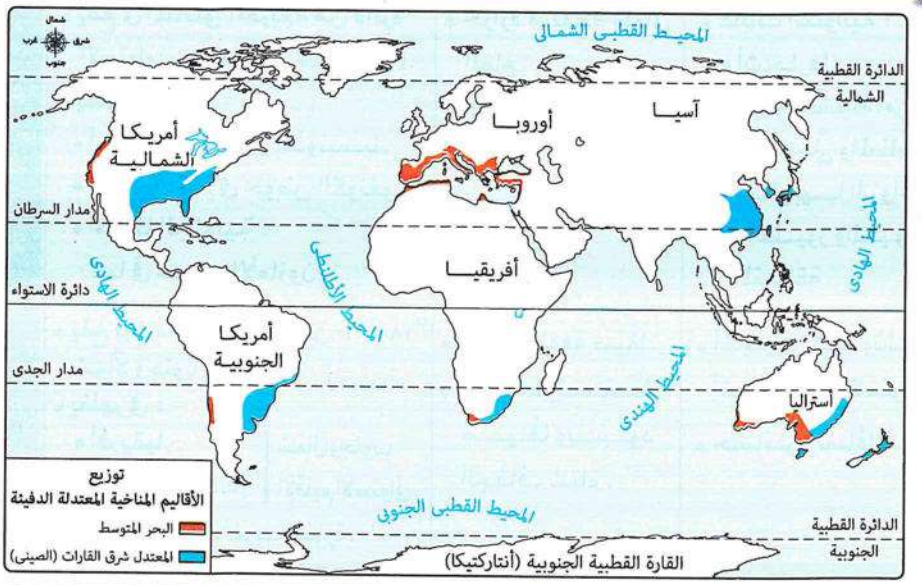

	الموقع	الخصائص المناخية	النبات الطبيعى الذى ينمو فيه (الخصائص النباتية)
إقليم البحر المتوسط	* يقع فى العروض المعتدلة غرب معظم القارات (من ٣٠° : ٤٥° شمالًا وجنوبًا) . * يظهر فى : • آسيا : سواحل الشام وتركيا. • أفريقيا : سواحل دول المغرب العربى. • أوروبا : السواحل المطلة على البحر المتوسط. • أمريكا الشمالية : فى الغرب بولاية كاليفورنيا. • أمريكا الجنوبية : الساحل الأوسط فى شيلى. • أستراليا : جنوبها الغربى.	* حار صيفًا ودفىء شتاءً. * أمطار تسقط شتاءً ويسود الجفاف صيفًا.	* غابات البحر المتوسط : أشجارها دائمة الخضرة، ومن أهمها الزيتون. * حشائش الإستبس : • تنمو بالقرب من غابات البحر المتوسط. • تستغل كمراعٍ طبيعية. • تعرف فى أمريكا الشمالية «بحشائش البرارى».
الإقليم المعتدل شرق القارات (الصينى)	* يقع فى العروض المعتدلة شرق القارات (من ٣٠° : ٤٥° شمالًا وجنوبًا). * يظهر فى : • آسيا : شرق الصين. • أفريقيا • أمريكا الشمالية • أمريكا الجنوبية • أستراليا جنوبها الشرقى.	* حرارة مرتفعة صيفًا ومنخفضة شتاءً. * أمطار طوال العام وتزداد صيفًا. * يتعرض أحيانًا لعواصف مدارية، مثل عواصف التيفون(*).	* غابات الإقليم الصينى : أشجارها دائمة الخضرة، ومن أهمها : • الصفصاف. • البلوط. * حشائش الإستبس : تنمو بالقرب من غابات الإقليم الصينى.

(*) عواصف التيفون : نوع من العواصف المدارية البحرية المدمرة والتى كثيرًا ما تتعرض لها جزر الفلبين وجنوب الصين والمناطق المجاورة وتشبه أعاصير الهريكين التى تهب فى منطقة البحر الكاريبى بالمحيط الأطلنطى.

التدريب الأول

١ اكتب رقم كل عبارة مما يأتى فى البطاقة التى تناسبها :

(١) يوجد فى حوض الكونغو وحوض الأمازون.

(٢) يتميز بحرارة مرتفعة وأمطار طوال العام.

(٣) يوجد فى الهند وشبه جزيرة الهند الصينية.

(٤) يمتد فى شرق الصين وجنوب شرق أستراليا وجنوب شرق أمريكا الشمالية.

(٥) يمتد بين دائرتى عرض ١٠° : ١٨° شمالًا وجنوبًا.

(٦) يتعرض أحيانًا لعواصف مدارية مثل عواصف التيفون.

(٧) يوجد فى هضبة إثيوبيا وجزيرة مدغشقر.

(٨) يمتد فى سواحل تركيا والشام وولاية كاليفورنيا.

(٩) تنمو به أشجار الزيتون.

(١٠) أمطاره غزيرة صيفًا ويسوده الجفاف شتاءً.

(١١) حار صيفًا وأمطاره طوال العام وتنمو به أشجار الصفصاف.

(١٢) تنمو به أشجار أقل كثافة وتشابكًا من الغابات الاستوائية.

(١٣) يوجد فى الساحل الأوسط بدولة شيلى.

الإقليم الاستوائى وشبه الاستوائى

.....

.....

الإقليم المدارى الحار (السودانى)

.....

.....

الإقليم الموسمى

.....

.....

إقليم البحر المتوسط

.....

.....

الإقليم المعتدل شرق القارات (الصينى)

.....

.....

٢ بم تفسر : لمنطقة البرارى بأمريكا الشمالية قيمة اقتصادية ؟

.....

٣ دلل على صحة كل عبارة مما يلى :

(١) تتنوع الأقاليم المناخية وفقًا لعدة عوامل مؤثرة فى مناخ القارات.

.....

(٢) يختلف مناخ إقليم المناخ الصينى عن إقليم البحر المتوسط رغم امتدادهما فى دوائر عرضية واحدة.

.....

٤ حدد أوجه التشابه بين : إقليم المناخ المدارى وإقليم المناخ الموسمى.

.....

ثالثًا الأقاليم المناخية المعتدلة الباردة (تمتد بين دائرتى عرض ٤٥°، ٦٠° شمالًا وجنوبًا)

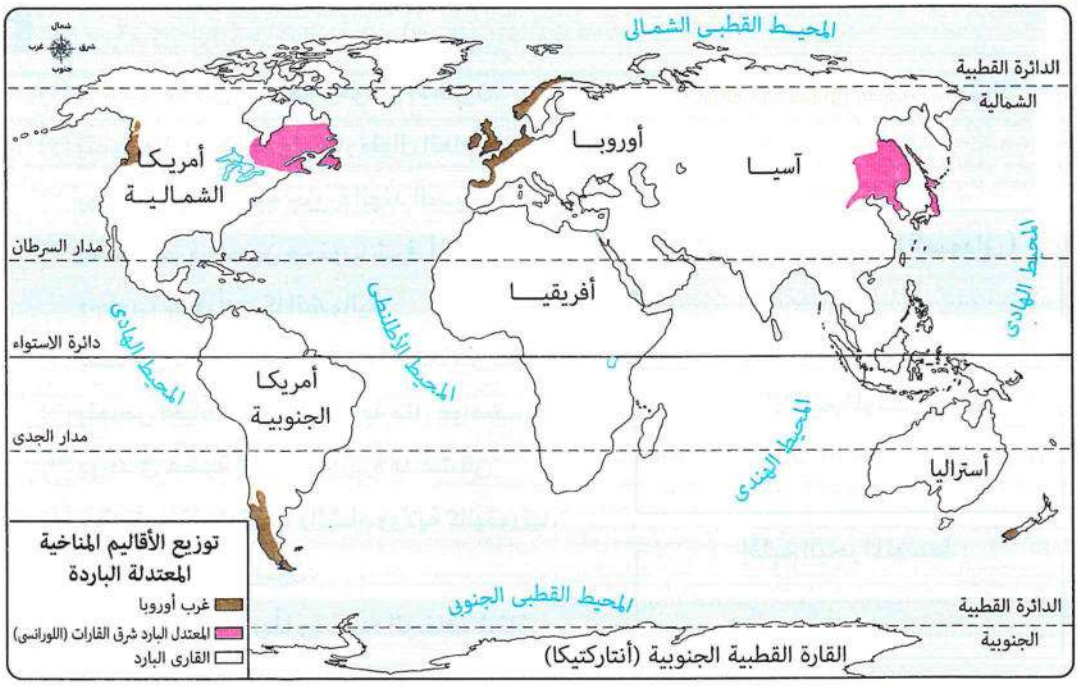

	الموقع	الخصائص المناخية	النبات الطبيعى الذى ينمو فيه (الخصائص النباتية)
إقليم غرب أوروبا	* يقع بين دائرتى عرض ٤٥° : ٦٠° شمالًا وجنوبًا غرب القارات. * يظهر فى : • أوروبا • أمريكا الشمالية } شمالها الغربى. • أمريكا الجنوبية : أقصى جنوبها الغربى.	* دفء صيفًا وبارد شتاءً. * أمطار تسقط طوال العام وتزداد فى فصلى الشتاء والخريف.	* الغابات النفضية : • سميت كذلك لأن أشجارها تنفض أوراقها شتاءً لشدة البرودة. • من أهم أشجارها : الزان.
الإقليم المعتدل البارد شرق القارات (اللورانسى)	* يقع بين دائرتى عرض ٤٥° : ٦٠° شمالًا شرق القارات. * يظهر فى : • آسيا : – شمال شرق الصين. – شمال اليابان. • أمريكا الشمالية : شمالها الشرقى.	* معتدل صيفًا وبارد شتاءً. * أمطار تسقط طوال العام وخاصةً صيفًا.	* الغابات المخروطية : • من أهم أشجارها : – الصنوبر. – الشربين. • حيواناتها : ذات فراء كثيف مثل الدب القطبى.

رابعًا الأقاليم المناخية الباردة

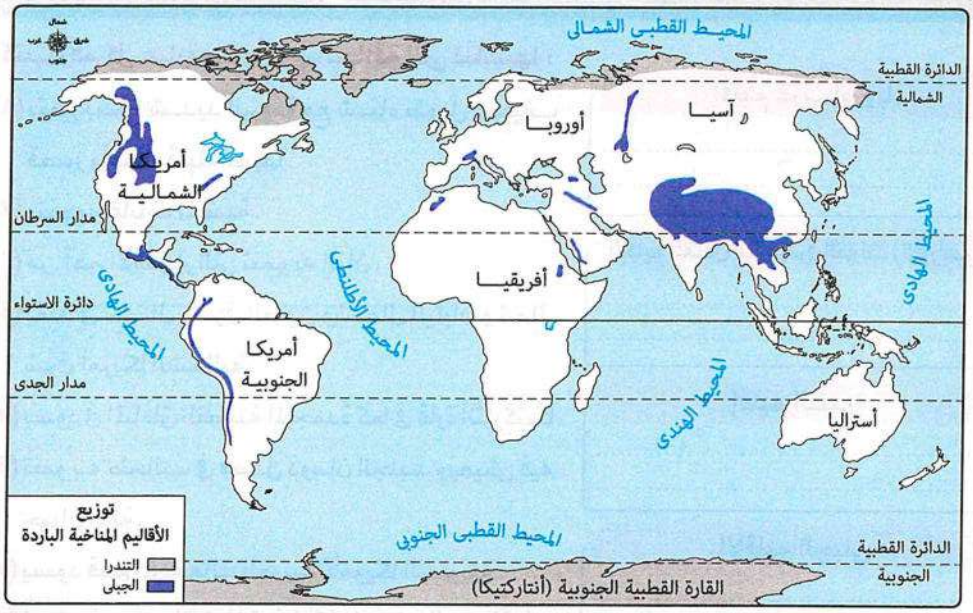

	الموقع	الخصائص المناخية	النبات الطبيعى الذى ينمو فيه (الخصائص النباتية)
إقليم التندرا	* يقع فيما وراء الدائرتين القطبيتين ٦٠° شمالًا وجنوبًا. * يسود فى المناطق القطبية المتجمدة فى : • آسيا : - الأجزاء القطبية. - شمال سيبيريا. • أوروبا : شمال القارة. • أمريكا الشمالية : شمال كندا. • أمريكا الجنوبية : بعض جزر المحيط المتجمد (القطبى) الجنوبى. • أنتاركتيكا : يسودها كلها.	* شديد البرودة حيث شتاء طويل وصيف قصير. * أمطار قليلة تسقط صيفًا وتتساقط الثلوج شتاءً.	* طحالب تنمو سريعًا فى فصل ذوبان الجليد. * يعيش بها : حيوان الرنة.
الإقليم الجبلى	يشغل القمم والمنحدرات العليا للمناطق الجبلية فى قارات العالم.	شديد البرودة وكثيرًا ما تغطى القمم الجبلية بالجليد طوال العام مثل قمم جبال الهيمالايا فى آسيا.	تتنوع الحياة النباتية طبقًا لارتفاع السطح وكمية المطر.

آسيا تُعد أكثر القارات تنوعًا فى مناخها حيث :

يوجد بها معظم الأقاليم المناخية، وذلك بسبب كبر مساحتها وامتدادها فى عدد كبير من دوائر العرض.

التدريب الثانى

١ اكتب رقم كل عبارة مما يأتى فى البطاقة التى تناسبها :

(١) يتميز بمناخ شديد البرودة مع شتاء طويل وصيف قصير وأمطار قليلة صيفًا.

(٢) ينمو به غابات نفضية.

(٣) من أهم الأشجار التى تنمو به الزان.

(٤) يمتد فى شمال شرق الصين وشمال اليابان وشمال شرق أمريكا الشمالية.

(٥) يسود فى المناطق القطبية المتجمدة كما فى قارة أنتاركتيكا.

(٦) تنمو به طحالب فى فصل ذوبان الجليد ويعيش فيه حيوان الرنة.

(٧) يسود قمم المرتفعات الغربية لأمريكا الجنوبية.

(٨) تعيش فيه حيوانات ذات فراء كثيف منها الدب القطبى.

(٩) ينمو به غابات مخروطية.

إقليم غرب أوروبا

.....

.....

الإقليم المعتدل البارد شرق القارات (اللورانسى)

.....

.....

إقليم التندرا

.....

.....

الإقليم الجبلى

.....

.....

٢ بم تفسر ... ؟

(١) تسمية الغابات النفضية بهذا الاسم.

.....

(٢) تنوع الحياة النباتية فى الإقليم الجبلى.

.....

٣ ما تقييمك لمصداقية العبارة التالية :

يوجد إقليم التندرا فى كل من قارتى أمريكا الشمالية وأمريكا الجنوبية ؟

.....

٤ ما العلاقة بين : النبات الطبيعى فى شمال اليابان، والمناخ السائد بها ؟

.....

.....

يقصد بـ :

الإقليم المناخى منطقة محددة على سطح الأرض لها خصائص مناخية معينة من حيث الحرارة والرياح والأمطار وغيرها، من عناصر المناخ.

أهم نقاط الدرس

الأقاليم المناخية		الموقع بين دوائر العرض	القارات التى يظهر فيها	الخصائص المناخية	الخصائص النباتية
الحارة	الإقليم الاستوائى وشبه الاستوائى	المناطق القريبة من دائرة الاستواء (من صفر° : ١٠° شمالًا وجنوبًا)	* آسيا. * أفريقيا. * أمريكا الجنوبية.	حرارة مرتفعة وسقوط أمطار طوال العام.	غابات استوائية أشجارها كثيفة ومتشابكة، من أهم أشجارها الماهوجنى والمطاط، وتكثر بها الزواحف والطيور والحيوانات المتسلقة.
	الإقليم المدارى الحار (السودانى)	شمال وجنوب الإقليم الاستوائى (من ١٠° : ١٨° شمالًا وجنوبًا)	* آسيا. * أفريقيا. * أمريكا الشمالية. * أمريكا الجنوبية. * أستراليا.	* حرارة مرتفعة مع سقوط أمطار صيفًا. * يسود الجفاف شتاءً.	* أشجار أقل كثافة وتشابكًا من أشجار الغابات الاستوائية. * حشائش السافانا.
	الإقليم الموسمى	ــــــــــ	* آسيا. * أستراليا. * أفريقيا.	* حرارة مرتفعة وأمطار غزيرة صيفًا. * يسود الجفاف شتاءً.	* غابات موسمية ومن أهم أشجارها جوز الهند. * حشائش السافانا.
المعتدلة الدفيئة	إقليم البحر المتوسط	فى العروض المعتدلة (من ٣٠° : ٤٥° شمالًا وجنوبًا)	* آسيا. * أفريقيا. * أوروبا. * أمريكا الشمالية. * أمريكا الجنوبية. * أستراليا.	حار جاف صيفًا ودفئ ممطر شتاءً.	* غابات البحر المتوسط ومن أهم أشجارها الزيتون وهى أشجار دائمة الخضرة. * حشائش الإستبس.
	الإقليم المعتدل شرق القارات (الصينى)	فى العروض المعتدلة (من ٣٠° : ٤٥° شمالًا وجنوبًا)	* آسيا. * أفريقيا. * أمريكا الشمالية. * أمريكا الجنوبية. * أستراليا.	* حرارة مرتفعة صيفًا ومنخفضة شتاءً. * أمطار طوال العام وتزداد صيفًا. * يتعرض أحيانًا لعواصف مدارية، مثل : عواصف التيفون.	* غابات الإقليم الصينى ومن أهم أشجارها الصفصاف والبلوط وهى أشجار دائمة الخضرة. * حشائش الإستبس.
المعتدلة الباردة	إقليم غرب أوروبا	(من ٤٥° : ٦٠° شمالًا وجنوبًا)	* أوروبا. * أمريكا الشمالية. * أمريكا الجنوبية.	* دفء صيفًا وبارد شتاءً. * أمطار طوال العام تزداد شتاءً وخريفًا.	غابات نفضية ومن أهم أشجارها الزان.
	الإقليم المعتدل البارد شرق القارات (اللورانسى)	(من ٤٥° : ٦٠° شمالًا)	* آسيا. * أمريكا الشمالية.	* معتدل صيفًا وبارد شتاءً. * أمطار طوال العام، وخاصة صيفًا.	غابات مخروطية ومن أهم أشجارها الصنوبر والشربين ويعيش بها حيوانات كثيفة الفراء مثل الدب القطبى.
الباردة	إقليم التندرا	(فيما وراء الدائرتين القطبيتين ٦٠° شمالًا وجنوبًا)	* آسيا. * أوروبا. * أمريكا الشمالية. * أمريكا الجنوبية. * أنتاركتيكا.	* شتاء طويل شديد البرودة مع سقوط الثلوج. * صيف قصير قليل المطر.	طحالب تنمو سريعًا فى فصل ذوبان الجليد، ويعيش بها حيوان الرنة.
	الإقليم الجبلى	ــــــــــ	يشغل القمم والمنحدرات العليا للمناطق الجبلية فى قارات العالم.	شديدة البرودة وتغطى القمم الجبلية بالجليد طوال العام.	تتنوع الحياة النباتية طبقًا لارتفاع السطح وكمية المطر.

أسئلة على الدرس الثالث

أسئلة تفاعلية

● تذكر ● فهم ● تطبيق ● مستويات عليا

١ أمامك خريطة للعالم ، اكتب ما تشير إليه الأرقام التى عليها :

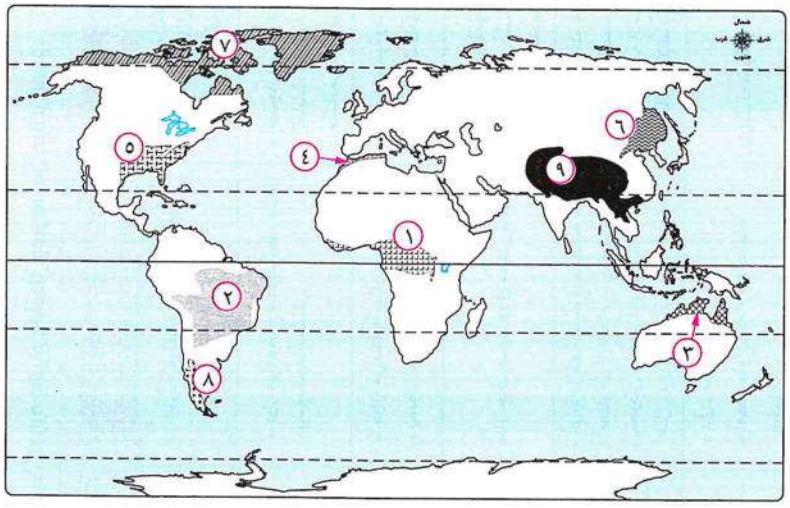

(١) إقليم المناخ .....

(٢) إقليم المناخ .....

(٣) إقليم المناخ .....

(٤) إقليم مناخ .....

(٥) إقليم المناخ .....

(٦) إقليم المناخ .....

(٧) إقليم مناخ .....

(٨) إقليم مناخ .....

(٩) إقليم المناخ .....

٢ أكمل الجدول الآتى :

النبات	الغابة التى ينمو فيها	الإقليم المناخى التابع له
١ الماهوجنى	.....	.....
٢ الصفصاف	.....	.....
٣ البلوط	.....	.....
٤ المطاط	.....	.....
٥ جوز الهند	.....	.....
٦ الزيتون	.....	.....
٧ الشربين	.....	.....
٨ الزان	.....	.....
٩ الصنوبر	.....	.....

٣ استعن بالخريطة التى أمامك فى اختيار الإجابة الصحيحة :

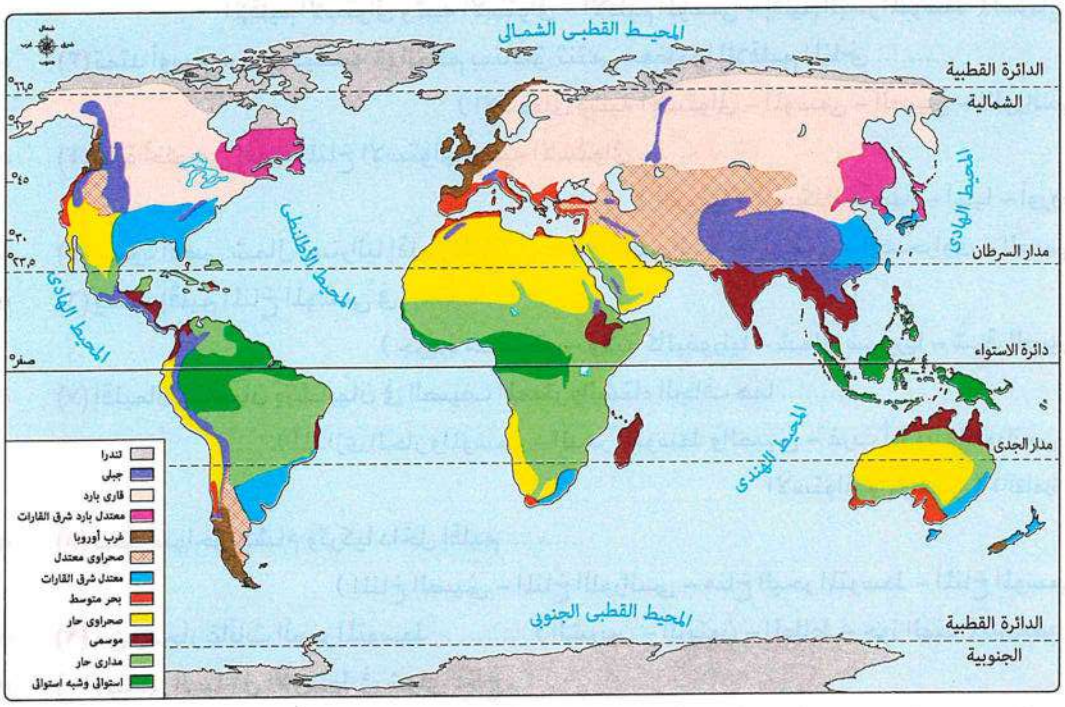

(١) يظهر إقليم المناخ الاستوائى وشبه الاستوائى بالجزر الواقعة عند الأطراف الجنوبية لقارة .....
(آسيا - أفريقيا - أمريكا الشمالية - أمريكا الجنوبية)

(٢) يوجد إقليم مناخ البحر المتوسط بالأطراف الجنوبية والشمالية لقارة .....
(أستراليا - أمريكا الشمالية - آسيا - أفريقيا)

(٣) يسود الجزر البريطانية مناخ .....
(إقليم البحر المتوسط - إقليم غرب أوروبا - إقليم التندرا - الإقليم الموسمى)

(٤) تخلو قارة أفريقيا من إقليم .....
(مناخ البحر المتوسط - المناخ اللورانسى - المناخ الاستوائى وشبه الاستوائى - المناخ الموسمى)

(٥) تنتمى مرتفعات الإنديز لمناخ .....
(الإقليم الاستوائى وشبه الاستوائى - إقليم غرب أوروبا - الإقليم الجبلى - الإقليم المدارى الحار)

(٦) تختفى جميع الأقاليم المناخية الحارة من قارة .....
(أوروبا - أمريكا الشمالية - أستراليا - أمريكا الجنوبية)

٤ اختر الإجابة الصحيحة مما بين القوسين :

(١) يسود جزر إندونيسيا المناخ .....
(الموسمى - الصينى - اللورانسى - الاستوائى وشبه الاستوائى) (البحيرة ٢٤)

(٢) من الأقاليم المناخية الممطرة طوال العام ..... (الإقليم المدارى الحار - الإقليم الاستوائى وشبه الاستوائى - الإقليم الموسمى - إقليم البحر المتوسط) (سوهاج ٢٤)

(٣) تمتد أوسع سهول فيضية فى العالم بمناطق تنتمى معظمها للإقليم المناخى .....
(الاستوائى وشبه الاستوائى - الموسمى - الصينى - اللورانسى)

(٤) قارة تخلو من إقليم المناخ الاستوائى وشبه الاستوائى .....
(أفريقيا - أمريكا الجنوبية - آسيا - أوروبا)

(٥) يسود أقصى شمال أستراليا إقليم المناخ ..... (اللورانسى - الموسمى - الصحراوى - الصينى)

(٦) يسود إقليم المناخ الموسمى فى .....
(جزيرة مدغشقر - ولاية كاليفورنيا - شمال سيبيريا - شرق الصين)

(٧) إقليمان مناخيان يتشابهان فى الصيف الممطر والشتاء الجاف هما .....
(المدارى الحار والموسمى - البحر المتوسط والصينى - غرب أوروبا واللورانسى - الاستوائى والموسمى) (القاهرة ٢٤)

(٨) تمتد سواحل الشام وتركيا داخل إقليم .....
(المناخ الصينى - المناخ اللورانسى - مناخ البحر المتوسط - المناخ الموسمى)

(٩) من أشجار غابات البحر المتوسط ..... (الشربين - الزيتون - المطاط - جوز الهند) (بورسعيد ٢٤)

(١٠) ينتمى الساحل الأوسط فى شيلى لمناخ .....
(الإقليم اللورانسى - الإقليم الصينى - إقليم البحر المتوسط - إقليم غرب أوروبا)

(١١) إقليم مناخى يظهر فى جميع القارات المأهولة بالسكان .....
(البحر المتوسط - التندرا - غرب أوروبا - الاستوائى وشبه الاستوائى) (البحر الأحمر ٢٢)

(١٢) تتميز جميع الأقاليم المناخية الممتدة فى العروض المعتدلة شرق القارات بأنها .....
(مرتفعة الحرارة طوال العام - ممطرة طوال العام - جافة صيفًا - معتدلة الحرارة شتاءً)

(١٣) إقليم مناخى يقع فى نفس عروض إقليم مناخ البحر المتوسط ولكن فى شرق القارات هو ..... (المدارى الحار - الجبلى - اللورانسى - الصينى) (الإسكندرية ٢٢)

(١٤) أى الأقاليم المناخية الآتية تخلو قارة أوروبا من وجوده بالرغم من توافر موقعه الفلكى ؟ .....
(إقليم البحر المتوسط - الإقليم المدارى الحار - الإقليم الصينى - الإقليم القارى البارد)

(١٥) تضرب عواصف التيفون المناطق الواقعة ضمن الإقليم المناخى .....
(البحر المتوسط - المعتدل شرق القارات - الموسمى - المعتدل البارد شرق القارات)

(١٦) من الأشجار التى تنفض أوراقها شتاءً لشدة البرودة .....
(البلوط - الصفصاف - الزان - الزيتون) (بورسعيد ٢٤)

(١٧) رغم الامتداد الفلكى والجغرافى لقارة آسيا إلا أنها تخلو من إقليم .....
(المناخ الصينى - المناخ اللورانسى - مناخ غرب أوروبا - مناخ التندرا)

(١٨) تتشابه المناطق التى تقع فى جنوب شرق أفريقيا وجنوب غرب أمريكا الجنوبية فى .....
(سقوط المطر طوال العام - ارتفاع الحرارة طوال العام - نمو حشائش الساڤانا - استقرار حالة المناخ طوال العام)

(١٩) يُعرف إقليم المناخ المعتدل البارد شرق القارات بـ.....
(القارى البارد - التندرا - الصينى - اللورانسى)

(٢٠) يظهر فى شمال دولة كندا مناخ .....
(الإقليم الصينى - إقليم التندرا - الإقليم الموسمى - الإقليم اللورانسى)

(٢١) أى مما يلى يُعد أكثر الأقاليم المناخية امتدادًا فى عدد دوائر العرض ؟ إقليم .....
(المناخ الاستوائى وشبه الاستوائى - المناخ الصينى - مناخ التندرا - المناخ اللورانسى)

(٢٢) تخلو قارتى ..... من وجود إقليم مناخ التندرا. (الغربية ٢٤)
(أوروبا وأفريقيا - أمريكا الشمالية وأمريكا الجنوبية - أفريقيا وأستراليا - أوروبا وأستراليا)

(٢٣) يعيش حيوان الرنة فى أقصى شمال قارة .....
(أمريكا الجنوبية - أستراليا - أفريقيا - أمريكا الشمالية)

(٢٤) أى من الأقاليم المناخية التالية يظهر بقارات العالم وغير مرتبط بدوائر عرض محددة ؟ .....
(الإقليم اللورانسى - إقليم التندرا - الإقليم الجبلى - الإقليم الصينى)

(٢٥) أكبر مساحة من اليابس تنتمى للإقليم المناخى الجبلى توجد فى قارة .....
(آسيا - أستراليا - أفريقيا - أوروبا)

(٢٦) يتميز إقليم مناخ التندرا بالبرودة الشديدة طوال العام بسبب .....
(الموقع الجغرافى - ارتفاع السطح - الموقع الفلكى - قلة الغطاء النباتى)

٥ اكتب كلمة (صواب) أمام العبارة الصحيحة، وكلمة (خطأ) أمام العبارة غير الصحيحة، مع ذكر السبب فى الحالتين :

(١) يظهر إقليم المناخ الاستوائى وشبه الاستوائى بأفريقيا فى حوض نهر الأمازون. ( ) ( )

(٢) تنمو حشائش الإستبس فى الإقليم المناخى المدارى الحار. ( ) ( )

(٣) تنتمى سواحل دول المغرب العربى لإقليم مناخ البحر المتوسط. ( ) ( )

(٤) يقع إقليم المناخ الصينى غرب القارات بين دائرتى عرض ٣٠° : ٤٥° شمالًا وجنوبًا. ( ) ( )

(٥) يمتد إقليم مناخ غرب أوروبا بين دائرتى عرض ٤٥°، ٦٠° شمالًا وجنوبًا شرق القارات. ( ) ( )

(٦) تنمو الغابات النفضية فى إقليم مناخ غرب أوروبا. (أسوان ٢٤) ( ) ( )

(٧) يختفى الإقليم المناخى المعتدل البارد شرق القارات فى نصف الكرة الأرضية الشمالى. ( ) ( )

(٨) يتشابه الإقليم المناخى الصينى والإقليم المناخى اللورانسى من حيث الأمطار. ( ) ( )

(٩) يسود إقليم المناخ الجبلى مناخ معتدل صيفًا وشتاءً. ( ) ( )

(١٠) تقل درجة الحرارة فى قارة آسيا كلما اتجهنا شمالًا. (القليوبية ٢٥) ( ) ( )

٦ اكتب ما تشير إليه كل عبارة مما يأتى :

(١) منطقة محددة على سطح الأرض لها خصائص مناخية معينة. (السويس ٢٢) (.....)

(٢) حشائش تنمو فى الإقليم المناخى الموسمى وتعتبر حديقة حيوانات طبيعية. (.....)

(٣) حشائش تعرف فى قارة أمريكا الشمالية باسم البرارى وتستغل كمراعى طبيعية. (.....)

(٤) قارة تقع بنصفى الكرة الأرضية الشرقى والغربى ويسودها إقليم مناخى واحد. (الفيوم ٢٥) (.....)

(٥) إقليم مناخى تتنوع فيه الحياة النباتية طبقًا لارتفاع السطح وكمية المطر. (ج. سيناء ٢٣) (.....)

٧ بم تفسر... ؟

(١) يختلف المناخ داخل القارة الواحدة من منطقة لأخرى. (السويس ٢٥)

.....

(٢) يتميز حوض الأمازون بارتفاع درجة الحرارة وسقوط المطر طوال العام. (الأقصر ٢٤)

.....

(٣) تنمو أشجار كثيفة ومتشابكة فى جزر إندونيسيا. (دمياط ٢٥)

.....

(٤) أشجار الإقليم المناخى السودانى أقل كثافة وتشابك من أشجار الغابات الاستوائية.

.....

(٥) تنمو الغابات الموسمية فى شبه جزيرة الهند الصينية جنوب الصين. (المنيا ٢٥)

.....

(٦) تكاد تتشابه الخصائص المناخية بجنوب غرب آسيا مع الإقليم المناخى السائد بجزيرة مدغشقر بأفريقيا. (القليوبية ٢٤)

.....

(٧) تدرج حشائش الساڤانا فى أطوالها كلما اتجهنا شمالًا وجنوبًا من دائرة الاستواء. (دمياط ١٦)

.....

(٨) تمتاز ولاية كاليفورنيا بالولايات المتحدة الأمريكية بسقوط الأمطار شتاءً. (المنيا ٢٤)

.....

(٩) لحشائش الإستبس أهمية اقتصادية. (السويس ٢٥)

.....

(١٠) امتداد معظم الأقاليم المناخية فى قارة آسيا. (القاهرة ٢٣)

.....

٨ ما النتائج المترتبة على ... ؟

(١) ارتفاع درجات الحرارة وسقوط الأمطار طوال العام فى حوض الكونغو. (المنيا ٢٣)

.....

(٢) اختلاف درجات الحرارة وكمية الأمطار من مكان لآخر على الجبال المرتفعة. (الدقهلية ٢٢)

.....

٩ ماذا يحدث إذا : أصبح مناخ شمال أوروبا يشبه مناخ سواحلها الجنوبية ؟ (الشرقية ٢٥)

.....

١٠ قارن بين :

(١) إقليم المناخ المدارى الحار، وإقليم المناخ الموسمى، من حيث :

* مناطق وجوده. * الخصائص المناخية. * الخصائص النباتية.

.....

.....

(٢) إقليم مناخ غرب أوروبا، وإقليم مناخ البحر المتوسط، من حيث :

* الخصائص المناخية. * الخصائص النباتية.

.....

.....

(٣) شمال اليابان، والساحل الأوسط فى شيلى، من حيث :

* الخصائص المناخية. * الخصائص النباتية.

.....

.....

١١ وضح أوجه التشابه والاختلاف بين :

إقليم مناخ البحر المتوسط، وإقليم المناخ المعتدل شرق القارات (الصينى). (الإسماعيلية ٢٥)

.....

.....

١٢ ما العلاقة بين ... ؟

(١) الأقاليم المناخية والنباتية، ومرور دائرة الاستواء فى وسط أفريقيا. (كفر الشيخ ٢٥)

.....

(٢) إقليم مناخ البحر المتوسط، وتنمية الثروة الحيوانية. (دمياط ٢٣)

.....

١٣ دلل جغرافيًا على صحة كل عبارة مما يأتى :

(١) يتشابه كل من شرق وشمال شرق الصين مناخيًا ويختلفان نباتيًا. (السويس ٢٥)

.....

(٢) أثرت الخصائص المناخية للإقليم اللورانسى فى الحياة النباتية والحيوانية به. (ج. سيناء ٢٤)

.....

أسئلة للتميز

١٤ اختر الإجابة الصحيحة مما بين القوسين :

(١) يوجد إقليم المناخ الاستوائى وشبه الاستوائى فى بعض مناطق السهول الفيضية فى قارتى .....

(آسيا وأفريقيا - أفريقيا وأمريكا الجنوبية - آسيا وأوروبا - أستراليا وأمريكا الجنوبية)

(٢) أقصى اتساع للإقليم المناخى المدارى الحار يوجد فى قارة .....

(أفريقيا - آسيا - أمريكا الجنوبية - أستراليا)

(٣) تدخل سواحل مصر الشمالية ضمن نطاق إقليم .....

(المناخ الصينى - مناخ البحر المتوسط - المناخ المدارى الحار - المناخ الموسمى)

(٤) تنمو حشائش الإستبس بقارة أمريكا الجنوبية حول مصب نهر .....

(أورينوكو - الأمازون - لابلاتا - نلسن)

(٥) تتشابه الأطراف الجنوبية لقارتى أستراليا وأفريقيا فى وجود الأقاليم المناخية .....

(الحارة - المعتدلة الباردة - المعتدلة الدفيئة - الباردة)

(٦) العامل الرئيسى الذى أدى إلى تعدد أنواع الأقاليم المناخية فى قارة آسيا .....

(الموقع الفلكى - تنوع التضاريس - الموقع الجغرافى - كثرة الجزر)

(٧) أى من الأقاليم المناخية الآتية يختفى من قارتى أفريقيا وأمريكا الجنوبية ؟ .....

(الإقليم الصينى - الإقليم اللورانسى - إقليم غرب أوروبا - الإقليم الموسمى)

(٨) اتصال يابس أوروبا بيابس أكبر قارات العالم مساحة حرمها من وجود إقليمين مناخيين على أراضيها وهما .....

(المدارى والموسمى - الاستوائى والتندرا - الصينى واللورانسى - البحر المتوسط وغرب أوروبا)

١٥ ما تقييمك لمصداقية كل عبارة من العبارات الآتية ... ؟

(١) تنمو حشائش الساڤانا بأستراليا إلى الجنوب من الغابات النفضية.

.....

(٢) تندر الأمطار فى الأجزاء الداخلية والشرقية من قارة أستراليا.

.....

(٣) تختلف الخصائص النباتية فى حوض نهر سانت لورانس عنه فى حوض نهر الأمازون.

.....

١٦ ما النتائج المترتبة على ... ؟

(١) وقوع معظم مساحة قارة أفريقيا بين مدار السرطان ومدار الجدى.

.....

(٢) الاتصال الأرضى لقارتى أوروبا وآسيا بالنسبة للأقاليم المناخية الموجودة فيهما.

.....

١٧ بم تفسر ... ؟

(١) يوجد إقليم البحر المتوسط أقصى شمال قارة أفريقيا وأقصى جنوبها.

.....

(٢) يختفى التنوع المناخى من قارة أنتاركتيكا بالرغم من كبر مساحتها.

.....

١٨ ماذا يحدث إذا ... ؟

(١) امتدت مصر فى المنطقة الواقعة بين دائرتى عرض ١٠° ، ١٨° شمالًا.

.....

(٢) كان امتداد الحد الغربى لقارة آسيا بكامله بحريًا (من حيث المناخ).

.....

١٩ دلل على صحة العبارة التالية : يتشابه سهل منشوريا مع هضبة لبرادور مناخيًا. (الدقهلية ٢٤)

.....

امتحان ؟ على الدرس الثالث

١ (أ) استعن بخريطة قارات العالم القديم المقابلة، وأجب عما يأتى :

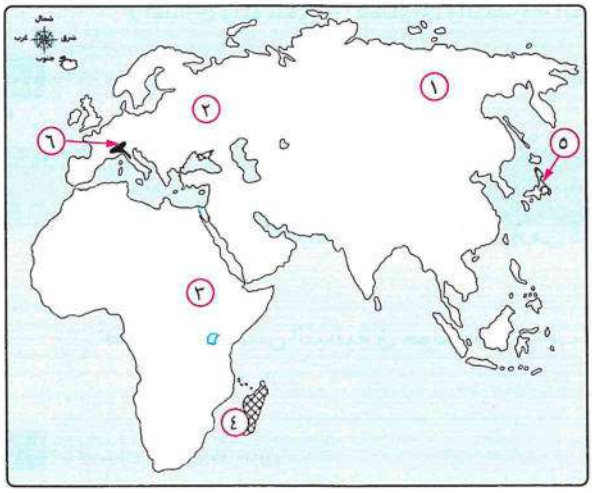

(١) الجزيرة التى يسودها الإقليم المناخى الموسمى يمثلها رقم .....

(٢) القارة التى تخلو من مناخ الإقليم الاستوائى يمثلها رقم .....

(٣) يشير رقم (٦) إلى ظاهرة تضاريسية يسودها مناخ الإقليم .....

(٤) القارة التى بها أقصى اتساع لإقليم المناخ السودانى هى التى يمثلها رقم .....

(ب) *«أصبحت التغيرات المناخية أشد خطورة من الحروب على كوكب الأرض، ويرجع ذلك لتأثير العامل البشرى بعد ما كان المناخ يخضع لتأثير الطبيعة فقط»* . **فى ضوء هذه العبارة :** (الإسكندرية ٢٣)

(١) ما النتائج المترتبة على : ذوبان الجليد فى إقليم التندرا ؟

(٢) ما رأيك فى : دور مصر لمواجهة التغيرات المناخية ؟

(جـ) حدد مدى مصداقية العبارة التالية :

تتشابه سهول كل من سيبيريا وحوض الكونغو تضاريسيًا وتختلف نباتيًا.

---

٢ (أ) اختر الإجابة الصحيحة مما بين القوسين :

(١) أى من الأقاليم المناخية الآتية يوجد فى شمال اليابان ؟ .....

(البحر المتوسط - اللورانسى - الموسمى - الصينى)

(٢) تنمو حشائش الساڤانا ضمن إقليمى المناخ ..... (الاستوائى والمدارى الحار - المدارى الحار والموسمى - الاستوائى والجبلى - الصينى واللورانسى)

(٣) يتشابه جنوب شرق أفريقيا مع جنوب شرق أمريكا الجنوبية فى وجود الإقليم المناخى .....

(المعتدل البارد شرق القارات - المدارى - الاستوائى وشبه الاستوائى - المعتدل شرق القارات)

(ب) ما العلاقة بين : شدة البرودة فى فصل الشتاء، وغابات إقليم مناخ غرب أوروبا ؟ (دمياط ٢٣)

(جـ) بم تفسر : الجنوب الشرقى لأستراليا أكثر عرضة لمخاطر المناخ من جنوبها الغربى ؟ (دمياط ٢٥)

الوحدة
الثانية

جغرافية سكان العالم



الدرس الأول	السلالات البشرية فى العالم.	من المتوقع بعد الانتهاء من الدرس أن يكون التلميذ قادرًا على أن : - يُعرف مفهوم سلالة. - يحدد السلالات البشرية الرئيسة. - يوزع السلالات الرئيسة فى العالم على خريطة صماء.
الدرس الثانى	توزيع السكان فى العالم.	- يقرأ خريطة توزيع السكان بكل قارة. - يحلل الرسم البيانى الخاص بالسكان. - يفسر أسباب اختلاف توزيع السكان من قارة لأخرى ومن منطقة إلى أخرى داخل القارة الواحدة.
الدرس الثالث	خصائص سكان العالم.	- يحدد الخصائص الديموجرافية لسكان العالم. - يفسر أسباب اختلاف معدلات المواليد والوفيات من دولة إلى أخرى. - يستخلص النتائج المترتبة على ارتفاع نسبة فئة صغار السن فى الدول النامية. - يقارن بين الدول النامية والدول المتقدمة من حيث الحالة التعليمية والصحية. - يفسر العلاقة بين عادات وتقاليد وخصائص السكان. - يصف الخصائص الاقتصادية لسكان العالم. - يقرأ الأشكال البيانية المرتبطة بالسكان ويحللها.

الدرس
الأول

السلالات البشرية فى العالم



تمهيد

* **كيف نشأت السلالات البشرية ؟** فى أواخر عصر البلايستوسين انتشر الإنسان فى قارات العالم المختلفة (خاصة قارات العالم القديم)، ومع استقراره فى البيئات المختلفة بدأ يؤثر فيها ويتأثر بها، فظهرت اختلافات فى الصفات الوراثية بين البشر من حيث (لون البشرة - طول القامة - حجم الرأس - شكل العين والأنف)، وهنا **نشأت السلالات البشرية**.

ما المقصود بـ: السلالة البشرية؟
مجموعة بشرية تتشابه فى صفاتها الجسمية الخارجية (الشكل الخارجى).

السلالات البشرية الرئيسية فى العالم تنقسم إلى ثلاث سلالات رئيسية، هى :

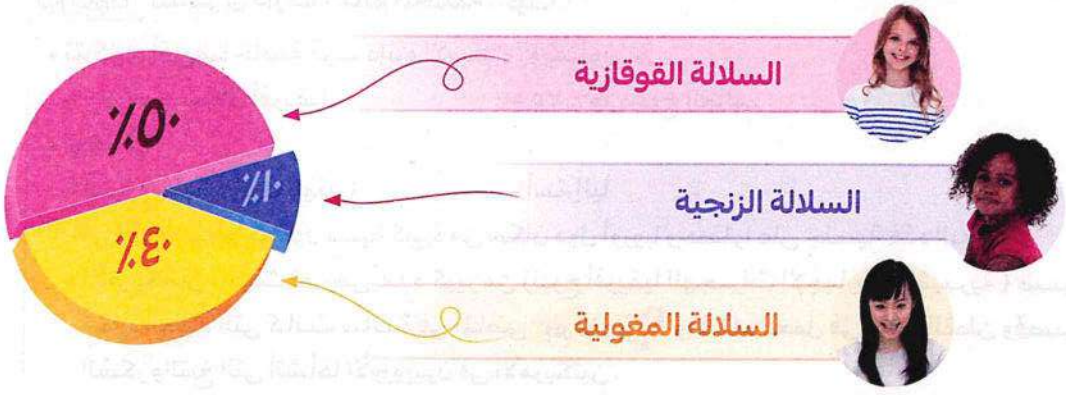

* يختلف توزيع السلالات البشرية فى قارات العالم كما فى الخريطة التالية :

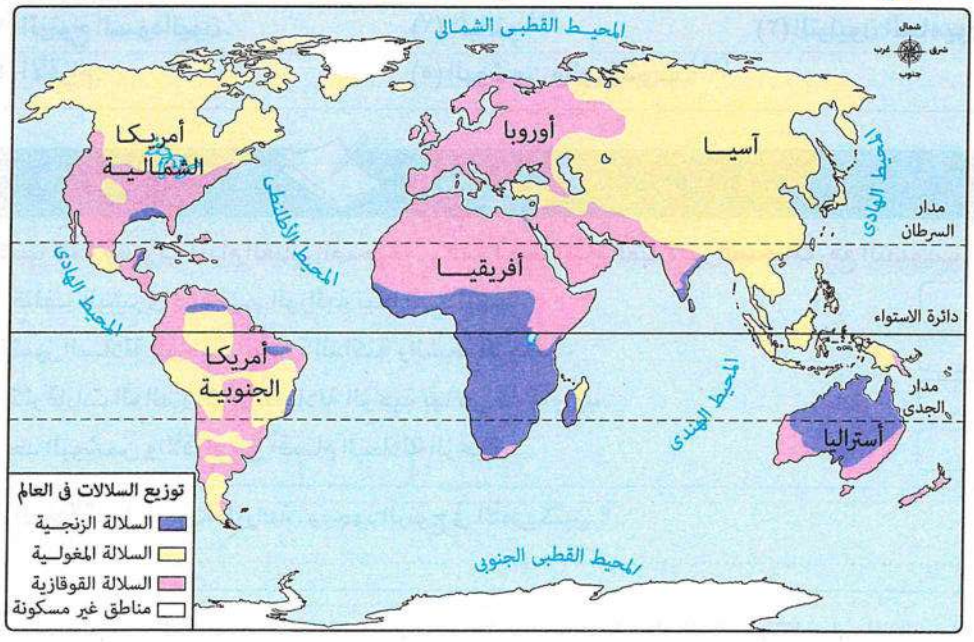

١ السلالة الزنجية





مميزاتها

* البشرة الداكنة.
* الأنف العريض.
* الشعر الأجعد.
* الشفاه الغليظة.

نسبتها تبلغ حوالى ١٠ ٪ فقط من جملة سكان العالم.

توزيعها تنتشر فى قارات العالم المختلفة، حيث :

- تتركز فى أفريقيا خاصة قرب دائرة الاستواء، ويمثلون :
  - ٧٠ ٪ من سكان أفريقيا.
  - ٧٥ ٪ من زنوج العالم.
- توجد فى :
  - آسيا (جنوب شرق الهند).
  - أستراليا.
  - أوروبا : أصبحوا يمثلون نسبة كبيرة من سكان دول أوروبا وحصلوا على جنسية هذه الدول.
  - الأمريكتين : حيث تعرض عدد كبير من زنوج أفريقيا للهجرات الإجبارية (القسرية) ضمن تجارة العبيد التى كانت سائدة فى الماضى **بم تفسر؟** وذلك للعمل فى مزارع القطن وقصب السكر والتبغ التى أنشأها الأوروبيون فى الأمريكتين.

من أقسامها

(١) الزنوج السودانيون. (٢) البانتو.(*) (٣) النيليون الحاميون.
(٤) الأقزام. (٥) البوشمن والهوتنتوت.(**)

التدريب الأول

١ اكتب كلمة (صواب) أمام العبارة الصحيحة، وكلمة (خطأ) أمام العبارة غير الصحيحة، مع التصويب :

(١) يختلف البشر فى صفاتهم الوراثية تبعًا لسلالتهم. ☐
(٢) تتميز السلالة الزنجية بالبشرة الداكنة والشعر الأجعد. ☐
(٣) أكثر قارات العالم فى تركز السلالة الزنجية بها هى قارة أوروبا. ☐
(٤) يُعد البوشمن والأقزام من أقسام السلالة الزنجية. ☐

٢ ما العلاقة بين : حرفة الزراعة، ووجود الزنوج فى الأمريكتين ؟

.....

(*) البانتو : أكبر المجموعات البشرية الموجودة فى أفريقيا وأكثرها اختلاطًا بالسلالة القوقازية وتنتشر على طول الحدود فى كينيا، أوغندا، الكونغو، نيجيريا.

(**) البوشمن والهوتنتوت : يعيشون فى جنوب غرب أفريقيا والبوشمن قصار القامة ويتميزون بالشعر المفلفل والجبهة البارزة أما الهوتنتوت أطول قليلًا ويشتركون فى الصفات الأخرى.

٢ السلالة المغولية

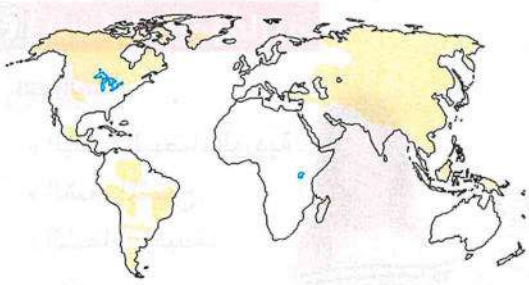



مميزاتها

* البشرة الصفراء.
* العيون المنحرفة.
* الشعر الأسود المسترسل.

نسبتها

تزيد على ٤٠ ٪ من جملة سكان العالم.

بم تفسر تزيد نسبة الجنس المغولى عن ٤٠ ٪ من سكان العالم ؟

لأن النسبة الكبرى من سكان الصين ودول شرق وجنوب شرق آسيا (أكثر دول العالم سكانًا) ينتمون إلى السلالة المغولية.

توزيعها

* تتركز فى آسيا، فى :

الصين - اليابان - كوريا - منغوليا - سيبيريا - دول جنوب شرق القارة.

* توجد فى : بعض المناطق فى الأمريكتين.

من أقسامها

(١) **الإسكيمو**(*) : يعيشون فى شمال كندا وألاسكا.

(٢) **الهنود الحمر** : يعيشون فى الأمريكتين.

(٣) **جماعة التنجوس** : يعيشون فى سيبيريا.

التدريب الثانى

١ صوب ما تحته خط :

(١) يعيش الإسكيمو فى الأمريكتين. (.....)

(٢) يتميز سكان اليابان بالبشرة الصفراء والأنف العريض والشعر الأجعد. (.....)

(٣) يعيش الهنود الحمر فى سيبيريا. (.....)

٢ بم تفسر : تمثل السلالة المغولية أكثر من $\frac{١}{٣}$ سكان العالم ؟

.....

(*) إسكيمو : كلمة معناها آكلو اللحوم النيئة وأول من أطلق عليهم هذا الاسم بعض قبائل الهنود الأمريكيين.

٣ السلالة القوقازية

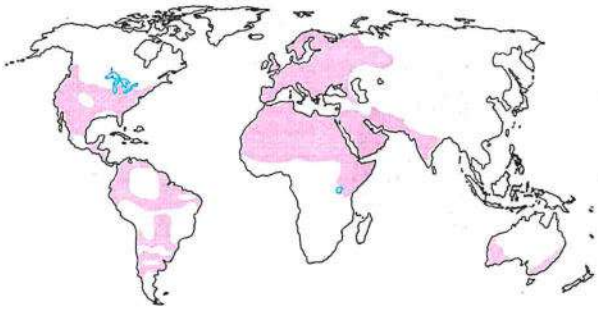



مميزاتها

* البشرة البيضاء الوردية.
* الشعر المتموج.
* الشفاه الرفيعة.

نسبتها

تبلغ حوالى ٥٠ ٪ من جملة سكان العالم.

توزيعها تنتشر فى قارات العالم المختلفة، فى :

- أوروبا.
- أمريكا الشمالية.
- أمريكا الجنوبية.
- أستراليا.
- آسيا.
- أفريقيا : يتركزون شمال الصحراء الكبرى فى الدول العربية ، كما فى :

مصر - ليبيا - تونس - الجزائر - المغرب.

من أقسامها

(١) **مجموعة سكان حوض البحر المتوسط** : ينتمى لها العرب وكذلك عدد كبير من سكان جنوب أوروبا.

(٢) **المجموعة الألبية** : هم سكان غرب ووسط أوروبا.

(٣) **المجموعة النوردية الشمالية** : ينتمى لها معظم سكان دول شمال أوروبا.

التدريب الثالث

١ اختر الإجابة الصحيحة مما بين القوسين :

(١) ينتمى السكان فى مصر والمغرب والجزائر إلى ..... (المجموعة الألبية - مجموعة سكان حوض البحر المتوسط - النيليون الحاميون - المجموعة النوردية الشمالية)

(٢) المجموعة الألبية إحدى أقسام السلالة القوقازية وتمثل سكان .....
(جنوب أوروبا - جنوب وشرق أوروبا - شمال أوروبا - وسط وغرب أوروبا)

(٣) يعيش السكان الذين ينتمون إلى المجموعة النوردية بدول شمال قارة .....
(آسيا - أوروبا - أستراليا - أفريقيا)

٢ حدد : الصفات الجسمانية التى تميز السلالة القوقازية عن غيرها.

.....

السلالات فى الوقت الحاضر

* انصهرت السلالات البشرية واختلطت(*) الصفات الطبيعية التى تميز كل سلالة عن الأخرى، فلا يوجد فى الوقت الحاضر سلالات نقية فى العالم إلا فى بعض المجتمعات البدائية **مثل :**

١ **بعض الزنوج قصار القامة :** الذين يعيشون فى غابات حوض الكونغو وصحراء كلهارى بأفريقيا ولم يختلطوا بغيرهم من السلالات وفى طريقهم للانقراض.

٢ **الإسكيمو (سلالة مغولية) :** الذين يعيشون فى صحارى التندرا الباردة شمال كندا.

٣ **الهنود الحمر (سلالة مغولية) :** الذين يعيشون فى غابات وجبال أمريكا الجنوبية.

٤ **الأستراليون الأصليون (سلالة زنجية).**

* لا توجد دولة فى العالم يتكون شعبها من سلالة واحدة **أعط أمثلة**

- **الولايات المتحدة الأمريكية :** يضم شعبها سلالات مختلفة **حيث :**
  - السلالة المغولية : وهم الهنود الحمر الذين يمثلون السكان الأصليين.
  - السلالة القوقازية : وهم السكان البيض القادمون من أوروبا.
  - السلالة الزنجية : وهم القادمون عن طريق الهجرة الإجبارية من أفريقيا.
- **الدول العربية :** العرب ليسوا من سلالة واحدة، فالأغلبية العربية من السلالة القوقازية ولكن مع حدوث الفتوحات والهجرات على مر التاريخ حدث اختلاط مع السلالات الأخرى.

نستخلص مما سبق أن

السلالات البشرية أصلها واحد ولكن تم تقسيمها على أسس ظاهرية (حسب الشكل الخارجى) وليست جوهرية فلا توجد سلالة أكثر ذكاءً من سلالة أخرى أو أكثر منها قدرة على العمل والإبداع.

التدريب الرابع

١ **ما النتائج المترتبة على :** انصهار السلالات البشرية واختلاط صفاتها الطبيعية ؟

.....

٢ **دلل جغرافيًا على صحة كل عبارة مما يأتى :**

(١) تنتمى السلالات النقية فى قارتى أمريكا الشمالية وأمريكا الجنوبية لسلالة واحدة.

.....

(٢) أثرت الهجرات على تعدد السلالات فى الولايات المتحدة الأمريكية.

.....

(*) أمثلة لاختلاط السلالات : نتج عن اختلاط الأوروبيين بالزنوج فى أمريكا الجنوبية سلالة ثانوية تعرف بالمشيزو وباختلاط الأوروبيين بالهنود الحمر نتجت سلالة المولاتو وباختلاط الزنوج مع الهنود الحمر نتجت سلالة الزامبو، وكل هذه السلالات بصفاتها المختلفة توجد بأمريكا الجنوبية.

أهم نقاط الدرس

يقصد بـ :

السلالة البشرية مجموعة بشرية تتشابه فى صفاتها الجسمية الخارجية (الشكل الخارجى).

السلالات البشرية الرئيسية فى العالم





	السلالة الزنجية	السلالة المغولية	السلالة القوقازية
مميزاتها	* البشرة الداكنة. * الأنف العريض. * الشعر الأجعد. * الشفاه الغليظة.	* البشرة الصفراء. * العيون المنحرفة. * الشعر الأسود المسترسل.	* البشرة البيضاء الوردية. * الشعر المتموج. * الشفاه الرفيعة.
نسبتها من سكان العالم	٪١٠	٪٤٠	٪٥٠
توزيعها	* **تتركز فى أفريقيا ويمثلون :** • ٧٠ ٪ من سكان أفريقيا. • ٧٥ ٪ من زنوج العالم. * **توجد فى :** • آسيا (جنوب شرق الهند). • أوروبا. • أستراليا. • الأمريكتين (بسبب الهجرة الإجبارية).	* **تتركز فى آسيا فى :** • الصين. • اليابان. • كوريا. • منغوليا. • سيبيريا. • دول جنوب شرق القارة. * توجد فى بعض المناطق فى الأمريكتين.	* **تنتشر فى قارات العالم المختلفة فى :** • أوروبا. • أمريكا الشمالية. • أمريكا الجنوبية. • أستراليا. • أفريقيا. • آسيا.
من أقسامها	١ الزنوج السودانيون. ٢ البانتو. ٣ النيليون الحاميون. ٤ الأقزام. ٥ البوشمن والهوتنتوت.	١ الإسكيمو. ٢ الهنود الحمر. ٣ جماعة التنجوس.	١ مجموعة سكان حوض البحر المتوسط (وينتمى لهم العرب). ٢ المجموعة الألبية. ٣ المجموعة النوردية الشمالية.

* أدى انصهار السلالات البشرية واختلاط الصفات الطبيعية التى تميز كل سلالة عن الأخرى إلى عدم وجود سلالات نقية فى العالم إلا فى بعض المجتمعات البدائية **مثل :**
  - بعض الزنوج قصار القامة فى غابات حوض الكونغو وصحراء كلهارى بأفريقيا.
  - الإسكيمو فى صحارى التندرا الباردة شمال كندا. • الهنود الحمر فى غابات وجبال أمريكا الجنوبية.
  - الأستراليون الأصليون.
* لا توجد دولة فى العالم يتكون شعبها من سلالة واحدة.
* الأسس التى تم تقسيم السلالات البشرية عليها هى أسس ظاهرية وليست جوهرية فلا توجد سلالة أكثر ذكاءً من سلالة أخرى أو أكثر منها قدرة على العمل والإبداع.

أسئلة على الدرس الأول

أسئلة تفاعلية

تذكر • فهم • تطبيق • مستويات عليا

١ استعن بخريطة العالم التى أمامك وأجب عما يأتى :

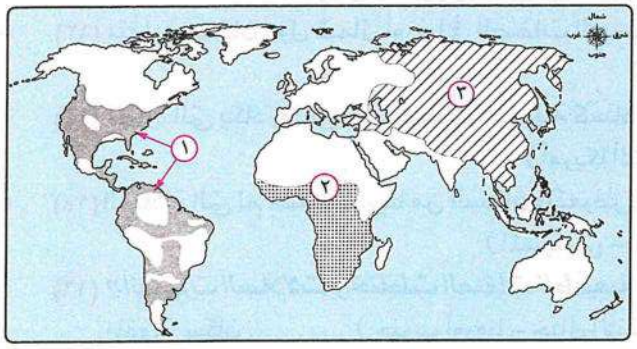

(١) السلالة البشرية .....

(٢) السلالة البشرية .....

(٣) السلالة البشرية .....

٢ اختر الإجابة الصحيحة من بين البدائل التالية :

(١) تتميز ..... بالبشرة الداكنة والأنف العريض والشعر الأجعد.

(السلالة القوقازية - السلالة الزنجية - المجموعة النوردية - السلالة المغولية) (السويس ١٩)

(٢) أى من الأشكال الآتية يعبر عن نسبة السلالة الزنجية بقارة أفريقيا ؟ .....

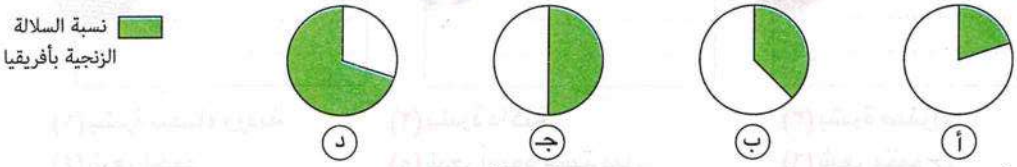

(٣) أدت الهجرة الإجبارية إلى وجود السلالة الزنجية فى .....

(آسيا - أفريقيا - أوروبا - الأمريكتين) (القليوبية ٢٤)

(٤) السلالة الأقل نسبة فى العالم هى الأكثر انتشارًا فى قارة .....

(أوروبا - أفريقيا - أمريكا الشمالية - آسيا)

(٥) تتركز السلالة المغولية فى قارة ..... (أفريقيا - آسيا - أوروبا - أستراليا)

(٦) تتركز فى دول جنوب شرق آسيا .....

(السلالة المغولية - السلالة الزنجية - السلالة القوقازية - المجموعة النوردية)

(٧) يتشابه سكان دولة الصين فى صفاتهم الخارجية مع سكان دولة .....

(إسبانيا - كوريا - أستراليا - الكونغو)

(٨) من أقسام السلالة المغولية ..... (المجموعة الألبية - جماعة التنجوس - الأقزام - البانتو) (بورسعيد ٢٣)

(٩) أى من الدول الآتية يتشابه سكانها مع سكان سيبيريا فى البشرة الصفراء والشعر الأسود المسترسل ؟ ..... (ليبيا - تونس - منغوليا - المغرب)

(١٠) تشمل السلالة ..... نصف سكان العالم وتنتشر فى قارات العالم المختلفة.

(القوقازية - الزنجية - النقية - المغولية) (الفيوم ٢٢)

(١١) البشرة البيضاء الوردية أحد صفات .....
(الهوتنتوت - جماعة التنجوس - الإسكيمو - المجموعة النوردية الشمالية) (البحر الأحمر ٢٤)

(١٢) سكان غرب ووسط أوروبا ينتمون إلى .....
(المجموعة النوردية الشمالية - المجموعة الألبية - البانتو - الإسكيمو) (أسوان ٢٤)

(١٣) يتقارب سكان دول شمال أوروبا فى الصفات الجسمية الخارجية مع سكان .....
(تونس - اليابان - جزر إندونيسيا - ألاسكا)

(١٤) القارة التى يكاد يختفى منها السلالة المغولية كسلالة رئيسية .....
(أمريكا الشمالية - أمريكا الجنوبية - آسيا - أستراليا)

(١٥) السلالة التى لم تختلط بغيرها من السكان وتتعرض للانقراض تتركز فى حوض نهر.....
(المسيسبى - النيل - الكونغو - سانت لورانس) (بورسعيد ٢٤)

(١٦) «***انصهرت السلالات واختلطت الصفات الطبيعية التى تميز كل سلالة عن الأخرى***» . خالف هذه المقولة سكان .....(جنوب أوروبا - جبال الإنديز - غرب آسيا - شمال أفريقيا) (الشرقية ٢٤)

٣ حدد السلالة البشرية التى تمثلها كل صورة من الصور التالية، واختر الصفات الجسمية التى تميزها :



(أ) السلالة :.....
الصفات : .....
.....
.....



(ب) السلالة :.....
الصفات : .....
.....
.....



(جـ) السلالة :.....
الصفات : .....
.....
.....

(١) بشرة بيضاء وردية.
(٢) بشرة داكنة.
(٣) بشرة صفراء.
(٤) شعر أجعد.
(٥) شعر أسود مسترسل.
(٦) شعر متموج.
(٧) أنف عريض.
(٨) شفاه رفيعة.
(٩) عيون منحرفة.

٤ املأ البطاقات الآتية بما يناسبها من أقسام السلالات التى تليها :

(أ) أقسام السلالة الزنجية	(ب) أقسام السلالة المغولية	(جـ) أقسام السلالة القوقازية
.....	.....	.....
.....	.....	.....

(١) الإسكيمو.
(٢) المجموعة الألبية.
(٣) الأقزام.
(٤) البوشمن والهوتنتوت.
(٥) المجموعة النوردية الشمالية.
(٦) جماعة التنجوس.

٥ حدد السلالة البشرية المنتشرة فى كل منطقة من المناطق الآتية :

(١) شمال كندا وألاسكا. (.....)
(٢) سيبيريا واليابان. (.....)
(٣) غرب ووسط أوروبا. (.....)
(٤) شمال الصحراء الكبرى. (.....)
(٥) المناطق الاستوائية بأفريقيا. (.....)
(٦) دول جنوب شرق آسيا. (.....)
(٧) دول شمال أوروبا. (.....)
(٨) منغوليا. (.....)

٦ اكتب كلمة (صواب) أمام العبارة الصحيحة، وكلمة (خطأ) أمام العبارة غير الصحيحة، مع التصويب :

(١) انتشر الإنسان فى قارات العالم المختلفة فى أواخر عصر البلايستوسين. ( )

(٢) نشأت السلالات البشرية نتيجة الاختلافات فى الصفات الوراثية الظاهرية بين البشر. ( )

(٣) تتركز السلالة الزنجية قرب دائرة الاستواء فى أفريقيا. ( )

(٤) تُعد منطقة جنوب شرق الهند من المناطق التى يوجد بها سلالة زنجية. ( )

(٥) يعتبر البانتو والنيليون الحاميون من أقسام السلالة الزنجية. (البحر الأحمر ١٨) ( )

(٦) تتميز السلالة المغولية بالبشرة البيضاء والشعر الموج والشفاه الرفيعة. (القليوبية ٢٠) ( )

(٧) ينتمى معظم سكان الصين للسلالة القوقازية. ( )

(٨) تنتمى جماعة التنجوس فى سيبيريا إلى السلالة الزنجية. (بنى سويف ٢٤) ( )

(٩) تُعد الإسكيمو من نماذج السلالات النقية فى شمال كندا. ( )

(١٠) يتم التمييز بين السلالات البشرية على أساس اللغة التى يتكلمونها. ( )

٧ بم تفسر... ؟

(١) نشأة السلالات البشرية المختلفة. (البحيرة ٢٤)

.....

(٢) تعرض عدد كبير من الزنوج بأفريقيا للهجرات القسرية إلى الأمريكتين. (الإسكندرية ٢٤)

.....

(٣) زيادة نسبة السلالة المغولية عن ٤٠ ٪ من سكان العالم. (القليوبية ٢٤)

.....

(٤) ندرة وجود السلالات النقية فى الوقت الحاضر. (الإسماعيلية ٢٣)

.....

(٥) العرب الآن لا ينتمون إلى سلالة بشرية واحدة. (السويس ٢٥)

.....

٨ دلل جغرافيًا على صحة كل عبارة مما يأتى :

(١) عدم وجود سلالة نقية فى الوقت الحاضر إلا فى المجتمعات البدائية.

.....

(٢) توجد سلالات نقية فى قارتى أفريقيا وأمريكا الجنوبية

.....

(٣) ساهم الأوروبيون فى تنوع السلالات البشرية بالولايات المتحدة الأمريكية. (الشرقية ٢٥)

.....

٩ قارن بين : السلالة الزنجية، والسلالة المغولية، من حيث :

* الصفات الوراثية. * أهم الأقسام. * أماكن الانتشار.

.....

.....

١٠ ما رأيك فى العبارة الآتية :

بعض السلالات البشرية تعتبر نفسها أكثر ذكاءً وقدرة على العمل والإبداع ؟ (الغربية ٢٥)

.....

١١ ماذا يحدث إذا : لم يستقر الإنسان فى بيئات مختلفة (بالنسبة للسلالات البشرية) ؟ (المنيا ٢٥)

.....

١٢ فى ضوء ما درست حدد أوجه الشبه بين : الهنود الحمر، والإسكيمو.

.....

أسئلة للتميز

١٣ اكتب كلمة (صواب) أمام العبارة الصحيحة، وكلمة (خطأ) أمام العبارة غير الصحيحة، مع ذكر السبب فى الحالتين :

(١) كان المحيط الأطلنطى بمثابة جسرًا لهجرات الزنوج الإجبارية قديمًا. ( )

(٢) تكاد تتشابه قارتى أفريقيا وأستراليا فى أنواع السلالات البشرية الرئيسية المنتشرة بهما. ( )

(٣) يتشابه سكان شمال البحر المتوسط فى مظهرهم الخارجى مع الشعوب العربية. ( )

(٤) تنتشر السلالة الزنجية والسلالة القوقازية بجزيرة مدغشقر. ( )

(٥) تُعد إندونيسيا من الدول التى تنتشر بها السلالة المغولية. ( )

١٤ دلل على صحة العبارة : لعبت الأطماع الاقتصادية للأوروبيين دورًا مؤثرًا فى التركيب السكانى للأمريكتين.

.....

١٥ *«السلالات البشرية أصلها واحد وتم تقسيمها على أسس ظاهرية وليست جوهرية».*

فى ضوء ذلك حدد لأى سلالة بشرية تنتمى كل شخصية مما يأتى :



..... (١) ..... (٢) ..... (٣) ..... (٤) ..... (٥) ..... (٦) .....

امتحان ؟ على الدرس الأول

١ (أ) أمامك خريطة للعالم، اكتب ما تدل عليه الأرقام التى عليها :

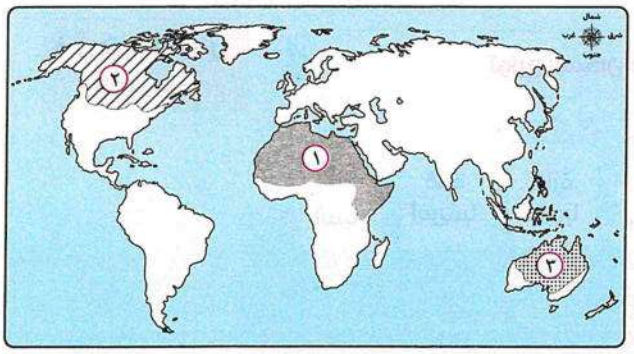

(١) السلالة المغولية يمثلها رقم .....

(٢) السلالة الزنجية يمثلها رقم .....

(٣) السلالة القوقازية يمثلها رقم .....

(ب) اختر الإجابة الصحيحة مما بين القوسين :

(١) ينتمى معظم العرب إلى .....

(السلالة المغولية - السلالة القوقازية - السلالة الزنجية - جماعة الإسكيمو) (الأقصر ٢٥)

(٢) أى من المناطق الآتية يوجد بها إحدى السلالات البشرية الزنجية النقية ؟ .....

(جبال أمريكا الجنوبية - صحارى التندرا - صحراء كلهارى - هضبة شبه الجزيرة العربية)

(جـ) اكتب كلمة (صواب) أمام العبارة الصحيحة، وكلمة (خطأ) أمام العبارة غير الصحيحة، مع ذكر السبب فى الحالتين :

(١) تتفق سهول سيبيريا مع شمال كندا وألاسكا فى المناخ والسلالة البشرية. (الإسماعيلية ٢٥) ( )

(٢) على الرغم من أن معظم قارة أوروبا سلالة بشرية واحدة إلا إنها مختلفة فى أقسامها. ( )

(د) ماذا يحدث إذا : لم تنصهر السلالات البشرية ولم تختلط صفاتها الطبيعية ؟

---

٢ (أ) اكتب ما تشير إليه كل عبارة مما يأتى :

(١) مجموعة بشرية تتشابه فى صفاتها الجسمية الخارجية. (البحر الأحمر ٢٢)

(٢) سلالة بشرية تتميز بالعيون المنحرفة والشعر الأسود المسترسل. (الأقصر ٢٤)

(ب) صنف الأقسام الآتية إلى السلالة البشرية التى تنتمى إليها :

(١) البانتو. (القليوبية ٢٥) (٢) النيليون الحاميون. (٣) الهنود الحمر.

(جـ) دلل جغرافيًا على صحة العبارتين الآتيتين :

(١) أسس تقسيم السلالات البشرية أسس ظاهرية وليست جوهرية. (بنى سويف ٢٢)

(٢) اختلاف الشكل الخارجى لسكان المناطق الاستوائية فى قارة آسيا عن الموجودة فى قارة أفريقيا.

(د) حدد الأثر الناتج عن : استقرار الإنسان فى بيئاته المختلفة بالنسبة للسلالات البشرية.

الدرس
الثانى

توزيع السكان فى العالم

فى هذا الدرس سندرس

توزيع السكان فى قارات العالم

- قارة آسيا
- قارة أفريقيا
- قارة أوروبا
- قارة أمريكا الشمالية
- قارة أمريكا الجنوبية
- قارة أستراليا



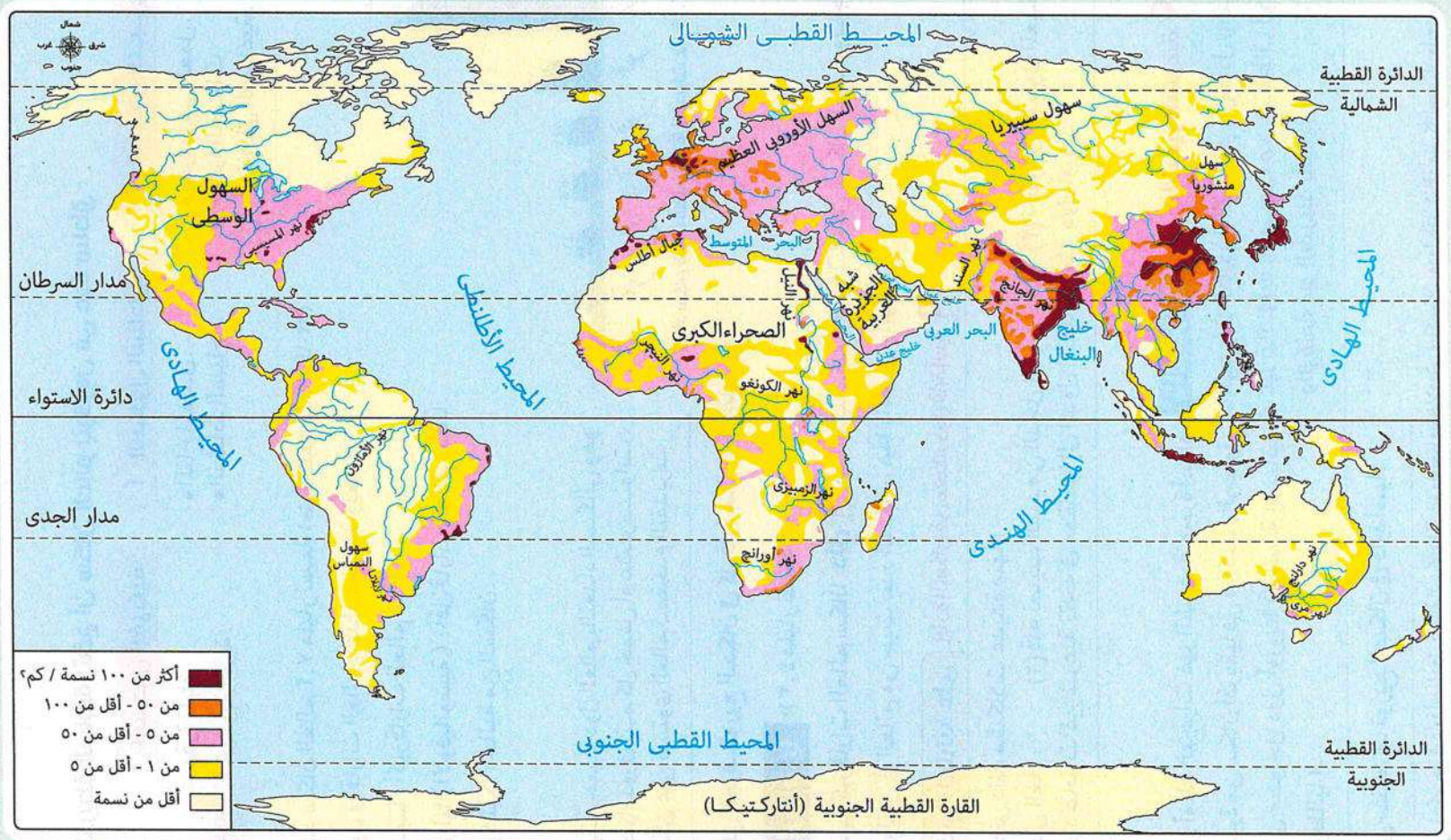

توزيع سكان العالم

* من الخريطة السابقة يتضح أن سكان العالم يتركزون فى عدة مناطق :

	١ السهول الفيضية	٢ السهول الساحلية	٣ المدن الكبرى
بسبب	• وفرة المياه. • خصوبة التربة.	• المناخ المعتدل. • النشاط السياحى.	• وفرة فرص العمل. • وفرة الخدمات والمناطق الصناعية.

* بلغ عدد سكان العالم ٧,٢ مليار نسمة (طبقًا لتقديرات عام ٢٠١٤م)

يوزعون فى قارات العالم بأعداد مختلفة وتُعد :

- آسيا : أكبر قارات العالم سكانًا.
- أستراليا (الأوقيانوسية) : أقل قارات العالم سكانًا.
- أنتاركتيكا : خالية من السكان.

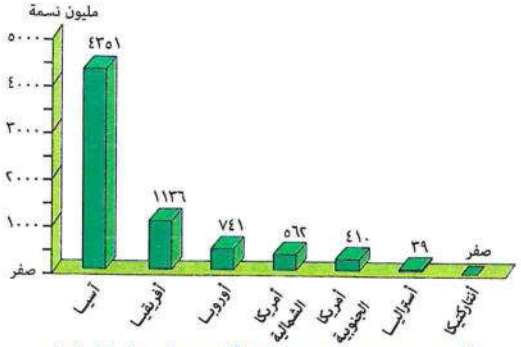

أعداد سكان قارات العالم (طبقًا لتقديرات عام ٢٠١٤م)

تهتم جميع دول العالم بالتعداد السكانى وهو إجراء دورى يتم كل خمس أو عشر سنوات، ولكن على مستوى العالم تُستخدم التقديرات.

* فيما يلى نتعرف توزيع السكان فى كل قارة بشىء من التفصيل.

١ قارة آسيا «٤,٣ مليار نسمة».

* تُعد آسيا أكبر قارات العالم سكانًا **دلل ؟** حيث يسكنها نحو ٦٠٪ من سكان العالم ويوجد بها أكبر دولتين فى العالم من حيث عدد السكان، هما : الصين والهند.

ما النتائج المترتبة على زيادة السكان فى معظم دول قارة آسيا ؟

ترتب على ذلك مشكلات عديدة منها :
(١) نقص الغذاء. (٢) قلة نصيب الفرد من الدخل القومى. (٣) انخفاض مستوى المعيشة.
(٤) وجود هجرات غير شرعية تتجه فى معظمها إلى الدول المتقدمة، مثل دول أوروبا.

من أمثلة الهجرات غير الشرعية هجرة أعداد كبيرة من سكان أفريقيا فى مراكب والوصول إلى سواحل دول أوروبا (خاصة إسبانيا وإيطاليا).

ما المقصود بـ : الهجرات غير الشرعية ؟

الهجرات الخارجية التى تتم من خلال وسائل غير قانونية والهروب من سلطات الحدود والإقامة غير الشرعية بالبلاد.

وفيما يلى سنتعرف توزيع السكان فى قارة آسيا.

(*) يوجد فى قارة آسيا دول كثيفة السكان مثل إندونيسيا وبنجلاديش وباكستان، ودول أقل كثافة مثل كازاخستان وأرمينيا.

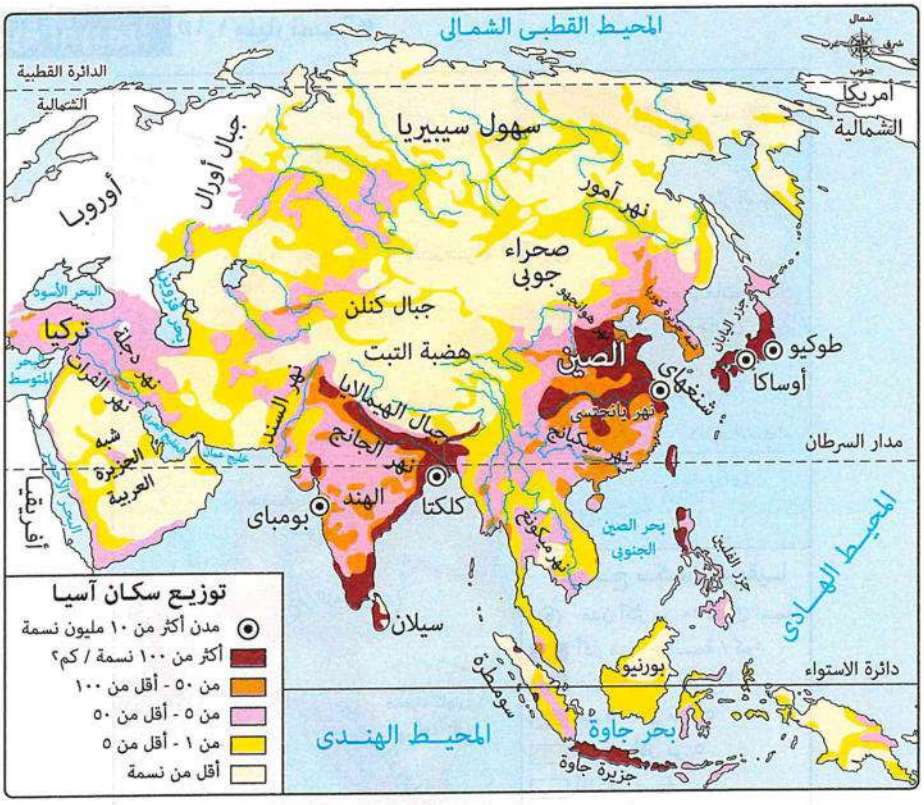

* **يتضح من الخريطة السابقة أن توزيع سكان قارة آسيا كالتالى :**

يتركز السكان فى

- **السهول الفيضية** مثل سهول نهر يانجتسى فى الصين.
  سهول نهر الجانج فى الهند.
- **الجزر ذات التربة الجيدة** مثل جزيرة جاوة (*أكثر مناطق العالم ازدحامًا بالسكان*).
  جزر اليابان.
  جزر الفلبين.

يقل السكان فى

- **المناطق الشمالية** مثل سهول سيبيريا، وذلك لبرودة الجو.
- **المناطق الصحراوية** مثل شبه الجزيرة العربية.
- **المناطق الجبلية والهضبية (وسط القارة)** بسبب وعورة السطح.

٢ قارة أفريقيا «١,١ مليار نسمة».

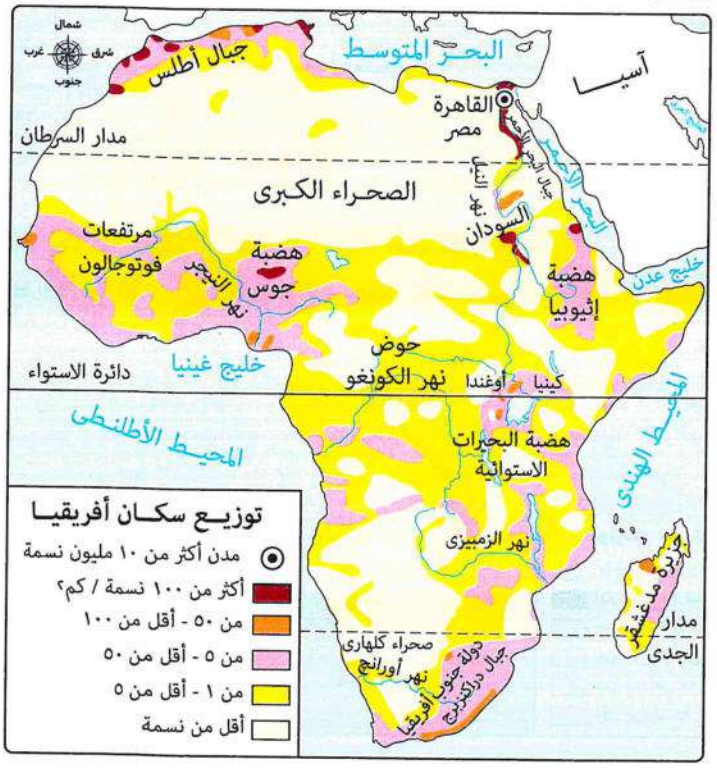

* يتضح من الخريطة السابقة أن توزيع سكان قارة أفريقيا كالتالى :

يتركز السكان فى

- السهول الفيضية الخصبة — مثل سهول وادى النيل فى مصر والسودان.
- السهول الساحلية المعتدلة الخصبة — مثل سواحل البحر المتوسط فى مصر ودول المغرب العربى. / سواحل دولة جنوب أفريقيا.
- المناطق مرتفعة السطح فى الدول المدارية — مثل أوغندا، كينيا وذلك لاعتدال المناخ **بسبب** ارتفاع السطح.

يقل السكان فى

- المناطق الاستوائية — بسبب نمو الغابات الكثيفة، والبيئة الطبيعية القاسية حيث تنتشر الأمراض.
- النطاقات الصحراوية الفقيرة — مثل الصحراء الكبرى. / صحراء كلهارى.
- بعض المناطق الجبلية الوعرة — مثل جبال البحر الأحمر.

دلل يؤثر المناخ فى توزيع سكان قارة أفريقيا ؟ حيث :

- يتركز السكان فى المناطق ذات المناخ المعتدل كما فى السواحل والمناطق مرتفعة السطح.
- يقل السكان فى المناطق الاستوائية الحارة والمناطق الصحراوية.

٣ قارة أوروبا «٧٤١ مليون نسمة».

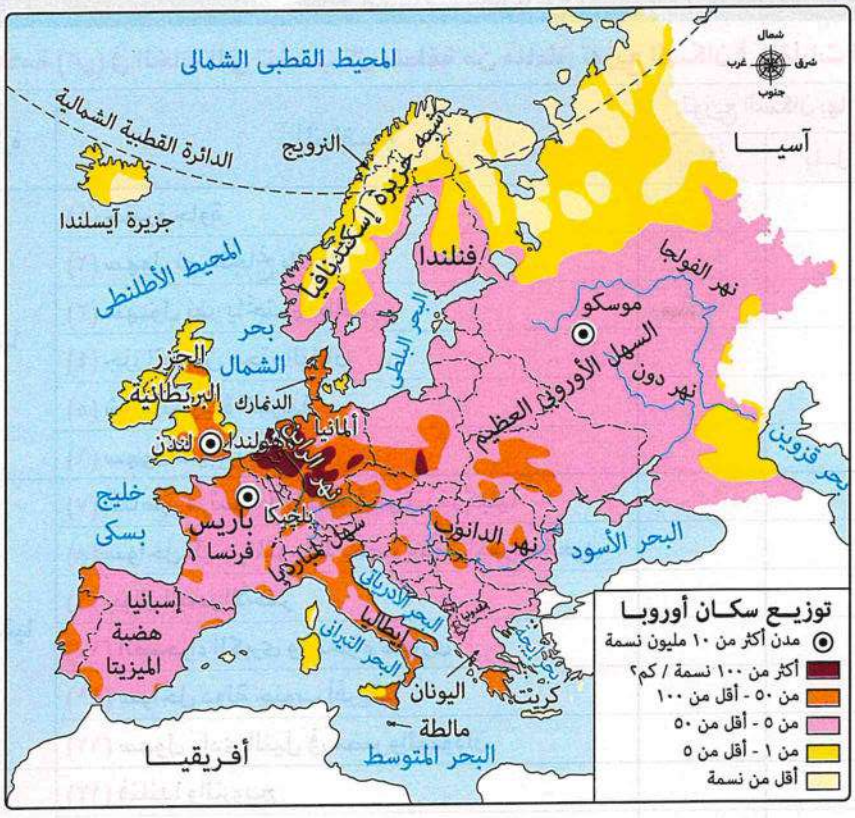

* يتضح من الخريطة السابقة أن توزيع سكان قارة أوروبا كالتالى :

يتركز السكان فى

- **دول غرب ووسط أوروبا** مثل (بريطانيا، ألمانيا، فرنسا، هولندا، إسبانيا) فى
  - المدن والمناطق الصناعية الضخمة مثل لندن. باريس.
  - السهول الزراعية الخصبة مثل السهل الأوروبى العظيم.
- **دول شرق أوروبا** : يتركز السكان بدرجة أقل حيث تُعد أقل فى درجة تقدمها عن دول غرب ووسط أوروبا.

يقـل السكـان فى

- **المناطق الشمالية** مثل (فنلندا، النرويج) بسبب شدة البرودة.
- **المناطق الجبلية الوعرة** مثل جبال الألب.

التدريب الأول

١ ضع علامة (✓) فى الخانة التى تناسب كل منطقة من مناطق توزيع السكان فى القارات الآتية :

القارة	المنطقـــة	توزيع السكان بها	
		يتركز	يقـل
آسيا	(١) جزيرة جاوة		
	(٢) سهول نهر الجانج بالهند		
	(٣) سهـول نهر يانجتسى بالصين		
	(٤) جزر الفلبين وجزر اليابان		
	(٥) شبه الجزيرة العربية		
	(٦) سهول سيبيريا		
أفريقيا	(٧) المناطق مرتفعة السطح فى أوغندا وكينيا		
	(٨) سواحل البحر المتوسط بمصر ودول المغرب العربى		
	(٩) جبال البحر الأحمر		
	(١٠) الصحراء الكبرى وصحراء كلهارى		
	(١١) سواحل دولة جنوب أفريقيا		
	(١٢) سهول وادى النيل فى مصر والسودان		
أوروبا	(١٣) فنلندا والنرويج		
	(١٤) إسبانيا وهولندا		
	(١٥) جبال الألب		
	(١٦) بريطانيا وألمانيا وفرنسا		

٢ دلل على صحة العبارة الآتية :

يمثل ارتفاع السطح سلاح ذو حدين بالنسبة لتوزيع السكان فى قارة أفريقيا.

.....

٣ ما النتائج المترتبة على : زيادة السكان فى معظم دول قارة آسيا ؟

.....

٤ ما العلاقة بين : انتشار الغابات الاستوائية، وتوزيع السكان فى أفريقيا ؟

.....

٤ قارة أمريكا الشمالية «٥٦٢ مليون نسمة».

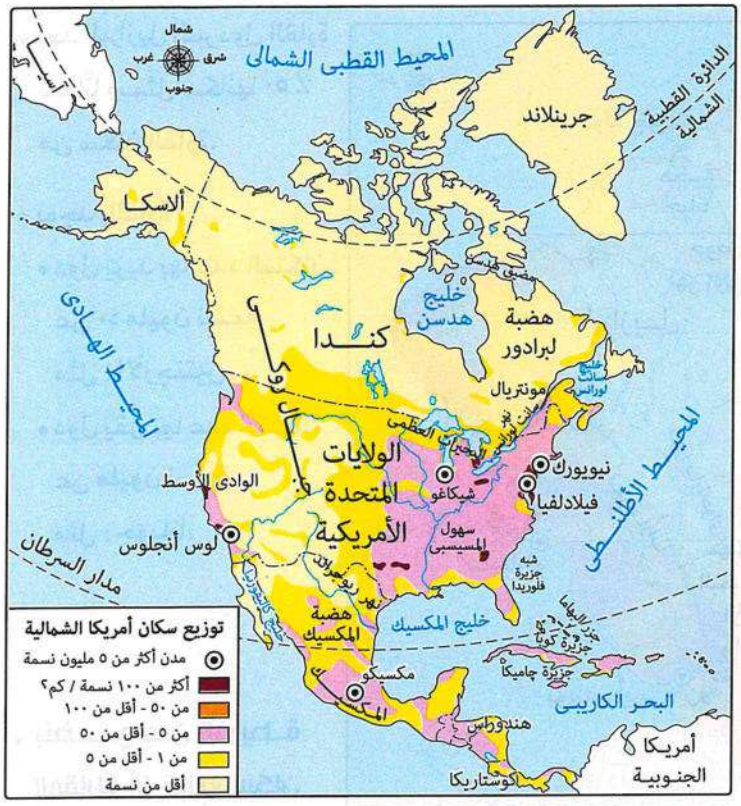

* تضم القارة دول :

- الولايات المتحدة الأمريكية : بها ٥٧ ٪ من سكان القارة.
- المكسيك : بها ٢١ ٪ من سكان القارة.

بها باقى سكان القارة.

- كندا
- دول أمريكا الوسطى (دول البرزخ)
- جزر البحر الكاريبى

* يتضح من الخريطة المقابلة أن توزيع السكان فى دول قارة أمريكا الشمالية كالتالى :

الولايات المتحدة الأمريكية يتركز السكان فى

- الساحل الشمالى الشرقى بسبب وجود الموارد الاقتصادية الضخمة والمدن الكبرى، ومن أكبرها مدينة نيويورك.
- ولايات الوسط بسبب وجود الأقاليم الزراعية (*سهول المسيسبى*).
- منطقة البحيرات العظمى لأنها منطقة ذات موارد اقتصادية ضخمة.

المكسيك يتركز السكان فى

- المدن الرئيسية منها مدينة مكسيكو (*العاصمة*).

كندا يتركز السكان فى

- المدن الكبرى منها مونتريال.

دول البرزخ مثل هندوراس وكوستاريكا

بعض الجزر الصغيرة يقل بها السكان.

٥ قارة أمريكا الجنوبية «٤١٠ مليون نسمة».

* تُعد البرازيل أكبر دول القارة سكانًا ويمثل سكانها ٥٠ ٪ من سكان القارة.

* يوجد بالقارة :

- دول يزيد بها عدد السكان عن ٤٠ مليون نسمة مثل : الأرجنتين.
- دول يقل بها عدد السكان عن مليون نسمة مثل : جويانا.

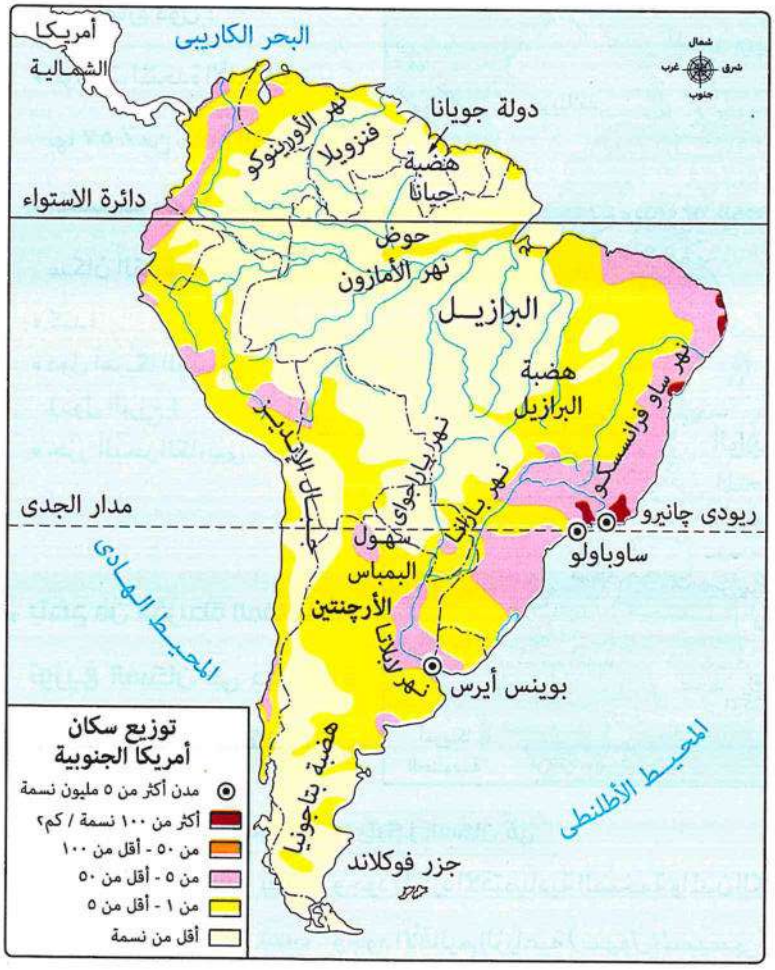

* يتضح من الخريطة المقابلة أن توزيع سكان قارة أمريكا الجنوبية كالتالى :

يتركز السكان فى

- السهول الساحلية.
- السهول الفيضية — مثل: سهول نهر الأورينوكو فى فنزويلا. / سهول لابلاتا والتى تُعرف فى الأرجنتين بـ «سهول البمباس».
- هضبة البرازيل وسواحلها — حيث المدن الكبرى.

يقل السكان فى

- سهول الأمازون الاستوائية بسبب وجود الغابات الاستوائية.
- قمم جبال الإنديز.
- هضبة بتاجونيا : فى جنوب القارة.

٦ قارة أستراليا (الأوقيانوسية) «٣٩ مليون نسمة».

* يتوزع سكان القارة كما يلى :

- ٦٠٪ من سكان القارة فى دولة أستراليا (أكبر دول القارة سكانًا).
- ١١٪ من سكان القارة فى جزيرتى نيوزيلندا الشمالية والجنوبية.
- النسبة الباقية فى : الجزر المتناثرة فى المحيط الهادى، مثل : جزر سولومون.

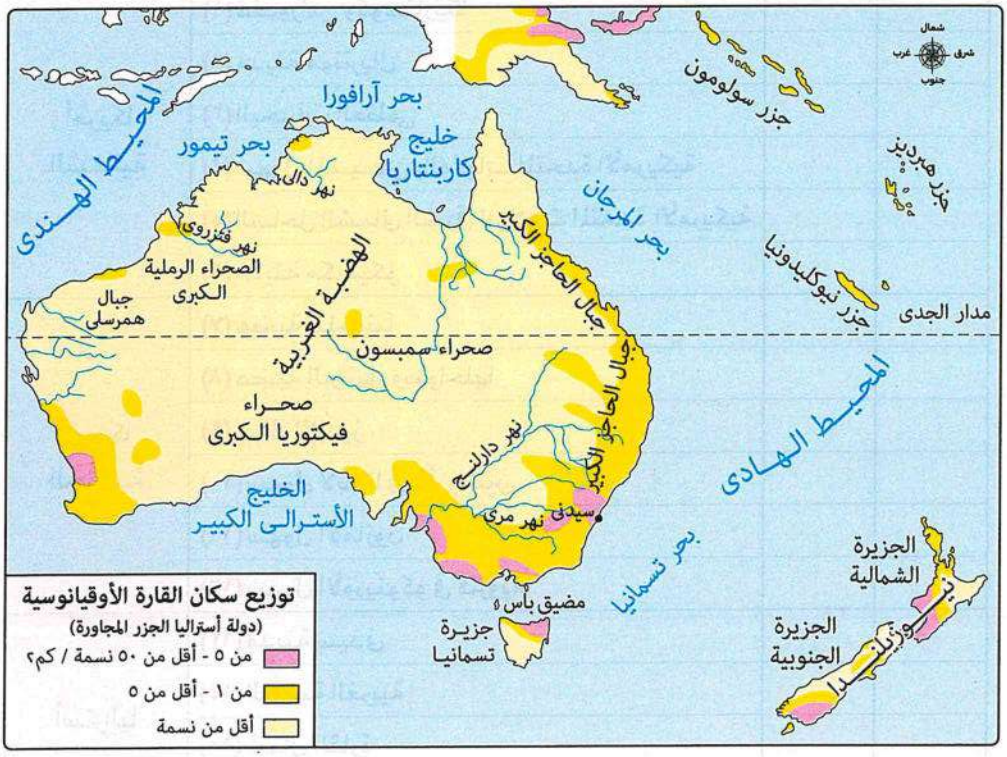

* يتضح من الخريطة السابقة أن توزيع سكان أستراليا كالتالى :

يتركز السكان بأستراليا على

- **السواحل الشرقية** حيث وجود المدن الكبرى، مثل سيدنى والمناطق الصناعية الكبرى.
- **الجنوب الشرقى** حيث الأراضى الزراعية الخصبة وسهول نهرى مرى ودارلنج.

يقل السكان بأستراليا فى

- **الشمال** بسبب وجود الغابات الموسمية وحشائش الساڤانا.
- **الداخل (الوسط) والغرب** بسبب سيادة الظروف الصحراوية.

التدريب الثانى

١ ضع علامة (✓) فى الخانة التى تناسب كل منطقة من مناطق توزيع السكان فى القارات الآتية :

القـــارة	المنطقـــة	توزيع السكان بها	
		يتركز	يقـل
أمريكا الشمالية	(١) هندوراس وكوستاريكا		
	(٢) مدينة مونتريال		
	(٣) البحيرات العظمى		
	(٤) سهول المسيسبى بالولايات المتحدة الأمريكية		
	(٥) الساحل الشمالى الشرقى للولايات المتحدة الأمريكية		
	(٦) مدينة مكسيكو		
أمريكا الجنوبية	(٧) هضبة بتاجونيا		
	(٨) هضبة البرازيل وسواحلها		
	(٩) جبال الإنديز		
	(١٠) سهول لابلاتا فى الأرجنتين		
	(١١) سهول الأمازون		
	(١٢) سهول الأورينوكو فى فنزويلا		
أستراليا	(١٣) مدينة سيدنى		
	(١٤) الهضبة الغربية		
	(١٥) شمال القارة		
	(١٦) سهول نهرى مرى ودارلنج		

٢ بم تفسر ... ؟

(١) تركز السكان فى ولايات الوسط بالولايات المتحدة الأمريكية.

.....

(٢) قلة السكان فى حوض نهر الأمازون بالرغم من أنه أوسع سهول فيضية فى العالم.

.....

(٣) تركز السكان على السواحل الشرقية لقارة أستراليا.

.....

أهم نقاط الدرس

الهجرات غير الشرعية

يقصد بـ : الهجرات الخارجة التى تتم من خلال وسائل غير قانونية والهروب من سلطات الحدود والإقامة غير الشرعية بالبلاد.







	قارة آسيا	قارة أفريقيا	قارة أوروبا
يتركز السكان فى	* السهول الفيضية، **مثل :** • سهول نهر يانجتسى (بالصين). • سهول نهر الجانج (بالهند). * الجزر ذات التربة الجيدة، **مثل :** • جزيرة جاوة (أكثر مناطق العالم ازدحامًا بالسكان). • جزر اليابان. • جزر الفلبين.	* السهول الفيضية الخصبة، **مثل :** سهول وادى النيل فى مصر والسودان. * السهول الساحلية المعتدلة الخصبة، **مثل :** • سواحل البحر المتوسط فى مصر ودول المغرب العربى. • سواحل دولة جنوب أفريقيا. * المناطق مرتفعة السطح فى الدول المدارية، **مثل :** كينيا وأوغندا.	* دول غرب ووسط القارة، **مثل :** بريطانيا وألمانيا وفرنسا وهولندا وإسبانيا **فى :** • المدن والمناطق الصناعية الضخمة، **مثل :** لندن وباريس. • السهول الزراعية الخصبة، **مثل :** السهل الأوروبى العظيم. * دول شرق أوروبا (يتركز فيها السكان بدرجة أقل من دول غرب ووسط أوروبا).
يقل السكان فى	* المناطق الشمالية، **مثل :** سهول سيبيريا (لشدة البرودة). * المناطق الصحراوية، **مثل :** شبه الجزيرة العربية. * المناطق الجبلية والهضبية (وسط القارة) بسبب وعورة السطح.	* المناطق الاستوائية. * النطاقات الصحراوية الفقيرة، **مثل :** • الصحراء الكبرى. • صحراء كلهارى. * بعض المناطق الجبلية الوعرة، **مثل :** جبال البحر الأحمر.	* المناطق الشمالية، **مثل :** فنلندا، والنرويج (لشدة البرودة). * المناطق الجبلية الوعرة، **مثل :** جبال الألب.

	قارة أمريكا الشمالية 	قارة أمريكا الجنوبية 	قارة أستراليا (الأوقيانوسية) 
يتركز السكان فى	* **الولايات المتحدة الأمريكية فى :** • الساحل الشمالى الشرقى. (بسبب وجود الموارد الاقتصادية الضخمة والمدن الكبرى). • ولايات الوسط بسبب وجود الأقاليم الزراعية (سهول المسيسبى). • منطقة البحيرات العظمى. (بسبب الموارد الاقتصادية الضخمة). * **المكسيك فى :** المدن الرئيسية، **مثل :** مدينة مكسيكو (العاصمة). * **كندا فى :** المدن الكبرى، **مثل :** مونتريال.	* السهول الساحلية. * السهول الفيضية، **مثل :** • سهول نهر الأورينوكو فى فنزويلا. • سهول لابلاتا وتعرف فى الأرجنتين بـ «سهول البمباس». * هضبة البرازيل وسواحلها، **حيث :** المدن الكبرى.	* **السواحل الشرقية لأستراليا، حيث :** وجود المدن الكبرى **مثل :** سيدنى، والمناطق الصناعية الكبرى. * **جنوب شرق أستراليا، حيث :** الأراضى الزراعية الخصبة وسهول نهرى مرى ودارلنج.
يقل السكان فى	* **دول البرزخ، مثل :** هندوراس وكوستاريكا. * بعض الجزر الصغيرة.	* سهول الأمازون الاستوائية بسبب وجود الغابات الاستوائية. * قمم جبال الإنديز. * هضبة بتاجونيا فى جنوب القارة.	* شمال أستراليا بسبب وجود الغابات الموسمية وحشائش الساڤانا. * داخل (وسط) وغرب أستراليا بسبب سيادة الظروف الصحراوية.

أسئلة على الدرس الثانى

أسئلة تفاعلية

تذكر • فهم • تطبيق • مستويات عليا

١ (أ) أمامك خريطة للعالم، اكتب ما تدل عليه الأرقام التى عليها :

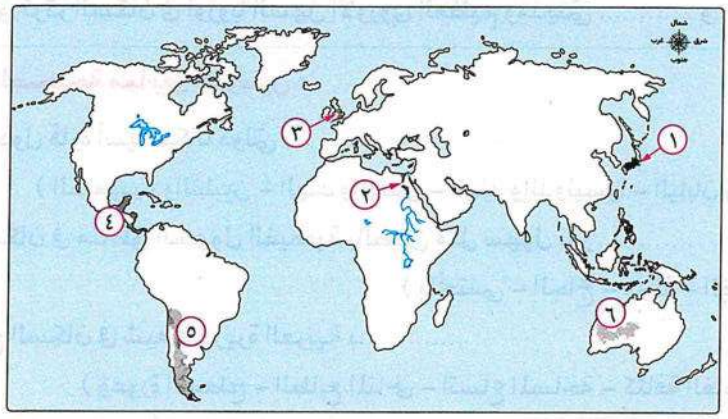

(١) منطقة تركز سكانى .....
(٢) منطقة تركز سكانى .....
(٣) منطقة تركز سكانى .....
(٤) منطقة يقل بها السكان .....
(٥) منطقة يقل بها السكان .....
(٦) منطقة يقل بها السكان .....

(ب) استعن بخريطة العالم التى أمامك، واكتب الرقم المناسب أمام كل عبارة :

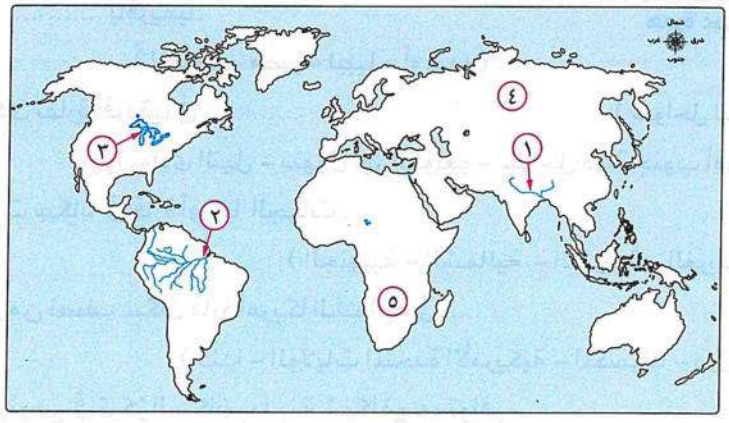

(١) منطقة صحراوية يقل بها السكان .....
(٢) منطقة يقل بها السكان بسبب برودة الجو .....
(٣) سهول فيضية يقل بها السكان .....
(٤) منطقة تركز سكانى ذات موارد اقتصادية ضخمة .....
(٥) السهول الفيضية التى تمثل أحد مناطق تركز السكان .....

٢ أكمل كل عبارة من العبارات الآتية :

(١) يتركز سكان العالم فى السهول الفيضية والسهول الساحلية و .....

(٢) من المناطق التى يقل بها السكان فى قارة آسيا سهول .....

(٣) أقل قارات العالم القديم سكانًا قارة .....

(٤) من مناطق تركز السكان فى أوروبا السهل الأوروبى العظيم ومدينتى ..... و .....

٣ اختر الإجابة الصحيحة مما بين القوسين :

(١) تُعد أكثر دول قارة آسيا سكانًا دولتى .....

(السعودية والفلبين - الهند والصين - الهند وإندونيسيا - اليابان وتركيا) (الفيوم ٢٢)

(٢) يتركز السكان فى مناطق السهول الفيضية بالصين مثل سهول نهر .....

(يانجتسى - الجانج - دجلة - الفرات) (سوهاج ١٧)

(٣) تأثر توزيع السكان فى شبه الجزيرة العربية بـ .....

(وعورة السطح - الطابع المناخى - اتساع المساحة - كثافة الغابات) (الشرقية ٢٣)

(٤) تعبر الصورة المقابلة عن أحد المشكلات المترتبة على زيادة السكان خاصة فى قارة .....

(آسيا - أوروبا - أستراليا - أمريكا الشمالية)



هجرة غير شرعية

(٥) يتركز السكان فى المناطق مرتفعة السطح بالدول المدارية مثل دولة ..... بأفريقيا.

(المغرب - مصر - ليبيا - أوغندا)

(٦) يقل السكان بقارة أفريقيا فى ..... (سواحل البحر المتوسط - سهول وادى النيل - سهول نهر الكونغو - سواحل دولة جنوب أفريقيا) (سوهاج ٢٤)

(٧) أقل الجهات سكانًا فى قارة أوروبا الجهات .....

(الجنوبية - الشمالية - الشرقية - الغربية) (الإسكندرية ٢٤)

(٨) يتركز أكثر من نصف سكان قارة أمريكا الشمالية فى .....

(كندا - الولايات المتحدة الأمريكية - المكسيك - دول البحر الكاريبى)

(٩) السبب الرئيسى فى تركز السكان بمدينة شيكاغو هو توافر .....

(المناخ المعتدل - السهول الساحلية - الموارد الاقتصادية - المناطق المرتفعة)

(١٠) يتركز السكان فى كندا بالمدن الكبرى مثل مدينة .....

(شيكاغو - نيويورك - مونتريال - لوس أنجلوس) (الأقصر ٢٥)

(١١) أكبر دول قارة أمريكا الجنوبية سكانًا ..... (الأرجنتين - البرازيل - شيلى - فنزويلا) (الدقهلية ٢٥)

(١٢) يقل السكان عن مليون نسمة فى دولة ..... بقارة أمريكا الجنوبية.
(البرازيل - جويانا - الأرجنتين - المكسيك)

(١٣) من مناطق تركز السكان فى أمريكا الجنوبية سهول نهر.....
(المسيسبى - الأمازون - الأورينوكو - النيجر)

(١٤) يقل السكان فى بعض مناطق السهول الفيضية مثل سهول نهر.....
(اليانجتسى - النيل - الفرات - الأمازون) (الغربية ٢٢)

(١٥) يتركز سكان أستراليا على السواحل ..... حيث المدن الكبرى.
(الشمالية - الجنوبية - الشرقية - الغربية) (الفيوم ٢٣)

(١٦) تؤثر الغابات الموسمية سلبًا على توزيع السكان فى .....
(غرب أوروبا - جنوب أفريقيا - شرق أوروبا - شمال أستراليا) (القاهرة ٢٣)

(١٧) العامل المشترك فى تركز السكان فى الساحل الشمالى الشرقى للولايات المتحدة الأمريكية والسواحل الشرقية لأستراليا .....
(المناخ المتنوع - التربة الخصبة - ارتفاع السطح - المدن الكبرى) (أسوان ٢٤)

---

٤ اكتب كلمة (صواب) أمام العبارة الصحيحة، وكلمة (خطأ) أمام العبارة غير الصحيحة، مع ذكر السبب فى الحالتين :

(١) تُعد قارة أوروبا أكبر قارات العالم سكانًا. ( ) ( )

(٢) يتركز السكان فى معظم الدول الجزرية بقارة آسيا نتيجة خصوبة التربة. ( ) ( )

(٣) يتشابه سبب قلة السكان فى كل من شمال ووسط قارة آسيا. ( ) ( )

(٤) تخرج هجرات غير شرعية من آسيا تتجه معظمها إلى دول أكثر تقدمًا. ( ) ( )

(٥) تتباين الكثافة السكانية فى المناطق الواقعة عند دائرة الاستواء بقارة أفريقيا. ( ) ( )

(٦) يرجع السبب الأساسى وراء تركز السكان بمدينة لندن إلى المناخ السائد. ( ) ( )

(٧) يتركز السكان فى دول شرق أوروبا بدرجة أقل من دول وسط وغرب القارة. (السويس ٢٢) ( ) ( )

(٨) يقل عدد السكان فى دولتى فنلندا والنرويج حيث المناطق الجبلية الوعرة. (ج سيناء ٢٤) ( ) ( )

(٩) يرجع تركز سكان المكسيك بالمدن الرئيسية إلى اعتدال المناخ. (الشرقية ٢٤) ( ) ( )

(١٠) يقل عدد السكان فى سهول البمباس بالأرجنتين. ( ) ( )

---

٥ صوب ما تحته خط :

(١) تُعد قارة أمريكا الجنوبية أقل قارات العالم سكانًا. (.....)

(٢) يقل السكان فى المناطق الصحراوية، مثل الصحراء الكبرى بقارة آسيا. (.....)

(٣) يقل السكان فى أمريكا الشمالية فى دول البرزخ مثل المكسيك. (القاهرة ٢٢) (.....)

(٤) تُعد نيوزيلندا أكبر دول القارة الأوقيانوسية سكانًا. (.....)

٦ بم تفسر ... ؟

(١) يتركز سكان العالم فى المدن الكبرى. (الوادى الجديد ٢٤)

.....

(٢) يتركز السكان فى العالم بالسهول الساحلية. (الغربية ١٨)

.....

(٣) تُعد جزيرة جاوة أكثر مناطق العالم ازدحامًا بالسكان. (القليوبية ٢٢)

.....

(٤) قلة عدد السكان فى سيبيريا. (الوادى الجديد ٢٢)

.....

(٥) نقص الغذاء مشكلة تواجه سكان معظم دول قارة آسيا. (أسيوط ٢٢)

.....

(٦) تعتبر مصر من مناطق التركز السكانى فى القارة الأفريقية.

.....

(٧) تركز السكان فى المناطق مرتفعة السطح بالدول المدارية فى قارة أفريقيا. (القاهرة ٢٤)

.....

(٨) قلة عدد السكان فى المناطق الاستوائية بأفريقيا وأمريكا الجنوبية.

.....

(٩) قلة عدد السكان فى المناطق الشمالية لقارة أوروبا.

.....

(١٠) ارتفاع الكثافة السكانية على الساحل الشمالى الشرقى للولايات المتحدة الأمريكية. (المنوفية ٢٤)

.....

(١١) تركز السكان فى منطقة البحيرات العظمى بالولايات المتحدة الأمريكية. (البحيرة ٢٢)

.....

(١٢) تركز سكان أمريكا الجنوبية فى هضبة البرازيل وسواحلها. (ش. سيناء ٢٥)

.....

(١٣) يتركز السكان فى جنوب شرق أستراليا ويقلون فى الداخل. (بورسعيد ١٦)

.....

٧ ما النتائج المترتبة على ... ؟

(١) زيادة عدد السكان فى معظم دول قارة آسيا. (القليوبية ٢٣)

.....

(٢) وقوع قارة أنتاركتيكا أقصى جنوب الكرة الأرضية (بالنسبة لتوزيع السكان).

.....

٨ ما المقصود بـ : الهجرات غير الشرعية ؟ (بنى سويف ٢٥)

.....

٩ ما العلاقة بين ... ؟

(١) التضاريس، وتوزيع السكان فى قارة آسيا. (مطروح ٢٤)

.....

(٢) توزيع السكان، والموارد الاقتصادية بالولايات المتحدة الأمريكية. (دمياط ٢٤)

.....

(٣) النبات الطبيعى، وتوزيع السكان فى شمال أستراليا. (القاهرة ٢٤)

.....

١٠ أيد بالأدلة الجغرافية صحة العبارة الآتية :

توجد علاقة بين قلة عدد السكان وكل من الحرارة والتضاريس بقارة أوروبا. (الغربية ٢٠)

.....

أسئلة للتميز

١١ اختر الإجابة الصحيحة من بين البدائل التالية :

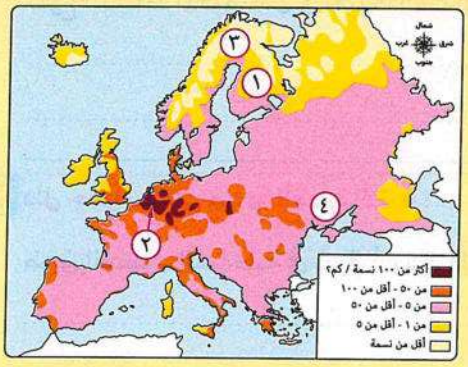

(١) فى ضوء دراستك للخريطة المقابلة، نجد أن أكثر منطقة أوروبية فى التركز السكانى ارتباطًا بالتقدم الصناعى هى التى تحمل .....

(أ) رقم (١)
(ب) رقم (٢)
(جـ) رقم (٣)
(د) رقم (٤)

(٢) العامل الرئيسى المشترك فى تركز السكان فى ألمانيا وشمال شرق الولايات المتحدة الأمريكية هو ..... (وجود المدن الكبرى - المناخ المتنوع - التربة الخصبة - ارتفاع السطح)

(٣) السبب الرئيسى لتركز السكان حول نهر المسيسبى هو .....
(اعتدال المناخ - النشاط التعدينى - خصوبة التربة - وجود المدن الصناعية الكبرى)

(٤) أى من المناطق التالية يتشابهان فى الطبيعة التضاريسية والمناخ وتوزيع السكان ؟ .....
(سهول سيبيريا وحوض الكونغو - حوض الكونغو والأمازون - حوض الأمازون وسهل منشوريا - سهول منشوريا وسيبيريا)

١٢ اكتب كلمة (صواب) أمام العبارة الصحيحة، وكلمة (خطأ) أمام العبارة غير الصحيحة، مع التصويب :

(١) السبب الرئيسى فى اختلاف أهمية السهول الفيضية بالنسبة لتوزيع السكان من قارة لأخرى هو تباين المناخ. ( )

(٢) تتميز مناطق السهول الفيضية فى شرق وشمال قارة آسيا بارتفاع الكثافة السكانية. ( )

(٣) تتشابه سهول سيبيريا وسهول نهر النيل تضاريسيًا ويختلفان سكانيًا. ( )

١٣ بم تفسر ... ؟

(١) يقل تركز السكان فى جزء كبير بوسط قارة أفريقيا رغم وجود السهول الفيضية بها.

.....

(٢) خالفت أوغندا وكينيا قاعدة توزيع السكان فى المناطق الواقعة عند دائرة الاستواء.

.....

١٤ حدد الآثار الناتجة عن :

تنوع النشاط الاقتصادى فى أمريكا الشمالية (بالنسبة لتوزيع السكان).

.....

.....

١٥ دلل جغرافيًا على صحة العبارة الآتية :

ضيق السهول الساحلية فى شرق أستراليا لم يؤثر على تركز السكان فى هذه المناطق.

.....

.....

١٦ يتركز السكان فى المناطق السهلية الفيضية.

حدد : الأماكن التى لم تتحقق فيها القاعدة السابقة (موضحًا سبب إجابتك).

.....

.....

امتحان ؟ على الدرس الثانى

١ (أ) أمامك خريطة للعالم، اكتب ما تدل عليه الأرقام التى عليها :

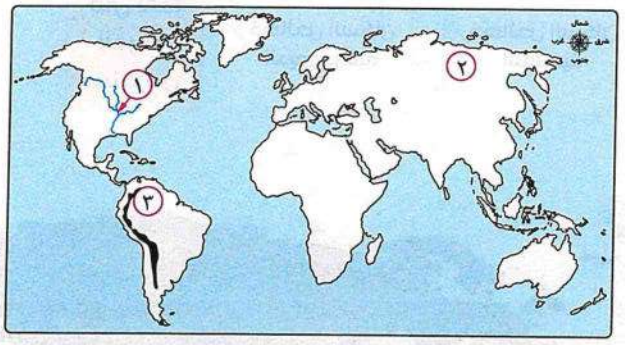

(١) يتركز السكان بسهول نهر .....

(٢) منطقة يقل بها السكان .....

(٣) منطقة تضاريسية يقل بها السكان .....

(ب) اختر الإجابة الصحيحة مما بين القوسين :

(١) يؤثر النبات الطبيعى على قلة تركز السكان فى .....

(جنوب أوروبا - شرق آسيا - شمال أستراليا - وسط أمريكا الشمالية) (بورسعيد ٢٤)

(٢) يتركز السكان بشمال قارة ..... لوجود السهول الفيضية الخصبة.

(آسيا - أستراليا - أمريكا الشمالية - أمريكا الجنوبية)

(جـ) ما العلاقة بين : التطور الصناعى، وتوزيع السكان فى قارات العالم ؟ (الغربية ٢٥)

(د) حدد أوجه الشبه بين : توزيع السكان فى ألاسكا، وفنلندا.

---

٢ (أ) اكتب كلمة (صواب) أمام العبارة الصحيحة، وكلمة (خطأ) أمام العبارة غير الصحيحة، مع التصويب :

(١) تتشابه العوامل التى ساعدت على انخفاض الكثافة السكانية فى كل من حوض الكونغو وحوض الأمازون. ( )

(٢) يرجع السبب الرئيسى لتركز السكان فى شمال شرق ووسط الولايات المتحدة الأمريكية إلى عامل المناخ. ( )

(ب) أى منطقة مما يلى يتركز بها السكان ؟ وأيها يقل ... ؟ موضحًا السبب :

(١) سهول لابلاتا. (٢) غرب أستراليا.

(جـ) دلل : (١) توجد معظم السلالة النقية فى أماكن يقل بها التركز السكانى.

(٢) كان للمناخ دورًا كبيرًا فى تباين توزيع السكان فى قارة آسيا. (الإسماعيلية ٢٤)

الدرس
الثالث

خصائص سكان العالم

في هذا الدرس سندرس

- خصائص السكان الديموجرافية
- خصائص السكان التعليمية
- خصائص السكان الصحية
- خصائص السكان الاقتصادية



* دراسة خصائص السكان تعنى الاهتمام بدراسة الخصائص :
الديموجرافية، التعليمية، الصحية، الاقتصادية.

أولًا خصائص السكان الديموجرافية



١ معدل المواليد

ما المقصود بـ : ديموجرافيا ؟
علم دراسة السكان من حيث النمو والتوزيع والتركيب السكانى.

* يبلغ معدل المواليد فى العالم نحو ٢٠ فى الألف ويختلف من قارة إلى أخرى ومن دولة إلى أخرى.

* بدراسة الرسم البيانى المقابل يتضح أن :

- قارة أفريقيا : أعلى القارات فى معدلات المواليد، حيث يصل نحو ٣٦ فى الألف (وهو معدل مرتفع مثل معظم دول العالم النامية).
- قارة أوروبا : أقل القارات فى معدلات المواليد، حيث يصل نحو ١١ فى الألف.

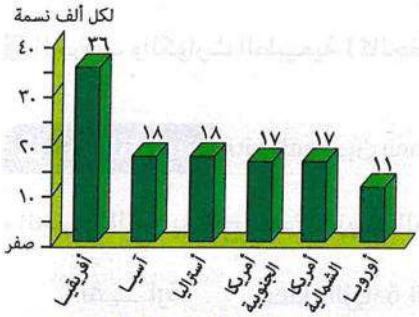

معدل المواليد فى قارات العالم لعام ٢٠١٤م

بم تفسر ارتفاع معدلات المواليد فى قارة أفريقيا بشكل كبير ؟ بسبب :

(١) انتشار الأمية والفقر فى معظم دولها. (٢) الاعتماد على الزراعة البدائية والرعى.
(٣) انتشار بعض العادات والتقاليد السلبية، مثل : الرغبة فى إنجاب أكبر عدد من الأبناء، والزواج المبكر للإناث.

٢ معدل الوفيات

* يبلغ معدل الوفيات فى العالم نحو ٨ فى الألف، حيث :

- يقل فى الدول المتقدمة ليصل إلى أقل من ٧ فى الألف.
- يزيد فى الدول النامية والفقيرة عن ١١ فى الألف.

* بدراسة الرسم البيانى المقابل نستنتج أن :

- قارة أوروبا : أعلى قارات العالم فى معدلات الوفيات، حيث يصل إلى ١١ فى الألف **بم تفسر ؟** بسبب زيادة عدد كبار السن.
- قارة أمريكا الجنوبية : أقل قارات العالم فى معدلات الوفيات، حيث يصل إلى ٦ فى الألف.



معدل الوفيات فى قارات العالم لعام ٢٠١٤م

العوامل التى تؤثر فى معدلات الوفيات فى العالم

١ مستوى السكن والتغذية والخدمات الصحية العامة **دلل؟** حيث :

- تقل معدلات الوفيات فى الدول التى تراعى بها مستويات الوقاية الصحية وحماية البيئة من التلوث.
- تزداد معدلات الوفيات فى الدول التى تقل فيها الرعاية الصحية وتنتشر فيها الأمراض.

٢ الحروب والكوارث الطبيعية (كالجفاف والزلازل) تؤدى إلى زيادة معدلات الوفيات.

الزيادة الطبيعية ناتج الفرق بين معدل المواليد ومعدل الوفيات = (معدل المواليد - معدل الوفيات).

* الجدول التالى يوضح معدل الزيادة الطبيعية فى بعض قارات العالم :

القـــارة	معدل الزيادة الطبيعيـــة	الســـبب
أفـريقيـــا	مرتفـع	زيادة عدد المواليد وقلة عدد الوفيات نسبيًا
أمريكا الشمالية	منخفض	قلة عدد المواليد وقلة عدد الوفيات
أوروبـــا	صفـــر (أى أن : عدد السكان ثابت)	تساوى عدد المواليد مع عدد الوفيات

بم تفسر تقل معدلات الزيادة الطبيعية فى الدول المتقدمة ؟

بسبب قلة معدلات المواليد والوفيات معًا.

طبقًا لعام ٢٠١٤م :

* وصل معدل المواليد فى مصر إلى ٣١,٣ فى الألف وهو معدل مرتفع مثل معظم دول العالم النامية.
* انخفض معدل الوفيات فى مصر إلى ٦,١ فى الألف وذلك نتيجة للرعاية الصحية والاهتمام بصحة الأطفال.

وبذلك وصل معدل الزيادة الطبيعية فى مصر إلى ٢٥,٢ فى الألف وهو معدل مرتفع.

٣ التركيب العمرى دراسة عدد ونسبة كل مجموعة من سكان منطقة ما وفقًا لفئات عمرية محددة.

* تنقسم الفئات العمرية إلى :

١ فئة صغار السن (غير منتجة)



* تضم الرُضع والأطفال والمراهقين، الذين تقل أعمارهم عن ١٥ عامًا.
* نسبتهم فى العالم :
  - فى الدول المتقدمة منخفضة، مثل : السويد تنخفض إلى ١٧ ٪
  - فى الدول النامية مرتفعة تصل إلى ٢٩ ٪ من جملة السكان، مثل : مصر تصل إلى ٣٢ ٪



ما النتائج المترتبة على ارتفاع نسبة فئة صغار السن فى الدول النامية ؟

يترتب على ذلك تحمل هذه الدول ميزانية ضخمة من أجل توفير الغذاء والملبس والرعاية الصحية والتعليم، وغيرها من الخدمات.

٢ الفئة المتوسطة (فئة سن العمل المنتجة)



* تضم البالغين، الذين تتراوح أعمارهم من ١٥ إلى ٦٤ عامًا.
* نسبتهم فى العالم : متقاربة بين دول العالم المختلفة.
* توجد :
  - أعلى نسب من السكان البالغين فى دول غرب أوروبا.
  - أقل نسب من السكان البالغين فى قارة أفريقيا.

٣ فئة كبار السن (غير منتجة)



* تضم السكان، الذين وصلت أعمارهم ٦٥ عامًا فأكثر.
* ترتفع نسبتهم فى الدول المتقدمة (١٧ ٪) مقارنة بالدول النامية (٦ ٪)

بم تفسر ؟ بسبب التقدم فى مجالات الخدمات الصحية والتعليمية.

التدريب الأول

١ اختر الإجابة الصحيحة مما بين القوسين :

(١) يظهر التفاوت الكبير فى معدل المواليد بين قارتى .....

(آسيا وأستراليا - أمريكا الجنوبية وأستراليا - أمريكا الجنوبية وأمريكا الشمالية - أوروبا وأفريقيا)

(٢) يتساوى معدل المواليد مع معدل الوفيات فى قارة .....

(أوروبا - أفريقيا - أستراليا - أمريكا الشمالية)

(٣) أقل نسب من السكان البالغين توجد فى قارة ..... (آسيا - أفريقيا - أوروبا - أستراليا)

٢ اكتب ما تدل عليه كل عبارة مما يأتى :

(١) علم دراسة السكان من حيث النمو والتوزيع والتركيب السكانى. (.....)

(٢) ناتج الفرق بين معدلات المواليد ومعدلات الوفيات. (.....)

(٣) فئة عمرية غير منتجة تضم الرضع والأطفال والمراهقين الذين تقل أعمارهم عن ١٥ عامًا. (.....)

(٤) قارة تُعد الأقل عالميًا فى معدلات الوفيات. (.....)

٣ بم تفسر ... ؟

(١) انخفاض معدل الوفيات فى مصر ليصل إلى ٦,١ فى الألف عام ٢٠١٤م.

.....

(٢) ارتفاع معدلات الزيادة الطبيعية فى قارة أفريقيا.

.....

(٣) تمثل فئة صغار السن تحديًا كبيرًا للدول النامية.

.....

(٤) انخفاض نسبة كبار السن فى الدول النامية.

.....

٤ دلل جغرافيًا على صحة العبارة الآتية :

يؤثر مستوى السكن والتغذية والخدمات الصحية فى معدلات الوفيات فى العالم.

.....

.....



ثانيًا خصائص السكان التعليمية

* ترتفع نسبة **الأمية**(*) فوق سن ١٥ سنة فى الدول النامية وتنخفض بنسبة كبيرة فى الدول المتقدمة.

* تختلف نسبة **المتعلمين** بين الدول المتقدمة والنامية كما يلى :

نسبة المتعلمين فى الدول المتقدمة تصل إلى أكثر من ٩٥ ٪ فى :

• دول أمريكا الشمالية. • دول أوروبا. • أستراليا. • اليابان. • روسيا.

نسبة المتعلمين فى الدول النامية تصل إلى :

• نحو ٧٥ ٪ فى معظم دول أمريكا الجنوبية وفى دولتى جنوب أفريقيا والصين.

• نحو ٦٥ ٪ فى مصر **بم تفسر ؟** وذلك بسبب زيادة الاهتمام بالتعليم فى مراحله المختلفة، وجهود الدولة فى مجالات محو الأمية وتحقيق مبدأ تكافؤ الفرص فى التعليم(**).

• ما بين ٤٠ - ٦٠ ٪ فى : - معظم دول قارة أفريقيا. - الهند فى قارة آسيا.

دلل هناك بعض العادات والتقاليد التى تؤثر فى معدل التعليم خاصة تعليم الإناث ؟

حيث : • حرمان المرأة من التعليم فى بعض المناطق حفاظًا عليها أو بسبب المعتقدات الخطأ.

• تفضيل الزواج المبكر للإناث.



ثالثًا خصائص السكان الصحية (الحالة الصحية)

* يُعد عدد الأطباء مؤشرًا مهمًا على الرعاية الطبية فى دول العالم **دلل ؟**

حيث كلما زاد عدد الأطباء بالنسبة للسكان فى دولة ما دل ذلك على زيادة الرعاية الطبية.

* تقسم دول العالم من حيث الرعاية الطبية **إلى :**

١	٢	٣
دول ذات رعاية طبية فائقة	**دول ذات رعاية طبية مرتفعة**	**دول ذات رعاية طبية منخفضة**
مثل : روسيا ومعظم دول أوروبا ودول أمريكا الشمالية.	**مثل :** مصر والأردن والإمارات.	• معظمها يقع فى أفريقيا **مثل :** النيجر وإثيوبيا. • نيبال فى آسيا.

(*) **الأمية** : يقصد بها عدم معرفة الإنسان للقراءة أو الكتابة أو كليهما.

(**) **تكافؤ الفرص فى التعليم** : يقصد بها إتاحة جميع الفرص بشكل متساو بين جميع الأطفال للالتحاق بالتعليم بغض النظر عن النوع أو المستوى الاقتصادى أو الاجتماعى.

التدريب الثانى

١ اكتب كلمة (صواب) أمام العبارة الصحيحة، وكلمة (خطأ) أمام العبارة غير الصحيحة، مع التصويب :

(١) يتشابه مستوى الرعاية الطبية فى كل من الأردن والإمارات ونيبال. ☐

(٢) يُعد عدد الأطباء مؤشرًا مهمًا على الرعاية الطبية بالدولة. ☐

(٣) تعتبر روسيا من الدول ذات الرعاية الطبية المنخفضة. ☐

٢ دلل على صحة العبارة : تؤثر بعض الممارسات الاجتماعية على معدل تعليم الإناث فى بعض دول العالم.

.....

رابعًا خصائص السكان الاقتصادية



* تختلف الخصائص الاقتصادية لسكان العالم **بم تفسر؟** وذلك وفقًا لـ :

(١) تنوع الأنشطة الاقتصادية التى يقوم بها السكان فى كل دولة.

(٢) دخل السكان.

* بدراسة الرسم البيانى المقابل يتضح أن :

• قارة أستراليا (الأوقيانوسية) :

يوجد بها أعلى نصيب للفرد من الدخل القومى.

• قارة أفريقيا : يوجد بها أقل نصيب للفرد من الدخل القومى.

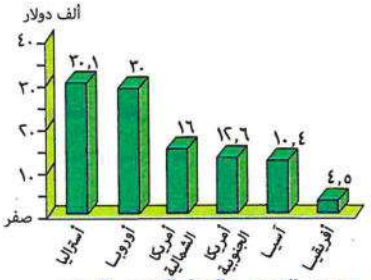

نصيب الفرد من الدخل القومى السنوى فى قارات العالم لعام ٢٠١٤م

* تنقسم دول العالم من حيث الدخل الاقتصادى إلى :

١ دول ذات دخل اقتصادى مرتفع *(تتمثل فى الدول الصناعية)*

* تعتمد على : الصناعة والخدمات.

* تستهلك كميات كبيرة من الطاقة.

* يتركز معظم سكانها فى المدن فى مستويات معيشة مرتفعة.

* من أمثلتها :

• دول غرب أوروبا ودول أمريكا الشمالية.

• دول الخليج العربى بآسيا (تعتمد على استخراج البترول وتصديره للخارج وتصنيع مشتقاته).

٢ دول ذات دخل اقتصادى فوق المتوسط

* **تعتمد على** : التصنيع والتنمية الاقتصادية والأنشطة الأخرى.
* **من أمثلتها** :
  - تركيا فى آسيا.
  - المكسيك فى أمريكا الشمالية.
  - دول شرق أوروبا.
  - دولة جنوب أفريقيا.

٣ دول ذات دخل اقتصادى أقل من المتوسط

* **تعتمد على** : التصنيع النامى والأنشطة التقليدية (الزراعة والأنشطة المرتبطة بها).
* **من أمثلتها** :
  - الهند فى آسيا.
  - أوكرانيا فى أوروبا.
  - هايتى فى أمريكا الشمالية.
  - مصر والمغرب فى أفريقيا.
  - البرازيل فى أمريكا الجنوبية.

٤ دول ذات اقتصاد زراعى منخفض

* **تعتمد على** : الزراعة.
* **يتركز** معظم سكانها فى الريف.
* **من أمثلتها** :
  - باكستان فى آسيا.
  - تتركز هذه الدول فى أفريقيا مثل الكونغو.

مما سبق نستنتج أن

* الدول ذات الدخل الاقتصادى **المرتفع** تعتمد على النشاط **الصناعى**.
* الدول ذات الدخل الاقتصادى **المنخفض** تعتمد على النشاط **الزراعى**.
* **إذا** استفادت دول أفريقيا (النامية والفقيرة) من ثرواتها المعدنية والزراعية فى التصنيع بدلًا من تصديرها على شكل مواد خام، **لأصبحت** من الدول ذات الدخل الاقتصادى المرتفع.

قوة العمل عدد الأفراد فى سن العمل والقادرين عليه والذين يعملون فعليًا أو يبحثون عن عمل.

* يختلف توزيع قوة العمل فى دول العالم حسب الأنشطة الاقتصادية بها.
* تختلف نسبة العاملين فى الأنشطة الاقتصادية المختلفة فى الدول المتقدمة والنامية **كما يلى** :
  - فى الدول المتقدمة الغنية :
    - **تزداد** نسبة العاملين فى الصناعة والخدمات المرتبطة بها.
    - **تقل** نسبة العاملين فى مجال الزراعة لتصل إلى أقل من ١٠٪ من قوة العمل **كما فى** :
      - دول غرب أوروبا.
      - دول أمريكا الشمالية.
      - أستراليا.

• فى الدول النامية والفقيرة :

– تزداد نسبة العاملين فى مجال الزراعة من إجمالى قوة العمل كالتالى :

النسبـــة	فـــى
من ٣٠ ٪ إلى ٦٠ ٪	مصر فى أفريقيا، تركيا فى آسيا
من ٦٠ ٪ إلى ٨٠ ٪	السودان فى أفريقيا، الهند فى آسيا
٨٠ ٪	الدول النامية فى أفريقيا مثل إثيوبيا

– تقل نسبة العاملين فى مجال الصناعة .

هناك أنشطة أولية وثانوية يعمل بها السكان فى الدول النامية والفقيرة إلى جانب الزراعة ، مثل : الصيد ، قطع الغابات ، الرعى ، وغيرها .

التدريب الثالث

١ أمامك عدة دول ، صنفها حسب الدخل الاقتصادى فى الجدول التالى :

(١) الكونغو .
(٢) مصر .
(٣) دول غرب أوروبا .
(٤) هايتى .
(٥) تركيا .
(٦) دول شرق أوروبا .
(٧) الهند .
(٨) الولايات المتحدة الأمريكية .
(٩) المكسيك .
(١٠) باكستان .
(١١) أوكرانيا .
(١٢) البرازيل .
(١٣) دولة جنوب أفريقيا .

دول ذات دخل اقتصادى مرتفع	دول ذات دخل اقتصادى فوق المتوسط	دول ذات دخل اقتصادى أقل من المتوسط	دول ذات اقتصاد زراعى منخفض
.....	.....	.....	.....
.....	.....	.....	.....
.....	.....	.....	.....

٢ ما تقييمك لمصداقية العبارة الآتية : يقتصر نشاط السكان فى الدول النامية على ممارسة الزراعة ؟

.....

٣ حدد أسباب : اختلاف الخصائص الاقتصادية لسكان العالم .

.....

أهم نقاط الدرس

يقصد بـ :

ديموجرافيا	علم دراسة السكان من حيث النمو والتوزيع والتركيب السكانى.
زيادة طبيعية	ناتج الفرق بين معدل المواليد ومعدل الوفيات.
تركيب عمرى	دراسة عدد ونسبة كل مجموعة من سكان منطقة ما وفقًا لفئات عمرية محددة.
قوة العمل	عدد الأفراد فى سن العمل والقادرين عليه والذين يعملون فعليًا أو يبحثون عن عمل.

أهم خصائص السكان فى العالم

الخصائص الديموجرافية	توجد أعلى المعدلات فى	توجد أقل المعدلات فى
المواليد	قارة أفريقيا	قارة أوروبا
الوفيات	قارة أوروبا	قارة أمريكا الجنوبية
الزيادة الطبيعية	قارة أفريقيا	قارة أمريكا الشمالية
فئة صغار السن (غير منتجة)	الدول النامية	الدول المتقدمة
الفئة المتوسطة (منتجة)	دول غرب أوروبا	قارة أفريقيا
فئة كبار السن (غير منتجة)	الدول المتقدمة خاصة أوروبا	الدول النامية

الخصائص التعليمية

* ترتفع نسبة المتعلمين لتصل إلى أكثر من ٩٥ ٪ فى الدول المتقدمة.
* تصل نسبة المتعلمين إلى ٧٥ ٪ فى معظم دول أمريكا الجنوبية ودولتى جنوب أفريقيا والصين.
* تصل نسبة المتعلمين إلى ٦٥ ٪ بمصر لزيادة الاهتمام بالتعليم ومحو الأمية.
* تكون ما بين ٤٠ : ٦٠٪ فى معظم دول أفريقيا ودولة الهند بآسيا.

الخصائص الصحية

دول ذات رعاية طبية فائقة ، مثل : روسيا ومعظم دول أوروبا ودول أمريكا الشمالية.

دول ذات رعاية طبية مرتفعة ، مثل : مصر والأردن والإمارات.

دول ذات رعاية طبية منخفضة :
- معظمها يقع فى أفريقيا، **مثل :** النيجر وإثيوبيا.
- نيبال فى آسيا.

الخصائص الاقتصادية

* يوجد أعلى نصيب للفرد من الدخل القومى فى قارة أستراليا، بينما يوجد أقل نصيب للفرد من الدخل القومى فى قارة أفريقيا.
* **تنقسم دول العالم من حيث الدخل الاقتصادى إلى :**
- دول ذات دخل اقتصادى مرتفع (الدول الصناعية)، مثل دول غرب أوروبا ودول أمريكا الشمالية ودول الخليج العربى بآسيا.
- دول ذات دخل اقتصادى فوق المتوسط، مثل تركيا والمكسيك ودول شرق أوروبا ودولة جنوب أفريقيا.
- دول ذات دخل اقتصادى أقل من المتوسط، مثل الهند ومصر والمغرب وأوكرانيا والبرازيل وهايتى.
- دول ذات اقتصاد زراعى منخفض، مثل باكستان بآسيا وتتركز هذه الدول فى أفريقيا مثل الكونغو.

* يوجد أعلى نسبة للعاملين بالصناعة والخدمات فى الدول المتقدمة الغنية، بينما أقل نسبة للعاملين بالصناعة والخدمات فى الدول النامية.
* يوجد أعلى نسبة للعاملين بالزراعة فى الدول النامية، بينما أقل نسبة للعاملين بالزراعة فى الدول المتقدمة.

أسئلة على الدرس الثالث

أسئلة تفاعلية

● تذكر ● فهم ○ تطبيق ⁂ مستويات عليا

١ أمامك خريطة للعالم استعن بالأرقام التى عليها، وأجب عما يأتى :

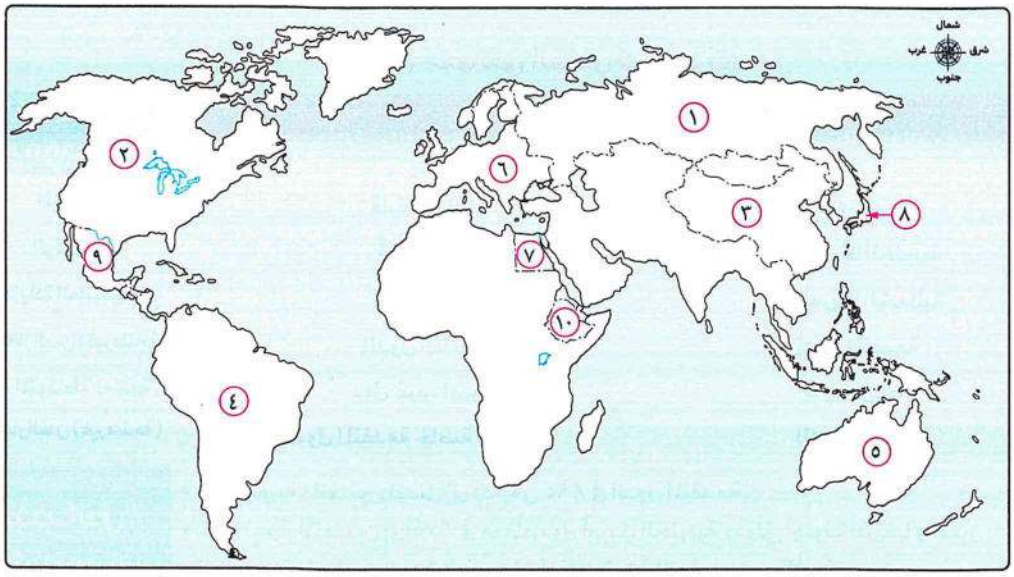

(١) أقل قارات العالم فى معدلات المواليد يمثلها الرقم .....

(٢) يمثل الرقم ..... أقل قارات العالم فى معدلات الوفيات.

(٣) يشير الرقم ..... إلى دولة أفريقية انخفض بها معدل الوفيات طبقًا لعام ٢٠١٤م نتيجة للرعاية الصحية.

(٤) يشير الرقم ..... والرقم ..... إلى دولتين آسيويتين يصل معدل المتعلمين بهما إلى أكثر من ٩٥٪

(٥) يمثل رقم (٢) قارة ذات رعاية طبية فائقة وهى .....

(٦) يشير الرقم ..... إلى دولة ذات دخل اقتصادى فوق المتوسط.

(٧) القارة التى يوجد بها أعلى نصيب من الدخل القومى يمثلها الرقم .....

٢ اختر الإجابة الصحيحة مما بين القوسين :

(١) يتساوى معدل المواليد فى قارتى .....

(أستراليا وآسيا – أستراليا وأفريقيا – أوروبا وآسيا – أفريقيا وأمريكا الجنوبية) (الفيوم ٢٤)

(٢) يرتفع معدل المواليد فى قارة ..... لعدة أسباب أهمها النشاط الاقتصادى السائد.

(أستراليا – أمريكا الجنوبية – أفريقيا – أمريكا الشمالية)

(٣) ثانى أكبر القارات فى معدل الوفيات قارة ..... (أوروبا – أفريقيا – آسيا – أستراليا)

(٤) القارة التى تحتل أعلى معدل وفيات وأقل معدل مواليد قارة .....
(آسيا - أفريقيا - أوروبا - أستراليا) (الإسماعيلية ٢٥)

(٥) تختلف الدول المتقدمة عن الدول النامية فى .....
(ارتفاع معدلات المواليد والوفيات - ارتفاع معدلات المواليد وانخفاض معدلات الوفيات - انخفاض معدلات الزيادة الطبيعية - ارتفاع معدلات الزيادة الطبيعية)

(٦) يصل معدل الزيادة الطبيعية إلى صفر فى قارة .....
(أفريقيا - أستراليا - أمريكا الشمالية - أوروبا) (السويس ٢٠)

(٧) توجد أعلى نسبة من السكان البالغين فى دول .....
(شمال أوروبا - غرب أوروبا - شمال آسيا - غرب آسيا) (القليوبية ١٨)

(٨) دولة ذات رعاية طبية فائقة ..... (الإمارات - نيبال - النيجر - روسيا) (الفيوم ٢٤)

(٩) تعتبر من الدول ذات الرعاية الطبية المنخفضة ..... (السعودية - مصر - الأردن - إثيوبيا) (المنيا ٢٤)

(١٠) تؤدى الرعاية الطبية الفائقة بالولايات المتحدة الأمريكية إلى .....
(زيادة فئة صغار السن - زيادة فئة كبار السن - ارتفاع معدل الزيادة الطبيعية - قلة فئة البالغين)

(١١) من الدول ذات الرعاية الطبية المنخفضة فى قارة آسيا ..... (روسيا - الأردن - الإمارات - نيبال)

(١٢) تُعد دول غرب أوروبا من الدول ذات الدخل الاقتصادى .....
(أقل من المتوسط - المرتفع - فوق المتوسط - المنخفض) (الأقصر ٢٠)

(١٣) من أمثلة الدول ذات الدخل الاقتصادى فوق المتوسط ..... (تركيا - البرازيل - أوكرانيا - الهند)

(١٤) تُعد الهند من الدول ذات الدخل الاقتصادى .....
(المرتفع - المنخفض - فوق المتوسط - أقل من المتوسط) (كفر الشيخ ٢٢)

(١٥) من الدول ذات الدخل الاقتصادى المنخفض ..... (الجزائر - الكونغو - مصر - المغرب)

(١٦) من الدول ذات الدخل الاقتصادى الزراعى المنخفض .....
(هايتى - باكستان - تركيا - جنوب أفريقيا) (بنى سويف ٢٤)

(١٧) أقل نسبة للعاملين بالنشاط الزراعى توجد بقارة ..... (أستراليا - أفريقيا - آسيا - أمريكا الجنوبية)

٣ اكتب كلمة (صواب) أمام العبارة الصحيحة، وكلمة (خطأ) أمام العبارة غير الصحيحة، مع التصويب :

(١) الدول التى تراعى بها مستويات الوقاية الصحية تقل بها معدلات المواليد. (القاهرة ١٨) ( )

(٢) تنخفض معدلات الزيادة الطبيعية فى أمريكا الشمالية، بينما ترتفع فى أفريقيا. ( )

(٣) ترتفع نسبة فئة صغار السن فى معظم دول قارة أفريقيا. ( )

(٤) معظم دول أوروبا من الدول ذات الرعاية الطبية المرتفعة. (كفر الشيخ ٢٢) ( )

(٥) الإمارات دولة ذات رعاية طبية منخفضة. (الجيزة ١٩) ( )

(٦) أقل نصيب للفرد من الدخل القومى فى العالم يوجد فى قارة أفريقيا. (القليوبية ٢٥) ( )

(٧) تنتمى مصر إلى الدول ذات الدخل الاقتصادى أقل من المتوسط. ( )

(٨) تعمل النسبة الكبرى من قوة العمل بالدول النامية بأفريقيا فى مجال الزراعة. (الإسماعيلية ٢٣) ( )

٤ صوب ما تحته خط :

(١) تتميز قارة أوروبا بمعدل مواليد مرتفع. (.....)

(٢) عدد السكان ثابت فى قارة أمريكا الشمالية. (الإسكندرية ٢٠) (.....)

(٣) تعد هايتى من الدول ذات الدخل الاقتصادى فوق المتوسط. (.....)

(٤) تعتبر دول الخليج العربى من الدول ذات الدخل الاقتصادى أقل من المتوسط. (الفيوم ٢٢) (.....)

(٥) تعتمد بعض الدول فى قارة أوروبا على التصنيع النامى ومنها ألمانيا. (الإسكندرية ٢٤) (.....)

٥ ما المقصود بالمصطلحات الجغرافية الآتية ... ؟

(١) زيادة طبيعية. (الوادى الجديد ١٦)

.....

(٢) تركيب عمرى. (القليوبية ٢٥)

.....

(٣) قوة العمل. (الوادى الجديد ٢٤)

.....

٦ أعط تفسيرًا لما يلى :

(١) ارتفاع معدلات المواليد فى قارة أفريقيا. (أسوان ٢٥)

.....

(٢) زيادة معدل الوفيات بالقارة الأوروبية رغم تقدمها. (المنيا ٢٤)

.....

(٣) انخفاض معدل الوفيات فى مصر. (الوادى الجديد ١٦)

.....

(٤) زيادة عدد كبار السن فى الدول المتقدمة.

.....

(٥) ارتفاع نسبة المتعلمين فى مصر إلى ٦٥٪ من السكان. (المنوفية ٢٢)

.....

(٦) حرمان المرأة من التعليم فى بعض دول العالم. (الجيزة ١٨)

.....

(٧) اختلاف الخصائص الاقتصادية لسكان العالم. (قنا ٢٥)

.....

(٨) تُعد دول الخليج العربى من الدول ذات الدخل الاقتصادى المرتفع. (البحيرة ٢٤)

.....

(٩) معظم دول أفريقيا ذات دخل اقتصادى منخفض. (الفيوم ٢٤)

.....

٧ حدد الآثار الناتجة عن :

(١) تساوى معدلات المواليد مع معدلات الوفيات فى قارة أوروبا. (الإسكندرية ٢٥)

.....

(٢) ارتفاع معدلات المواليد وانخفاض معدلات الوفيات فى مصر. (الشرقية ١٨)

.....

(٣) ارتفاع نسبة فئة صغار السن فى الدول النامية. (الإسماعيلية ٢٤)

.....

٨ ماذا يحدث إذا ... ؟

(١) انخفض معدل المواليد فى قارة أفريقيا. (ش. سيناء ٢٢)

.....

(٢) ارتفعت معدلات المواليد فى قارة أوروبا.

.....

(٣) أصبحت الصناعة النشاط الاقتصادى الأول فى مصر.

.....

(٤) قامت دول قارة أفريقيا بالاستفادة من ثرواتها المعدنية والزراعية فى التصنيع. (المنيا ٢٥)

.....

(٥) انخفضت الزيادة السكانية فى مصر. (الدقهلية ١٨)

.....

٩ دلل جغرافيًا على صحة كل عبارة مما يأتى :

(١) تتعدد العوامل التى تؤثر على معدلات الوفيات فى العالم. (السويس ٢٠)

.....

(٢) يُعتبر عدد الأطباء مؤشرًا مهمًا على الرعاية الطبية بدول العالم. (كفر الشيخ ٢٥)

.....

(٣) تتنوع دول العالم من حيث مستوى الدخل الاقتصادى (مع ذكر مثال واحد لكل مستوى).

.....

١٠ ما العلاقة بين ... ؟

(١) معدلات المواليد، وبعض العادات والتقاليد السلبية فى قارة أفريقيا. (الأقصر ٢٣)

.....

(٢) معدل الزيادة الطبيعية، والدول المتقدمة. (كفر الشيخ ٢٠)

.....

(٣) الدخل الاقتصادى، والنشاط الصناعى كنشاط رئيسى فى الدولة. (سوهاج ١٧)

.....

(٤) عادات وتقاليد الشعوب، ومعدل تعليم الإناث. (الفيوم ٢٥)

.....

١١ ما تقييمك لمصداقية العبارة الآتية :

يؤثر مستوى الخدمات الصحية بدولة ما فى معدل الوفيات بها ؟

.....

١٢ ما مقترحاتك لـ ... ؟

(١) خفض معدل الزيادة الطبيعية فى قارة أفريقيا. (القليوبية ٢٠)

.....

(٢) تصبح مصر دولة ذات دخل اقتصادى مرتفع. (الوادى الجديد ٢٣)

.....

١٣ اقرأ الأشكال البيانية الآتية جيدًا والتى تمثل التركيب العمرى للسكان، ثم أجب :



الشكل (أ)



الشكل (ب)



الشكل (جـ)

(١) الشكل الذى يمثل الدول النامية هو .....

(٢) ما هو التأثير السلبى للشكل الذى اخترته على الدول النامية ؟

.....

أسئلة للتميز

١٤ اختر الإجابة الصحيحة مما بين القوسين :

الاعتماد على مصادر الطاقة غير المتجددة كان سببًا فى تصنيف دولتى ..... ضمن الدول ذات الدخل الاقتصادى المرتفع. (الكويت والسعودية - مصر وباكستان - تركيا والبرازيل - هايتى والمكسيك)

١٥ يوضح الرسم البيانى الذى أمامك نسبة فئات سكان بعض الدول، من خلال دراستك : استنتج سبب تحمل الدولة (ص) لميزانية ضخمة لتوفير الخدمات المختلفة بها.

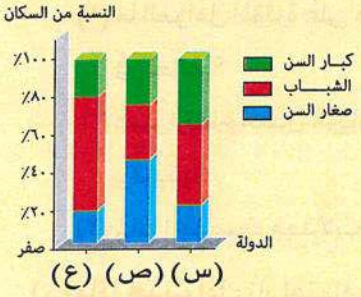

.....

.....

.....

١٦ بم تفسر : تختلف أسباب زيادة الوفيات فى قارة أفريقيا عن قارة أوروبا ؟

.....

١٧ ما العلاقة بين : النشاط الاقتصادى، ومعدل المواليد فى قارة أفريقيا ؟

.....

١٨ ما تقييمك لمصداقية العبارة التالية :

تُعد البحرين والإمارات وقطر من الدول ذات الدخل الاقتصادى المرتفع ؟

.....

امتحان ؟ على الدرس الثالث

١ (أ) اختر الإجابة الصحيحة مما بين القوسين :

(١) زيادة عدد الأطباء فى دولة ما يدل على زيادة الرعاية الطبية وينطبق ذلك على دولة ..... (إثيوبيا - النيجر - نيبال - الأردن) (الشرقية ٢٢)

(٢) يزداد عدد العاملين بالزراعة فى الدول ذات الدخل .....

(المنخفض - فوق المتوسط - أقل من المتوسط - المرتفع) (الجيزة ١٨)

(٣) سُجل أعلى معدل مواليد فى العالم بقارة .....

(آسيا - أفريقيا - أمريكا الشمالية - أمريكا الجنوبية)

(ب) اكتب كلمة (صواب) أو كلمة (خطأ) أمام العبارة الآتية، مع ذكر السبب فى الحالتين :

تتشابه فئة صغار السن مع فئة كبار السن بالرغم من اختلاف نسبتهم فى الدول النامية. ( )

(جـ) الرسم البيانى الذى أمامك يمثل معدل الوفيات فى قارات العالم لعام ٢٠١٤م، من خلال دراستك أجب عما يلى :

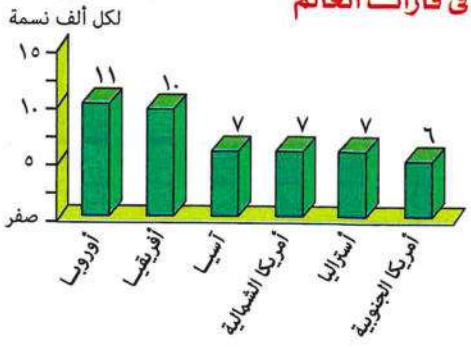

(١) ما العوامل المؤثرة على معدلات الوفيات فى العالم ؟

(٢) فسر ارتفاع معدل الزيادة الطبيعية بأفريقيا.

(٣) لماذا انخفضت معدلات الوفيات فى مصر ؟

(د) ماذا يحدث إذا : زاد اهتمام دول أفريقيا بتعليم الإناث ؟ (المنيا ٢٣)

٢ (أ) اكتب ما تشير إليه كل عبارة مما يأتى :

(١) إحدى دول أمريكا الشمالية وذات دخل اقتصادى أقل من المتوسط.

(٢) فئة عمرية تضم من تزيد أعمارهم عن ٦٥ عامًا.

(ب) ما النتائج المترتبة على : سعى مصر إلى تحقيق مبدأ تكافؤ الفرص فى التعليم ؟

(جـ) ما العلاقة بين :

ارتفاع معدلات الوفيات بقارة أوروبا، وتقدم القارة فى الخدمات الصحية والتعليمية ؟ (الشرقية ٢٤)

ثانيًا التاريخ



تنويه

المعلومات الموجودة فى هامش بعض الصفحات ومشار اليها بالعلامة * هى معلومات للاطلاع فقط

الوحدة الثالثة مصر تحت الحكم العثمانى

الدرس الأول	مصر بين المماليك والعثمانيين.
الدرس الثانى	الحملة الفرنسية على مصر «١٧٩٨م - ١٨٠١م».
الدرس الثالث	ثورة الشعب المصرى وتولية محمد على.
الدرس الرابع	محمد على وبناء مصر الحديثة.

الوحدة الرابعة مصر والزحف الاستعمارى ومحاولات التحرر الوطنى

الدرس الأول	خلفاء محمد على وازدياد النفوذ الأجنبى.
الدرس الثانى	الحركة الوطنية والثورة العرابية.
الدرس الثالث	الكفاح الوطنى ضد الاحتلال البريطانى.
الدرس الرابع	مصر من الحماية البريطانية حتى ثورة يوليو ١٩٥٢م.

أسئلة كل درس تشمل :

- أسئلة تفاعلية
- أسئلة للتميز.
- أسئلة من امتحانات المحافظات.
- امتحان على الدرس.

هام

- أسئلة عامة وامتحان على كل وحدة
- مراجعة على كل وحدة

انظر كتاب المراجعة | انظر مفكرة الامتحان

فى العام الدراسى الماضى درسنا عصور الدولة الإسلامية منذ قيامها فى عهد الرسول ﷺ وحتى قيام الدولة المملوكية (فى مصر) وسقوط الخلافة العباسية، وفى هذا الفصل الدراسى سندرس تاريخ مصر منذ العصر العثمانى إلى أن قامت ثورة ٢٣ يوليو ١٩٥٢ م.

أهـــم المفاهيـــم التـاريخـية

توازن القوى الدولية	تعادل النفوذ السياسى والإمكانيات الاقتصادية والقوى العسكرية بين دولتين أو أكثر بهدف منع أى دولة من الاستئثار بالنفوذ لفرض سيطرتها على الدول الأخرى.
الدول العظمى	دول غنية اقتصاديًا وقوية عسكريًا تستطيع التأثير فى الأحداث العالمية بشكل واضح.
بـرلـمـــان	مجلس نيابى يتولى السلطة التشريعية فى الدولة.
دستـــور	وثيقة رسمية تحدد نظام الحكم فى الدولة وتحدد شكل واختصاصات مؤسسات الحكم المختلفة.
السلطة التشريعية	الجهة المسئولة عن إصدار القوانين ومتابعة تنفيذها ويتم انتخاب أعضاء السلطة التشريعية لمدد محددة.
السلطة التنفيذية	السلطة التى يعهد إليها تنفيذ القوانين التى تصدرها السلطة التشريعية وتتألف من رئيس الدولة ورئيس الوزراء والوزراء والمحافظين.
وزارة برلمانية	وزارة تتشكل نتيجة انتخابات شعبية ديمقراطية، وتكون الوزارة مسئولة أمام البرلمان.
الحكم المطلق	نظام سياسى يستند إلى سلطة غير مقيدة بدستور وغير مسئولة أمام السلطة التشريعية.
الحكم الدستورى	نظام سياسى تمارس فيه السلطة الحاكمة سلطاتها وفقًا لدستور محدد فيه صلاحياتها.



احرص على اقتناء

كتب الامتحان

3 جهات

الإعدادى

فى جميع المواد

الوحدة
الثالثة

مصر تحت الحكم العثمانى



من المتوقع بعد الانتهاء من الدرس أن يكون التلميذ قادرًا على أن :

الدرس الأول
مصر بين المماليك والعثمانيين.

- يتتبع مراحل استيلاء العثمانيين على مصر والشام.
- يحدد أبرز ملامح الحكم العثمانى فى مصر.
- يوقع على خريطة لقارات العالم القديم امتداد الدولة العثمانية فى بداية القرن السادس عشر الميلادى.
- يستنتج أسباب ضعف دولة المماليك.
- يُبدى رأيه فى العلاقة بين الدولتين العثمانية والمملوكية.

الدرس الثانى
الحملة الفرنسية على مصر «١٧٩٨م - ١٨٠١م».

- يحدد أسباب الحملة الفرنسية على مصر والشام.
- يرسم خريطة توضح خط سير الحملة الفرنسية على مصر والشام.
- يوضح دور المقاومة فى فشل الحملة الفرنسية على مصر والشام.
- يستنتج أسباب حرص الدولة العثمانية وبريطانيا على خروج قوات الحملة الفرنسية من مصر.
- يستخلص نتائج الحملة الفرنسية على مصر.
- يقدر دور المقاومة الشعبية فى مواجهة المحتل.
- يقارن بين أحوال مصر قبل الحملة الفرنسية وبعدها.

الدرس الثالث
ثورة الشعب المصرى وتولية محمد على.

- يتتبع مراحل بروز شخصية (محمد على).
- يبرز دور الشعب المصرى فى تولية (محمد على).
- يقدر دور الشعب المصرى فى تولية (محمد على).
- يصف أحوال مصر قبل تولية (محمد على).
- يبدى رأيه فى انفراد (محمد على) بالسلطة .
- يحرص على التعايش مع الآخرين.
- يرسم خريطة زمنية لأهم الأحداث التاريخية منذ خروج الحملة الفرنسية من مصر حتى تولية (محمد على).

الدرس الرابع
محمد على وبناء مصر الحديثة.

- يحدد مظاهر بناء الدولة الحديثة فى عهد (محمد على).
- يقارن بين نظام الاحتكار ونظام الالتزام.
- يحدد أسباب حروب (محمد على) ونتائجها.
- يقدر أهمية أعمال (محمد على) الخارجية .
- يقدر دوافع سياسة (محمد على) الداخلية والخارجية.
- يقدر جهود (محمد على) فى بناء مصر الحديثة.
- يقدر دور الجيش فى حفظ الأمن والأمان لمصرنا العزيزة.

الدرس
الأول

مصر بين المماليك والعثمانيين

فى هذا الدرس سندرس

الصراع بين العثمانيين وكل من المماليك والصفويين

ملامح الحياة فى مصر إبان (خلال) الحكم العثمانى



الصراع بين العثمانيين وكل من المماليك والصفويين



* شهد العالم الإسلامى أواخر القرن الخامس عشر وأوائل القرن السادس عشر الميلاديين صراعًا حادًا بين ثلاث قوى، وقبل أن نتعرف على هذا الصراع يجب أولًا التعرف على هذه القوى، وهى :

١ الدولة المملوكية

- قامت فى مصر وضمت كل من الشام، والحجاز، وجزء من ساحل أفريقيا الشرقى المطل على البحر الأحمر.
- تعرضت أواخر القرن الـ ١٥م وبداية القرن الـ ١٦م إلى :
  - أزمات مالية وتدهور اقتصادى **بم تفسر؟** بسبب :
    - اكتشاف طريق رأس الرجاء الصالح عام ١٤٩٨م.
    - تحطم الأسطول المملوكى فى معركة ديو البحرية عام ١٥٠٩م.
  - أزمات سياسية **بم تفسر؟** بسبب :
    - الصراع المستمر بين المماليك.
    - كثرة الفتن والثورات الداخلية.
    - اضطراب الأمن.

وقد أدت هذه الأزمات إلى إضعاف القوة العسكرية لدولة المماليك.

٢ الدولة الصفوية

- مركزها إيران حاليًا (بلاد الفرس قديمًا).
- عاصمتها تبريز.

معلومة إثرائية

الدولة الصفوية : تنسب إلى مؤسسها إسماعيل الصفوى وهى دولة إسلامية وكان مركزها بلاد الفرس قديمًا وتدين بالمذهب الشيعى.

٣ الدولة العثمانية

- مع بداية القرن الـ ١٦م اتجه السلطان العثمانى سليم الأول فى توسعاته نحو الشرق حيث اصطدم عسكريًا بكل من :
  - الدولة الصفوية : هزمهم ودخل عاصمتهم تبريز بعد معركة جالديران عام ١٥١٤م.
  - الدولة المملوكية : انتصر عليهم واستولى على الشام، ومصر.

ولكن... لماذا اتجهت الدولة العثمانية فى توسعاتها إلى الشرق؟

هذا ما سنتعرف عليه فيما يلى ...

معلومة إثرائية

الدولة العثمانية : تنسب إلى مؤسسها عثمان بن أرطغرل وسيطرت على الأناضول (تركيا حاليًا) وتوسعت غربًا فى البلقان خلال حكمى محمد الفاتح وبايزيد الثانى.

أسباب اتجاه العثمانيين إلى الشام ومصر

١ إدراك السلطان سليم الأول خطورة التوسع والصدام مع دول أوروبا بسبب تفوقها حضاريًا وعسكريًا على العثمانيين.

٢ رغبة السلطان سليم الأول فى توسيع ممتلكات الدولة العثمانية فى الشرق عن طريق الاستيلاء على مصر التى تمثل قلب العالم الإسلامى.

استيلاء العثمانيين على الشام ومصر

* اتجه السلطان العثمانى سليم الأول بجيشه إلى الدولة المملوكية فبادر بالاستيلاء على إمارة ذى القادر المملوكية الواقعة على الحدود بين الدولتين المملوكية والعثمانية فخرج إليه السلطان الغورى من مصر إلى الشام ودارت بينهما معركة عند مرج دابق.

معركة مرج دابق | أغسطس ١٥١٦م

* أطرافها: العثمانيون (بقيادة سليم الأول) × المماليك (بقيادة السلطان الغورى)
* نتائجها:
  - هزيمة المماليك وانتصار العثمانيين.
  - أصبحت الشام تحت الحكم العثمانى.

* بعد ذلك اتجه سليم الأول إلى مصر حتى التقى بجيوش المماليك فى «صحراء العباسية» ودارت بينهما معركة عند الريدانية.



معركة الريدانية | يناير ١٥١٧م

* أطرافها: العثمانيون (بقيادة سليم الأول) × المماليك (بقيادة طومان باى)
* نتائجها:
  - هزيمة المماليك وانتصار العثمانيين ودخولهم القاهرة.
  - انتهاء دولة المماليك وأصبحت مصر ولاية عثمانية.

أسباب هزيمة الجيوش المملوكية أمام الجيش العثمانى

١ عدم الاستقرار الداخلى للمماليك والنزاع المستمر على السلطة.

٢ التفوق العسكرى للجيش العثمانى، واستخدام أساليب القتال الحديثة والأسلحة المتطورة.

نتائج هزيمة الجيوش المملوكية أمام العثمانيين

١ تحولت مصر من دولة مستقلة إلى ولاية عثمانية.

٢ انتقلت خلافة العالم الإسلامى الدينية والسياسية إلى الدولة العثمانية، فأعلن سليم الأول نفسه الحامى الوحيد للحرمين الشريفين ولجميع رعاياه فى العالم الإسلامى.

٣ سيطر العثمانيون على العالم العربى من الاتجاهين الآسيوى والأفريقى.

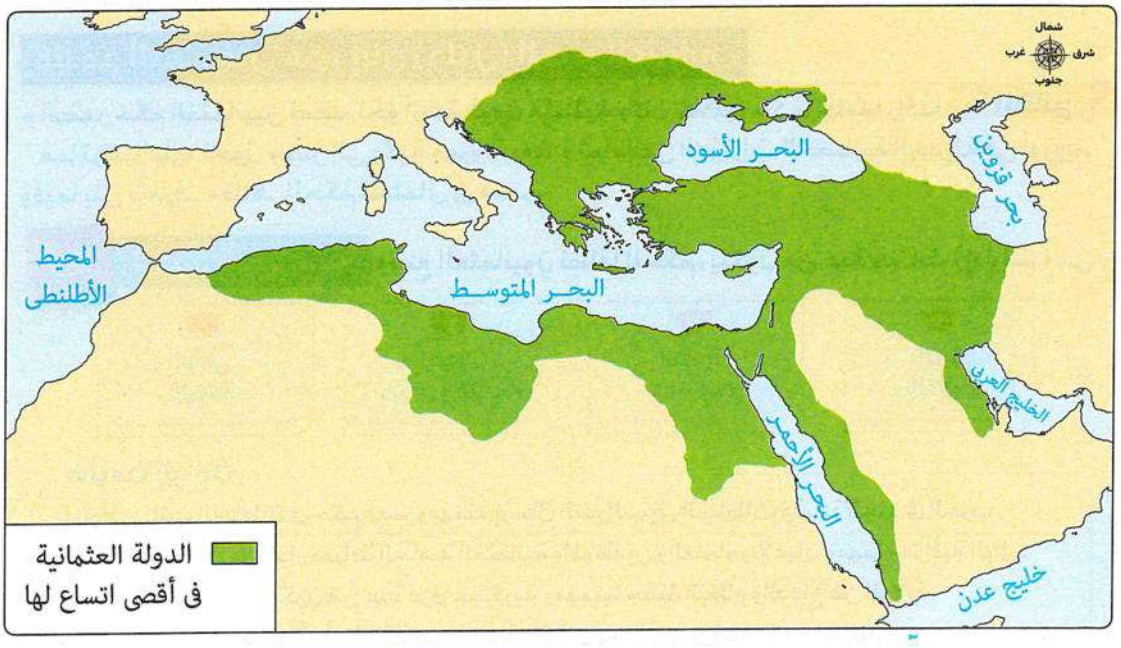

التدريب الأول

١ اكتب كلمة (صواب) أمام العبارة الصحيحة، وكلمة (خطأ) أمام العبارة غير الصحيحة، مع ذكر السبب فى الحالتين :

(١) بدأ صدام الدولة العثمانية فى الشرق بدولة المماليك. ☐

(٢) امتد نفوذ السلطان العثمانى سليم الأول إلى مصر بعد معركة الريدانية عام ١٥١٧م. ☐

(٣) اقتصرت أسباب هزيمة المماليك أمام العثمانيين على ضعفهم العسكرى. ☐

٢ دلل على صحة كل عبارة مما يأتى :

(١) كان للاكتشافات الجغرافية الأوروبية أواخر القرن الـ ١٥م أثرًا سلبيًا على دولة المماليك.

.....

(٢) أثر التقدم الأوروبى على استراتيجية السلطان سليم الأول التوسعية فى بداية القرن الـ ١٦م.

.....

٣ حدد الآثار الناتجة عن كل مما يلى :

(١) استيلاء السلطان سليم الأول على إمارة ذى القادر المملوكية.

.....

(٢) معركة مرج دابق أغسطس ١٥١٦م.

.....

(٣) هزيمة جيوش المماليك أمام العثمانيين أوائل القرن الـ ١٦م.

.....

ملامح الحياة فى مصر إبان (خلال) الحكم العثمانى

* استمر حكم العثمانيين لمصر نحو أربعة قرون متتالية وكان خلالها حكمًا جامدًا راكدًا **ما النتائج ؟**
مما ترتب عليه تحول مصر إلى ولاية معزولة بعيدة تمامًا عن المؤثرات الحضارية الحديثة فى أوروبا.
وفيما يلى نتعرف مظاهر الحكم العثمانى فى مصر.

أولًا الحياة السياسية

وضع العثمانيون نظامًا للحكم، يتكون من عدة هيئات (إدارات) هى :

١ الوالى (الباشا)

٢ الديوان (ديوان القاهرة)

٣ الحامية العثمانية

٤ إدارة الأقاليم

معلومة إثرائية

* **الوالى :** نائب السلطان فى حكم مصر ومهمته إرسال الضرائب إلى السلطان، وقيادة الجند فى الحرب.
* **الديوان :** يتكون من كبار ضباط الحامية العثمانية والموظفين والعلماء والأعيان ومهمته مراقبة الوالى.
* **الحامية العثمانية :** تتكون من عدة فرق عسكرية ومهمتها حفظ النظام والدفاع عن الولاية.
* **إدارة الأقاليم :** أسندت إلى أمراء المماليك لحفظ التوازن بين الوالى ورؤساء الحامية للبلاد.

بم تفسر حمل نظام الحكم العثمانى فى ثناياه «داخله» عوامل ضعفه ؟

بسبب : • قصر مدة حكم الوالى التى تتراوح ما بين سنة وثلاث سنوات.
• زيادة سلطة الديوان والحامية العثمانية.

* نتيجة لضعف الدولة العثمانية تطلع البكوات المماليك (حكام الأقاليم) للانفراد بالحكم، وكان أبرزهم على بك الكبير.

حركة على بك الكبير الاستقلالية



◄ استقل على بك الكبير بحكم مصر وصار الحاكم الفعلى لها عام ١٧٦٨م،
ثم قام بـ: • التحالف مع الشيخ ظاهر العمر حاكم جنوب الشام.
• إخضاع الحجاز لنفوذه.
• إرسال نائبه محمد بك أبو الدهب لغزو الشام واستطاع دخول دمشق.

لكن ... انحاز محمد بك أبو الدهب إلى السلطان العثمانى واتفق معه ضد على بك الكبير **ما النتائج** ؟ مما ترتب عليه :

• فشل حركة على بك.
• إعادة مصر ولاية عثمانية تحت حكم شيخ البلد محمد بك أبو الدهب.

ثانيًا الحياة الاقتصادية

تدهورت إبان (خلال) العصر العثمانى، ومن مظاهر ذلك :

١ الزراعة

* كانت الأرض ملكًا للدولة العثمانية (ممثلة فى السلطان العثمانى) ويتم تكليف الفلاحين بزراعتها على أساس «حق الانتفاع» حيث ينتفع الفلاح بزراعة الأراضى وليس له حق التصرف فيها.
* مع ضعف الدولة العثمانية فى منتصف القرن الـ ١٧م تم تطبيق نظام الالتزام (*).
* تدهورت الزراعة فى مصر خلال العصر العثمانى (وتدهور معها أحوال المجتمع الريفى بوجه عام) **بم تفسر** ؟ بسبب معاناة الفلاح من :
• كثرة الضرائب المفروضة على الأراضى الزراعية وشدة تعسف وظلم الملتزمين فى جمعها.
• إهمال الطبقة الحاكمة لتنظيم الرى وإقامة السدود وحفر الترع.

(*) نظام الالتزام : يقصد به جباية الأموال والضرائب المفروضة على الفلاحين المصريين ويتولى جمعها طبقة من الأثرياء أطلق عليهم الملتزمون وكانت تُعطى للوالى ثم يتم إرسالها إلى السلطان العثمانى.

٢ الصناعـة

* تدهورت وتأخرت الصناعة فى مصر خلال العصر العثمانى **بم تفسر؟** بسبب :

- تدهور الزراعة.
- إرسال أمهر الحرفيين والصناع المصريين إلى «الآستانة» عاصمة الدولة العثمانية.

لذلك أصبحت الصناعات يدوية بسيطة وكانت جميعها رديئة.

٣ التجـارة

التجارة الداخليـة كسدت التجارة الداخلية فى مصر أثناء العصر العثمانى **بم تفسر؟** بسبب :

- تدهور الزراعة والصناعة.
- افتقاد الأمن.
- إهمال الطرق البرية والإغارات المتلاحقة لبدو الصحراء عليها.

التجارة الخارجيـة تدهورت التجارة الخارجية فى مصر أثناء العصر العثمانى **بم تفسر؟** بسبب :

- تحول الطريق التجارى بين الشرق والغرب إلى طريق رأس الرجاء الصالح.
- منح الدولة العثمانية الامتيازات الأجنبية للدول الأوروبية.

ثالثًا الحياة الاجتماعية

انقسم المجتمع المصرى أثناء العصر العثمانى إلى فئتين، هما :

١ فئـة الحكـام

* **تكونت من** الأتـراك «العثمانيـين» و المماليـك، وكان لها كافة السلطات فى شئون الحكم والإدارة والجيش.

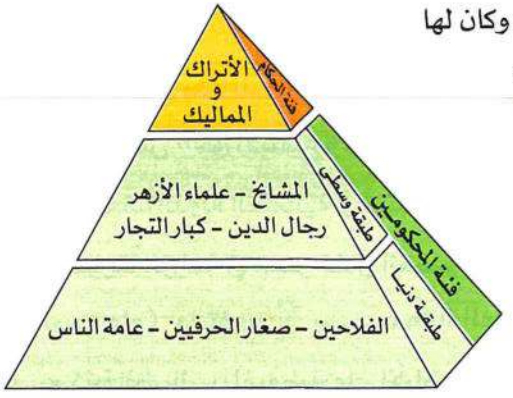

٢ فئـة المحكومين انقسمت إلى :

* **طبقة وسطى (محدودة) تكونت من :**
المشايخ و علماء الأزهر و رجال الدين وكبار التجار.
* **طبقة دنيا (أكثرية) تكونت من :**
الفلاحين وصغار الحرفيين وعامة الناس،
وقد عانت من : الفقر والظلم وتفشى الأمراض والأوبئة.

رابعًا الحياة الفكرية والثقافية

* اتسمت الحياة الفكرية والثقافية فى مصر أثناء العصر العثمانى بالجمود والتخلف **بم تفسر؟** بسبب العزلة التى فرضها العثمانيون على مصر.

ما النتائج التى ترتبت على تدهور الحياة الفكرية والثقافية بمصر أثناء الحكم العثمانى ؟

ترتب على ذلك :

- اهتزاز مكانة الأزهر العلمية فى ذلك الوقت ولم يعد هناك اهتمام بالعلوم العقلية والرياضية والطبيعية، ولكن كان هناك اهتمام بالعلوم الشرعية.
- تدهور الحياة الأدبية.
- انتشار الجهل والدجل والشعوذة والخرافات.

التدريب الثانى

١ ما تقييمك لمصداقية كل عبارة من العبارات الآتية ... ؟

(١) تأخرت مصر خلال الحكم العثمانى عن مواكبة المؤثرات الحضارية الحديثة فى أوروبا.

.....

(٢) تضمن نظام الحكم العثمانى فى مصر عوامل أدت إلى ضعفه.

.....

(٣) ساهم العثمانيون فى ازدهار الصناعة أثناء حكمهم لمصر.

.....

(٤) تكوُّن المجتمع المصرى أثناء الحكم العثمانى من فئتين أساسيتين.

.....

٢ دلل تاريخيًا على صحة العبارة التالية :

اتسمت الحياة الفكرية فى مصر بالجمود والتخلف خلال الحكم العثمانى.

.....

٣ بم تفسر : فشل الحركة الاستقلالية لعلى بك الكبير فى النصف الثانى من القرن الـ ١٨م ؟

.....

٤ حدد العلاقة بين :

(١) نظام الالتزام، وأحوال المجتمع الريفى خلال الحكم العثمانى.

.....

(٢) أحوال التجارة ، والامتيازات الأجنبية فى مصر أثناء الحكم العثمانى.

.....

٥ ما المقصود بـ : حق الانتفاع ؟

.....

أهم نقاط الدرس

الصراع بين العثمانيين وكل من المماليك والصفويين

* شهد العالم الإسلامى أواخر القرن الـ ١٥م وأوائل القرن الـ ١٦م :
  • صراعًا حادًا بين الدولة العثمانية والمملوكية والصفوية .
  • تعرض دولة المماليك لتدهور اقتصادى وسياسى مما أدى إلى إضعاف قوتها العسكرية.
* مع بداية القرن الـ ١٦م اتجه السلطان سليم الأول نحو الشرق واصطدم عسكريًا بـ :
  • الدولة الصفوية وهزمهم فى معركة جالديران ١٥١٤م ودخل عاصمتهم تبريز.
  • الدولة المملوكية وهزمهم فى الشام ومصر.

أسباب اتجاه العثمانيين إلى الشام ومصر

* إدراك السلطان سليم الأول خطورة التوسع والصدام مع دول أوروبا.
* رغبة السلطان سليم الأول فى توسيع ممتلكات الدولة العثمانية فى الشرق.

المعارك التى دارت بين العثمانيين والمماليك

* معركة مرج دابق بالشام عام ١٥١٦ م : انتصر فيها العثمانيون وأصبحت الشام تحت الحكم العثمانى.
* معركة الريدانية بمصر عام ١٥١٧ م : انتصر فيها العثمانيون وأصبحت مصر ولاية عثمانية وانتهت دولة المماليك.

أسباب هزيمة المماليك أمام العثمانيين

* عدم الاستقرار الداخلى للمماليك والنزاع المستمر على السلطة.
* التفوق العسكرى للجيش العثمانى واستخدام أساليب القتال الحديثة والأسلحة المتطورة.

نتائج هزيمة المماليك أمام العثمانيين

* تحولت مصر من دولة مستقلة إلى ولاية عثمانية.
* انتقلت خلافة العالم الإسلامى إلى الدولة العثمانية ، فأعلن سليم الأول نفسه الحامى الوحيد للحرمين الشريفين ولجميع رعاياه فى العالم الإسلامى.
* سيطر العثمانيون على العالم العربى من الاتجاهين الآسيوى والأفريقى.

ملامح الحياة فى مصر إبان (خلال) الحكم العثمانى

١ الحياة السياسية (نظام الحكم)	(١) **الوالى.** (٢) **الديوان.** (٣) **الحامية العثمانية.** (٤) **إدارة الأقاليم.** * حمل هذا النظام فى داخله عوامل ضعفه. بسبب: قِصر مدة حكم الوالى وزيادة سلطة الديوان والحامية العثمانية. * قام على بك الكبير أحد بكوات المماليك بحركة استقلالية ضد الدولة العثمانية وانتهت بالفشل.		
٢ الحياة الاقتصادية	**الزراعة** * تم تطبيق : • حق الانتفاع. • نظام الالتزام (فى منتصف القرن الـ١٧م). * تدهورت وعانى الفلاحين من كثرة الضرائب وتعسف الملتزمين فى جمعها وإهمال الطبقة الحاكمة لتنظيم الرى وإقامة السدود وحفر الترع.	**الصناعة** * تدهورت بسبب : • تدهور الزراعة. • إرسال أمهر الحرفيين والصناع المصريين إلى الآستانة عاصمة الدولة العثمانية.	**التجارة** * كسدت التجارة الداخلية بسبب : تدهور الزراعة والصناعة وافتقاد الأمن وإهمال الطرق البرية والإغارات المتلاحقة لبدو الصحراء عليها. * تدهورت التجارة الخارجية بسبب : تحول الطريق التجارى إلى طريق رأس الرجاء الصالح ومنح الدولة العثمانية الامتيازات الأجنبية للدول الأوروبية.
٣ الحياة الاجتماعية انقسم المجتمع المصرى إلى :	فئة الحكام وتكونت من : الأتراك، والمماليك.	فئة المحكومين وانقسمت إلى : • طبقة وسطى (المشايخ - علماء الأزهر - رجال الدين - كبار التجار). • طبقة دنيا (الفلاحين - صغار الحرفيين - عامة الناس).	
٤ الحياة الفكرية و الثقافية	* اتسمت بالجمود والتخلف بسبب : العزلة التى فرضها العثمانيون على مصر. * ترتب على تدهورها : • اهتزاز مكانة الأزهر العلمية. • تدهور الحياة الأدبية. • انتشار الجهل والدجل والشعوذة والخرافات.		

أسئلة على الدرس الأول



أسئلة تفاعلية

تذكر • فهم • تطبيق • مستويات عليا

١ اختر الإجابة الصحيحة مما بين القوسين :

(١) تحطم الأسطول المملوكى عام ١٥٠٩م فى معركة .....

(مرج دابق – الريدانية – ديو البحرية – جالديران) (الجيزة ٢٥)

(٢) عانت الدولة المملوكية أواخر القرن الـ ١٥م من أزمات اقتصادية مع تدهور .....

(الزراعة – الصناعة – التجارة الداخلية – التجارة الخارجية)

(٣) أعلن السلطان سليم الأول الحرب على المماليك عندما استولى على .....

(مدينة القاهرة – إمارة ذى القادر – بلاد الشام – بلاد الحجاز) (المنوفية ٢٤)

(٤) قاد طومان باى جيوش المماليك لمواجهة العثمانيين فى معركة .....

(ديو البحرية – جالديران – مرج دابق – الريدانية)

(٥) انتهت دولة المماليك بدخول العثمانيين مدينة .....

(تبريز – حلب – بغداد – القاهرة) (السويس ٢٣)

(٦) تغيرت تبعية مصر السياسية عام ١٥١٧م بعد معركة .....

(جالديران – مرج دابق – الريدانية – ديو البحرية) (ج. سيناء ٢٤)

(٧) انتقلت خلافة العالم الإسلامى عام ١٥١٧م إلى الدولة .....

(المملوكية – الصفوية – العباسية – العثمانية) (السويس ٢٥)

(٨) تحالف على بك الكبير مع ..... حاكم جنوب الشام أثناء حركته الاستقلالية بمصر.

(طومان باى – محمد بك أبو الدهب – ظاهر العمر – سليم الأول) (القاهرة ٢٣)

(٩) تغير وضع مصر السياسى عام ١٧٦٨م وترتب عليه تغير الوضع السياسى فى .....

(تبريز – الآستانة – الحجاز – بغداد)

(١٠) استطاع محمد بك أبو الدهب دخول دمشق بتكليف من .....

(السلطان الغورى – طومان باى – على بك الكبير – السلطان سليم الأول)

(١١) فشلت حركة على بك الكبير وعادت مصر ولاية عثمانية بسبب .....

(انتصار السلطان العثمانى عسكريًا – خضوع على بك الكبير للسلطان العثمانى –

انحياز محمد بك أبو الدهب للسلطان العثمانى – موالاة ظاهر العمر للسلطان العثمانى) (الغربية ٢٣)

(١٢) كان ..... سببًا مشتركًا فى تدهور الصناعة والتجارة فى مصر أثناء حكم العثمانيين.

(تعسف الملتزمين – تدهور الزراعة – إهمال الطرق – الكشوف الجغرافية) (بورسعيد ٢٣)

(١٣) ضمت الطبقة الوسطى من المجتمع المصرى أثناء الحكم العثمانى .....
(الأتراك - المماليك - كبار التجار - الفلاحين) (البحيرة ٢٥)

٢ أكمل العبارات التالية :

(١) قرر السلطان الغورى مواجهة العثمانيين بعد استيلائهم على .....
(٢) تولى ..... إدارة الأقاليم أثناء حكم العثمانيين لمصر.
(٣) طبق العثمانيون نظام ..... مع ضعف الدولة فى منتصف القرن الـ ١٧م. (المنيا ٢٣)
(٤) خلال فترة الحكم العثمانى لمصر كان هناك اهتمام بالعلوم ..... (البحيرة ٢٢)
(٥) انتقل أمهر الصناع المصريين بعد حكم العثمانيين للبلاد إلى مدينة ..... (مطروح ٢٢)

٣ اكتب كلمة (صواب) أمام العبارة الصحيحة، وكلمة (خطأ) أمام العبارة غير الصحيحة، مع ذكر السبب فى الحالتين :

(١) عاشت مصر فى رخاء اقتصادى بعد اكتشاف طريق رأس الرجاء الصالح. ( )
(٢) (الاتحاد قوة) يصعب تطبيق هذه المقولة فى مطلع القرن الـ ١٦م على المماليك. (الإسماعيلية ٢٤) ( )
(٣) تجنب السلطان العثمانى سليم الأول أوائل القرن الـ ١٦ م الصدام مع الدول الأوروبية. (المنيا ٢٤) ( )
(٤) انتهى الصدام بين الدولتين الصفوية والعثمانية بهزيمة السلطان سليم الأول. (ش. سيناء ٢٠) ( )
(٥) اتخذ السلطان سليم الأول من المناطق الحدودية مدخل لتحقيق طموحاته السياسية فى مصر. (الدقهلية ٢٣) ( )
(٦) سيطر العثمانيون على العالم العربى من الاتجاهين الآسيوى والأوروبى. ( )
(٧) تحولت مصر تحت حكم العثمانيين من مجرد ولاية إلى دولة مستقلة. ( )
(٨) تم تطبيق نظام الالتزام عقب فرض سليم الأول سيطرته على مصر. ( )
(٩) اقتصرت الصناعة فى مصر أثناء الحكم العثمانى على الصناعات اليدوية البسيطة. ( )

٤ اكتب ما تشير إليه كل عبارة مما يأتى :

(١) دولة قامت فى مصر والشام والحجاز وانتهت على يد الدولة العثمانية فى يناير ١٥١٧م. (الإسماعيلية ١٨) (.....)
(٢) تكليف الفلاحين - أثناء الحكم العثمانى - بزراعة الأرض دون حق التصرف فيها. (.....)

٥ من هو ... ؟

(١) هزم الصفويين فى معركة جالديران عام ١٥١٤م ودخل عاصمتهم تبريز. (الوادى الجديد ١٨) (.....)
(٢) أحد بكوات المماليك تطلع للانفراد بحكم مصر عام ١٧٦٨م. (دمياط ٢٤) (.....)
(٣) قائد المماليك فى معركة مرج دابق عام ١٥١٦م. (أسيوط ١٨) (.....)

(٤) أعلن نفسه الحامى الوحيد للحرمين الشريفين ولجميع رعاياه فى العالم الإسلامى بعد استيلاءه على أراضى الدولة المملوكية. (بورسعيد ٢٢) (.....)

٦ رتب الأحداث التاريخية الآتية من القديم إلى الحديث :

(.....) حركة على بك الكبير الاستقلالية بمصر. (.....) معركة الريدانية.

(.....) معركة مرج دابق. (.....) معركة جالديران.

٧ بم تفسر ... ؟

(١) تعرض دولة المماليك لتدهور اقتصادى منذ أواخر القرن الـ ١٥ م. (السويس ٢٢)

.....

(٢) تعرض دولة المماليك لأزمات سياسية أواخر القرن الـ ١٥م. (أسيوط ٢٥)

.....

(٣) اتجاه العثمانيين للاستيلاء على أراضى الدولة المملوكية.

.....

(٤) خروج السلطان الغورى بجيشه من مصر للشام عام ١٥١٦م.

.....

(٥) هزيمة الجيوش المملوكية فى موقعتى مرج دابق والريدانية. (كفر الشيخ ٢٥)

.....

(٦) حمل نظام الحكم العثمانى لمصر فى ثناياه عوامل ضعفه. (الغربية ٢٤)

.....

(٧) تطلع البكوات المماليك للانفراد بحكم مصر فى النصف الثانى من القرن الـ ١٨م. (الشرقية ٢٤)

.....

(٨) فشل حركة على بك الكبير الاستقلالية. (سوهاج ٢٠)

.....

(٩) التدهور الزراعى لمصر فى عصر الدولة العثمانية. (الوادى الجديد ٢٣)

.....

(١٠) كساد التجارة الداخلية فى مصر إبان الحكم العثمانى. (الأقصر ١٩)

.....

(١١) تدهور التجارة الخارجية لمصر أواخر حكم المماليك وأثناء حكم العثمانيين. (ج. سيناء ٢٥)

.....

(١٢) اتسمت الحياة الفكرية والثقافية فى مصر بالجمود والتخلف فى ظل الحكم العثمانى.

.....

٨ ما النتائج التى ترتبت على ... ؟

(١) اكتشاف طريق رأس الرجاء الصالح عام ١٤٩٨م بالنسبة للدولة المملوكية. (أسوان ٢٥)

.....

(٢) معركة ديو البحرية عام ١٥٠٩م. (المنيا ٢٥)

.....

(٣) تفوق الدول الأوروبية على العثمانيين أوائل القرن الـ ١٦م حضاريًا وعسكريًا. (كفرالشيخ ١٩)

.....

(٤) اتساع الفجوة بين أساليب القتال التى استخدمها العثمانيين والمماليك. (القاهرة ٢٥)

.....

(٥) فشل حركة على بك الكبير الاستقلالية بمصر. (الجيزة ٢٤)

.....

(٦) نقل الصناع المهرة من مصر إلى عاصمة الدولة العثمانية. (قنا ٢٤)

.....

(٧) الإغارات المتلاحقة لسكان الصحارى على الطرق التجارية البرية فى مصر إبان الحكم العثمانى.

.....

(٨) سياسة العزلة التى فرضها العثمانيين على مصر من الناحية الثقافية والفكرية. (أسيوط ٢٥)

.....

٩ ماذا كان يحدث إذا ... ؟

(١) انتصر طومان باى فى معركة الريدانية عام ١٥١٧م. (ش. سيناء ٢٥)

.....

(٢) لم ينحاز محمد بك أبو الدهب للسلطان العثمانى ضد على بك الكبير. (كفرالشيخ ٢٥)

.....

١٠ حدد وجه الشبه والاختلاف بين : معركة مرج دابق عام ١٥١٦م، ومعركة الريدانية عام ١٥١٧م.

.....

١١ دلل تاريخيًا على صحة كل عبارة مما يأتى :

(١) كان المماليك أنفسهم سببًا فى إضعاف قوتهم العسكرية. (ج. سيناء ٢٥)

.....

(٢) معاناة الفلاح المصرى أثناء الحكم العثمانى للبلاد.

.....

١٢ ما رأيك فى : إرسال أمهر الصناع المصريين إلى الآستانة أثناء الحكم العثمانى ؟ (البحرالأحمر ٢٥)

.....

أسئلة للتميز

١٣ اختر الإجابة الصحيحة مما بين القوسين :

(١) فقدت دولة المماليك أهميتها كوسيط تجارى بسبب .....
(الكشوف الجغرافية - معركة مرج دابق - معركة الريدانية - اضطراب الأمن)

(٢) أدرك سليم الأول أن العامل الرئيسى لإتمام توسعاته فى الشرق هو السيطرة على .....
(الدولة الصفوية - الشام - مصر - الحجاز)

(٣) تمثلت أول الخسائر العسكرية لدولة المماليك التى أثرت على مستقبل وجودها بعد ذلك فى معركة .....
(جالديران - ديو البحرية - مرج دابق - الريدانية)

(٤) كانت معركة مرج دابق ١٥١٦م بالنسبة للدولة المملوكية ذات أهداف .....
(هجومية - دفاعية - اقتصادية - توسعية)

(٥) تكون نظام الحكم فى مصر أثناء الحكم العثمانى لها من عدة هيئات ومن المتوقع أن يكون على رأسها .....
(الديوان - الحامية - الوالى - حكام الأقاليم)

(٦) استفادت عاصمة الدولة العثمانية اقتصاديًا بشكل مباشر من خبرات المصريين .....
(الزراعية - الصناعية - التجارية - السياسية)

١٤ استنتج الهدف من : لجوء العثمانيين لاتباع نظام الالتزام.

.....

١٥ ما وجه الارتباط بين : منصب شيخ البلد، وحركة على بك الكبير؟

.....

١٦ دلل على صحة كل عبارة مما يأتى :

(١) افتقد المجتمع المصرى إلى العدالة الاجتماعية أثناء الحكم العثمانى.

.....

(٢) كانت الظروف مواتية للتجار الأجانب فى مصر أثناء الحكم العثمانى.

.....

١٧ من الخريطة المقابلة نستنتج :

(١) يشير الرقم ..... إلى أول إمارة استولى عليها العثمانيون من المماليك.

(٢) يشير الرقم ..... إلى المعركة التى هُزم فيها السلطان الغورى.

(٣) يشير الرقم ..... إلى المعركة التى نتج عنها تغيير نظام الحكم فى مصر.



امتحان ؟ على الدرس الأول

١ (أ) اختر الإجابة الصحيحة مما بين القوسين :

(١) العامل المشترك بين التدهور الاقتصادى فى نهاية حكم المماليك وأثناء الحكم العثمانى لمصر ..... (الكشوف الجغرافية - نظام الالتزام - الامتيازات الأجنبية - افتقاد الأمن)

(٢) استولى ..... على إمارة ذى القادر المملوكية أوائل القرن الـ ١٦م.

(السلطان الغورى - طومان باى - السلطان سليم الأول - ظاهر العمر)

(٣) ضمت الطبقة الدنيا من المجتمع المصرى أثناء الحكم العثمانى .....

(المماليك - كبار التجار - الفلاحين - المشايخ)

(ب) ما النتائج التى ترتبت على ... ؟

(١) خضوع مصر للحكم العثمانى عدة قرون (من الناحية الحضارية).

(٢) معركة الريدانية عام ١٥١٧م. (أسوان ٢٢)

(جـ) قارن بين : معركة جالديران عام ١٥١٤م ، ومعركة مرج دابق عام ١٥١٦م، من حيث :

* الأطراف. * النتائج.

---

٢ (أ) صوب الكلمات التى تحتها خط :

(١) القوات المملوكية التى هُزمت خارج حدود مصر عام ١٥١٦م كان يقودها على بك الكبير.

(البحيرة ٢٤)

(٢) اقتصر التعليم فى مصر أثناء حكم العثمانيين على العلوم الطبيعية.

(ب) بم تفسر :

تدهور أحوال المجتمع الريفى فى مصر أثناء الحكم العثمانى ؟

(جـ) ما العلاقة بين :

النهضة الأوروبية واتجاه العثمانيين نحو الشرق أوائل القرن الـ ١٦ م ؟ (بورسعيد ٢٥)

(د) ماذا كان يحدث إذا :

نجحت حركة على بك الكبير الاستقلالية فى مصر ؟

الدرس
الثانى

الحملة الفرنسية على مصر «١٧٩٨م - ١٨٠١م»

فى هذا الدرس سندرس

- الحملة الفرنسية على مصر (١٧٩٨م)
- الحملة الفرنسية على الشام (مارس ١٧٩٩م)
- جلاء الحملة الفرنسية (سبتمبر ١٨٠١م)
- نتائج الحملة الفرنسية على مصر



نابليون بونابرت

* واكب الضعف الذى أصاب الدولة العثمانية بدء التنافس الاستعمارى بين إنجلترا وفرنسا فى أواخر القرن السابع عشر الميلادى واستمر طوال القرن الثامن عشر الميلادى، وتُعد الحملة الفرنسية على مصر والشام جزءًا من هذا التنافس.

الحملة الفرنسية على مصر (١٧٩٨م)

* وجه القنصل الفرنسى فى مصر تقارير تفيد بسوء الأوضاع السياسية والداخلية فى مصر، يحث فيها حكومة الثورة الفرنسية على إرسال حملة عسكرية على مصر لذلك أرسلت فرنسا حملتها عام ١٧٩٨م بقيادة نابليون بونابرت.



نابليون بونابرت

أسباب الحملة

١ تعويض فرنسا عن فقدان مستعمراتها بإنشاء مستعمرة فرنسية فى الشرق تكون قاعدتها مصر.

٢ قطع الطريق بين إنجلترا ومستعمراتها فى الهند.

إعداد الحملة

* أعد نابليون بونابرت حملته، فقام بـ :

- إعداد جيش.
- اصطحاب مجموعة من العلماء فى مختلف العلوم والفنون **بم تفسر؟** لدراسة أحوال مصر من جميع النواحى، وكيفية استغلال مواردها.
- إحضار مطبعتين إحداهما فرنسية والأخرى عربية، وذلك لطبع المنشورات للأهالى.

خط سير الحملة وأحداثها

* أبحرت الحملة سرًا من ميناء طولون بفرنسا، ثم أصدر نابليون أوامره بأن تتجه الحملة إلى مصر.



دخول الحملة إلى الإسكندرية (مقاومة الأهالى لها)



محمد كُريم

* وصلت قوات الحملة الفرنسية مدينة الإسكندرية قبل وصول قوات المماليك من القاهرة فواجهها (قاومها) أهالى الإسكندرية بزعامة حاكمها السيد محمد كُريم.

* استطاعت قوات الحملة الفرنسية :
  - الاستيلاء على مدينة الإسكندرية.
  - اعتقال حاكم الإسكندرية محمد كُريم وإعدامه رميًا بالرصاص فى سبتمبر ١٧٩٨م.

معلومة إثرائية

وزع نابليون منشورًا فى مصر بتاريخ ٢٧ يونيه ١٧٩٨م قبل وصول الحملة إلى الشواطئ المصرية، يقول فيه :

«إننى ما قدمت إليكم إلا لأخلص حقكم من يد المماليك الظالمين، وإن جميع الناس متساوون عند الله، وإن الشىء الذى يفرقهم عن بعضهم هو العقل والفضائل والعلم فقط».

زحف الحملة إلى القاهرة

واصلت القوات الفرنسية زحفها إلى القاهرة وفى طريقها التقت بقوات المماليك(*) ودارت بينهما معركة شبراخيت، ثم معركة إمبابة.



١ معركة شبراخيت

٢ معركة إمبابة

	معركة شبراخيت	معركة إمبابة
تاريخها	يوليو ١٧٩٨م	يوليو ١٧٩٨م
مكانها	فى البحيرة	بالقرب من القاهرة
أطرافها	المماليك × الفرنسيين	المماليك × الفرنسيين
نتائجها	• هزيمة المماليك. • فرار المماليك جنوبًا للدفاع عن القاهرة فرابطوا عند إمبابة.	• هزيمة المماليك. • **فرار كل من :** – مراد بك إلى الصعيد. – إبراهيم بك ومعه الوالى العثمانى إلى الشام.

(*) عندما وصلت الحملة الفرنسية مصر كانت تحت حكم ثنائى مملوكى (مراد بك، إبراهيم بك).

بم تفسر هزيمة المماليك أمام قوات الحملة الفرنسية ؟

بسبب اعتماد المماليك على الفروسية، بينما استخدم الفرنسيون المدافع والمعدات الحديثة.

دخول الحملة الفرنسية القاهرة

* استطاع نابليون بونابرت دخول القاهرة فى يوليو ١٧٩٨م، بعد أن أمَّنَ العلماء والمشايخ فى الجامع الأزهر على الأرواح والأموال.

معلومة إثرائية

منذ أن علمت إنجلترا بخروج الأسطول الفرنسى من ميناء طولون أرسلت أسطولًا حربيًا يبحث عن الأسطول الفرنسى للقضاء عليه، فوجد معظم سفن الأسطول الفرنسى بقيادة بروى فى خليج أبى قير فحاصره ودارت بينهما المعركة.

بعد دخول نابليون القاهرة أرسل قواته إلى باقى أجزاء مصر ولكن أثناء ذلك جاءه خبر وصول الأسطول الإنجليزى لخليج أبى قير وهناك دارت بينهما معركة.

معركة أبى قير البحرية | أغسطس ١٧٩٨م



نلسون

* مكانها : خليج أبى قير.
* أطرافها : الأسطول الإنجليزى (بقيادة نلسون) × أسطول الحملة الفرنسية
* نتائجها :
  - تحطيم وإغراق الأسطول الفرنسى.
  - حصار الأسطول البريطانى لشواطئ مصر الشمالية، مما أدى إلى :
    - القضاء على آمال فرنسا فى السيطرة على سواحل البحر المتوسط.
    - حرمان الحملة من إمدادات فرنسا لها.
    - شعور الجنود الفرنسيين بأنهم محاصرون داخل مصر.
    - توقف حركة التجارة الخارجية لمصر.

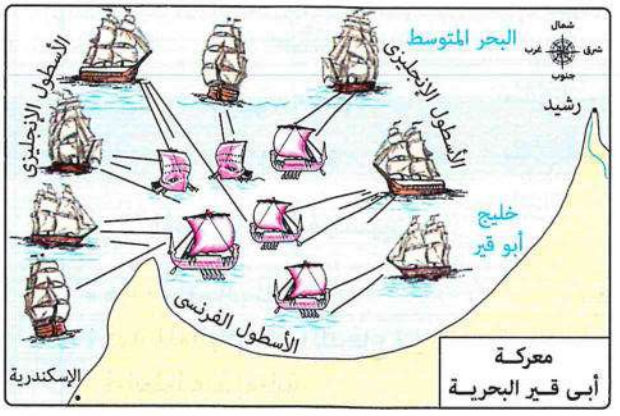

مقاومة الشعب المصرى للاحتلال الفرنسى تمثلت فى :

مقاومة أهالى الإسكندرية	مقاومة أبناء الصعيد	ثورة القاهرة الأولى	ثورة القاهرة الثانية
تعرفنا عليها فى ص ١٤٩	نتعرف عليهما فيما يلى		نتعرف عليها فى ص ١٥٥

مقاومة أبناء الصعيد

* أخفقت القوات الفرنسية فى إخضاع أهالى الصعيد الذين اتبعوا حرب المناوشات والمعارك المتفرقة التى أنهكت قوة الفرنسيين نظرًا لطول الوادى.

ونتج عن ذلك تعاظم الشعور الوطنى ونمو الوعى القومى تجاه الاحتلال الفرنسى.

ما المقصود بـ : مقاومة ؟

رفض الشعوب للاحتلال ومظاهره ودفعه «إخراجه» عن البلاد بمختلف الوسائل.

ثورة القاهرة الأولى أكتوبر ١٧٩٨م

* **مركزها :** الأزهر الشريف *(مقرًا لقيادة الثورة ضد قوات الاحتلال)*.

* **أسبابها :**
  - فرض نابليون الضرائب الفادحة على المصريين (لقطع الإمدادات من فرنسا بعد تحطيم الأسطول الفرنسى فى معركة أبى قير البحرية).
  - **قيام جنود الحملة بـ :**
    - تفتيش البيوت بحثًا عن الأموال.
    - هدم أبواب الحارات لمطاردة عناصر المقاومة.
    - هدم كثير من المبانى والآثار والمساجد بحجة تحصين القاهرة.

* **أحداثها :**
  - ثار الأهالى ضد الفرنسيين واشتدت المقاومة وامتدت الثورة إلى الأقاليم المجاورة وقُتل حاكم القاهرة الفرنسى (ديبوى).
  - استخدم الفرنسيون سياسة القمع والإرهاب لإخماد الثورة.
  - دخل الفرنسيون الجامع الأزهر بخيولهم مما أثار الشعور الدينى لدى المصريين.

* **نتائجها :**
  - إعدام الكثير من الأهالى والثوار.
  - فرض غرامات مالية على التجار والعلماء.
  - شروع القوات الفرنسية فى تحصين مدينة القاهرة.

التدريب الأول

١ اختر الإجابة الصحيحة مما بين القوسين :

(١) واجهت الحملة الفرنسية مقاومة شديدة منذ وصولها مصر بدأت على يد .....
(المماليك - العثمانيين - الإنجليز - المصريين)

(٢) كانت معركة ..... بداية النهاية للحملة الفرنسية فى مصر.
(شبراخيت - أبى قير البرية - إمبابة - أبى قير البحرية)

(٣) ساند العامل الجغرافى الجهد البشرى فى مقاومة القوات الفرنسية فى .....
(القاهرة - الإسكندرية - الصعيد - شبراخيت)

٢ أيد مصداقية كل عبارة من العبارات الآتية :

(١) تأثر وضع مصر السياسى بالصراع الاستعمارى الإنجليزى الفرنسى فى نهاية القرن الـ ١٨م.

.....

(٢) أدرك نابليون أثناء إعداده للحملة الفرنسية على مصر أهمية وجود وسيلة للتواصل مع المصريين.

.....

(٣) ظهر حرص نابليون بونابرت على الاستفادة من موارد مصر الاقتصادية أثناء إعداده للحملة.

.....

(٤) ظهرت الآثار السلبية للعزلة التى فرضها العثمانيون على مصر عند مواجهة الحملة الفرنسية.

.....

(٥) كشفت هزيمة الأسطول الفرنسى بمعركة أبى قير البحرية الوجه الحقيقى للحملة أمام المصريين.

.....

٣ حدد الآثار الناتجة عن : معركة أبى قير البحرية فى أغسطس ١٧٩٨م.

.....

٤ قارن بالاستعانة بالجدول التالى :

المعركة	شبراخيت (١)	إمبابة (٢)
الأطراف	.....	.....
النتائج	....	....

الحملة الفرنسية على الشام (مارس ١٧٩٩م)

* تحالفت الدولة العثمانية مع إنجلترا وروسيا لإخراج الفرنسيين من مصر بالقوة العسكرية، ولتحقيق ذلك أعدوا حملتين :

- حملة برية : تتوجه إلى مصر من جهة الشرق عن طريق الشام.
- حملة بحرية : تتوجه إلى مصر من جهة الشمال (البحر المتوسط) عن طريق جزيرة رودس.

أسباب الحملة

رغبة نابليون فى القضاء على الجيش العثمانى القادم من الشام (الحملة البرية) قبل أن يصل إلى مصر.

خط سير الحملة وأحداثها

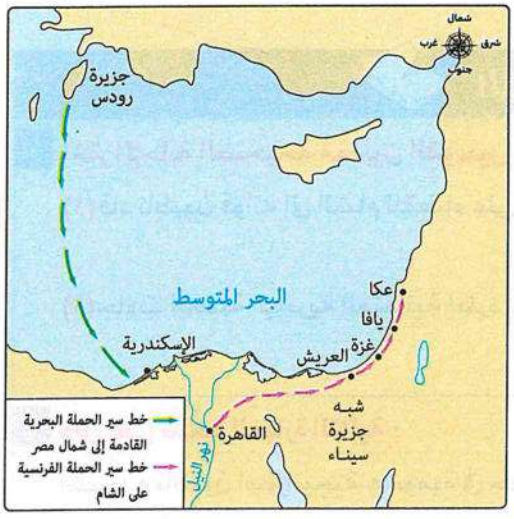

* قاد نابليون بونابرت قرته إلى الشام وفى طريقه استولى على العريش وغزة.
* حاصر نابليون يافا حصارًا شديدًا إلى أن استولى عليها وأعدم جميع أفراد حاميتها رغم إعطائه لهم الأمان على أرواحهم مرتكبًا جريمة بشعة سميت باسم «مذبحة يافا البشرية».

ما النتيجة التى ترتبت على مذبحة يافا البشرية ؟

أدى ذلك إلى استبسال أهالى عكا فى الدفاع عن مدينتهم.

* سار نابليون نحو مدينة عكا وحاصرها(*)، ولكنه فشل فى دخولها بسبب :
  - مقاومة واستبسال أهالى عكا بقيادة أحمد باشا الجزار.
  - مساعدة الأسطول البريطانى وإمداده لعكا بالمؤن والذخائر.

نتائج الحملة

١ فشلت الحملة الفرنسية على الشام (لعدم دخولها عكا).

٢ اضطر نابليون بونابرت للعودة إلى مصر.

(*) أثناء حصار نابليون لعكا قابل الجيش العثمانى (الحملة البرية) المتجه لمصر فحاربه وانتصر عليه.

◄ أثناء عودة نابليون من الشام إلى مصر كان الأسطول العثمانى القادم من جزيرة رودس (الحملة البحرية) قد وصل إلى أبى قير فتوجه نابليون إليهم و دارت بينهما معركة أبى قير البرية.

معركة أبى قير البرية | يوليو ١٧٩٩م

* أطرافها : قوات الحملة الفرنسية (بقيادة نابليون) × قوات الأسطول العثمانى.
* نتائجها : هزيمة القوات العثمانية.

رحيل نابليون من مصر

◄ بعد معركة أبى قير البرية، قرر نابليون العودة إلى فرنسا سرًا تاركًا أمر قيادة الحملة لنائبه كليبر **بم تفسر؟** بسبب تحالف الدول الأوروبية ضد فرنسا.

التدريب الثانى

١ اختر الإجابة الصحيحة مما بين القوسين :

(١) قاد نابليون قواته إلى الشام للقضاء على الجيش العثمانى وفى طريقه استولى على .....
(الإسكندرية - دمياط - رشيد - العريش)

(٢) جاءت الحملة البحرية العثمانية لطرد الحملة الفرنسية من مصر عن طريق جزيرة .....
(كريت - قبرص - مالطة - رودس)

٢ دلل على صحة العبارة التالية :

استخدم نابليون استراتيجية هجومية فى حملته على الشام مارس ١٧٩٩م.

.....

.....

٣ ما تقييمك لمصداقية العبارة التالية :

جاءت نتائج معركة أبى قير البرية عام ١٧٩٩م لصالح الدولة العثمانية ؟

.....

.....

٤ ما العلاقة بين : مذبحة يافا، ونتائج الحملة الفرنسية على الشام ؟

.....

.....

... للحملة الفرنسية فى مصر

* كان كليبر من أنصار الجلاء عن مصر لأن الأخطار كانت تهدد الحملة من كل جانب **دلل؟ حيث :**
- تناقص عدد جنود الجيش الفرنسى بسبب المعارك والحروب الداخلية والخارجية.
- إرسال الدولة العثمانية لحملة جديدة إلى العريش ودمياط.
- عودة المماليك للمقاومة.
- تجدد ثورات المصريين فى الشرقية وامتدادها إلى وسط الدلتا وغربها.

لذلك قام كليبر بالتفاوض مع الدولة العثمانية فيما عُرف بـ «اتفاقية العريش».


كليبر

اتفاقية العريش

* أطرافها : عام ١٨٠٠م الفرنسيون و العثمانيون.
* أسبابها : إدراك كليبر استحالة بقاء الحملة فى مصر فى ظل الأخطار التى تهدد وجودها.
* شروطها : خروج الحملة الفرنسية بجنودها إلى فرنسا على نفقة الدولة العثمانية.
* نتائجها :
- فشلت الاتفاقية ولم تخرج الحملة من مصر **بم تفسر؟ بسبب** رفض الحكومة البريطانية الاتفاق والمطالبة باستسلام الجيش الفرنسى كأسرى حرب فرفض كليبر.
- هاجم كليبر القوات العثمانية - بعد أن سمح بدخولها القاهرة - وأعادها متقهقرة للشام مرة أخرى.

ثورة القاهرة الثانية

* مركزها : حى بولاق. مارس ١٨٠٠م
أحداثها : قامت الثورة بزعامة السيد (عمر مكرم) نقيب الأشراف واشتدت الثورة فى حى بولاق.
نتائجها : • أخمدت القوات الفرنسية الثورة ودمرت حى بولاق.
• اشتد كليبر فى فرض المزيد من الضرائب ومصادرة الأموال.


عمر مكرم

ليبر

أت الأوضاع قُتل كليبر على يد سليمان الحلبى
الأزهر فى يونيه ١٨٠٠م.


سليمان الحلبى

حملة الفرنسية فى مصر

لحملة بعد مقتل كليبر.
نامة فى مصر وتحويلها إلى مستعمرة فرنسية كبرى **لذلك** قام بوضع
جالات الزراعة والصناعة والتجارة والصحة والنظام القضائى.


مينو

حملة الفرنسية (سبتمبر ١٨٠١م)

إنجلترا أسطولًا حربيًا إلى أبى قـــير فى فبراير ١٨٠١م لإخراج الحملة
ية من مصر، وانضم إليه الجيش العثمانى، فلم تستطع القوات
سية المقاومة واستسلمت وغادرت مصر فى سبتمبر ١٨٠١م.

ما المقصود بـ: جلاء ؟
رحيل قوات الاحتلال عن البلد المحتل.

نج الحملة الفرنسية على مصر

طحب نابليون مجموعة كبيرة من العلماء فى مختلف المجالات، ولذلك تركت الحملة نتائج بعيدة المدى تمثلت فى:

نمو الروح القومية لدى المصريين دلل ؟ حيث تمسك المصريون بحقهم فى الحرية وفى اختيار حاكمهم بعد خروج الحملة (كما سيتضح فى الدرس القادم).

نتائج سياسية:

٢ توجيه أنظار الدول الأوروبية عامة وإنجلترا خاصة لأهمية موقع مصر الجغرافى والاستراتيجى.

٣ تنظيم أمور الحكم والإدارة حيث قام نابليون بإنشاء الديوان العام ودواوين الأقاليم وديوان القاهرة بم تفسر ؟ يهدف تدريب الأعيان والعلماء المصريين على نظام مجالس الشورى من حيث الاستشارة وتلقى الآراء فيما يعود على الأهالى بالنفع العام.

٤ قيام علماء الحملة بعدد من الأعمال تتمثل فى:
- دراسة شق قناة تربط بين البحر الأحمر والبحر المتوسط.
- إنشاء المجمع العلمى المصرى.
- تأليف كتاب وصف مصر.
- اكتشاف حجر رشيد عام ١٧٩٩م، وقد ترتب على ذلك التعرف على التاريخ المصرى القديم.

نتائج علمية:

معلومة إثرائية
* يُعد كتاب وصف مصر أول موسوعة حديثة لمصر تتضمن وصف مصر من أقدم العصور حتى نهاية عهد الحملة الفرنسية وبه الكثير من الرسوم والأشكال والخرائط منها خريطة للقطر المصرى.
* العالم الفرنسى شامبليون هو من استطاع فك رموز الكتابة الموجودة على حجر رشيد.

٥ الآثار الاقتصادية والاجتماعية حيث اهتم الفرنسيون بوضع مشروعات للإصلاح فى المجالات المختلفة.
- الزراعة: تنويع المحاصيل الزراعية والاهتمام بمشاريع الرى.
- الصناعة: من خلال إنشاء مصانع للنسيج وبعض الصناعات الدقيقة
- [illegible]عة وصناعة حروف الطباعة.
- [illegible]: من خلال فتح أسواقًا لمصر فى بلاد البحر الأحمر ودارفور فى حبشة وبلاد شمال أفريقيا.
- انشاء المحاجر الصحية فى القاهرة، والعديد من المدن الأخرى

نتائج اقتصادية

التدريب الثالث

١ اختر الإجابة الصحيحة مما بين القوسين :

(١) فشل أول تفاوض عثمانى فرنسى فى مصر بداية القرن الـ ١٩م بسبب .....
(المماليك - الحكومة البريطانية - الشعب المصرى - روسيا)

(٢) كانت أعمال الحملة الفرنسية فى الجانب ..... سببًا فى ظهور أمجاد المصريين القدماء فيما بعد إلى النور.
(الاجتماعى - العلمى - السياسى - الاقتصادى)

(٣) من إنجازات الحملة الفرنسية على مصر فى المجال الاجتماعى .....
(الاهتمام بمشاريع الرى - إنشاء المحاجر الصحية - تأليف كتاب وصف مصر - إنشاء ديوان القاهرة)

٢ اكتب ما تشير إليه كل عبارة مما يأتى :

(١) اتفاقية عُقدت بين الفرنسيين والعثمانيين عام ١٨٠٠م ورفضها الإنجليز. (.....)
(٢) أحد طلاب الأزهر قام بقتل القائد الفرنسى كليبر. (.....)
(٣) رحيل قوات الاحتلال عن البلد المحتل. (.....)
(٤) أحد قادة الحملة الفرنسية وقام بإنشاء الديوان العام وديوان القاهرة. (.....)

٣ اذكر عملًا واحدًا قام به كل مما يلى :

(١) عمر مكرم : .....
(٢) مينو : .....

٤ بم تفسر ... ؟

(١) كان كليبر من أنصار رحيل الحملة الفرنسية عن مصر.
.....

(٢) جلاء الحملة الفرنسية عن مصر فى سبتمبر ١٨٠١م.
.....

(٣) قيام الحملة الفرنسية بإنشاء الدواوين فى مصر.
.....

٥ ما النتائج التى ترتبت على : ثورة القاهرة الثانية ما ... ١٨٠٠م ؟
.....

٦ دلل تاريخيًا على صحة كل عبارة مما يأتى :

(١) نمو الروح القومية لدى المصريين من نتائج الحملة الفرنسية على مصر.
.....

(٢) قام علماء الحملة الفرنسية بعدد من الأعمال المهمة بالنسبة لمصر.
.....

(٣) اهتمت الحملة الفرنسية بوضع مشروعات للإصلاح الاقتصادى فى مصر.
.....

أهم نقاط الدرس

الحملة الفرنسية على مصر (١٧٩٨م : ١٨٠١م)

أسباب الحملة

* تعويض فرنسا عن فقدان مستعمراتها بإنشاء مستعمرة فرنسية فى الشرق تكون قاعدتها مصر.
* قطع الطريق بين إنجلترا ومستعمراتها فى الهند.

معارك الحملة

* معركة شبراخيت يوليو ١٧٩٨م.
* معركة إمبابة يوليو ١٧٩٨م.

} انتصرت فيهما قوات الحملة الفرنسية على المماليك.

* معركة أبى قير البحرية أغسطس ١٧٩٨م : تحطم فيها الأسطول الفرنسى على يد الأسطول الإنجليزى.
* معركة أبى قير البرية يوليو ١٧٩٩م : انتصرت فيها قوات الحملة الفرنسية على قوات الأسطول العثمانى.

مقاومة الشعب المصرى للحملة

يقصد بالمقاومة : رفض الشعوب للاحتلال ومظاهره ودفعه «إخراجه» عن البلاد بمختلف الوسائل.

* مقاومة أهالى الإسكندرية عند وصول الحملة.
* ثورة القاهرة الأولى.
* مقاومة أبناء الصعيد.
* ثورة القاهرة الثانية.

حملة نابليون على الشام مارس ١٧٩٩م

* سببها : رغبة نابليون فى القضاء على الجيش العثمانى القادم من الشام قبل أن يصل إلى مصر.
* طريقه : استولى على العريش وغزة ويافا، ثم سار نحو عكا وحاصرها.
* يقصد بـ ـا : فشلت الحملة الفرنسية على الشام لعدم دخولها عكا.

ـة عن مصر

* أرسلت إنجلتر
ولم تستطع القوات ـال الاحتلال عن البلد المحتل.

دور إنجلترا فى فشل الحملة

ـال أبى قير فى فبراير ١٨٠١م لإخراج الحملة وانضم إليها الجيش العثمانى
ـومة فاستسلمت وتم جلاء الحملة فى سبتمبر ١٨٠١م.

* تحطيم أسطول الحملة وإغراقه فى موقعة أبى قير
وحرمان الحملة من إمدادات فرنسا.
* التحالف مع الدولة العثمانية وروسيا ضد الحملة.
* إرسال أسطول حربى عام ١٨٠١م لإخراج الحملة من مصر.

ـة ١٧٩٨م، وترتب على ـ حصار الشواطئ الشمالية لمصر
* مساعدة أهالى عكا وإمدادهم بالمؤن والذخائر.

نتائج الحملة على مصر

* نمو الروح القومية لدى المصريين.
* توجيه أنظار دول أوروبا وخاصة إنجلترا إلى أهمية موقع مصر الجغرافى والاستراتيجى.
* تنظيم أمور الحكم والإدارة حيث تم إنشاء الدواوين لتدريب الأعيان والعلماء المصريين على نظام مجالس الشورى.
* قيام علماء الحملة بـ : • دراسة شق قناة تربط بين البحر الأحمر والبحر المتوسط.
• إنشاء المجمع العلمى المصرى.
• اكتشاف حجر رشيد والذى ترتب عليه التعرف على التاريخ المصرى القديم.
• تأليف كتاب وصف مصر.
* الاهتمام بالمشروعات الاقتصادية والاجتماعية.

أسئلة على الدرس الثانى



أسئلة تفاعلية

• تذكر • فهم • تطبيق مستويات عليا

١ اختر الإجابة الصحيحة مما بين القوسين :

(١) قررت فرنسا إرسال حملتها إلى مصر عام ١٧٩٨م مستغلة .....
(العداء مع الدولة العثمانية - تدهور أوضاع مصر الداخلية - الصراع الاستعمارى الإنجليزى الروسى - إعلان المماليك فى مصر الحرب على الفرنسيين)

(٢) بدأت أول مقاومة وطنية ضد الحملة الفرنسية على مصر عند .....
(دخول نابليون القاهرة - ثورة القاهرة الأولى - مقاومة أهالى الصعيد - دخول نابليون الإسكندرية)

(٣) انطلقت القوات المملوكية لمواجهة الحملة الفرنسية بعد الاستيلاء على الإسكندرية من .....
(العريش - الشرقية - الصعيد - القاهرة)

(٤) أول معارك المماليك ضد الحملة الفرنسية ١٧٩٨م كانت فى .....
(الإسكندرية - البحيرة - الجيزة - القاهرة) (قنا ٢٥)

(٥) فر مراد بك بعد هزيمته من الفرنسيين فى معركة إمبابة إلى .....
(الشرقية - الإسكندرية - الصعيد - الشام)

(٦) ربط الوالى العثمانى مصيره بمصير المماليك بعد معركة .....
(أبى قير البرية - إمبابة - شبراخيت - أبى قير البحرية)

(٧) دخل الفرنسيون القاهرة عقب معركة .....
(شبراخيت - إمبابة - أبى قير البحرية - أبى قير البرية) (السويس ١٩)

(٨) ظهر دور إنجلترا لأول مرة فى مقاومة وجود الحملة الفرنسية بمصر فى معركة .....
(أبى قير البرية - إمبابة - أبى قير البحرية - شبراخيت) (الإسكندرية ٢٥)

(٩) توقفت حركة التجارة الخارجية بمصر عام ١٧٩٨م بسبب .....
(كثرة الضرائب المفروضة - الكشوف الجغرافية - اضطراب الأمن - حصار الإنجليز لسواحل مصر الشمالية)

(١٠) شرع نابليون فى تحصين القاهرة بعد .....
(ثورة القاهرة الأولى - معركة أبى قير البرية - معركة أبى قير البحرية - ثورة القاهرة الثانية) (القاهرة ٢٣)

(١١) تحالفت الدولة العثمانية مع ..... لإخراج الفرنسيين من مصر.
(إنجلترا وإيطاليا - إنجلترا وروسيا - إيطاليا وألمانيا - ألمانيا وروسيا)

(١٢) أهم الاستراتيجيات التى طبقها نابليون بونابرت بحملته على بلاد الشام هى .....
(عنصر المفاجأة - التحالف الدولى - الهجوم خيرًا من الدفاع - المناورة والخداع)

(١٣) قام نابليون بونابرت فى الشام بارتكاب جريمة بشعة بعد استيلائه على مدينة .....
(غزة - حيفا - يافا - عكا) (دمياط ٢٢)

(١٤) المدينة التى تصدى أهلها بزعامة أحمد باشا الجزار للحملة الفرنسية هى .....
(العريش - يافا - غزة - عكا)

(١٥) رحل نابليون إلى فرنسا سرًا بعد معركة .....
(أبى قير البحرية - أبى قير البرية - شبراخيت - إمبابة) (المنوفية ٢٣)

(١٦) بدأت الأخطار تحيط بالحملة الفرنسية منذ عهد ..... (نابليون - كليبر - مينو - نلسون)

(١٧) أول من بدأ سياسة التفاوض مع الدولة العثمانية من قادة الحملة الفرنسية .....
(نابليون - كليبر - مينو - نلسون) (دمياط ٢٥)

(١٨) سمح الفرنسيون بدخول القوات العثمانية إلى القاهرة فى عهد .....
(نابليون - كليبر - مينو - نلسون) (الدقهلية ٢٥)

(١٩) قام المصريون بثورة القاهرة الثانية عام ١٨٠٠م بزعامة .....
(محمد كريم - مراد بك - أحمد باشا الجزار - عمر مكرم) (الوادى الجديد ٢٢)

(٢٠) قام سليمان الحلبى أحد طلاب الأزهر بقتل القائد ..... (مينو - كليبر - نابليون - نلسون)

(٢١) وجهت الحملة الفرنسية أنظار الدول الأوروبية إلى .....
(قوة الحامية العثمانية بمصر - موقع مصر الجغرافى والاستراتيجى - خيرات وادى النيل - كفاءة المماليك العسكرية)

(٢٢) ترتب على اكتشاف حجر رشيد ..... (التعرف على التاريخ المصرى القديم - إعداد كتاب وصف مصر - توجيه أنظار إنجلترا نحو مصر - إنشاء المجمع العلمى المصرى)

٢ أكمل العبارات الآتية بكلمات مناسبة :

(١) أبحرت قوات الحملة الفرنسية على مصر سرًا من ميناء ..... (قنا ٢٠)

(٢) التقت قوات الحملة الفرنسية وقوات المماليك فى ..... بالبحيرة فى يوليو ١٧٩٨م.

(٣) أغرق الأسطول البريطانى بقيادة نلسون الأسطول الفرنسى فى خليج .....
أغسطس ١٧٩٨م. (مطروح ١٧)

(٤) المدينة التى خرجت منها قوات الحملة الفرنسية على الشام ..... (الفيوم ٢٥)

(٥) قام الفرنسيون بإخماد ثورة القاهرة الثانية وتدميرحى .....

٣ اكتب كلمة (صواب) أمام العبارة الصحيحة، وكلمة (خطأ) أمام العبارة غير الصحيحة، مع ذكر السبب فى الحالتين :

(١) تُعد الحملة الفرنسية على مصر والشام جزءًا من التنافس الاستعمارى بين إنجلترا وفرنسا. (المنوفية ٢٠) ( )

(٢) أعد نابليون حملته على مصر واصطحب معه مجموعة من العلماء فى مختلف العلوم والفنون. ( )

(٣) تعاون السيد (محمد كريم) مع قوات المماليك لمواجهة الفرنسيين فى الإسكندرية. (المنيا ٢٤) ( )

(٤) استخدم المماليك الأسلحة الحديثة فى مواجهة القوات الفرنسية. (أسوان ٢٠) ( )

(٥) كان لموقعة أبى قير البحرية ١٧٩٨م آثار اقتصادية سلبية على مصر. ( )

(٦) تغلبت الطبيعة الجغرافية على الأسلحة الحديثة فى حروب نابليون بصعيد مصر. (الشرقية ٢٣) ( )

(٧) كانت الظروف التى ترك فيها نابليون قيادة الحملة الفرنسية فى مصر سببًا فى عقد معاهدة العريش ١٨٠٠م. (بورسعيد ٢٤) ( )

(٨) حققت الحملة الفرنسية على مصر أهدافها العسكرية. (الفيوم ٢٤) ( )

(٩) أرسلت إنجلترا أسطولًا حربيًا إلى أبى قير عام ١٨٠١م أثناء قيادة كليبر للحملة الفرنسية. (مطروح ٢٣) ( )

(١٠) كان للحملة الفرنسية العديد من النتائج العلمية بقيت آثارها فى مصر حتى الوقت الحالى. ( )

(١١) أيقظت الحملة الفرنسية على مصر الروح القومية لدى المصريين. (الجيزة ١٨) ( )

(١٢) تركت الحملة الفرنسية نتائج بعيدة المدى على المصريين بفضل قوتها العسكرية. ( )

٤ صوب ما تحته خط :

(١) جاءت الحملة الفرنسية على مصر لقطع الطريق بين إنجلترا ومستعمراتها فى رودس. (سوهاج ٢٤) (.....)

(٢) ارتبط تعاظم الشعور الوطنى والوعى القومى لدى المصريين بمقاومة القوة الفرنسية فى شبراخيت. (القليوبية ٢٤) (.....)

(٣) كان كليبر ينوى الإقامة فى مصر وتحويلها إلى مستعمرة فرنسية. (الإسكندرية ١٧) (.....)

٥ من هو ... ؟

(١) أرسل تقريرًا يفيد بسوء الأوضاع السياسية والداخلية فى مصر وكان سببًا فى مجىء الحملة الفرنسية على مصر. (.....)

(٢) أُعدم رميًا بالرصاص فى سبتمبر ١٧٩٨م لتصديه للحملة الفرنسية فى الإسكندرية. (أسيوط ١٨) (.....)

(٣) قاد حركة المقاومة ضد حملة نابليون فى عكا. (الإسكندرية ٢٢) (.....)

(٤) قائد فرنسى تولى قيادة الحملة الفرنسية فى مصر بعد رحيل نابليون إلى فرنسا سرًا. (المنيا ٢٣) (.....)

٦ بم تفسر... ؟

(١) مجىء الحملة الفرنسية على مصر عام ١٧٩٨م. (الأقصر ٢٥)

.....

(٢) اصطحاب نابليون فى حملته على مصر مجموعة من العلماء. (كفر الشيخ ٢٤)

.....

(٣) قيام ثورة القاهرة الأولى أكتوبر ١٧٩٨م ضد الفرنسيين. (البحيرة ٢٠)

.....

(٤) التحالف البريطانى الروسى مع الدولة العثمانية عام ١٧٩٩م.

.....

(٥) الحملة الفرنسية على الشام فى مارس ١٧٩٩م.

.....

(٦) فشل الحملة الفرنسية فى الاستيلاء على مدينة عكا. (الأقصر ٢٤)

.....

(٧) رحيل نابليون سرًا إلى فرنسا. (المنيا ١٧)

.....

(٨) فشل اتفاقية العريش عام ١٨٠٠م. (المنوفية ٢٥)

.....

٧ ما النتائج التى ترتبت على ... ؟

(١) معركة إمبابة فى يوليو ١٧٩٨م. (دمياط ١٩)

.....

(٢) تحطيم الأسطول الفرنسى فى معركة أبى قير البحرية عام ١٧٩٨م. (السويس ٢٢)

.....

(٣) ثورة المصريين ضد الحملة الفرنسية فى أكتوبر ١٧٩٨م. (قنا ٢٥)

.....

(٤) مذبحة يافا البشرية. (الوادى الجديد ٢٤)

.....

(٥) رغبة كليبر فى خروج الحملة الفرنسية من مصر. (المنيا ٢٠)

.....

(٦) الاحتلال الفرنسى لمصر (١٧٩٨م - ١٨٠١م).

.....

٨ دلل تاريخيًا على صحة كل عبارة مما يأتى :

(١) كان لأبناء الصعيد دورًا وطنيًا فى مقاومة الحملة الفرنسية. (أسيوط ٢٥)

.....

(٢) كانت التحالفات الدولية سببًا فى خروج نابليون من مصر مرتين.

.....

(٣) ترك نابليون مصر والأخطار تهدد الحملة الفرنسية من كل جانب. (بنى سويف ٢٢)

.....

(٤) كان لرفض إنجلترا اتفاقية العريش آثار عسكرية سلبية على العثمانيين. (مطروح ٢٤)

.....

(٥) تشابهت سياسة نابليون وكليبر فى التعامل مع ثورات المصريين.

.....

(٦) كان لإنجلترا دور كبير فى فشل الحملة الفرنسية على مصر. (كفر الشيخ ٢٠)

.....

(٧) اهتم الفرنسيون بتنظيم أمور الحكم والإدارة فى مصر.

.....

(٨) لم تكن الحملة الفرنسية على مصر مجرد حملة عسكرية للغزو والاحتلال.

.....

(٩) كان للحملة الفرنسية آثارًا متناقضة على التجارة الخارجية بمصر آنذاك.

.....

٩ قارن بين : ثورة القاهرة الأولى، وثورة القاهرة الثانية ضد الاحتلال الفرنسى، من حيث :

* مركز المقاومة. * قائد الحملة الفرنسية أثناء الثورة. * النتائج.

.....

.....

.....

١٠ ماذا كان يحدث إذا ... ؟

(١) انتصر المماليك فى معركة شبراخيت عام ١٧٩٨م.

.....

(٢) انتصر الأسطول الفرنسى على الأسطول الإنجليزى فى موقعة أبى قير البحرية. (ج. سيناء ١٨)

.....

(٣) قبلت الحكومة البريطانية اتفاقية العريش عام ١٨٠٠م. (الغربية ٢٠)

.....

١١ ما رأيك فى ... ؟

(١) اصطحاب نابليون للعلماء فى حملته على مصر.

.....

(٢) موقف أهالى عكا من الحملة الفرنسية على الشام.

.....

(٣) إشراك نابليون الأعيان والعلماء المصريين فى الديوان العام. (دمياط ١٧)

.....

١٢ ما العلاقة بين... ؟

(١) معركة أبى قير البحرية، وثورة القاهرة الأولى. (الدقهلية ٢٣)

.....

(٢) الحملة الفرنسية، والروح القومية للمصريين. (الأقصر ٢٣)

.....

(٣) الحملة الفرنسية، وتاريخ مصر القديم. (الإسكندرية ٢٥)

.....

١٣ رتب الأحداث التاريخية الآتية من القديم إلى الحديث :

(....) مجىء الحملة الفرنسية على مصر. (....) ثورة القاهرة الثانية.

(....) اتفاقية العريش. (....) معركة أبى قير البحرية.

(....) مذبحة يافا البشرية.

أسئلة للتميز

١٤ اختر الإجابة الصحيحة مما بين القوسين :

(١) حدث فراغ سياسى فى حكم مصر أثناء الحملة الفرنسية بعد معركة .....

(شبراخيت - أبى قير البرية - أبى قير البحرية - إمبابة)

(٢) تخلى نابليون عن تعهداته مع علماء الأزهر بعد دخوله للقاهرة كان سببًا فى .....

(ثورة القاهرة الأولى - مقاومة أهالى الصعيد - ثورة القاهرة الثانية - تحالف المماليك مع العثمانيين)

(٣) التقت القوات الفرنسية مع العثمانيين للمرة الثالثة ..... (بعد فشل اتفاقية العريش - أثناء حصار عكا - فى موقعة أبى قير البحرية - فى موقعة أبى قير البرية)

(٤) اطلع المصريون على بعض ملامح الحياة الديمقراطية فى أوروبا من خلال مشاركتهم فى ..... (المجمع العلمى - تأليف كتاب وصف مصر - الدواوين - مقاومة الحملة)

١٥ استنتج سبب : خلو القاهرة من أية قوة للدفاع عنها ضد الحملة الفرنسية يوليو ١٧٩٨م.

.....

١٦ قارن بين : أسباب توقف التجارة الخارجية لمصر فى أواخر القرن الخامس عشر الميلادى، وبعد مجىء الحملة الفرنسية عام ١٧٩٨م.

.....

.....

١٧ ما العلاقة بين : معركة أبى قير البحرية، واتفاقية العريش ؟

.....

١٨ من الخريطة المقابلة استنتج :

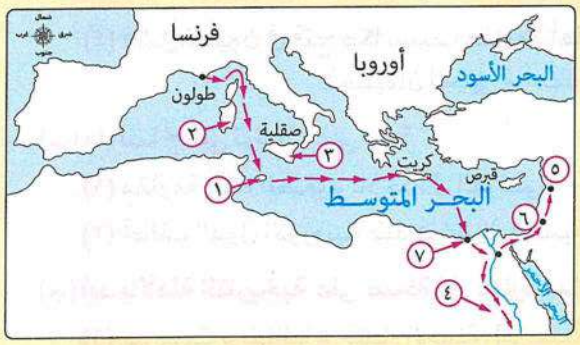

(١) يشير الرقم ④ إلى منطقة أخفق نابليون فى إخضاعها بمصر وهى .....

(٢) يشير الرقم ..... إلى مدينة أعدم نابليون جميع حاميتها.

(٣) يشير الرقم ..... إلى جزيرة استولى عليها نابليون لمراوغة الأسطول الإنجليزى.

امتحان ؟ على الدرس الثانى

١ (أ) اكتب كلمة (صواب) أمام العبارة الصحيحة، وكلمة (خطأ) أمام العبارة غير الصحيحة، مع التصويب :

(١) لم يتحرك السلطان العثمانى لمواجهة الحملة الفرنسية عند نزولها الإسكندرية. ( )

(٢) بعد موقعة إمبابة فر إبراهيم بك إلى الصعيد. ( )

(٣) أظهرت الحملة الفرنسية على مصر مدى قوة العثمانيين والمماليك فى المجال العسكرى. ( )

(٤) فشلت الحملة الفرنسية فى قطع طريق المواصلات بين إنجلترا ومستعمراتها فى الهند. ( )

(ب) ما المقصود بكل مصطلح تاريخى مما يأتى ... ؟

(١) مقاومة. (السويس ٢٤) (٢) جلاء.

(جـ) قارن بين : موقف نابليون من الأزهر الشريف عند دخول القاهرة يوليو ١٧٩٨م، وأثناء ثورة القاهرة الأولى فى أكتوبر ١٧٩٨م.

(د) ما رأيك فى : إعدام نابليون حامية يافا رغم تأمينه لهم على أرواحهم ؟

---

٢ (أ) اختر الإجابة الصحيحة مما بين القوسين :

(١) أول صدام عسكرى بين الحملة الفرنسية والمماليك كانت معركة .....

(شبراخيت - أبى قير البرية - الإسكندرية - إمبابة) (القاهرة ٢٤)

(٢) أكثر الأسلحة التى اعتمد عليها المماليك خلال مقاومتهم للحملة الفرنسية سلاح .....

(المدفعية - الفرسان - البحرية - المشاة)

(٣) انتهت آمال فرنسا فى السيطرة على سواحل البحر المتوسط بعد .....

(عودة نابليون إلى فرنسا - فشل نابليون فى فتح عكا - معركة أبى قير البحرية - ثورة القاهرة الأولى) (بورسعيد ١٧)

(٤) فشل نابليون فى فتح عكا بسبب مقاومة أهلها بقيادة .....

(سليمان الحلبى - أحمد باشا الجزار - مراد بك - عمر مكرم) (بورسعيد ٢٣)

(ب) ما النتائج التى ترتبت على ...؟

(١) مقاومة أبناء الصعيد للاحتلال الفرنسى. (الشرقية ٢٥)

(٢) تحالف الدول الأوروبية ضد فرنسا (بالنسبة للحملة الفرنسية على مصر).

(جـ) أيد بالأدلة التاريخية على صحة كل عبارة مما يلى :

(١) ساهمت بريطانيا فى فشل الحملة الفرنسية على الشام.

(٢) كان للحملة الفرنسية آثارًا إيجابية على علاقة مصر بأفريقيا. (الفيوم ٢٥)

الدرس
الثالث

ثورة الشعب المصرى وتولية محمد على

فى هذا الدرس سندرس ← أحوال مصر قبل تولية محمد على الحكم ← تولية محمد على حكم مصر ← توطيد (تثبيت) سيادة محمد على فى الحكم



أحوال مصر قبل تولية محمد على الحكم

* شهدت مصر منذ خروج الحملة الفرنسية عام ١٨٠١م وحتى تولى محمد على الحكم فى ١٣ مايو ١٨٠٥م فترة من الفوضى والاضطرابات **بم تفسر؟** بسبب الصراعات بين المماليك والعثمانيين وإنجلترا(*) رغبة فى استئثار كل منهم فى السيطرة وبسط النفوذ على مصر.

* استمرت مصر فى النهاية ولاية تابعة للدولة العثمانية والتى بدأت فى استعادة سيطرتها على حكم البلاد، لكن قام الشعب المصرى بالعديد من الثورات ضد الولاة العثمانيين وزعماء المماليك كان أهمها ثورة الشعب المصرى فى مارس ١٨٠٤م **بم تفسر؟** بسبب فرض الضرائب والإتاوات على الأهالى.

أثناء تلك الأحداث بدأت تظهر شخصية محمد على(**)

موقف محمد على من الثورة : خشى أن تصيب الثورة جنوده، **فقام بما يلى :**

- جاهر بالانضمام إلى العلماء والمشايخ.
- اختلط بالأهالى الساخطين.
- تعهد للعلماء بأن يبذل قصارى جهده لرفع الضريبة عن الناس.
- اقترح تعيين خورشيد باشا واليًا على مصر والذى تم تعيينه من قِبَل السلطان العثمانى.

أدى موقف محمد على من الثورة إلى :

كسب عطف الشعب وثقة زعمائه الذين نظروا إليه كرجل عادل يكره الظلم.

تولية محمد على حكم مصر



محمد على

* فى ١٣ مايو ١٨٠٥م اجتمع زعماء الشعب من العلماء ونقباء الطوائف بدار المحكمة «*بيت القاضى*»، **وقرروا :**
  - عزل خورشيد باشا الوالى العثمانى.
  - تعيين محمد على واليًا على مصر، بعد أن أخذوا عليه العهود والمواثيق بأن يحكم بالعدل، وألا يُبرم «يُصدر» أمرًا إلا بمشورتهم.

* موقف السلطان العثمانى من قرار زعماء الشعب :

أصدر فرمانًا فى ٩ يوليو ١٨٠٥م، **تضمن :**

- عزل خورشيد باشا.
- تعيين محمد على واليًا على حكم مصر.

ما المقصود بـ : فرمان؟

أمر سلطانى يصدر من قِبَل سلطان الدولة العثمانية واجب التنفيذ.

وبذلك أصبح يوم ١٣ مايو ١٨٠٥م يومًا مهمًا فى تاريخ مصر الحديث

حيث كانت هذه أول مرة يُعزل فيها الوالى ويُعين آخر بإرادة الشعب وشروطه

(*) عُقد صلح إميان فى مارس ١٨٠٢م بين بريطانيا وفرنسا وبمقتضاه تم سحب القوات البريطانية من مصر فى مارس ١٨٠٣م.

(**) ولد محمد على عام ١٧٦٩م فى مدينة قولة باليونان التى كانت تحت الحكم العثمانى وجاء إلى مصر مع القوات العثمانية لمحاربة الحملة الفرنسية ثم أصبح قائدًا للجند الألبان فى مصر.

التدريب الأول

١ ما تقييمك لمصداقية كل عبارة مما يأتى ... ؟

(١) اقتصر الصراع على المماليك والعثمانيين من أجل السيطرة على مصر عقب خروج الحملة الفرنسية.

.....

(٢) يُعد تولى محمد على حكم مصر حدثًا مهمًا فى تاريخ مصر الحديث.

.....

٢ دلل تاريخيًا على صحة العبارتين الآتيتين :

(١) رفض الشعب المصرى أسلوب حكم العثمانيين والمماليك عقب خروج الحملة الفرنسية من مصر.

.....

.....

(٢) تجلى دور الزعامة الشعبية فى مصر أوائل القرن الـ ١٩م.

.....

.....

٣ ما النتائج التى ترتبت على ... ؟

(١) انضمام محمد على لثورة المصريين عام ١٨٠٤م.

.....

.....

(٢) إصدار السلطان العثمانى لفرمان ٩ يوليو ١٨٠٥م.

.....

.....

٤ بم تفسر : كسب محمد على ثقة المصريين أثناء أحداث ثورة مارس ١٨٠٤ م ؟

.....

.....

٥ ما المقصود بـ : فرمان ؟

.....

.....

توطيد (تثبيت) سيادة محمد على فى الحكم

* قبل أن يتفرغ محمد على لبناء دولة مصر الحديثة كان عليه أولًا أن يطمئن لاستقرار الحكم فى يده وذلك بمواجهة المشكلات التى اعترضته فى بداية حكمه، وهى :



١ محاولة نقله من مصر (فرمان يوليو ١٨٠٦م)

* لم ترضخ (تقبل) بريطانيا بتولية محمد على الحكم لذلك سعت إلى إقناع السلطان العثمانى بعزل محمد على وإسناد ولاية مصر إلى محمد بك الألفى (المملوكى) أو تولية أى والٍ عثمانى آخر لكى تطمئن على مصالحها الاقتصادية فى المنطقة.

موقف السلطان العثمانى

* استجاب لبريطانيا وأرسل أسطولًا يحمل أمرًا (فرمان يوليو ١٨٠٦م) يتضمن :
  - نقل محمد على واليًا على سالونيك فى مقدونيا.
  - تسليم السلطة دون معارضة أو مقاومة إلى والٍ عثمانى جاء مع الأسطول العثمانى فى يوليو ١٨٠٦م.

موقف الزعامة الشعبية المصرية

* وقفت بجانب محمد على مما ترتب عليه رضوخ السلطان العثمانى وتخليه عن فكرة نقل محمد على من ولاية مصر وقام بتثبيته عليها، فتدهورت العلاقة بين بريطانيا والسلطان العثمانى.

٢ حملة فريزر (الحملة الإنجليزية)(*) (مارس ١٨٠٧م)

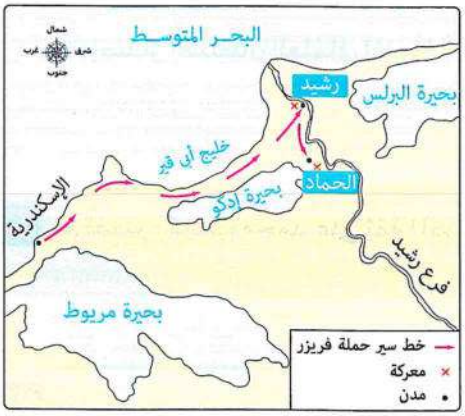

* انتهزت بريطانيا فرصة تدهور العلاقة بينها وبين السلطان العثمانى وأرسلت حملة عسكرية على مصر بقيادة فريزر فى مارس ١٨٠٧م.

* أهدافها :
  - احتلال مصر.
  - خلع محمد على من الحكم.
  - تولية محمد بك الألفى (تابعها المملوكى) الحكم.

* نتائجها :
  - هزيمة الحملة الإنجليزية فى رشيد والحماد.
  - جلاء الحملة من مصر مقابل الإفراج عن الأسرى.
  - دخول محمد على الإسكندرية منتصرًا.

(*) بعدما نزلت الحملة الإنجليزية إلى الإسكندرية، واصلت زحفها حتى وصلت إلى رشيد والحماد وهناك تصدى لها المصريين بشجاعة وتقهقرت القوات البريطانية إلى الإسكندرية.

٣ الزعامة الشعبية

* أراد محمد على أن ينفرد بالحكم دون وصاية أو رقابة شعبية لذا قرر التخلص من الزعامة الشعبية (الممثلة فى السيد عمر مكرم) بعد أن أدرك دورها فى توليته حكم مصر، والقيود التى فرضتها عليه عند قبوله الولاية.
* أخذ محمد على يترقب الوقت المناسب(*) للتخلص من عمر مكرم وقد ساعده فى ذلك انقسام القيادات الشعبية فيما بينها حول تقدير ومكانة عمر مكرم بين الناس، حيث أخذ منافسوه يدسون له عند محمد على الذى انتهز هذه الفرصة، وقام بـ:
  - خلع عمر مكرم من نقابة الأشراف.
  - إبعاد «نفى» عمر مكرم إلى دمياط عام ١٨٠٩م.

٤ المماليك

* حرص محمد على منذ بداية حكمه على التخلص من المماليك **بم تفسر؟**

  لأنه كان يرى أنهم يمثلون مصدرًا للقلق والفوضى.
* اتخذ محمد على عدة أساليب للتخلص من المماليك، منها:
  - حرمانهم من تولى المناصب الرفيعة فى الدولة، مثل: مشيخة البلد.
  - مطاردتهم فى كل مكان.
  - تدبير مذبحة القلعة فى مارس ١٨١١م.

معلومة إثرائية مذبحة القلعة والتخلص من المماليك:

أقام محمد على فى القلعة احتفالًا بخروج الجيش المصرى إلى شبه الجزيرة العربية للقضاء على الحركة الوهابية فانتهز الفرصة ودعا أمراء المماليك وأتباعهم لحضور الحفل وهناك انهال عليهم جنود محمد على بالرصاص فقُتلوا جميعًا إلا أحد المماليك وهو أمين بك الذى غادر مصر بعد ذلك.

وبذلك تمكن محمد على من الانفراد تمامًا بحكم البلاد
والتى أرادها ببُعد نظره وطموحه فى مصاف الدول الأوروبية الحديثة

(*) استغل محمد على فرصة الأزمة الاقتصادية نتيجة انخفاض منسوب النيل بمصر (أغسطس ١٨٠٨م) ليتخذ بعض القرارات التى تحقق له غرضه فى السيطرة والانفراد بالحكم.

التدريب الثانى

١ من هو ... ؟

(١) قائد الحملة الإنجليزية على مصر عام ١٨٠٧م. (.....)

(٢) أحد زعماء الشعب وكان له دور فى تولية محمد على حكم مصر. (.....)

٢ بم تفسر ... ؟

(١) سعى بريطانيا عام ١٨٠٦م إلى تغيير والى مصر.

.....

(٢) نجاح محمد على فى إقصاء عمر مكرم عن المشهد السياسى.

.....

(٣) رغبة محمد على فى التخلص من المماليك.

.....

٣ ما النتائج التى ترتبت على ... ؟

(١) نفى عمر مكرم إلى دمياط عام ١٨٠٩م.

.....

(٢) مذبحة القلعة فى مارس ١٨١١م.

.....

٤ دلل تاريخيًا على صحة كل عبارة مما يأتى :

(١) واجه محمد على فى بداية حكمه تحديات من داخل مصر.

.....

(٢) تعددت وسائل محمد على للتخلص من المماليك.

.....

٥ ما العلاقة بين : فرمان ١٨٠٦م، ومجىء الحملة الإنجليزية على مصر ١٨٠٧م ؟

.....

أهم نقاط الدرس

يقصد بـ :

فرمـــان	أمر سلطانى يصدر من قِبَل سلطان الدولة العثمانية واجب التنفيذ.

القوى المتصارعة على حكم مصر بعد خروج الحملة الفرنسية

* شهدت مصر منذ خروج الحملة الفرنسية عام ١٨٠١م فترة من الفوضى والاضطرابات بسبب الصراع بين المماليك والعثمانيين وإنجلترا للسيطرة على مصر ولكن استمرت مصر فى النهاية ولاية عثمانية.

بروز شخصية محمد على وتوليه حكم مصر



* قام الشعب المصرى بالعديد من الثورات ضد الولاة العثمانيين وزعماء المماليك كان أهمها ثورة مارس ١٨٠٤م والتى برزت خلالها شخصية محمد على حيث جاهر محمد على بالانضمام للعلماء والمشايخ واختلط بالأهالى الساخطين فاكتسب ثقة الشعب وزعمائه.
* اجتمع زعماء الشعب بدار المحكمة فى ١٣ مايو ١٨٠٥م واختاروا محمد على واليًا على مصر وأخذوا عليه العهود والمواثيق أن يحكم بالعدل وألا يبرم أمرًا إلا بمشورتهم.

المشكلات التى واجهت محمد على فى بداية حكمه ومواجهته لها

١ **محاولة نقله من مصر (فرمان يوليو ١٨٠٦م) :** تغلب عليها عن طريق مساعدة الزعامة الشعبية له.

٢ **حملة فريزر مارس ١٨٠٧م :** تم هزيمتها فى رشيد والحماد وجلاء الحملة من مصر مقابل الإفراج عن الأسرى.

٣ **الزعامة الشعبية :** تخلص من سيطرتهم مستغلًا انقسامهم فقام بخلع عمر مكرم من نقابة الأشراف وإبعاده (نفيه) إلى دمياط عام ١٨٠٩م.

٤ **المماليك :** حرمهم من تولى المناصب الرفيعة، مثل مشيخة البلد، وطاردهم فى كل مكان ثم دبر لهم مذبحة القلعة مارس ١٨١١م.

أسئلة على الدرس الثالث



أسئلة تفاعلية

• تذكر • فهم • تطبيق • مستويات عليا

١ اختر الإجابة الصحيحة مما بين القوسين :

(١) ازدادت أحوال مصر سوءًا خلال الفترة من ١٨٠١م : ١٨٠٥م بسبب ..... (ظهور شخصية محمد على - الأزمات الاقتصادية المتتالية - تدخل الزعامة الشعبية فى السياسة - الصراع على السلطة)

(٢) العامل المشترك لقيام المصريين بالثورات ضد الولاة العثمانيين وزعماء المماليك هو .....
(فرض الضرائب - اضطهاد الزعامة الشعبية - النزاع على السلطة - المطالبة بالاستقلال)

(٣) حقق محمد على عام ١٨٠٤م هدفه من الانضمام لصفوف الشعب المصرى وهو .....
(إظهار قوته العسكرية - ارتفاع مكانته - القضاء على المماليك - مساندة السلطان العثمانى له)

(٤) أصدر السلطان العثمانى فرمان عام ١٨٠٦م بنقل محمد على إلى .....
(سالونيك - الآستانة - مقدونيا - رودس) (المنوفية ٢٤)

(٥) سعت بريطانيا فى مطلع القرن الـ ١٩م لتولية حكم مصر لحلفائها من .....
(المماليك - المصريين - العثمانيين - الفرنسيين) (المنوفية ٢٣)

(٦) تدهورت العلاقة بين الإنجليز والدولة العثمانية بعد ..... (تولية محمد على الحكم - رضوخ السلطان العثمانى للزعامة الشعبية عام ١٨٠٦م - حملة فريزر ١٨٠٧م - مذبحة القلعة ١٨١١م) (الغربية ٢٢)

(٧) دخل «محمد على» الإسكندرية منتصرًا عام ١٨٠٧م نتيجة هزيمة فريزر فى .....
(الحماد وشبراخيت - رشيد وإمبابة - رشيد والحماد - شبراخيت والبحيرة) (الشرقية ٢٤)

(٨) نُفى عمر مكرم عام ١٨٠٩م إلى مدينة ..... (دمياط - الإسكندرية - أسوان - رشيد) (بورسعيد ٢٤)

(٩) تخلص محمد على من المماليك بعدة أساليب منها .....
(تحديد إقامتهم - حرمانهم من مشيخة البلد - نفيهم خارج البلاد - عزلهم من الدواوين)

(١٠) بدأ محمد على تطبيق سياسة الحكم المطلق بعد ..... (القضاء على الزعامة الشعبية - هزيمة الحملة الإنجليزية - فشل تنفيذ فرمان يوليو ١٨٠٦م - مذبحة القلعة مارس ١٨١١م)

٢ أكمل العبارات التالية بكلمات مناسبة :

(١) استطاعت ..... استعادة سيطرتها على حكم البلاد بعد خروج الحملة الفرنسية من مصر عام ١٨٠١م.

(٢) قرر زعماء الشعب من العلماء ونقباء الطوائف فى ١٣ مايو ١٨٠٥م عزل ..... من حكم مصر.

(٣) كان عام ١٨٠٥م أول مرة يعزل فيها ..... فى تاريخ مصر الحديث من قِبَل الشعب.

٣ اكتب كلمة (صواب) أمام العبارة الصحيحة، وكلمة (خطأ) أمام العبارة غير الصحيحة، مع ذكر السبب فى الحالتين :

(١) شهدت مصر حالة من الاستقرار السياسى عقب خروج الحملة الفرنسية. (القاهرة ٢٥) ( )

(٢) ظهرت أطماع إنجلترا فى مصر عقب خروج الحملة الفرنسية. ( )

(٣) كانت ثورة الشعب المصرى عام ١٨٠٤م مكسبًا سياسيًا لمحمد على. (المنوفية ١٨) ( )

(٤) أصدر السلطان العثمانى فرمانًا بتولية محمد على حكم مصر فى ٩ يوليو ١٨٠٥م. ( )
(٥) تمثل حملة فريزر ١٨٠٧م اعتراضًا من إنجلترا على اختيار الشعب المصرى. (القليوبية ٢٥) ( )
(٦) فشلت محاولة إنجلترا فى نقل محمد على من حكم مصر بسبب تفوقه العسكرى. (الإسماعيلية ٢٠) ( )
(٧) تخلص محمد على من المماليك بطردهم ونفيهم خارج البلاد. (القليوبية ١٨) ( )

٤ اكتب ما تدل عليه كل عبارة مما يأتى :

(١) مكان اجتمع فيه زعماء الشعب المصرى وقرروا فيه تولية محمد على الحكم. (.....)
(٢) أمر سلطانى يصدر من قِبَل السلطان العثمانى واجب التنفيذ. (كفر الشيخ ٢٠) (.....)
(٣) أحد زعماء الشعب سعى محمد على للتخلص منه للانفراد بالحكم دون وصاية أو رقابة. (.....)

٥ بم تفسر ... ؟

(١) ثورة الشعب المصرى فى مارس ١٨٠٤م.
.....
(٢) ساهمت سياسة محمد على تجاه ثورة المصريين عام ١٨٠٤م فى تولية السلطة فى مصر. (الشرقية ٢٣)
.....
(٣) أهمية اجتماع زعماء الشعب فى دار المحكمة ١٣ مايو ١٨٠٥م. (البحيرة ٢٥)
.....
(٤) كان محمد على مقيدًا فى بداية حكمه لمصر.
.....
(٥) رغبة بريطانيا فى تولية محمد بك الألفى حكم مصر. (القليوبية ٢٢)
.....
(٦) حملة فريزر على مصر فى مارس ١٨٠٧م. (المنوفية ١٨)
.....
(٧) نفى «محمد على» للسيد «عمر مكرم» إلى دمياط عام ١٨٠٩م.
.....
(٨) تخلص محمد على من المماليك. (البحر الأحمر ٢٥)
.....

٦ ما النتائج التى ترتبت على ... ؟

(١) اجتماع زعماء الشعب المصرى بدار المحكمة فى ١٣ مايو ١٨٠٥م. (ش. سيناء ٢٥)
.....
(٢) الحملة الإنجليزية على مصر عام ١٨٠٧م. (الإسكندرية ٢٢)
.....
(٣) انقسام القيادات الشعبية المصرية حول تقدير مكانة السيد «عمر مكرم». (بنى سويف ٢٠)
.....

٧ ماذا كان يحدث إذا : لم تقف الزعامة الشعبية بجانب محمد على ضد فرمان ١٨٠٦م ؟ (ش. سيناء ٢٥)

.....

٨ ما رأيك فى : قيام محمد على بمذبحة القلعة مارس ١٨١١م ؟ (مطروح ١٨)

.....

٩ أيد بالأدلة التاريخية صحة كل عبارة مما يأتى :

(١) حاولت إنجلترا التخلص من محمد على بالطرق السلمية والعسكرية. (مطروح ٢٣)

.....

(٢) نجاح الإرادة الشعبية فى تغيير المشهد السياسى لمصر عام ١٨٠٥م. (الغربية ٢٠)

.....

(٣) فرضت الزعامة الشعبية إرادتها على السلطان العثمانى عام ١٨٠٦م. (ج. سيناء ٢٢)

.....

أسئلة للتميز

١٠ اختر الإجابة الصحيحة مما بين القوسين :

(١) ساهمت الحملة الفرنسية فى إبراز قوى سياسية جديدة على الساحة المصرية وهى .....
(المماليك - العثمانيين - الإنجليز - الزعامة الشعبية)

(٢) يُعد انضمام محمد على لصفوف الأهالى الساخطين عام ١٨٠٤م دليلًا على .....
(حرصه على استقرار الأمن والنظام - رغبته فى جذب عطف السلطان العثمانى - كراهيته للحكم المملوكى العثمانى - إدراكه لتغير ميزان القوى بمصر)

(٣) ظهر التحالف الإنجليزى المملوكى ضد محمد على لأول مرة من خلال ..... (حملة فريزر ١٨٠٧م - ثورة الشعب المصرى ١٨٠٤م - فرمان يوليو ١٨٠٥م - محاولة نقل محمد على ١٨٠٦م)

(٤) حدث أول تقارب بين محمد على والزعامة الشعبية أثناء ..... (ثورة الشعب المصرى ١٨٠٤م - توليته حكم مصر - محاولة نقله إلى سالونيك - حملة فريزر)

١١ اكتب كلمة (صواب) أمام العبارة الصحيحة، وكلمة (خطأ) أمام العبارة غير الصحيحة، مع ذكر السبب فى الحالتين :

(١) كانت العلاقات البريطانية العثمانية تسير على وتيرة واحدة فى العقد الأول من القرن الـ ١٩م. ( )

(٢) وضع الشعب المصرى قاعدة الحكم الدستورى بمصر فى ١٣ مايو ١٨٠٥م. ( )

١٢ دلل تاريخيًا على صحة العبارة التالية :

فرضت الزعامة الشعبية إرادتها على السلطان العثمانى فى مطلع القرن الـ ١٩م عدة مرات.

.....

١٣ ماذا كان يحدث إذا : استمر دعم السلطان العثمانى لخورشيد باشا رغم ثورة الشعب المصرى ضده ؟

.....

امتحان ؟ على الدرس الثالث

١ (أ) اختر الإجابة الصحيحة مما بين القوسين :

(١) القوى الجديدة التى انضمت للصراع على السلطة بمصر عقب رحيل الحملة الفرنسية هى ..... (المماليك - العثمانيين - الإنجليز - الزعامة الشعبية)

(٢) أقدم «محمد على» على خلع السيد عمر مكرم من .....

(مشيخة البلد - نقابة الأشراف - ديوان القاهرة - نقابة الطوائف)

(٣) كان عزل خورشيد وتعيين محمد على عام ١٨٠٥م انتصارًا لإرادة .....

(العثمانيين - المماليك - المصريين - الإنجليز) (بورسعيد ٢٣)

(٤) تخلص محمد على من ..... فى مذبحة القلعة.

(الزعامة الشعبية - المماليك - خورشيد باشا - الأتراك)

(ب) بم تفسر ... ؟

(١) تغير موقف محمد على من الزعامة الشعبية بعد توليه الحكم.

(٢) لم ترضخ بريطانيا بسهولة بعد تولية محمد على حكم مصر. (القليوبية ٢٣)

(ج) ما وجه الشبه بين : سياسة محمد على مع المماليك، وسياسة نابليون مع حامية يافا ؟

---

٢ (أ) رتب الأحداث التاريخية الآتية من الأقدم إلى الأحدث :

* حملة فريزر.
* خروج الحملة الفرنسية من مصر.
* تولية محمد على حكم مصر.
* نفى عمر مكرم إلى دمياط.

(ب) ما تقييمك لمصداقية العبارة الآتية :

ساهم العلماء ونقباء الطوائف فى تولية محمد على حكم مصر ؟

(ج) ماذا كان يحدث إذا ... ؟

(١) اشتركت قوات محمد على بجمع الضرائب عام ١٨٠٤م.

(٢) كانت الزعامة الشعبية المصرية متحدة الفكر والهدف أمام «محمد على» عام ١٨٠٩م.

(الشرقية ٢٤)

الدرس

الرابع

محمد على وبناء مصر الحديثة

فى هذا الدرس سندرس

- مظاهر بناء الدولة الحديثة فى عهد محمد على
- سياسة محمد على الخارجية
- التدخل الأوروبى ضد محمد على



تمهيد

* بعدما تمكن محمد على من الانفراد بالحكم أدرك أن نهضة مصر لن تتحقق إلا من خلال بناء دولة قوية تأخذ بأساليب المدنية الحديثة فى الغرب لذلك قام بإصلاحات شملت جميع جوانب الحياة.

مظاهر بناء الدولة الحديثة فى عهد محمد على *(سياسة محمد على الداخلية)*

أولًا البناء الاقتصادى

* نظم محمد على مجالات الاقتصاد المصرى (الزراعة، والصناعة، والتجارة) على أساس الاحتكار **بم تفسر؟** لكى يضمن الدخول فى سوق التجارة الدولية منافسًا لغيره من الدول.

ما المقصود بـ: نظام الاحتكار؟

نظام تقوم فيه الحكومة ممثلة فى «محمد على» بتحديد نوع الغلات التى تُزرع ونوع المصنوعات التى تُنتج وتحديد أثمان شرائها، وأثمان بيعها فى السوق.

١ الزراعة

* قام محمد على بعدة أمور للنهوض بالزراعة(*) **دلل؟** حيث قام بـ:

- إلغاء نظام الالتزام، وتوزيع مساحات من الأراضى على الفلاحين.
- اتباع سياسة زراعية تهدف إلى توفير أكبر قدر من الدخل من الإنتاج الزراعى، من خلال:
  - تزويد الفلاحين بكل ما يلزم الزراعة.
  - إدخال أساليب حديثة وغلات زراعية جديدة.
  - إنشاء مدرسة للزراعة، واستقدام الخبراء الزراعيين من الخارج.
  - تحسين طرق الرى فقام بحفر ترعة المحمودية، وإنشاء العديد من القناطر على النيل، أهمها القناطر الخيرية.

* طبق محمد على نظام الاحتكار فى الزراعة **دلل؟** حيث قام بـ:

تحديد نوع الغلات التى تزرع كما حدد أثمان شرائها وأثمان بيعها فى السوق.



القناطر الخيرية

(*) عند تولية محمد على حكم مصر كانت الزراعة قد قطعت شوطًا من التدهور نتيجة لنظام ملكية الأرض (حق الانتفاع) وتعدد الضرائب المفروضة على الفلاحين وإهمال مشاريع الرى.

٢ الصناعة

* قام محمد على بتطوير وتحديث الإنتاج الصناعى **دلل؟** حيث اتبع الإجراءات التالية :
- إقامة المصانع الحكومية، مثل مصانع : الغزل والنسيج، الورق، السكر.
- جمع الصبية للعمل فى مصانع الدولة بأجور رمزية فأصبحت بمثابة مدارس صناعية.
- الاستعانة بالخبرات الأجنبية وإرسال البعثات للخارج وترجمة الكتب الخاصة بمختلف الصناعات.

* طبق محمد على نظام الاحتكار فى الصناعة **دلل؟** حيث قام بـ :
اتباع سياسة تهدف إلى السيطرة على الإنتاج الصناعى وتوزيعه من خلال :
- إمداد الصناع بالمواد الخام اللازمة للصناعة.
- شراء المنتجات الصناعية منهم بالثمن الذى تحدده الحكومة.

٣ التجارة

* نشطت التجارة (الداخلية والخارجية) فى عهد محمد على **بم تفسر؟**
بسبب ازدهار الزراعة والصناعة والاستقرار الداخلى للبلاد.

* طبق محمد على نظام الاحتكار فى التجارة **دلل؟** حيث قام بـ :
- تسويق جميع الحاصلات الزراعية والمنتجات الصناعية بعد شرائها وجمعها فى مخازن الدولة.
- البيع للتجار الأجانب فى مصر.
- البيع فى الخارج لحساب الحكومة المصرية.
- احتكار تجارة الواردات.

٤ النقل والمواصلات

* اهتم محمد على بالنقل والمواصلات **دلل؟** حيث قام بـ :
- تمهيد وتأمين الطرق البرية والبحرية.
- بناء أسطول فى البحرين الأحمر والمتوسط.
- تطهير البحر الأحمر من القرصنة.
- حفر الترع والاهتمام بالموانئ المصرية.

معلومة إثرائية

عرض القنصل الفرنسى على «محمد على» حفر قناة تصل البحر المتوسط بالبحر الأحمر، ولكن محمد على رفض خشية "خوفًا" أن تكون هذه القناة ذريعة للتدخل الأجنبى فى شئون مصر.

ثانيًا البناء الاجتماعى

* كان لسياسة محمد على الاقتصادية أثرها فى تشكيل وبناء القوى الاجتماعية فى مصر **دلل؟**
حيث تمثل ذلك فى تدهور واختفاء قوى اجتماعية وظهور قوى اجتماعية أخرى كما يلى :
- انتهى نفوذ المماليك كهيئة حاكمة، وحل محلها أسرة محمد على وبعض العناصر التركية.
- تضاءل نفوذ علماء الأزهر والقيادات الشعبية، فى حين ظهرت :
  - طبقة الأعيان.
  - طبقة عمال الصناعة مع استمرار طوائف الحرف كوسطاء للحكومة.
- تدهورت طبقة التجار.
- ظهر البدو كقوة اجتماعية مستقرة.

التدريب الأول

١ اكتب كلمة (صواب) أمام العبارة الصحيحة، وكلمة (خطأ) أمام العبارة غير الصحيحة، مع التصويب :

(١) طبق محمد على نظام الاحتكار ليتمكن من منافسة الدول الأوروبية فى سوق التجارة الدولية. ☐

(٢) اهتم محمد على بالصناعة فأقام المصانع الحكومية ومنها مصانع السكر. ☐

(٣) احتكر محمد على أثناء حكمه لمصر تجارة الواردات. ☐

(٤) استمرت طبقة التجار تؤدى دورها الاقتصادى خلال عهد محمد على. ☐

(٥) انتهى نفوذ الأتراك كطبقة حاكمة بعد تولى محمد على حكم مصر. ☐

٢ اكتب ما تشير إليه كل عبارة مما يأتى :

(١) نظام قام محمد على بإلغائه للنهوض بأمور الزراعة فى مصر. (.....)

(٢) من المنشآت التى أنشأها «محمد على» على نهر النيل لتحسين طرق الرى فى مصر. (.....)

(٣) قوة اجتماعية ظهرت واستقرت فى المجتمع المصرى فى عهد محمد على. (.....)

٣ دلل تاريخيًا على صحة كل عبارة مما يلى :

(١) استخدم محمد على العلم للنهوض بالزراعة فى مصر.

.....

.....

(٢) اعتمد «محمد على» على قوة العمالة المحلية إلى جانب الخبرات الأجنبية فى المجال الصناعى.

.....

.....

(٣) اتبع محمد على خلال عهده سياسة تهدف إلى السيطرة على الإنتاج الصناعى وتوزيعه.

.....

.....

(٤) ازدهار النقل والمواصلات فى مصر خلال عهد محمد على.

.....

.....

٤ بم تفسر : نشطت حركة البيع والشراء فى عهد محمد على ؟

.....

.....

ثالثًا التعليم والثقافة

* اهتم محمد على بالتعليم والثقافة **بم تفسر؟** لحاجته إلى :
  - موظفين لسد حاجة المصالح الحكومية.
  - فنيين ومتخصصين فى مختلف الفروع لسد حاجة الجيش والأسطول.

لذلك قام محمد على بـ :

١ إنشاء المدارس الحديثة مثل :

الطب ، الزراعة ، المهندسخانة ... وغيرها.

٢ إرسال البعثات العلمية إلى أوروبا

كان من أبرز أعضاء هذه البعثات رفاعة رافع الطهطاوى، وعلى باشا مبارك اللذان أسهما فى استمرار النهضة التعليمية، بعد عودتهما من أوروبا.



رفاعة رافع الطهطاوى



على مبارك

٣ الاستعانة ببعض الأساتذة الأجانب **بم تفسر؟** بهدف :

- التدريس فى المدارس العليا.
- المساهمة فى الترجمة.

٤ إنشاء المطبعة الأميرية فى بولاق **بم تفسر؟** بهدف :

- طبع الكتب اللازمة للمدارس.
- طبع الكتب الأدبية والفنية.
- إصدار صحيفة الوقائع المصرية.

رابعًا بناء القوة العسكرية

* أدرك محمد على أن بناء القوة العسكرية هى الدعامة الأساسية لتحقيق أهدافه فى بناء الدولة الحديثة فكانت جميع مشروعاته العمرانية والتعليمية بهدف سد حاجات الجيش وبناء القوة العسكرية.

* اهتم محمد على ببناء قوة عسكرية على الطراز الأوروبى الحديث عن طريق :

١ إعداد الضباط

- حيث قام بـ :
  - إنشاء المدارس العسكرية، منها المدرسة العسكرية بأسوان.
  - استقدام ضباطًا ومعلمين ذوى خبرة ودراية من أوروبا للمدارس العسكرية التى أنشأها وكان أشهرهم الكولونيل سيف أحد ضباط جيش نابليون.



الكولونيل سيف



٢ إعداد الجنود

- قام فى البداية بتجنيد السودانيين ثم اتجه بعد ذلك إلى تجنيد المصريين(*) الذين أثبتوا كفاءتهم فى :
  - الانتظام فى التدريب.
  - إطاعة الأوامر العسكرية.
  - ميادين القتال الخارجية.

٣ إنشاء الأسطول

- اهتم محمد على بإنشاء الأسطول **دلل؟** حيث :
  - أسس ترسانة بحرية لصناعة السفن فى بولاق ثم فى الإسكندرية، وزودها بكافة أنواع الأسلحة.
  - أعد أماكن لتدريب وتعليم البحارة والجنود.

٤ إنشاء مصانع الأسلحة والذخيرة وتشييد القلاع

- اهتم بالتصنيع الحربى فأنشأ ترسانة فى القلعة لتصنيع الأسلحة.
- أنشأ القلاع فى الإسكندرية و رشيد و دمياط للدفاع عن البلاد.

خامسًا البناء السياسى

* عندما تولى محمد على الحكم، بدأ فى إعادة تنظيم الإدارة حتى يستطيع السيطرة الكاملة على شئون البلاد، وذلك عن طريق عدة إجراءات هى :

١ تقسيم مصر إداريًا إلى سبع مديريات، وعلى رأس هذا النظام الإدارى حكومة مركزية فى القاهرة تصدر منها جميع الأوامر واجبة التنفيذ.

٢ إنشاء عدة مجالس ودواوين، منها :
- مجلس المشورة.
- الديوان العالى.

٣ إصدار لائحة جديدة عام ١٨٣٧م لإعادة تنظيم الإدارة إلى سبعة دواوين *(وزارات)* وحدد اختصاصاتها.

(*) أظهرت حروب محمد على كفاءة الجندى المصرى فى التدريب والتنظيم فى ميدان القتال بالرغم من قسوة البيئة الطبيعية وبُعد المسافات عن الوطن.

التدريب الثانى

١ ما تقييمك لمصداقية كل عبارة مما يلى ... ؟

(١) اقتصرت أسباب اهتمام محمد على بالتعليم على تحسين الجانب الإدارى للدولة.

.....

(٢) اعتمد محمد على فى إعداد الجنود فى بداية الأمر على المصريين.

.....

(٣) اهتم محمد على أثناء حكمه لمصر بتشييد القلاع.

.....

(٤) استطاع محمد على السيطرة الكاملة على شئون مصر عن طريق إعادة تنظيم إدارة البلاد.

.....

٢ اختر الإجابة الصحيحة مما بين القوسين :

(١) قام محمد على بتشييد المطبعة الأميرية فى ..... (الإسكندرية - أسوان - بولاق - دمياط)

(٢) أسهم رفاعة رافع الطهطاوى وعلى مبارك بعد عودتهما من أوروبا فى استمرار النهضة .....
(العسكرية - الثقافية - السياسية - الاقتصادية)

(٣) أسس محمد على ترسانة لصناعة السفن فى ..... (أسوان - دمياط - رشيد - بولاق)

٣ ما النتيجة التى ترتبت على : حاجة محمد على إلى موظفين فى المصالح الحكومية ؟

.....

٤ دلل : حاول محمد على الاكتفاء الذاتى فى التصنيع الحربى.

.....

سياسة محمد على الخارجية

* عندما تولى محمد على حكم مصر بدأت محاولات الاستقلال الحقيقية عن الدولة العثمانية وكانت البداية عندما ذهبت قواته إلى شبه الجزيرة العربية لإخماد الدعوة الوهابية بناءً على طلب السلطان العثمانى وتبلورت بشكل أوضح عندما حدث الاشتباك مع السلطان العثمانى فى الشام .

حروب محمد على

حروب تمت بناءً على طلب السلطان العثمانى فى :
- شبه الجزيرة العربية.
- اليونان.

حروب تمت بناءً على رغبة محمد على فى :
- السودان.
- الشام.

وفيما يلى نتعرف هذه الحروب بشىء من التفصيل.

حروب شبه الجزيرة العربية ١٨١١م : ١٨١٩م (بطلب من السلطان العثمانى)



* تعرف باسم «الحروب الوهابية».

* **أسبابها :**

القضاء على الحركة الوهابية التى تهدد نفوذ الدولة العثمانية فى شبه الجزيرة العربية.

* **نتائجها :**

سيطرة «محمد على» على شبه الجزيرة العربية.

ضم السودان ١٨٢٠م : ١٨٢٢م (برغبة محمد على)

* **الأسباب :** رغبة محمد على فى تحقيق مكاسب سياسية واقتصادية وعسكرية.

* **النتائج :**
  - امتداد النفوذ المصرى إلى جنوب السودان.
  - إنشاء مدينة الخرطوم (العاصمة).
  - اكتشاف منابع نهر النيل.

حروب اليونان ١٨٢١م : ١٨٢٨م (بطلب من السلطان العثمانى)

* **أسبابها :** القضاء على ثوار اليونان فى المورة الذين طالبوا بالاستقلال عن الدولة العثمانية.

* **نتائجها :**

كانت النتائج النهائية لحروب اليونان فى صالح «محمد على» على الرغم من هزيمة الجيش وتحطيم الأسطول المصرى فى معركة نفارين عام ١٨٢٧م حيث :

- ضم محمد على جزيرة كريت لولاية مصر.
- علو مكانة مصر دوليًا نتيجة تفاوض الدول الأوروبية مع محمد على مباشرة لإنهاء الحرب (دون الرجوع إلى السلطان العثمانى) **ما النتائج؟** أدى ذلك إلى :

– توتر العلاقة بين محمد على والسلطان العثمانى.

– نمو فكرة الانفصال عن الدولة العثمانية وتحقيق استقلال مصر.

حروب الشام ١٨٣١م : ١٨٣٩م (برغبة محمد على)



* واجه محمد على الدولة العثمانية فى حروب الشام الأولى والثانية.

* أسبابها :

- توتر العلاقات بين السلطان العثمانى ومحمد على بعد تفاوضه مع الدول الأوروبية لتأمين انسحاب الجيش المصرى من المورة.
- تصميم «محمد على» على الانفصال عن الدولة العثمانية والاستقلال بمصر.

* نتائجها :

- وصول القوات المصرية إلى الشام وأعالى نهر الفرات.
- امتداد النفوذ المصرى فى بلاد الشام.

التدخل الأوروبى ضد محمد على

* دخلت الدول الأوروبية فى مفاوضات مع السلطان العثمانى لفرض ما تراه من شروط على «محمد على» انتهت بعقد معاهدة لندن الدولية ١٨٤٠م :

- أسباب المعاهدة : إدراك الدول الأوروبية أن محمد على أصبح يمثل خطرًا على التوازن الدولى نتيجة انتصاراته على السلطان العثمانى وازدياد نفوذه.
- شروط المعاهدة : - إعادة بلاد الشام وشبه الجزيرة العربية إلى السلطان العثمانى.
  - تثبيت محمد على فى حكم مصر.
  - إعلان خضوع محمد على للسلطان العثمانى.
- موقف محمد على من المعاهدة : اضطر إلى قبول شروط المعاهدة.

* فرمانى ١٨٤١م : أصدر السلطان العثمانى فرمانين عام ١٨٤١م :

- **الأول** : فى شهر يونيه يقضى بحق وراثة حكم مصر لأكبر أبناء محمد على سنًا من الذكور.
- **الثانى** : يقضى بولاية «محمد على» على السودان.

التدريب الثالث

١ اختر الإجابة الصحيحة مما بين القوسين :

(١) وصلت القوات المصرية إلى أعالى نهر الفرات بعد حروب محمد على فى .....

(اليونان - الشام - شبه الجزيرة العربية - السودان)

(٢) أى من المناطق التالية ظلت تابعة لحكم محمد على بعد عامى ١٨٤٠م ، ١٨٤١م ؟ .....

(كريت - جدة - دمشق - الخرطوم)

(٣) بالرغم من القيود التى فرضتها معاهدة لندن على (محمد على) إلا أنه استفاد منها فى .....

(تثبيت حكمه بمصر - ضم السودان لحكمه - سيطرته على الجزيرة العربية - تكوين علاقات مع الدول الأوروبية)

٢ دلل على صحة أو خطأ كل عبارة مما يأتى :

(١) تمت جميع حروب محمد على بناءً على طلب السلطان العثمانى.

.....

.....

(٢) استعانت الدولة العثمانية بمحمد على للحفاظ على سلطتها فى المورة.

.....

.....

(٣) اتسعت دولة محمد على قبل معاهدة لندن ١٨٤٠م فضمت أجزاء كبيرة فى ثلاث قارات.

.....

.....

٣ وضح : تعددت نتائج حروب اليونان عام ١٨٢١م : ١٨٢٨م سلبًا وإيجابًا على مصر.

.....

.....

٤ ماذا كان يحدث إذا : لم يتمكن محمد على من ضم السودان ؟

.....

.....

أهم نقاط الدرس

مظاهر بناء الدولة الحديثة فى عهد محمد على

البنـاء الاقتصـادى

تم تنظيمه على أسـاس نظام الاحتكار للدخول فى سوق التجارة الدولية منافسًا لغيره من الدول.

الزراعـة قام بـ:

- إلغاء نظام الالتزام وتوزيع مساحات من الأراضى على الفلاحين.
- تزويد الفلاحين بكل ما يلزم الزراعة.
- إدخال أساليب زراعية حديثة.
- إنشاء مدرسة للزراعة.
- تحسين طرق الرى.

لتوفير أكبر قدر من الدخل من الإنتاج الزراعى

الصناعـة قام بتطوير وتحديث الإنتاج الصناعى فـ:

- أقام المصانع الحكوميـة.
- جمع الصبية للعمل فى مصانـع الدولة.
- استعان بالخبرات الأجنبية وإرسال البعثات للخارج وترجمة الكتب الخاصة بمختلف الصناعات.

التجـارة (الداخلية والخارجية)

نشطت لازدهار الزراعة والصناعة والاستقرار الداخلى للبلاد.

النقل والمواصلات قام بـ:

- تمهيد وتأمين الطرق البرية والبحرية.
- بناء أسطول فى البحرين الأحمر والمتوسط.
- تطهير البحر الأحمر من القرصنة.
- حفر الترع، والاهتمام بالموانئ المصرية.

البنـاء الاجتمـاعـى

* اختفت وتدهورت قوى اجتماعية هى:
  - المماليك (كهيئة حاكمة).
  - علماء الأزهر والقيادات الشعبية.
  - طبقة التجار.
* ظهرت قوى اجتماعية أخرى هى:
  - أسرة محمد على وبعض العناصر التركية (كهيئة حاكمة).
  - طبقة الأعيان.
  - البدو.
  - طبقة عمال الصناعة.

التعليـم والثقافـة

* أنشأ المدارس الحديثة.
* أرسل البعثات العلمية إلى أوروبا.
* استعان ببعض الأساتذة الأجانب.
* أنشأ المطبعة الأميرية فى بولاق.

بناء القوة العسكرية

* عمل على بناء قوة عسكرية عن طريق:
  - إعداد الضباط والجنود.
  - إنشاء الأسطول ومصانع الأسلحة والذخيرة وتشييد القلاع.

البنـاء السياسـى

* أنشأ حكومة مركزية فى القاهرة.
* قسم مصر إداريًا إلى سبع مديريات.
* أنشأ عدة مجالس ودواوين (منها الديوان العالى ومجلس المشورة).
* أصدر لائحة جديدة عام ١٨٣٧م لإعادة تنظيم الإدارة إلى سبعة دواوين.

حروب محمد على

- حروب تمت بناءً على طلب السلطان العثمانى فى شبه الجزيرة العربية واليونان.
- حروب تمت بناءً على رغبة محمد على فى السودان والشام.

التدخل الأوروبى ضد محمد على

* فرضت عليه الدول الأوروبية بالاتفاق مع السلطان العثمانى معاهدة لندن عام ١٨٤٠م.
* أصدر السلطان العثمانى فرمانى عام ١٨٤١م:
  - **الأول**: يقضى بحق وراثة الحكم فى أكبر أبناء محمد على من الذكور.
  - **الثانى**: يقضى بولاية (محمد على) على السودان.

أسئلة على الدرس الرابع



أسئلة تفاعلية

• تذكر • فهم • تطبيق مستويات عليا

١ اختر الإجابة الصحيحة مما بين القوسين :

(١) أى من الإجراءات التالية تعبر عن النظام الاقتصادى الذى طبقه محمد على بمصر ؟ .....
(زيادة حجم الواردات المصرية - إحلال الأيدى العاملة الأجنبية بدلًا من المحلية - زيادة حجم الصادرات المصرية - الاستغناء عن أى خبرات أجنبية)

(٢) كان من إصلاحات محمد على فى مجال الزراعة ..... (الاستثمارات الأجنبية - إلغاء المحاصيل التقليدية - الاهتمام بالرى والتعليم المتخصص - اتباع نظام الالتزام)

(٣) من القوى الاجتماعية التى استمرت فى ظل نظام الاحتكار كوسطاء للحكومة .....
(الملتزمين - طوائف الحرف - البدو - المماليك)

(٤) كان لسياسة محمد على الاقتصادية أثرها السلبى على طبقة .....
(عمال الصناعة - التجار - البدو - الأتراك) (ج. سيناء ٢٥)

(٥) زادت حاجة الحكومة المصرية فى عهد محمد على إلى .....
(عمال للزراعة - الموظفين والفنيين - التجار والحرفيين - علماء الدين)

(٦) أنشأ محمد على مدرسة عسكرية فى .....
(القاهرة - بولاق - الإسكندرية - أسوان) (المنوفية ٢٣)

(٧) ثانى الترسانات البحرية التى أنشأها محمد على كانت فى .....
(القاهرة - الجيزة - الإسكندرية - أسوان)

(٨) اكتسب حى بولاق زمن محمد على باشا أهمية .....
(عسكرية ودينية - ثقافية واجتماعية - اقتصادية ودينية - عسكرية وثقافية) (الدقهلية ٢٤)

(٩) أنشأها محمد على لتكون على رأس النظام الإدارى ومن خلالها يتم إصدار جميع الأوامر واجبة التنفيذ ..... (مجلس المشورة - الديوان العالى - الحكومة المركزية - نقابة الأشراف)

(١٠) أصدر محمد على لائحة جديدة عام ١٨٣٧م لإعادة تنظيم الإدارة بمصر بهدف .....
(الاستقلال عن الدولة العثمانية - إقرار الأمن - تحديد عمل دواوين الحكومة - مواجهة الأخطار الخارجية)

(١١) توترت العلاقة بين محمد على والسلطان العثمانى عقب حروب .....
(السودان - شبه الجزيرة العربية - الشام - اليونان) (الأقصر ٢٣)

(١٢) تشابهت حروب محمد على فى شبه الجزيرة العربية مع حروبه فى اليونان فى أن كل منهما تمت ..... (بناءً على رغبته الشخصية - ضد دول أوروبا - استجابة لأوامر السلطان العثمانى - تحقيقًا للإرادة الشعبية) (الإسماعيلية ٢٢)

(١٣) زادت فكرة استقلال محمد على عن الدولة العثمانية بعد .....

(سيطرته على شبه الجزيرة العربية - حروبه بالشام -

تنظيمه للإدارة بمصر - حروبه باليونان)

(١٤) أصبح محمد على خطرًا على التوازن الدولى من وجهة نظر الدول الأوروبية خاصة

بعد حروب ..... (شبه الجزيرة العربية - الشام - السودان - اليونان) (دمياط ٢٤)

(١٥) تضمن الفرمان الثانى لعام ١٨٤١م ولاية «محمد على» على .....

(مصر - السودان - الشام - شبه الجزيرة العربية) (القاهرة ٢٤)

٢ أكمل العبارات الآتية بكلمات مناسبة :

(١) قام محمد على بتطهير ..... من القرصنة.

(٢) أنشأ محمد على عدة مجالس ودواوين وهما ..... و .....

(٣) اكتشاف منابع النيل كان أحد نتائج حروب محمد على فى ..... (البحيرة ٢٢)

(٤) تحطم الأسطول المصرى عام ١٨٢٧م فى معركة .....

(٥) انتهت حروب المورة بضم جزيرة ..... إلى مصر. (المنيا ٢٣)

٣ اكتب كلمة (صواب) أمام العبارة الصحيحة، وكلمة (خطأ) أمام العبارة غير الصحيحة، مع التصويب :

(١) زادت قبضة الحكومة المصرية على الأنشطة الاقتصادية خلال حكم محمد على. ( )

(٢) ظل الفلاح منتفعًا بالأرض الزراعية فى ظل نظام الاحتكار الاقتصادى. ( )

(٣) أنشأ محمد على المدارس الحديثة ومنها مدرسة الزراعة. ( )

(٤) نتج عن سياسة محمد على الاقتصادية ظهور طبقة التجار وتدهور طبقة عمال الصناعة. ( )

(٥) تضاءل نفوذ علماء الأزهر والقيادات الشعبية فى عهد محمد على أثر تطبيق نظام الاحتكار. (البحر الأحمر ٢٤) ( )

(٦) أهمل محمد على ترجمة الكتب الخاصة بالصناعات المختلفة. ( )

(٧) أصدرت صحيفة الوقائع المصرية فى عهد محمد على. ( )

(٨) الاهتمام بالجيش كان محور سياسة محمد على الإصلاحية. (كفر الشيخ ١٩) ( )

(٩) جعل محمد على مقر الحكومة المركزية بالإسكندرية. ( )

(١٠) قسم محمد على مصر إداريًا إلى سبع مديريات. ( )

(١١) أصبح لمصر مكانة عالية دوليًا بعد حروب محمد على فى اليونان. (مطروح ٢٥) ( )

(١٢) شملت حدود الدولة المصرية فى عهد محمد على إحدى الجزر الأوروبية. ( )

(١٣) قضى فرمان يونيه ١٨٤١م بحق وراثة حكم مصر لأكبر أبناء محمد على سنًا من الذكور. (البحر الأحمر ١٩) ( )

٤ حدد المقصود بكل عبارة مما يأتى :

(١) نظام اتبعه محمد على فى الاقتصاد المصرى للدخول فى سوق التجارة الدولية. (مطروح ٢٥) (.....)

(٢) اتجه محمد على إلى تجنيدهم وأثبتوا كفاءتهم فى ميادين القتال الخارجية. (.....)

(٣) معاهدة دولية فرضت على «محمد على» عام ١٨٤٠م من الدول الأوروبية خشية ازدياد نفوذه. (الفيوم ١٧) (.....)

٥ صوب ما تحته خط :

(١) كان رفاعة الطهطاوى و عمر مكرم من أبرز أعضاء البعثات العلمية إلى أوروبا فى عهد محمد على. (.....)

(٢) أنشأ محمد على المطبعة الأميرية فى القلعة. (سوهاج ٢٤) (.....)

(٣) تُعرف حروب محمد على فى بلاد الشام بالحروب الوهابية. (الأقصر ٢٤) (.....)

٦ بم تفسر ... ؟

(١) نظم محمد على مجالات الاقتصاد المصرى على أساس نظام الاحتكار. (ج. سيناء ٢٢)

.....

(٢) ازدهار الزراعة فى مصر فى عهد محمد على.

.....

(٣) ازدهار التجارة فى مصر خلال عهد محمد على. (القاهرة ٢٣)

.....

(٤) اهتمام محمد على بالتعليم والثقافة فى مصر. (كفر الشيخ ٢٥)

.....

(٥) قيام محمد على بإنشاء المطبعة الأميرية. (الشرقية ٢٤)

.....

(٦) اهتمام محمد على ببناء القوة العسكرية لمصر. (ش. سيناء ٢٢)

.....

(٧) الاهتمام بالتنظيمات الإدارية فى عهد محمد على.

.....

(٨) حروب محمد على فى شبه الجزيرة العربية واليونان.

.....

(٩) حروب محمد على فى السودان.

.....

(١٠) تدخل الدول الأوروبية أمام ازدياد نفوذ محمد على. (البحر الأحمر ٢٥)

.....

٧ ما النتائج التى ترتبت على ... ؟

(١) جمع محمد على الصبية للعمل فى مصانع الدولة بأجور رمزية.

.....

(٢) حروب محمد على فى شبه الجزيرة العربية (١٨١١م : ١٨١٩م). (سوهاج ٢٤)

.....

(٣) ضم محمد على للسودان. (الإسكندرية ٢٥)

.....

(٤) حروب محمد على فى بلاد اليونان. (سوهاج ٢٢)

.....

(٥) المواجهة المباشرة بين محمد على والدولة العثمانية فى الشام. (الإسكندرية ٢٤)

.....

٨ ماذا كان يحدث إذا ... ؟

(١) أبقى «محمد على» على نظام الالتزام.

.....

(٢) لم تفرض الدول الأوروبية معاهدة لندن ١٨٤٠م على «محمد على». (بورسعيد ١٩)

.....

٩ دلل تاريخيًا على صحة كل عبارة من العبارات الآتية :

(١) تعددت أساليب محمد على لتطوير الزراعة فى مصر. (القليوبية ٢٤)

.....

(٢) كان لمحمد على دورًا واضحًا فى تحسين طرق الرى بمصر. (الأقصر ٢٥)

.....

(٣) قام محمد على بتطوير وتحديث الإنتاج الصناعى فى مصر. (دمياط ٢٠)

.....

(٤) اتبع محمد على خلال عهده سياسة الاحتكار فى المجال الصناعى.

.....

(٥) طبق محمد على نظام الاحتكار فى مجال التجارة بمصر. (البحر الأحمر ٢٢)

.....

(٦) أثرت سياسة محمد على الاقتصادية فى تدهور قوى اجتماعية بمصر. (الأقصر ٢٢)

.....

(٧) اهتم محمد على بالتعليم و الثقافة فى مصر.

.....

(٨) اهتم محمد على بإنشاء الأسطول.

.....

(٩) قام محمد على بتحصين البلاد ضد أى أخطار محتملة.

.....

(١٠) ارتبطت حروب الشام الأولى والثانية بنتائج حروب المورة. (ج. سيناء ٢٥)

.....

١٠ ما رأيك فى ... ؟

(١) سياسة الاحتكار التى اتبعها محمد على فى بناء الاقتصاد المصرى. (ش. سيناء ١٧)

.....

(٢) اهتمام محمد على ببناء قوة مصر العسكرية. (الوادى الجديد ١٩)

.....

١١ «أدركت الدول الأوروبية أن محمد على يمثل خطرًا على التوازن الدولى لذلك عقدت معاهدة لندن ١٨٤٠م». فى ضوء ذلك، وضح :

(١) شروط معاهدة لندن.

.....

(٢) موقف محمد على من معاهدة لندن.

.....

أسئلة للتميز

١٢ اختر الإجابة الصحيحة مما بين القوسين :

(١) كانت سياسة محمد على الزراعية تهدف فى مجملها إلى ..... (تحقيق الاكتفاء الذاتى - زيادة الموارد المالية - تحسين أحوال الفلاحين - منافسة الدول الأجنبية)

(٢) اختلفت الصناعة فى مصر خلال عهد محمد على عن الحكم العثمانى من حيث .....
(تشجيع الاستثمارات الأجنبية - إلغاء طوائف الحرف - إقامة مصانع حكومية - سد حاجة السوق المحلى)

(٣) تركزت معظم حصون ودفاعات مصر فى عهد محمد على جهة .....
(الشرق - الغرب - الجنوب - الشمال)

(٤) نستنتج من الخريطة المقابلة .....
(سيطرة الوهابيين على كل شبه الجزيرة العربية - وصول قوات محمد على لسواحل الخليج العربى - نجاح محمد على فى ضم العراق والحجاز - تمركز الحركة الوهابية فى قلب شبه الجزيرة العربية)



(٥) حقق محمد على من حروبه فى اليونان مكاسب ..... (ثقافية - حضارية - اجتماعية - سياسية)

(٦) نستنتج من الخريطة المقابلة .....

(ضم محمد على للشام والعراق -

أن البحر الأحمر أصبح بمثابة بحيرة مصرية -

تكوين إمبراطورية ممتدة فى آسيا وأفريقيا -

إحكام سيطرة «محمد على»

على كامل شبه الجزيرة العربية)



١٣ اكتب كلمة (صواب) أمام العبارة الصحيحة، وكلمة (خطأ) أمام العبارة غير الصحيحة، مع ذكر السبب فى الحالتين :

(١) استعان محمد على بالخبرة الأجنبية لتحقيق التنمية الاقتصادية فى مصر. ( )

(٢) شهد العقد الرابع من القرن الـ ١٩م صدور لائحة تخص إعادة تنظيم الإدارة المصرية. ( )

(٣) كانت حروب السودان نقطة تحول فى العلاقات بين مصر والدولة العثمانية. ( )

١٤ ما الأثر الناتج عن : عقد معاهدة لندن بالنسبة لمحمد على سياسيًا ؟

.....

.....

١٥ دلل تاريخيًا على صحة كل عبارة مما يأتى :

(١) عمل «محمد على» على إزالة الصعوبات التى كانت تواجه التجارة المصرية.

.....

.....

(٢) مَثّل محمد على الذراع العسكرى للدولة العثمانية فى الحفاظ على أملاكها خلال الربع الأول من القرن الـ ١٩م.

.....

.....

امتحان ؟ على الدرس الرابع

١ (أ) اختر الإجابة الصحيحة مما بين القوسين :

(١) طبق محمد على نظام الاحتكار فى الزراعة عن طريق ..... (تحسين طرق الرى - إنشاء مدرسة للزراعة - إنشاء القناطر الخيرية - تحديد نوع الغلات وثمن شرائها)

(٢) ارتبط ظهور ..... كقوة اجتماعية مستقرة لتطبيق محمد على نظام الاحتكار فى مصر.
(التجار - البدو - المماليك - الأعيان)

(٣) اعتمد محمد على فى تنظيم القوة العسكرية على الخبرة .....
(الفرنسية - الإنجليزية - الروسية - المملوكية)

(ب) دلل على صحة كل عبارة مما يأتى :

(١) ارتفعت مكانة مصر الدولية بعد حروب محمد على فى اليونان. (القاهرة ٢٥)

(٢) تُعد معاهدة لندن ١٨٤٠م نقطة تحول خطيرة على الوضع السياسى فى عهد محمد على. (مطروح ٢٤)

(جـ) ما تقييمك لمصداقية العبارة التالية :

مثَّل المماليك الهيئة الحاكمة فى عهد كل من الدولة العثمانية ومحمد على ؟ (الإسكندرية ٢٥)

(د) ما العلاقة بين : محمد على، والحركة الوهابية ؟

---

٢ (أ) رتب الأحداث التاريخية الآتية من القديم إلى الحديث :

* معركة نفارين.
* ضم محمد على للسودان.
* إصدار محمد على لائحة إدارية جديدة.
* تولية محمد على حكم مصر.

(ب) «*قامت الحكومة فى عهد محمد على بمهمة توجيه الإنتاج وتوزيعه من أجل النهوض باقتصاد مصر*» . على ضوء ذلك :

(١) حدد : مظاهر احتكار الحكومة للصناعة فى عهد «محمد على».

(٢) ماذا يحدث إذا : تم الاستغناء عن المصنوعات الأجنبية فى مصر حاليًا ؟

(جـ) بم تفسر : نجاح تجربة تجنيد المصريين فى عهد محمد على ؟ (أسيوط ٢٥)

(د) ما النتائج التى ترتبت على : حروب محمد على فى الشام ؟ (قنا ٢٥)

الوحدة
الرابعة

مصر والزحف الاستعمارى ومحاولات التحرر الوطنى



من المتوقع بعد الانتهاء من الدرس أن يكون التلميذ قادرًا على أن :

الدرس الأول: خلفاء محمد على وازدياد النفوذ الأجنبى.

- يستنتج أهمية المشروعات التى تمت فى عهد خلفاء محمد على.
- يربط بين ازدياد الديون وازدياد النفوذ الأجنبى.
- يرسم خريطة قناة السويس.
- يقدر أهمية المشروعات التى تمت فى عهد خلفاء محمد على.
- يعطى تعريفًا صحيحًا للمفاهيم الآتية (الامتيازات الأجنبية، المحاكم المختلطة، المراقبة الثنائية).
- يذكر أهم شروط امتياز حفر قناة السويس.

الدرس الثانى: الحركة الوطنية والثورة العرابية.

- يوضح دور الخديو توفيق فى ازدياد التدخل الأجنبى.
- يفسر الأسباب التى ساعدت على قيام الثورة العرابية.
- يحدد المراحل التى مرت بها الثورة العرابية.
- يرسم خريطة الاحتلال البريطانى لمصر عام ١٨٨٢م.
- يفسر أسباب فشل الثورة العرابية.
- يقدر جهود الزعماء الوطنيين فى مقاومة الاحتلال.

الدرس الثالث: الكفاح الوطنى ضد الاحتلال البريطانى.

- يصف أحوال مصر تحت الاحتلال البريطانى.
- يستنتج أهم الأدوار الوطنية لكل من : مصطفى كامل ومحمد فريد.
- يعطى تعريفًا صحيحًا لمفهوم الاتفاق الودى.
- يقدر دور أبناء مصر المخلصين فى مقاومة الاحتلال البريطانى .
- يتتبع دور الأحزاب فى الكفاح الوطنى.

الدرس الرابع: مصر من الحماية البريطانية حتى ثورة يوليو ١٩٥٢م.

- يصف أحوال مصر فى الفترة منذ عام ١٩١٤م إلى قيام ثورة يوليو ١٩٥٢م.
- يحدد مقدمات ثورة ١٩١٩م.
- يستنتج عوامل قيام ثورة ١٩١٩م.
- يتتبع أحداث ثورة ١٩١٩م.
- يذكر بنود تصريح ٢٨ فبراير ١٩٢٢م.
- يقارن بين دستور ١٩٢٣م، ودستور ١٩٣٠م.
- يقيم بنود معاهدة ١٩٣٦م.
- يكشف المتغيرات الداخلية والدولية بعد معاهدة ١٩٣٦م.
- يقدر الكفاح الوطنى للشعب المصرى ضد الاحتلال البريطانى.
- يقدر مشاركة المرأة فى أحداث ثورة ١٩١٩م.
- يبرز دور الوحدة الوطنية فى أحداث ثورة ١٩١٩م.

الدرس
الأول

خلفاء محمد على وازدياد النفوذ الأجنبى

فى هذا الدرس سندرس

- عهد عباس باشا الأول نوفمبر ١٨٤٨م : ١٨٥٤م
- عهد محمد سعيد باشا ١٨٥٤م : ١٨٦٣م
- عهد الخديو إسماعيل ١٨٦٣م : ١٨٧٩م



فترات حكم أسرة محمد على



محمد على باشا

١٨٠٥م : ١٨٤٨م

طوسون

توفى فى حياة أبيه
ولم يتولَّ الحكم



٢ عباس باشا الأول

١٨٤٨م : ١٨٥٤م
تولى الحكم باعتباره أكبر
أفراد أسرة محمد على سنًا



٣ سعيد باشا

١٨٥٤م : ١٨٦٣م



١ إبراهيم باشا

١٨٤٨م
(حكم عدة شهور) (*)



٤ الخديو إسماعيل

١٨٦٣م : ١٨٧٩م



٥ الخديو توفيق

١٨٧٩م : ١٨٩٢م



٦ الخديو عباس حلمى الثانى

١٨٩٢م : ١٩١٤م



٧ السلطان حسين كامل

١٩١٤م : ١٩١٧م



٨ أحمد فؤاد

(سلطانًا) ١٩١٧م : ١٩٢٢م
(ملكًا) ١٩٢٢م : ١٩٣٦م



٩ الملك فاروق الأول

١٩٣٦م : ١٩٥٢م

١٠ أحمد فؤاد الثانى

١٩٥٢م : ١٩٥٣م
تحت مجلس وصاية ثم تم
إلغاء النظام الملكى

(*) ترأس إبراهيم باشا عام ١٨٤٨م مجلس الوصاية بسبب تدهور صحة محمد على وكانت مدة حكمه قصيرة جدًا لعدة شهور فقط.

* تعاقب على حكم مصر عدة حكام من أسرة محمد على، ولكنهم لم يكونوا على شاكلته من حيث القوة والوعى **دلل؟** حيث :

- لم يثبتوا كفاءتهم فى حكم البلاد.
- دهمتهم «صدمتهم» الموجة الغربية فى الوقت الذى لم يمتلك أى منهم الكفاءة على مواجهتها فانفلتت من أيديهم زمام الأمور.
- تأرجحوا بين إبداء مظاهر الميل لكل من فرنسا، بريطانيا، والدولة العثمانية وكان ذلك على حساب مصر واستقلالها.

فيما يلى نتعرف أحوال مصر أثناء حكم بعض خلفاء محمد على بشىء من التفصيل.

عهد عباس باشا الأول نوفمبر ١٨٤٨م : ١٨٥٤م



عباس باشا الأول

مميزات عهده

* أصلح الطريق البرى بين القاهرة والسويس.
* بدأ فى إنشاء **أول خط حديدى** بين القاهرة والإسكندرية عام ١٨٥٢م.

مساوئ عهده

* توقفت حركة النهضة (التى قام بها محمد على) فى عهد عباس باشا الأول **دلل؟** حيث :

١ أُغلقت معظم المدارس.

٢ أُغلقت معظم المصانع.

٣ تم تخفيض حجم الجيش.

٤ عُطلت أعمال الترسانة البحرية.

عهد محمد سعيد باشا ١٨٥٤م : ١٨٦٣م



سعيد باشا

* تولى محمد سعيد باشا حكم مصر عقب وفاة عباس باشا الأول عام ١٨٥٤م.

مميزات عهده

* شهدت البلاد فى عهده تقدمًا فى بعض المجالات، تمثلت فى :

الزراعة

- اهتم بتطهير ترعة المحمودية لتفى بحاجة الرى والزراعة.
- اهتم بإصلاح أحوال الفلاحين دلل؟ حيث أصدر فى أغسطس ١٨٥٨م «اللائحة السعيدية»، والتى بموجبها أصبح للفلاح الحق فى توريث الأرض الزراعية.

النقل والمواصلات والاتصالات

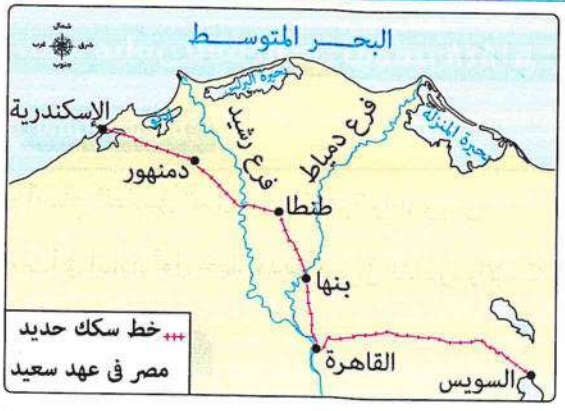

- أتم الخط الحديدى بين القاهرة والإسكندرية (الذى بدأه عباس باشا الأول).
- أنشأ خطًا حديديًا من القاهرة إلى السويس.
- مد الخطوط التلغرافية على الطريقة الحديثة بين الإسكندرية والقاهرة والسويس.

الجيش والبحرية

- جعل مدة الخدمة العسكرية سنة واحدة إجبارية للجميع.
- فتح باب الترقى أمام الضباط المصريين.
- اعتنى بالترسانة البحرية فبدأ فى إصلاح السفن وتجديد الأسطول.

مساوئ عهده

* شهدت البلاد فى عهده بعض المساوئ، تمثلت فى :

التعليم حيث :

ألغى ديوان المدارس *(وزارة التربية والتعليم حاليًا)*، فى نفس الوقت شجع البعثات الأجنبية فى مصر على فتح مدارس لها بالقاهرة والإسكندرية.

بدايات التدخل الأجنبى تمثلت فى :

١ امتياز قناة السويس منح سعيد باشا «فرديناند ديليسبس» عقدين لامتياز قناة السويس حيث :



المهندس الفرنسى
فرديناند ديليسبس

عقد الامتياز الأول (نوفمبر ١٨٥٤م)

يقضى بمنحه امتياز تأسيس شركة عامة لحفر قناة السويس واستثمارها لمدة ٩٩ سنة ابتداءً من تاريخ فتح القناة للملاحة.

عقد الامتياز الثانى (يناير ١٨٥٦م) حيث كانت أهم شروطه :

(١) تمنح الحكومة المصرية الشركة الحق فى :

- إنشاء قناة السويس (*).
- حفر ترعة المياه الصالحة للملاحة النيلية *(سميت بترعة الإسماعيلية فيما بعد)*.
- إنشاء فرعين للرى والشرب يستمدان مياههما من ترعة الإسماعيلية.

(٢) تتنازل الحكومة المصرية للشركة مجانًا عن جميع الأراضى المملوكة لها والمطلوبة لإنشاء القناة المالحة وترعة المياه العذبة.

(٣) للشركة الحق فى فرض ما تشاء من رسوم على السفن التى تمر فى القناة المالحة أو الترعة العذبة.

(٤) يكون أربعة أخماس (٨٠ ٪) العمال من المصريين.

(٥) تحصل مصر على ١٥ ٪ من صافى الأرباح مقابل الأراضى والامتيازات الممنوحة للشركة.

(٦) يصدق السلطان العثمانى على امتياز حفر القناة شرطًا لصحته.

وبذلك نجد أن : معظم شروط عقد الامتياز الثانى لحفر قناة السويس كانت مجحفة لمصر والمصريين.

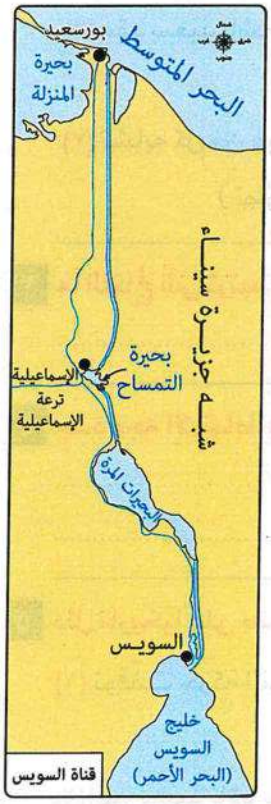

٢ القروض الأجنبية

* يُعد عهد سعيد باشا بداية الأزمة المالية فى مصر **دلل؟** حيث إنه :

- اعتمد على رءوس الأموال الأجنبية فاستدان من البيوت المالية الأوروبية فعقد أول قرض مع أحد البنوك البريطانية عام ١٨٦٢م ثم اندفع فى طلب الاستدانات.
- لجأ للمرابين يستدين منهم مقابل سندات على حساب الخزانة المصرية.

(*) بدأ العمل فى حفر قناة السويس فى أبريل ١٨٥٩م من جهة الشمال.

(**) يُعد مشروع قناة السويس الجديدة من المشاريع الوطنية التى اعتمدت على المساهمات المصرية الخالصة من جميع فئات الشعب بهدف تحقيق تنمية اقتصادية عملاقة بمنطقة محور القناة بما يعود بالنفع على مصر.

التدريب الأول

١ اكتب كلمة (صواب) أمام العبارة الصحيحة، وكلمة (خطأ) أمام العبارة غير الصحيحة، مع ذكر السبب فى الحالتين :

(١) يُعد التجنيد الإجبارى فى عهد عباس باشا أحد مظاهر تطبيق العدالة. ☐

(٢) تأثر حكام مصر من أسرة محمد على بالتبعية للدول الأخرى. ☐

٢ اختر الإجابة الصحيحة مما بين القوسين :

(١) بدأ إنشاء أول خط حديدى فى عهد عباس باشا الأول بين القاهرة و.....

(الإسكندرية - دمياط - السويس - الجيزة)

(٢) عقد سعيد باشا أول قرض عام ١٨٦٢م مع أحد البنوك .....

(الفرنسية - البريطانية - الإيطالية - الألمانية)

(٣) تشابه كل من عباس باشا الأول وسعيد باشا فى .....

(تطوير وسائل النقل - تدعيم الأسطول - زيادة عدد الجيش - الاهتمام بالتعليم)

٣ ما النتائج التى ترتبت على : منح سعيد باشا عقد الامتياز الأول عام ١٨٥٤م لفردينانند ديليسبس؟

.....

٤ حدد وجه الارتباط بين : سعيد باشا، وتحسن أحوال الفلاح المصرى.

.....

.....

٥ دلل تاريخيًا على صحة كل عبارة مما يأتى :

(١) توقفت حركة النهضة (التى بدأت فى عهد محمد على) فى عهد عباس باشا الأول.

.....

(٢) أضر سعيد باشا بالهوية الثقافية المصرية.

.....

(٣) جاءت معظم شروط عقد الامتياز الثانى لمشروع قناة السويس ظالمة لمصر وللمصريين.

.....

عهد الخديو إسماعيل ١٨٦٣م : ١٨٧٩م



الخديو إسماعيل

* يعتبر عهد الخديو إسماعيل فترة من :
- أزهى الفترات وأكثرها تقدمًا وعمرانًا فى تاريخ مصر الحديث.
- أخطر الفترات التى تعرضت لها مصر من تدخل أجنبى فى شئونها بسبب الأخطاء التى أدت إلى تدهور مركزها المالى وانهيار استقلالها السياسى.

مميزات عهده

* شهدت البلاد فى عهده نهضة وإصلاحًا فى مجالات كثيرة، تمثلت فى :

الزراعـــة

- زادت مساحة الأراضى الزراعية.
- أُنشئت قناطر على النيل.
- تم حفر العديد من الترع أهمها : ترعة الإبراهيمية.

الصناعـــة

- أعاد نشاط الكثير من المصانع.
- توسع فى إنشاء مصانع السكر بالوجه القبلى.

التعليم والنهضة العلمية

- أعاد فتح ديوان المدارس.
- أنشأ : - دار الرصد «بالعباسية».
  - مصلحة الإحصاء والمساحة.
- توسع فى إنشاء المدارس المختلفة(*).
  - دار الكتب.
  - الجمعية الجغرافية عام ١٨٧٥م.

الجيش والبحرية

- اهتم بتنظيم الجيش وتسليحه ومضاعفة قوته.
- اهتم بنهضة التعليم البحرى.

العمران

- اهتم بإنشاء القصور المعروفة حتى الآن، مثل : قصر عابدين.
- أنشأ دار الأوبرا المصرية.
- أقام الجسور والكبارى.



دار الأوبرا المصرية القديمة

(*) أنشأ إسماعيل باشا أول مدرسة للبنات عام ١٨٧٣م والمعروفة بالمدرسة السنية.

وسائل الاتصـــال

- مد الخطوط التلغرافية بين مختلف محافظات مصر.
- أنشأ مصلحة بريد مصرية لها مكاتب فى الإسكندرية والقاهرة والأقاليم.

الإصلاح النيابـى

- شهدت مصر فى عهده العديد من التطورات الدستورية، حيث :
  - أنشأ الهيئات شبه النيابية فقد أسس مجلس شورى النواب عام ١٨٦٦م، والذى يُعد بداية تاريخ المؤسسات النيابية فى مصر الحديثة.
  - أدخل نظام «الوزارة المسئولة» عام ١٨٧٨م.
  - وضع أول دستور فى مصر عُرف بـ «اللائحة الأساسية» بهدف إقامة حياة دستورية سليمة.

ولكن تدخل الدول الأوروبية أعاق هذه التطورات الدستورية فى مصر.

التوسع الخارجى

- وجه الخديو إسماعيل عدة حملات حربية إلى الأقاليم الاستوائية فى أفريقيا **بم تفسر؟** بهدف :
  - منع تجارة الرقيق.
  - التوسع فى الجنوب والسيطرة على مياه النيل.

مما أدى إلى مد النفوذ المصرى إلى ساحل البحر الأحمر بكامله عام ١٨٧٥م.

مساوئ عهده

* ورث الخديو إسماعيل دولة مقيدة فى سيادتها بالدولة العثمانية، كما أدت سياسته إلى زيادة الأزمة المالية فى مصر.

أسباب وعوامل زيادة الأزمة المالية والتدخل الأجنبى فى عهد الخديو إسماعيل

١ سياسة الاقتراض

* اتبع الخديو إسماعيل سياسة الاقتراض من الدول الأجنبية للوفاء بالتزاماته ومشروعاته.

٢ افتتاح قناة السويس

* أقام الخديو إسماعيل العديد من الحفلات لافتتاح القناة فى ١٧ نوفمبر ١٨٦٩م، ودعا إليها ملوك أوروبا، وأنفق ببذخ على هذه الاحتفالات.



حفل افتتاح قناة السويس

٣ علاقة الخديو إسماعيل بالدولة العثمانية

* اعتمد الخديو إسماعيل فى علاقته بالسلطان العثمانى على تقديم المال والهدايا **بم تفسر؟** من أجل الحصول على الفرمانات التى يوسع بها نطاق حكمه، ومنها :
  - جعل وراثة العرش فى أكبر أبنائه.
  - زيادة عدد الجيش المصرى.

مظاهر ازدياد التدخل الأجنبى فى شئون مصر تمثلت فى :

١ المحاكم القنصلية

* ظهرت بعد أن زادت قبضة «نفوذ» القناصل الأجانب بمرور الوقت.
* اختصاصها : النظر فى الجرائم التى يرتكبها الرعايا الأجانب ضد المصريين والحكومة المصرية نفسها.
* مساوئها : أحكامها لا تستأنف إلا فى الخارج مما كان يدفع المصريين للتنازل عن حقوقهم.

٢ الامتيازات الأجنبية (زادت فى عهد إسماعيل بسبب مشروعاته فى مختلف المجالات).

* منحت الدولة العثمانية رعايا بعض الدول الأوروبية العديد من الامتيازات (التسهيلات) تشجيعًا لهم على الإقامة والتجارة، وتعهدت لهم بالمحافظة على أموالهم، وأرواحهم، وإعطائهم حق الرجوع إلى قناصلهم فى شئونهم التجارية والشخصية.

٣ المحاكم المختلطة ١٨٧٥م

* إنشائها : أنشأها الخديو إسماعيل للحد من مساوئ المحاكم القنصلية.
* قضاتها : أجانب، ومصريين.
* اختصاصها : • الفصل فى القضايا المدنية والمنازعات العقارية بين المصريين والأجانب.
  • الفصل فى المنازعات التى تنشأ بين الأجانب والحكومة المصرية نفسها.
* مساوئها : رئاسة القضاة الأجانب لها أدى إلى تدخلهم فى سلطة القضاء التشريعى المصرى وانحيازها للأجانب.

٤ بعثة كيف ديسمبر ١٨٧٥م

* عرض الخديو إسماعيل على الحكومة البريطانية إيفاد موظف كُفء لدراسة أسباب سوء الأوضاع المالية فى مصر وتقديم المقترحات لعلاجها فأرسلت بعثة برئاسة المستر كييف.
* اقتراحاتها : • إنشاء إدارة للمراقبة المالية يرأسها موظف إنجليزى.
  • ألا يعقد الخديو قرضًا ما لم توافق عليه إدارة الرقابة المالية.

٥ صندوق الدين مايو ١٨٧٦م

* أصدر الخديو إسماعيل مرسومًا بإنشاء صندوق الدين وتولى إدارته مندوبون أجانب تنتدبهم الدول الدائنة.

* مهامه : • تسلم المبالغ المخصصة للديون من المصالح المختلفة.
• الإشراف على تسديد الديون لأصحابها.

لذلك كان بمثابة خزانة فرعية للخزانة المصرية.

٦ المراقبة الثنائية نوفمبر ١٨٧٦م

اقترحت الدول الأوروبية فرض الرقابة الأوروبية على المالية المصرية، فاضطر الخديو إلى إصدار مرسوم بتعيين مراقبين أجنبيين على المالية المصرية أحدهما بريطانى لمراقبة الإيرادات والآخر فرنسى لمراقبة المصروفات، وقد عُرف هذا النظام بـ «المراقبة الثنائية».

٧ لجنة التحقيق العليا الأوروبية يناير ١٨٧٨م

* سبب إنشائها :

ازدياد الأمور المالية فى مصر سوءًا وارتباكًا لذلك طالب الرقيبان الأجنبيان بإنشاء لجنة دولية للتحقيق فى جميع الشئون المالية والإدارية لمصر فاستجاب الخديو إسماعيل وأصدر مرسومًا بتأليف اللجنة والموافقة على مطالبها.

* أهم مطالبها :

• تنازل الخديو إسماعيل عن سلطته المطلقة لوزارة مسئولة عن الحكم فى البلاد.
• تنازل الخديو إسماعيل عن أطيانه وأطيان عائلته ووضعها تحت الرقابة الدولية مقابل مخصصات مالية تُصرف لهم.

٨ الوزارة المختلطة أغسطس ١٨٧٨م

بناءً على اتفاق بريطانيا وفرنسا أصدر الخديو إسماعيل مرسومًا بتأليف وزارة مسئولة برئاسة نوبار باشا، وبها وزيران أجنبيان أحدهما بريطانى للمالية، والآخر فرنسى للأشغال *(بدلًا من المراقبة الثنائية)*.

عزل الخديو إسماعيل

* وجهت الحركة الوطنية فى مصر أواخر عهد إسماعيل الانتقادات للوزارة المختلطة **ما النتائج؟**

مما أدى إلى قيام الخديو إسماعيل بـ :

• إقصاء «إبعاد» الوزيرين الأجنبيين عن الوزارة.
• إصدار مرسوم فى أبريل ١٨٧٩م بتسوية الديون طبقًا لما قررته اللائحة الوطنية (اللائحة الأساسية).

لذلك تدخلت الحكومتان البريطانية والفرنسية وقامتا بالضغط على السلطان العثمانى فأصدر فرمانًا بخلع (عزل) الخديو إسماعيل وتولية ابنه توفيق فى يونيه ١٨٧٩م.

التدريب الثانى

١ شـهدت البلاد فى عهد الخديو إسـماعيل نهضة وإصلاحًا فى مجالات كثيرة، أعط مثالًا واحدًا للنهضة والإصلاح فى كل مجال من المجالات الآتية :

المجال الزراعى	المجال الصناعى	التعليم والنهضة العلمية .....
الجيش والبحرية	الأعمال العمرانية	وسائل الاتصال .....

٢ صوب ما تحته خط :

(١) عدم عقد الخديو إسماعيل قرضًا إلا بموافقة الرقابة المالية كان من مقترحات صندوق الدين. (.....)

(٢) اختصت المحاكم المختلطة بالنظر فى الجرائم التى يرتكبها الرعايا الأجانب ضد المصريين والحكومة المصرية نفسها. (.....)

(٣) نتج عن الأزمة المالية والتدخل الأجنبى فى مصر إنشاء أول وزارة مسئولة برئاسة إبراهيم باشا. (.....)

٣ ما النتائج التى ترتبت على :

إصدار إسماعيل مرسوم أبريل ١٨٧٩م وعزل الوزيرين الأجنبيين من الوزارة المختلطة ؟

.....

٤ حدد : أهم مطالب لجنة التحقيق العليا الأوروبية يناير ١٨٧٨م.

.....

٥ فسر : كان صندوق الدين بمثابة خزانة فرعية للخزانة المصرية فى عهد الخديو إسماعيل.

.....

٦ دلل تاريخيًا على صحة كل عبارة مما يأتى :

(١) يعتبر عهد الخديو إسماعيل بداية الإصلاح النيابى فى مصر.

.....

(٢) اتبع الخديو إسماعيل نفس السياسة المالية التى اتبعها سعيد باشا أثناء حكمه.

.....

(٣) كان للحملات الحربية التى وجهها الخديو إسماعيل إلى أفريقيا جانب إنسانى.

.....

أهم نقاط الدرس

بعض خلفاء محمد علي

عباس باشا الأول (١٨٤٨م : ١٨٥٤م)

* **مميزات عهده :**
  - أصلح الطريق البرى بين القاهرة والسويس.
  - بدأ فى إنشاء أول خط حديدى بين القاهرة والإسكندرية عام ١٨٥٢م.

* **مساوئ عهده :**
  - أُغلقت معظم المدارس والمصانع.
  - تم تخفيض حجم الجيش.
  - عُطلت أعمال الترسانة البحرية.

محمد سعيد باشا (١٨٥٤م : ١٨٦٣م)

* **مميزات عهده :**
  - اهتم بتطهير ترعة المحمودية.
  - أصلح أحوال الفلاحين بإصدار اللائحة السعيدية أغسطس ١٨٥٨م وبموجبها أصبح للفلاح الحق فى توريث الأرض الزراعية.
  - أتم الخط الحديدى بين القاهرة والإسكندرية.
  - أنشأ خط حديدى من القاهرة إلى السويس.
  - مد خطوط التلغراف بين الإسكندرية والقاهرة والسويس.
  - جعل مدة الخدمة العسكرية سنة واحدة إجبارية للجميع.
  - فتح باب الترقى أمام الضباط المصريين.
  - اعتنى بالترسانة البحرية فبدأ فى إصلاح السفن وتجديد الأسطول.

* **مساوئ عهده :**
  - ألغى ديوان المدارس وشجع البعثات الأجنبية فى مصر على فتح مدارس لها بالقاهرة والإسكندرية.
  - منح فرديناند ديليسبس عقدين لامتياز قناة السويس.
  - بدأت فى عهده الأزمة المالية فعقد أول قرض مع أحد البنوك البريطانية عام ١٨٦٢ م.

الخديو إسماعيل (١٨٦٣م : ١٨٧٩م)

* **مميزات عهده :**
  - زاد من مساحة الأراضى الزراعية، وحفر ترعة الإبراهيمية وأنشأ قناطر على النيل.
  - أعاد نشاط الكثير من المصانع وتوسع فى إنشاء مصانع السكر بالوجه القبلى.
  - أعاد فتح ديوان المدارس وتوسع فى إنشاء المدارس المختلفة وأنشأ دار الرصد (بالعباسية)، ودار الكتب، ومصلحة الإحصاء والمساحة والجمعية الجغرافية.
  - اهتم بالجيش والبحرية.
  - أنشأ القصور ودار الأوبرا المصرية.
  - مد الخطوط التلغرافية بين مختلف محافظات مصر، وأنشأ مصلحة بريد مصرية.
  - أنشأ مجلس شورى النواب عام ١٨٦٦م.
  - وضع أول دستور فى مصر (اللائحة الأساسية).
  - توسع فى الجنوب للسيطرة على مياه النيل ومنع تجارة الرقيق.

* **مساوئ عهده :**
  - ازدياد الأزمة المالية.
  - ازدياد التدخل الأجنبى فى شئون مصر، ومن مظاهره :
    - المحاكم القنصلية.
    - الامتيازات الأجنبية.
    - المحاكم المختلطة ١٨٧٥م.
    - بعثة كيف ١٨٧٥م.
    - صندوق الدين ١٨٧٦م.
    - المراقبة الثنائية ١٨٧٦م.
    - لجنة التحقيق العليا الأوروبية ١٨٧٨م.
    - الوزارة المختلطة ١٨٧٨م برئاسة نوبار باشا.

تم عزل الخديو إسماعيل بسبب تدخل إنجلترا وفرنسا حيث ضغطتا على السلطان العثمانى فأصدر فرمانًا بعزل إسماعيل وتولية ابنه توفيق عام ١٨٧٩م.

أسئلة ؟ على الدرس الأول

أسئلة تفاعلية

• تذكر • فهم • تطبيق ∴ مستويات عليا

١ اختر الإجابة الصحيحة مما بين القوسين :

(١) توقفت فى عهد ..... حركة النهضة التى بدأت فى عهد محمد على.
(الخديو إسماعيل – توفيق – عباس باشا الأول – سعيد باشا)

(٢) أتم سعيد باشا الخط الحديدى بين .....
(القاهرة وأسوان – القاهرة وبورسعيد – القاهرة والإسماعيلية – القاهرة والإسكندرية)

(٣) جعل مدة الخدمة العسكرية سنة واحدة إجبارية للجميع .....
(عباس – إسماعيل – سعيد – توفيق) (الوادى الجديد ٢٣)

(٤) بدأت تزداد المدارس الأجنبية فى مصر منذ عهد .....
(عباس الأول – سعيد باشا – الخديو إسماعيل – الخديو توفيق)

(٥) بلغ تدهور التعليم أقصى مدى له فى عهد ..... (سعيد – إسماعيل – عباس الأول – إبراهيم)

(٦) كان من شروط الامتياز الثانى لحفر قناة السويس حفر ترعة .....
(الإبراهيمية – المحمودية – النوبارية – الإسماعيلية) (البحر الأحمر ٢٥)

(٧) أول من استدان من البيوت المالية الأوروبية عام ١٨٦٢م .....
(محمد على – عباس باشا الأول – سعيد باشا – إسماعيل) (دمياط ٢٤)

(٨) يرجع الفضل فى مضاعفة عدد الجيش المصرى إلى .....
(سعيد باشا – عباس باشا الأول – الخديو توفيق – الخديو إسماعيل) (المنوفية ٢٤)

(٩) من أكثر المحاصيل الزراعية التى زادت كميتها خلال عهد إسماعيل بصعيد مصر .....
(القمح – الذرة – قصب السكر – الأرز)

(١٠) أُنشئت دار الأوبرا المصرية فى عهد ..... (محمد على – سعيد – عباس الأول – إسماعيل)

(١١) يعتبر عهده بداية عصر الحياة النيابية الدستورية بمصر الحديثة .....
(محمد على – عباس الأول – الخديو إسماعيل – سعيد باشا)

(١٢) أسس ..... مجلس شورى النواب عام ١٨٦٦م.
(الخديو توفيق – عباس باشا الأول – سعيد باشا – الخديو إسماعيل) (السويس ٢٢)

(١٣) وصل النفوذ المصرى إلى ساحل البحر الأحمر بكامله عام ١٨٧٥م فى عهد .....
(عباس الأول – الخديو إسماعيل – سعيد باشا – إبراهيم باشا) (الشرقية ٢٣)

(١٤) أنشأ الخديو إسماعيل ..... للفصل فى القضايا المدنية والمنازعات العقارية بين المصريين والأجانب.
(الوزارة المختلطة – المحاكم القنصلية – المحاكم المختلطة – المراقبة الثنائية) (السويس ٢٤)

(١٥) أرسلت ..... بعثة لدراسة أحوال مصر المالية عام ١٨٧٥م.
(بريطانيا - روسيا - ألمانيا - إيطاليا) (الغربية ١٧)

(١٦) تم إنشاء إدارة للرقابة المالية بناءً على اقتراح من .....
(بعثة كيف - صندوق الدين - الوزارة المختلطة - لجنة التحقيق العليا الأوروبية)

(١٧) الهيئة التى تولت مسئولية تسليم الأموال المصرية للدائنين فى عهد إسماعيل .....
(بعثة كيف - صندوق الدين - المراقبة الثنائية - لجنة التحقيق العليا الأوروبية)

(١٨) أُرسلت لجنة التحقيق العليا الأوروبية لمصر بناء على طلب من .....
(المراقبة الثنائية - صندوق الدين - بعثة كيف - الوزارة المختلطة) (بورسعيد ٢٤)

(١٩) تنازل الخديو إسماعيل وعائلته عن ما يملكونه من أراضى جاء نتيجة إحدى مطالب .....
(المراقبة الثنائية - بعثة كيف - لجنة التحقيق العليا الأوروبية - الوزارة المختلطة)

(٢٠) تم تشكيل وزارة نوبار باشا المختلطة تنفيذًا لمقترحات .....
(صندوق الدين - المراقبة الثنائية - لجنة التحقيق العليا الأوروبية - بعثة كيف) (السويس ٢٥)

(٢١) أصدر الخديو إسماعيل مرسومًا فى أغسطس ١٨٧٨م بتأليف .....
(صندوق الدين - المراقبة الثنائية - المحاكم المختلطة - الوزارة المختلطة)

(٢٢) أصدر الخديو إسماعيل مرسوم أبريل ١٨٧٩م بسبب ..... (ضغط السلطان العثمانى - ضغط الوطنيين - نجاح سياسة الاقتراض - فشل المحاكم القنصلية)

(٢٣) أدى تدهور الأوضاع المالية فى عهد الخديو إسماعيل إلى ..... (تدهور أحوال التعليم - انهيار الاستقلال السياسى - تغيير شروط امتياز قناة السويس - تأخر وسائل الاتصالات)

٢ أكمل العبارات التالية بكلمات مناسبة :

(١) أُغلقت معظم المدارس فى عهد ..... (المنيا ٢٣)

(٢) تنازلت الحكومة المصرية عن ..... المطلوبة لإنشاء القناة المالحة وترعة الإسماعيلية.

(٣) تم فى عهد ..... تعيين مراقبين أجنبيين أحدهما بريطانى للإيرادات، والآخر فرنسى للمصروفات. (الوادى الجديد ١٨)

٣ اكتب كلمة (صواب) أمام العبارة الصحيحة، وكلمة (خطأ) أمام العبارة غير الصحيحة، مع التصويب :

(١) تولى محمد سعيد باشا حكم مصر عقب وفاة عباس باشا الأول عام ١٨٥٤م. ( )

(٢) اهتم محمد سعيد باشا بإصلاح أحوال الفلاحين. (الجيزة ٢٥) ( )

(٣) اهتم سعيد باشا بشئون الرى والزراعة فتم تطهير ترعة المحمودية. ( )

(٤) كانت معظم شروط عقد الامتياز الثانى لحفر قناة السويس فى صالح مصر. ( )

(٥) اشترط لصحة امتياز قناة السويس أن يصدق عليه السلطان العثمانى. (الإسكندرية ٢٤) ( )

(٦) عقد سعيد باشا أول قرض مع أحد البنوك البريطانية عام ١٨٦٢م. ( )

(٧) أعاد محمد سعيد باشا فتح ديوان المدارس. ( )

(٨) اقتصرت مشروعات الخديو إسماعيل التنموية على القاهرة. ( )

(٩) أرسل الخديو إسماعيل حملات عسكرية للأقاليم الاستوائية للقضاء على تجارة الرقيق. (البحر الأحمر ٢٣) ( )

(١٠) تشابهت الوجهة التوسعية فى أفريقيا لكل من محمد على والخديو إسماعيل. (المنيا ٢٤) ( )

(١١) سار «الخديو إسماعيل» على نهج عباس باشا الأول فى الاستدانة من الخارج. ( )

(١٢) فشلت المحاكم المختلطة فى تحقيق الأهداف التى أنشئت من أجلها. (الفيوم ٢٤) ( )

(١٣) أصدر الخديو إسماعيل مرسومًا بإنشاء صندوق الدين مايو ١٨٧٦م. ( )

(١٤) تكونت لجنة التحقيق العليا الأوروبية عام ١٨٧٨م نظرًا لزيادة أمور مصر المالية سوءًا وارتباكًا. ( )

٤ اكتب المصطلح التاريخى الذى تشير إليه كل عبارة من العبارات الآتية :

(١) لائحة صدرت عام ١٨٥٨م أعطت للفلاح الحق فى توريث الأرض الزراعية. (القاهرة ١٩) (.....)

(٢) كانت تختص بالنظر فى الجرائم التى يرتكبها الرعايا الأجانب ضد المصريين والحكومة المصرية نفسها. (بنى سويف ٢٣) (.....)

(٣) محاكم كانت تفصل فى المنازعات التى تنشأ بين الأجانب والحكومة المصرية نفسها. (.....)

٥ من هو ... ؟

(١) مد الخطوط التلغرافية على الطريقة الحديثة بين الإسكندرية والقاهرة والسويس. (.....)

(٢) منحه سعيد باشا عقدين امتياز لتأسيس شركة عامة لحفر قناة السويس. (بنى سويف ٢٣) (.....)

(٣) أنشأ دار الرصد بالعباسية ومصلحة الإحصاء والمساحة والجمعية الجغرافية. (الجيزة ٢٤) (.....)

(٤) أصدر مرسومًا فى أبريل ١٨٧٩م بتسوية الديون المصرية وفقًا لقرارات اللائحة الوطنية. (الغربية ٢٠) (.....)

(٥) تولى حكم مصر بعد عزل الخديو إسماعيل يونيه ١٨٧٩م. (.....)

٦ فى عهد مَن مِن حكام مصر وقع كل مما يأتى ... ؟

(١) إنشاء خطًا حديديًا من القاهرة إلى السويس. (الفيوم ٢٤) (.....)

(٢) تخفيض حجم الجيش وتعطيل أعمال الترسانة البحرية. (مطروح ٢٥) (.....)

(٣) فتح باب الترقى أمام الضباط المصريين. (.....)

(٤) الانتهاء من حفر قناة السويس. (.....)

(٥) إنشاء مصلحة البريد المصرية. (القليوبية ٢٤) (.....)

(٦) حفر ترعة الإبراهيمية. (ج. سيناء ٢٤) (.....)

٧ بم تفسر ... ؟

(١) توقف حركة النهضة فى عهد عباس الأول. (بورسعيد ٢٢)

.....

(٢) تحسن أحوال الفلاح المصرى خلال عهد سعيد باشا.

.....

(٣) تعتبر معظم شروط عقد الامتياز الثانى لحفر قناة السويس مجحفة للمصريين. (سوهاج ٢٣)

.....

(٤) اتبع الخديو إسماعيل سياسة الاقتراض.

.....

(٥) يمثل عهد إسماعيل حقبة من أخطر ما تعرضت له البلاد من تدخل أجنبى فى شئون مصر. (الغربية ٢٤)

.....

(٦) انتعاش الصناعة فى عهد الخديو إسماعيل. (البحر الأحمر ٢٥)

.....

(٧) كانت علاقة الخديو إسماعيل بالدولة العثمانية أحد أسباب الأزمة المالية. (كفر الشيخ ١٨)

.....

(٨) وجه الخديو إسماعيل عدة حملات حربية إلى الأقاليم الاستوائية فى أفريقيا. (الغربية ٢٢)

.....

(٩) ازدياد التدخل الأجنبى فى عهد الخديو إسماعيل. (الشرقية ١٦)

.....

(١٠) منح الدولة العثمانية الامتيازات الأجنبية لرعايا بعض الدول الأوروبية. (الفيوم ٢٠)

.....

(١١) إنشاء الخديو إسماعيل للمحاكم المختلطة عام ١٨٧٥م. (البحر الأحمر ٢٥)

.....

(١٢) عزل الخديو إسماعيل فى يونيه ١٨٧٩م وتولية ابنه توفيق. (الغربية ٢٥)

.....

٨ ما النتائج التى ترتبت على ... ؟

(١) اعتماد سعيد باشا على رءوس الأموال الأجنبية . (الشرقية ٢٥)

.....

(٢) إنشاء المحاكم المختلطة عام ١٨٧٥م. (البحر الأحمر ٢٢)

.....

(٣) إصدار الخديو إسماعيل مرسوم مايو ١٨٧٦م. (الدقهلية ٢٠)

.....

(٤) صدور مرسوم نوفمبر ١٨٧٦م من قِبَل الخديو إسماعيل. (كفر الشيخ ١٧)

.....

(٥) قيام الحركة الوطنية فى مصر بتوجيه الانتقادات للوزارة المختلطة. (دمياط ٢٤)

.....

٩ دلل تاريخيًا على صحة كل عبارة مما يأتى :

(١) لم يكن خلفاء «محمد على» على شاكلته من القوة والوعى. (القاهرة ٢٢)

.....

(٢) اهتمام سعيد باشا بتحسين الأحوال العسكرية للبلاد.

.....

(٣) انتشرت مشروعات الخديو إسماعيل فى أقاليم مصر المختلفة.

.....

(٤) يعتبر عهد إسماعيل من أزهى عهود تاريخ مصر خاصة فى التعليم والثقافة. (القليوبية ٢٥)

.....

(٥) شهدت مصر فى عهد الخديو إسماعيل نهضة عمرانية كبيرة. (بنى سويف ٢٣)

.....

(٦) تعددت صور التدخل الأجنبى فى مصر خلال عهد الخديو إسماعيل.

.....

(٧) وافق الخديو إسماعيل على مطالب لجنة التحقيق العليا الأوروبية يناير ١٨٧٨م. (القليوبية ٢٠)

.....

١٠ قارن بين :

(١) اللائحة السعيدية فى عهد سعيد، واللائحة الأساسية فى عهد إسماعيل.

.....

.....

(٢) عباس باشا الأول، وسعيد باشا، من حيث أهم الأعمال فى النقل والمواصلات.

.....

.....

(٣) المحاكم القنصلية، والمحاكم المختلطة، من حيث : * الاختصاص. * المساوئ.

.....

.....

١١ ما رأيك فى ... ؟

(١) سياسة سعيد باشا الزراعية. (ج. سيناء ٢٠)

.....

(٢) تأسيس الخديو إسماعيل مجلس شورى النواب عام ١٨٦٦م. (بنى سويف ٢٠)

.....

(٣) قيام الخديو إسماعيل بإقصاء الوزيرين الأجنبيين عن الوزارة المختلطة.

.....

١٢ «قناة السويس أمن قومى حفرت بسواعد المصريين وتقوم بدور كبير فى الاقتصاد العالمى».

فى ضوء العبارة السابقة، أجب عما يأتى : (المنوفية ٢٤)

(١) ما شروط عقد الامتياز الأول الذى منحه سعيد باشا لفرديناند ديليسبس ؟

.....

(٢) ما تقييمك لاحتفالات الخديو إسماعيل أثناء افتتاح قناة السويس عام ١٨٦٩م ؟

.....

أسئلة للتميز

١٣ اختر الإجابة الصحيحة مما بين القوسين :

(١) تطورت سرعة نقل المعلومات والأخبار بين المدن الرئيسية فى مصر منذ عهد .....

(عباس الأول - سعيد باشا - الخديو إسماعيل - إبراهيم باشا)

(٢) أخذت أول مظاهر التوغل الأجنبى فى شئون مصر فى عهد خلفاء محمد على شكل .....

(التدخل السياسى - السيطرة العسكرية - الحماية الأجنبية - المصالح الاقتصادية)

(٣) كان الخديو إسماعيل على النقيض من سعيد باشا فى مجال .....

(الاهتمام بالزراعة - إصلاح الجيش - النقل والمواصلات - التعليم والثقافة)

(٤) الصورة التى أمامك تعبر عن .....

(نهضة عمرانية - أحد أسباب الأزمة المالية -
قوة الاقتصاد المصرى -
قوة مصر السياسية والعسكرية)



حفل افتتاح قناة السويس

(٥) تغير نظام ملكية الأرض الزراعية لأول مرة فى عهد أحد خلفاء محمد على وهو .....
(سعيد - عباس الأول - إسماعيل - توفيق)

(٦) زادت مساحة الأراضى الزراعية فى عهد إسماعيل بسبب .....
(الاهتمام بمشروعات الرى - إلغاء نظام الالتزام - اللائحة الأساسية - تخفيف الضرائب عن الفلاح)

(٧) كان إرسال بعثة كيبف إلى مصر لحل الأزمة المالية بناءً على رغبة .....
(السلطة التنفيذية فى مصر - إنجلترا - الدائنين الأوروبيين - فرنسا)

---

١٤ دلل تاريخيًا على صحة كل عبارة مما يأتى :

(١) شهدت فترة حكم سعيد باشا ازدواجية فى التعليم.

.....

.....

(٢) تضمن حكم إسماعيل الكثير من التناقضات.

.....

.....

---

١٥ قارن بين : مشروع قناة السويس قديمًا، ومشروع قناة السويس الجديدة، من حيث :

* التمويل. * النتائج التى ترتبت على كل منهما.

.....

.....

.....

.....

---

١٦ حدد أوجه النقد لـ : المحاكم المختلطة.

.....

.....

---

١٧ إذا كنت مسئول فى عهد الخديو إسماعيل،
بماذا كنت تنصحه لإدارة الأزمة المالية آنذاك ؟

.....

---

١٨ تخيل أنك مكان سعيد باشا، **غير بأسلوبك فى شروط امتياز قناة السويس لتصبح فى صالح مصر.**

.....

امتحان ؟ على الدرس الأول

١ (أ) اختر الإجابة الصحيحة مما بين القوسين :

(١) أصبح للفلاح المصرى الحق فى توريث الأرض الزراعية منذ عهد .....

(إبراهيم - سعيد باشا - إسماعيل - عباس الأول) (بنى سويف ٢٥)

(٢) تم مد الخطوط التلغرافية بين مختلف المحافظات فى مصر فى عهد .....

(سعيد باشا - الخديو إسماعيل - عباس باشا الأول - توفيق)

(٣) يُعد بمثابة خزانة فرعية للخزانة المصرية فى عهد إسماعيل .....

(المراقبة الثنائية - لجنة التحقيق العليا الأوروبية - الوزارة المختلطة - صندوق الدين)

(ب) استنتج السبب فيما يلى :

(١) تسمية وزارة نوبار باشا بالوزارة المختلطة. (الأقصر ٢٤)

(٢) كان عهد إسماعيل بداية لتقليص الحكم المطلق.

(جـ) قارن بين : الوسيلة التى اتبعها كل من محمد على، والخديو إسماعيل لتوسيع نطاق استقلالهما عن الدولة العثمانية.

---

٢ (أ) اكتب كلمة (صواب) أمام العبارة الصحيحة، وكلمة (خطأ) أمام العبارة غير الصحيحة، مع ذكر السبب فى الحالتين :

(١) تعرض القضاء التشريعى بمصر للتدخل الأجنبى فى عهد الخديو إسماعيل. ( )

(٢) كانت مالية مصر فى عهد الخديو إسماعيل بعيده تمامًا عن التدخل الأجنبى. ( )

(٣) أصلح سعيد باشا ما أفسده عباس باشا الأول فى الجيش المصرى. ( )

(ب) ما تقييمك لمصداقية العبارة التالية :

تشابه الخديو إسماعيل مع جده محمد على فى اهتمامه بتحسين طرق الرى ؟

(جـ) حدد الأثر الناتج عن : إنشاء المحاكم القنصلية فى مصر.

(د) ما العلاقة بين ... ؟

(١) الخديو إسماعيل، والأقاليم الاستوائية بقارة أفريقيا.

(٢) افتتاح قناة السويس، والأزمة المالية فى عهد إسماعيل. (الإسكندرية ٢٥)

الدرس
الثانى

الحركة الوطنية والثورة العرابية

فى هذا الدرس سندرس ← أحوال مصر قبل الثورة العرابية ← الثورة العرابية ← الاحتلال البريطانى لمصر



أحوال مصر قبل الثورة العرابية

* تولى الخديو توفيق الحكم بعد عزل والده الخديو إسماعيل (يونيه ١٨٧٩م)، وقد أدرك منذ بداية حكمه مدى قوة وتسلط النفوذ الأجنبى فى مصر.

* اتخذ الخديو توفيق سياسة أدت إلى زيادة التدخل الأجنبى فى شئون البلاد **دلل؟** حيث :

- أعاد نظام المراقبة الثنائية.
- رفض اللائحة الأساسية «الدستور» لمجلس النواب.
- وضع نفسه تحت حماية إنجلترا وفرنسا وذلك بإسناد الوزارة إلى رياض باشا.



الخديو توفيق

الثورة العرابية

أسباب (عوامل) قيام الثورة العرابية

١ ازدياد التدخل الأجنبى فى شئون مصر، نتيجة للقروض وفقدان مصر نصيبها من أسهم شركة قناة السويس(*).

٢ المؤثرات الفكرية الغربية التى أدت إلى نمو الوعى القومى وتطورت إلى المطالبة بالدستور والحكم النيابى.

٣ سوء أحوال مصر الاقتصادية فى عهد وزارة رياض باشا.

٤ اضطهاد عثمان رفقى باشا ناظر الجهادية «وزير الحربية» للضباط المصريين وعدم ترقيتهم.

معلومة إثرائية



أحمد عرابى

كانت الثورة العرابية بقيادة أحمد عرابى أحد ضباط الجيش المصرى (من الفلاحين المصريين) وكان معه مجموعة من الضباط الوطنيين ودعاة إصلاح مثقفون مرتبطون بالجامع الأزهر واحتكوا بالثقافة الغربية، منهم: الشيخ محمد عبده، وعبدالله النديم وغيرهما من علماء وطلاب الأزهر، وتلاميذ السيد جمال الدين الأفغانى.

أحداث الثورة العرابية ومراحلها



(*) كان الخديو إسماعيل قد اضطر لبيع أسهم مصر فى قناة السويس سدادًا للديون.

حادثة قصر النيل — منتصف يناير ١٨٨١م

* **أسبابها :** تقدم **أحمد عرابى** وزملائه بشكوى إلى رياض باشا رئيس مجلس الوزراء طالبوا فيها بإقالة **عثمان رفقى** ناظر الجهادية، فأمر الخديو توفيق بالقبض عليهم واعتقالهم (فى سجن قصر النيل) وتقديمهم للمحاكمة أمام مجلس عسكرى.
* **أحداثها :** تحرك بعض رجال الجيش إلى قصر النيل وأخرجوا عرابى وزملائه من السجن بالقوة، ثم تحركوا لمقابلة الخديو توفيق لعرض مطالبهم.
* **نتائجها :** استجاب الخديو توفيق لمطلبهم فعزل **عثمان رفقى** وعين **محمود سامى البارودى** بدلًا منه ناظرًا للجهادية.

مظاهرة عابدين — ٩ سبتمبر ١٨٨١م

* **أحداثها :**
  - خرج أحمد عرابى على رأس الجيش ومعه الآلاف من الوطنيين فى مظاهرة وطنية (أبرزت مدى مؤازرة الشعب لعرابى وزملائه) إلى ساحة ميدان عابدين لمقابلة الخديو توفيق وتقديم مطالب الأمة.
  - نزل الخديو توفيق إلى الميدان وبرفقته بعض الضباط الأتراك، والقنصل البريطانى، والمراقب المالى البريطانى.
* **مطالبها :** (١) إسقاط حكومة رياض باشا المستبدة.
  (٢) تشكيل مجلس نواب على النسق الأوروبى.
  (٣) زيادة عدد الجيش إلى ١٨ ألف جندى.
* **نتائجها :**
  - وافق الخديو مضطرًا على مطالب الأمة والجيش.
  - أسند الخديو الوزارة إلى **شريف باشا** بعد عزل رياض باشا.

معلومة إثرائية

اشتد الحوار بين الخديو وعرابى :

- قال الخديو لعرابى : «أنا ورثت مُلك هذه البلاد عن آبائى وأجدادى، وما أنتم إلا عبيد إحساناتنا».
- رد عليه عرابى قائلًا : «لقد خلقنا الله أحرارًا ولم يخلقنا تراثًا أو عقارًا، فو الله الذى لا إله إلا هو إننا سوف لا نورث ولا نستعبد بعد اليوم».



وزارة شريف باشا — سبتمبر ١٨٨١م



شريف باشا

* أجرت وزارة شريف الانتخابات لاختيار أعضاء مجلس النواب الجديد الذى أُفتتح فى ديسمبر ١٨٨١م.
* عرض شريف باشا على مجلس النواب اللائحة الأساسية «الدستور»، والتى لم تتضمن حق مجلس النواب فى مناقشة الميزانية وإقرارها وذلك لأنه رأى تأجيل مناقشة المجلس للميزانية **بم تفسر ؟** لتجنب الاصطدام بالدول الأوروبية.
* ثار جدل بين شريف باشا والنواب حول حق المجلس فى مناقشة الميزانية، فقامت بريطانيا وفرنسا بإرسال المذكرة المشتركة الأولى.

المذكرة المشتركة الأولى | يناير ١٨٨٢م

* سببها : رغبة بريطانيا وفرنسا فى تقوية مركز الخديو فى مواجهة الحركة الوطنية.
* محتواها : أبدت بريطانيا وفرنسا فيها :
  - رغبتهما الصريحة فى حل مجلس النواب.
  - تأييدهما التام لموقف الخديو ومساندته ضد الحركة الوطنية.

* نتيجة لإصرار مجلس النواب على مناقشة الميزانية

استقالت وزارة شريف باشا.



محمود سامى البارودى

وزارة محمود سامى البارودى «وزارة الثورة» | فبراير ١٨٨٢م

* تولى محمود سامى البارودى رئاسة الوزارة وتم إسناد وزارتا الجهادية والبحرية لأحمد عرابى.
* أصدر الخديو مرسومًا بتأييد «وزارة البارودى».
* أصدرت وزارة البارودى اللائحة الأساسية «الدستور»، والتى نصت على :
  - مبدأ مسئولية الوزارة أمام مجلس النواب.
  - حق مجلس النواب فى مناقشة الميزانية وإقرارها.

معلومة إثرائية

عُرفت وزارة محمود سامى البارودى باسم «وزارة الثورة» لأنها جاءت من أجل تحقيق مطالب الشعب وبها الكثير من زعماء الثورة.

مؤامرة الضباط الشراكسة

* هدفها : اغتيال عرابى والضباط الوطنيين للإطاحة بوزارة محمود سامى البارودى، ولكن اكتشفت هذه المؤامرة، وترتب عليه محاكمة المشتركين فيها بالنفى إلى أقاصى السودان، ولكن رفض الخديو توفيق التصديق على الحكم الذى صدر عليهم فزاد التوتر بين الوزارة والخديو.
* نتيجة لتلك الأحداث تدخلت بريطانيا وفرنسا للمرة الثانية فقامتا بإرسال قطعًا من أسطولهما إلى الإسكندرية، كما أرسلتا المذكرة المشتركة الثانية.

المذكرة المشتركة الثانية(*) | مايو ١٨٨٢م

* سببها : رغبة بريطانيا وفرنسا فى مساندة الخديو توفيق أمام العسكريين.
* محتواها : طالبت بريطانيا وفرنسا فيها بـ :
  - إقالة وزارة البارودى.
  - إبعاد عرابى وزملائه خارج البلاد.

(*) قبَل الخديو توفيق المذكرة المشتركة الثانية، فقدم البارودى استقالته وعندما أراد الخديو إبعاد عرابى التف الشعب حوله ورفض ذلك واستمر عرابى وزيرًا للحربية.

التدريب الأول

١ دلل على صحة كل عبارة مما يأتى :

(١) أدت سياسة الخديو توفيق منذ بداية حكمه إلى زيادة التدخل الأجنبى فى شئون مصر.

.....

(٢) تعددت عوامل قيام الثورة العرابية.

.....

(٣) حقق العرابيون بعض المكاسب بعد مظاهرة عابدين ٩ سبتمبر ١٨٨١م.

.....

(٤) رغبة بريطانيا وفرنسا فى تقوية مركز الخديو توفيق يناير ١٨٨٢م.

.....

٢ حدد الأثر الناتج عن : زيادة التوتر بين وزارة البارودى والخديو توفيق.

.....

٣ فى عهد مَن (مِن رؤساء وزراء مصر) وقع الحدث التالى ... ؟

(١) مظاهرة عابدين ٩ سبتمبر ١٨٨١م. (.....)

(٢) تعيين عرابى وزيرًا للجهادية والبحرية ١٨٨٢م. (.....)

(٣) إرسال إنجلترا وفرنسا المذكرة المشتركة الأولى يناير ١٨٨٢م. (.....)

٤ وضح : أهم المطالب التى قدمها عرابى فى مظاهرة عابدين ٩ سبتمبر ١٨٨١م.

.....

.....

٥ ما الفرق بين : اللائحة الأساسية فى عهد كل من وزارة شريف ١٨٨١م، ووزارة البارودى ١٨٨٢م ؟

.....

.....

الاحتلال البريطانى لمصر

ما المقصود بـ: احتلال؟

الاستيلاء على أرض الغير بالقوة.

* وجدت بريطانيا الفرصة لتحقيق غرضها (منذ جلاء الحملة الفرنسية عن مصر) فى احتلال مصر، واستغلت فى ذلك بعض الأحداث الداخلية، من أهمها :

(١) الخلاف الذى حدث بالإسكندرية فى ١١ يونيه ١٨٨٢م بين أحد الرعايا الأجانب وأحد الأهالى وأدى إلى نشوب معركة راح ضحيتها عدد من القتلى من الجانبين، وترتب على ذلك :

- اجتماع قناصل الدول الأجنبية بالإسكندرية.
- سفر الخديو توفيق إلى الإسكندرية بحجة تهدئة الأوضاع.

(٢) بقاء البلاد بدون وزارة مدة أسبوعين (عقب استقالة وزارة البارودى)، إلى أن كلف الخديو توفيق «راغب باشا» بتأليف الوزارة فى ٢٠ يونيه ١٨٨٢م.

* عقد ممثلو الدول العظمى مؤتمر بالآستانة(*) للنظر فى المسألة المصرية، وكانت قراراته :

- إرسال تركيا «الدولة العثمانية» قوة لإعادة الأمن والنظام فى مصر.
- عدم تدخل أى من الدول الأجنبية منفردة فى المسألة المصرية.

لكن بريطانيا كانت تستعد لضرب مدينة الإسكندرية بالقنابل تمهيدًا لاحتلال مصر.

خط سير القوات البريطانية بدءًا بالإسكندرية وصولًا إلى القاهرة

١ احتلال مدينة الإسكندرية

* أرسل قائد الأسطول البريطانى إنذارًا إلى الحكومة المصرية يطلب فيه تسليم بعض المدافع المنصوبة فى الحصون على ساحل الإسكندرية وقد رفضت الحكومة المصرية الإنذار.
* أعطى القائد البريطانى إشارة بدء ضرب مدينة الإسكندرية فى يوليو ١٨٨٢م.
* نزلت القوات البريطانية شواطئ مدينة الإسكندرية ورغم دفاع الأهالى والجنود المصريين عن المدينة تم احتلالها ونتيجة لذلك :
  - قرر الخديو توفيق عدم مغادرة قصر رأس التين (بالإسكندرية) هو وأسرته.
  - انسحب العرابيون من الإسكندرية إلى كفر الدوار لمواجهة زحف الجيش البريطانى.

(*) صدر عن مؤتمر الآستانة قرارًا بعدم تدخل أى دولة فى شئون مصر ولكن مندوب إنجلترا أضاف عبارة **«إلا للضرورة القصوى»** فخلقت إنجلترا حالة الضرورة للتدخل فى شئون مصر واحتلالها.

٢ معركة كفر الدوار

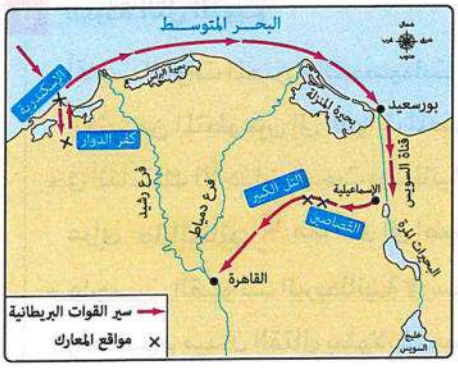

* أقامت القوات المصرية (العرابيون) بكفر الدوار الاستحكامات لمواجهة زحف الجيش البريطانى.
* أرسل الخديو إلى أحمد عرابى فى كفر الدوار **يوليو ١٨٨٢م يأمره بـ:**
  - الكف عن استعداداته الحربية.
  - الحضور لسراى رأس التين لتلقى تعليماته.
* رفض عرابى طلبات الخديو واتهمه بمحاباة البريطانيين، **وقد ترتب على ذلك أن:**

أصدر الخديو أمرًا بعزل عرابى من وزارة الحربية فى **يوليو ١٨٨٢م**، وحذر المصريين من الانضمام إليه وأظهر عرابى بمظهر العاصى لأوامره إلا أن الأمة المصرية ازدادت تماسكًا وصممت على مقاومة المعتدين، وأثناء تلك الأحداث دارت معركة كفر الدوار بين الجيش البريطانى والقوات المصرية.

نتائجها

* تمكن العرابيون من صد هجمات القوات البريطانية.
* انسحاب القوات البريطانية إلى الإسكندرية وتحركهم إلى منطقة قناة السويس.

٣ اختراق البريطانيين لقناة السويس

* أخذت القوات البريطانية تتحرك إلى منطقة قناة السويس فعقد أحمد عرابى مجلسًا عسكريًا للنظر فى أمر قناة السويس.
* أجمع المجلس العسكرى على ضرورة تعطيل الملاحة فى القناة، وفقًا للاتفاقيات الدولية (التى تمنع استخدام القناة للأغراض العسكرية) وقد أكد لهم ديليسبس على حيادية القناة.
* قامت إدارة شركة القناة «ديليسبس» بالتواطؤ مع الإنجليز وسمحت لهم بالمرور فاجتاحت السفن البريطانية القناة دون مراعاة لوضعها بالنسبة للملاحة الدولية.
* وصلت القوات البريطانية إلى **الإسماعيلية** واحتلتها واتخذوها قاعدة لتقدمهم داخل البلاد ثم تقدموا نحو مدينة **القصاصين**.

٤ معركة القصاصين

* دخلت القوات البريطانية مدينة القصاصين واحتلتها فى أغسطس ١٨٨٢م، وأصبح الجيش البريطانى على مقربة من **التل الكبير**.

٥ معركة التل الكبير

* أقامت القوات المصرية التحصينات اللازمة فى التل الكبير لصد القوات البريطانية، وقد انضم الكثير من المتطوعين إلى القوات المصرية.
* فى أثناء تلك الأحداث نجحت بريطانيا فى إقناع السلطان العثمانى بإصدار منشور بإعلان عصيان عرابى **ما النتائج ؟** مما أدى إلى إضعاف الروح المعنوية للمقاتلين المصريين.
* هاجمت القوات البريطانية فى سبتمبر ١٨٨٢م خطوط الدفاع المصرية فى التل الكبير، وقد شهد ميدان القتال بطولات مصرية خالدة منها بطولات الضابط محمد عبيد الذى صمد بقواته أمام القوات البريطانية وقاتلهم قتالاً شديدًا إلى أن استشهد هو ومعظم رجاله.

نتائجها

* هزيمة الجيش المصرى على الرغم من البطولات والمقاومة الباسلة للعرابيين.
* اتجاه القوات البريطانية إلى القاهرة لاحتلالها.

٦ دخول القوات البريطانية القاهرة

* اتجه عرابى إلى القاهرة فى محاولة للدفاع عن العاصمة إلا أن روح اليأس والهزيمة تسربت إلى العديد من أنصاره وطلبوا منه عدم الاستمرار فى المقاومة والاستسلام للقوات البريطانية.
* استمرت القوات البريطانية فى التقدم نحو القاهرة إلى أن دخلتها واحتلتها فى سبتمبر ١٨٨٢م.

محاكمة العرابيين



عبدالله النديم

* أُعتقل زعماء الثورة العرابية والضباط والأعيان الذين أيدوها ما عدا خطيب الثورة عبدالله النديم الذى لم تستطع الحكومة أن تصل إليه.
* أصدرت المحكمة العسكرية فى ديسمبر ١٨٨٢م حكمها بإعدام قادة الثورة العرابية.

ولكن ... عُدل حُكم الإعدام إلى النفى المؤبد ومصادرة أملاكهم، حيث تم نفى زعماء الثورة إلى جزيرة سيلان بالهند وصدرت أحكام أخرى على بقية العرابيين.

وهكذا انتهت أحداث الثورة العرابية وتم القضاء عليها.

أسباب فشل الثورة العرابية بم تفسر؟

١ عدم تكافؤ القوة العسكرية بين قوات الاحتلال البريطانى، والقوات المصرية.

٢ تواطؤ إدارة شركة قناة السويس الأجنبية «ديليسبس» مع قيادة الجيش البريطانى.

٣ إصدار السلطان العثمانى منشورًا بإعلان عصيان عرابى.

٤ عدم إدراك قيادة الثورة العرابية (عرابى) لأهمية التعبئة الشعبية لمساندة القوات المصرية فى معاركها.

٥ ميول بعض عناصر القوات المصرية للخديو والبريطانيين.

٦ الظروف الدولية فى عام ١٨٨٢م، لم تكن فى صالح الحركات الوطنية.

ساعدت العوامل السابقة على فشل الثورة العرابية وبدأ عهد الاحتلال البريطانى البغيض لمصر والذى ظل جاثمًا على صدر البلاد لأكثر من سبعين عامًا



التدريب الثانى

١ اكتب كلمة (صواب) أمام العبارة الصحيحة، وكلمة (خطأ) أمام العبارة غير الصحيحة، مع ذكر السبب فى الحالتين :

(١) كانت المستعمرات البريطانية فى الهند مكانًا لمعاقبة قادة الثورة العرابية. ☐

(٢) انهزمت القوات البريطانية أمام العرابيين فى الإسكندرية يوليو ١٨٨٢م. ☐

(٣) التزمت إنجلترا عام ١٨٨٢م بالمعاهدات الدولية الخاصة بقناة السويس. ☐

٢ من يكون ... ؟

(١) شكل الوزارة فى الفترة التى تلت أحداث الإسكندرية ١١ يونيه ١٨٨٢م. (.....)

(٢) أكد لعرابى حيادية قناة السويس وفقًا للاتفاقيات الدولية. (.....)

٣ ما العلاقة بين : الأوضاع الداخلية فى مصر، ومؤتمر الآستانة ؟

.....

٤ وضح : موقف عرابى من تحرك القوات البريطانية نحو منطقة قناة السويس.

.....

٥ ما الآثار الناتجة عن ... ؟

(١) أحداث الإسكندرية ١١ يونيه ١٨٨٢م.

.....

(٢) رفض عرابى أوامر الخديو توفيق التى أرسلها له فى كفر الدوار يوليو ١٨٨٢م.

.....

(٣) صد العرابيين لهجمات الإنجليز عند كفر الدوار.

.....

٦ دلل على صحة كل عبارة مما يأتى :

(١) شهد ميدان القتال فى معركة التل الكبير بطولات مصرية خالدة.

.....

(٢) تعددت العوامل الداخلية التى أدت إلى فشل الثورة العرابية عام ١٨٨٢م.

.....

أهم نقاط الدرس

الثـورة العرابيـة

أسبابهـــا

١ ازديـاد التدخـل الأجنـبى فى شئون مصر، نتيجة للقروض وفقـدان مصـر نصيبها من أسهم شركة قناة السويس.

٢ المؤثرات الفكرية الغربيـة الـتى أدت إلى نمـو الوعـى القومى وتطورت إلى المطالبة بالدستور والحكم النيابى.

٣ سوء أحوال مصر الاقتصادية فى عهد وزارة رياض باشا.

٤ اضطهاد عثمان رفقى باشا نـاظر الجهـادية للضباط المصريين وعدم ترقيتهم.

أحداثها ومراحلها

١ حادثـة قصر النيل (منتصف يناير ١٨٨١م) ونتـج عنـها عـزل عثمـان رفقى وتـعيين محمود سامى البـارودى بـدلًا منه نـاظرًا للجهادية.

٢ مظـاهـــرة عـابديـــن (٩ سبتمبر ١٨٨١م) تـم فيها المطـالبة بإسقاط حكومة ريـاض باشـا المستبدة وزيـادة عـدد الجيـش إلى ١٨ ألف جندى وتشكيل مجلس نواب على النسق الأوروبى.

٣ وزارة شريف باشا (سبتمبر ١٨٨١م).

٤ المذكرة المشتركة الأولى (يناير ١٨٨٢م).

٥ وزارة محمود سامى البارودى (وزارة الثورة) (فبراير ١٨٨٢م).

٦ المذكرة المشتركة الثانية (مايو ١٨٨٢م).

أسباب فشلها

١ عدم تكافؤ القوة العسكرية بين قوات الاحتلال البريطانى، والقوات المصرية.

٢ تـواطـؤ إدارة شركـة قناة السويس الأجنبيـة «ديليسبس» مع قـيـادة الجيش البريطانى.

٣ إصدار السلطـان العثمانى منشـورًا بإعلان عصيان عرابى.

٤ عـدم إدراك قيـادة الثـورة العرابيـة (عرابى) لأهميـة التعبئـة الشعبيـة لمساندة القوات المصرية فى معاركها.

٥ ميول بعض عناصر القوات المصرية للخديو والبريطانيين.

٦ الظروف الدولية فى عام ١٨٨٢م، لم تكن فى صالح الحركات الوطنية.

الاحتلال البريطانى لمصر

يقصـد بـ :

الاحتلال	الاستيلاء على أرض الغير بالقوة.

*** خط سير القوات البريطانية :**

١ احتلال مدينة الإسكندرية.

٢ معركة كفر الدوار: تمكن فيها العرابيون من صد هجمات القوات البريطانية.

٣ اختراق البريطانيين لقناة السويس بعد خيانة ديليسبس لعرابى.

٤ معركة القصاصين : احتلت القـوات البريطانية مدينة القصاصين أغسطس ١٨٨٢م.

٥ معركة التل الكبير (سبتمبر ١٨٨٢م) : انتهت بانتصار القوات البريطانية.

٦ دخول القـوات البـريطـانيـة القـاهـــرة واحتلالها فى سبتمبر ١٨٨٢م.

محاكمة العرابيين : أُعتقل زعماء الثورة العرابية وحُكم عليهم بالإعدام ثم عُدل الحكم بالنفى المؤبد إلى جزيرة سيلان بالهند ومصادرة أملاكهم.

أسئلة على الدرس الثانى

أسئلة تفاعلية

• تذكر • فهم ○ تطبيق مستويات عليا

١ اختر الإجابة الصحيحة مما بين القوسين :

(١) أدرك الخديو توفيق فى بداية حكمه مدى تسلط الأجانب فى مصر والدليل على ذلك .....
(دورهم فى عزل أبيه - سيطرتهم على مالية مصر - عودة المراقبة الثنائية - رفضهم للائحة الأساسية)

(٢) بعد عزل عثمان رفقى أصبح ..... ناظرًا للجهادية. (عرابى - البارودى - شريف باشا - راغب باشا)

(٣) عُين البارودى وزيرًا للحربية لأول مرة فى عهد وزارة ..... (رياض - شريف - راغب - نوبار)

(٤) أول المكاسب التى حققها العرابيون من الخديو توفيق .....
(إسقاط وزارة رياض باشا - تشكيل مجلس النواب - زيادة عدد الجيش - إقالة ناظر الجهادية)

(٥) أكثر من عارض الدستور الجديد الذى صُدر فى عهد وزارة شريف باشا هم .....
(الفرنسيين - النواب - الأتراك - الإنجليز)

(٦) يدل محتوى المذكرة المشتركة الأولى التى أرسلتها كل من إنجلترا وفرنسا يناير ١٨٨٢م على .....
(معارضتهما لسياسة توفيق - غضبهما من شريف باشا - رفضهما للحياة النيابية فى مصر - تأييدهما لمطالب مجلس النواب)

(٧) عُين أحمد عرابى وزيرًا للجهادية فى وزارة ..... (رياض - شريف - البارودى - نوبار)

(٨) أصبح من حق مجلس النواب مناقشة الميزانية وإقرارها فى عهد حكومة .....
(نوبار - شريف - رياض - البارودى) (ج. سيناء ٢٣)

(٩) كان من مطالب إنجلترا وفرنسا فى المذكرة المشتركة الثانية مايو ١٨٨٢م إقالة وزارة .....
(شريف - البارودى - رياض - راغب) (القاهرة ٢٥)

(١٠) شكل الوزارة فى ٢٠ يونيه ١٨٨٢م ..... (رياض - شريف - البارودى - راغب) (الأقصر ٢٢)

(١١) أى مما يلى كان دليلًا على فشل تنفيذ قرارات مؤتمر الآستانة ؟ .....
(إرسال المذكرة المشتركة الأولى - حادثة قصر النيل - ضرب بريطانيا مدينة الإسكندرية - إرسال المذكرة المشتركة الثانية)

(١٢) أنشأ العرابيون بعد انسحابهم من الإسكندرية استحكامات عند مدينة .....
(الإسماعيلية - كفر الدوار - القاهرة - القصاصين)

(١٣) أقر المجلس العسكرى الذى عقده عرابى للنظر فى أمر القناة بضرورة تعطيل الملاحة فى القناة وفقًا لـ .....
(حيادية القناة - الاتفاقيات الدولية - قوة الأسطول الإنجليزى - رأى الحكومة المصرية) (الغربية ٢٢)

(١٤) اتجهت القوات البريطانية إلى القاهرة بعد معركة .....
(القصاصين - الإسكندرية - التل الكبير - كفر الدوار)

(١٥) يُعرف بأنه خطيب الثورة العرابية ولم تتمكن إنجلترا من اعتقاله هو .....
(محمود سامى البارودى - عبدالله النديم - محمد عبيد - عبدالله الشرقاوى) (دمياط ٢٣)

(١٦) نجح العرابيون فى صد الإنجليز بكفر الدوار ولكنهم فشلوا فى صدهم بمعركة التل الكبير
ومن أسباب ذلك ..... (اختلافهم مع الخديو - عدم إقامة التحصينات -
قوة الأسطول البحرى الإنجليزى - منشور السلطان بعصيان عرابى)

(١٧) يُعد من عوامل فشل الثورة العرابية عدم إدراك عرابى لأهمية .....
(التفاهم مع القنصل الإنجليزى - قناة السويس - التعبئة الشعبية - الاستعداد العسكرى)

٢ اكتب كلمة (صواب) أمام العبارة الصحيحة، وكلمة (خطأ) أمام العبارة غير الصحيحة، مع التصويب :

(١) أدرك الخديو توفيق منذ بداية حكمه قوة النفوذ الأجنبى فى مصر. (أسوان ٢٢) ( )
(٢) أعاد الخديو توفيق فى بداية حكمه العمل باللائحة الأساسية لمجلس النواب. ( )
(٣) اقتصرت أسباب الثورة العرابية على الجانب العسكرى. ( )
(٤) أدت حركة الجيش فى منتصف يناير ١٨٨١م إلى إقالة عثمان رفقى. (الشرقية ١٧) ( )
(٥) ظهر الدعم الشعبى لأول مرة للعرابيين فى حادثة قصر النيل. ( )
(٦) أهدرت اللائحة الأساسية التى أصدرها شريف باشا بعض حقوق مجلس النواب. ( )
(٧) حققت إنجلترا وفرنسا هدفهما من إرسال المذكرة المشتركة الأولى. ( )
(٨) ساعدت الظروف الدولية على فشل الثورة العرابية. (الإسكندرية ٢٠) ( )

٣ اكتب ما تشير إليه كل عبارة من العبارات الآتية :

(١) الاستيلاء على أرض الغير بالقوة. (أسيوط ٢٣) (.....)
(٢) معركة استشهد فيها الضابط محمد عبيد ومعظم قواته بعد قتال
مع القوات البريطانية. (الإسكندرية ٢٠) (.....)
(٣) الجزيرة التى نُفى إليها أحمد عرابى ورفاقه. (.....)

٤ من هو ...؟

(١) ناظر الجهادية الذى عزله توفيق بعد حادثة قصر النيل. (بورسعيد ٢٢) (.....)
(٢) اضطر لتقديم استقالته لإصرار مجلس النواب على مناقشة الميزانية
فبراير ١٨٨٢م. (ج. سيناء ١٧) (.....)
(٣) شكل وزارة الثورة فى فبراير ١٨٨٢م. (الدقهلية ١٧) (.....)
(٤) أراد تعطيل الملاحة فى قناة السويس عام ١٨٨٢م. (.....)
(٥) أصدر أمرًا بعزل عرابى من وزارة الحربية يوليو ١٨٨٢م. (.....)

٥ بم تفسر ... ؟

(١) رضوخ الخديو توفيق للنفوذ الأجنبى منذ بداية حكمه.
.....

(٢) قيام الثورة العرابية. (سوهاج ٢٤)

.....

(٣) إرسال إنجلترا وفرنسا المذكرة المشتركة الأولى فى يناير ١٨٨٢م. (البحر الأحمر ٢٣)

.....

(٤) إرسال إنجلترا وفرنسا المذكرة المشتركة الثانية فى مايو ١٨٨٢م. (الإسكندرية ١٧)

.....

(٥) الصدام بين عرابى والخديو توفيق بعد احتلال الإنجليز مدينة الإسكندرية. (بنى سويف ٢٢)

.....

(٦) فشل الثورة العرابية رغم صدق أهدافها.

.....

٦ ما النتائج التى ترتبت على ... ؟

(١) حادثة قصر النيل فى منتصف يناير ١٨٨١م. (ش. سيناء ٢٥)

.....

(٢) مظاهرة عابدين ٩ سبتمبر ١٨٨١م. (الإسكندرية ٢٥)

.....

(٣) إصرار مجلس النواب أثناء وزارة شريف باشا على مناقشة الميزانية. (القليوبية ٢٤)

.....

(٤) اكتشاف مؤامرة الضباط الشراكسة لاغتيال عرابى والضباط الوطنيين عام ١٨٨٢م. (أسوان ٢٢)

.....

(٥) الخلاف الذى وقع بالإسكندرية فى ١١ يونيه ١٨٨٢م بين أحد الأجانب والمصريين. (الدقهلية ٢٠)

.....

(٦) عقد مؤتمر الآستانة «بالنسبة للمسألة المصرية». (دمياط ٢٣)

.....

(٧) تواطؤ ديليسبس مع قيادة الجيش الإنجليزى ضد عرابى. (الإسكندرية ٢٢)

.....

(٨) إصدار السلطان العثمانى منشورًا بإعلان عصيان أحمد عرابى. (الإسكندرية ٢٤)

.....

٧ ماذا كان يحدث إذا ... ؟

(١) رفض الخديو توفيق مطالب الوطنيين فى ٩ سبتمبر ١٨٨١م. (ج. سيناء ١٨)

.....

(٢) نجح عرابى فى إقامة الاستحكامات فى الإسماعيلية مثل كفر الدوار.

.....

(٣) انتصر أحمد عرابى فى معركة التل الكبير. (القليوبية ٢٥)

.....

٨ دلل تاريخيًا على صحة كل عبارة مما يأتى :

(١) احتفاظ الخديو توفيق بالعرش يفوق اهتمامه باستقلال مصر. (الغربية ٢٠)

.....

(٢) كانت حادثة قصر النيل أولى الخطوات لتمكين العرابيين من السيطرة على الجيش. (بنى سويف ٢٠)

.....

٩ ما رأيك فى :

مطالبة العديد من أنصار عرابى بالاستسلام للقوات البريطانية بعد معركة التل الكبير؟ (القاهرة ١٧)

.....

١٠ حدد العلاقة بين :

(١) مظاهرة عابدين، والحياة النيابية فى مصر.

.....

(٢) إدارة شركة قناة السويس، وفشل الثورة العرابية. (الأقصر ٢٤)

.....

(٣) تولى عثمان رفقى ناظرًا للجهادية، واندلاع الثورة العرابية. (الدقهلية ٢٥)

.....

١١ قارن بين :

(١) معركة كفر الدوار، ومعركة التل الكبير، من حيث النتائج.

.....

.....

(٢) المذكرة المشتركة الأولى يناير ١٨٨٢م، والمذكرة المشتركة الثانية مايو ١٨٨٢م، من حيث المطالب. (السويس ٢٥)

.....

.....

١٢ رتب الأحداث التاريخية الآتية من القديم إلى الحديث :

(.....) دخول البريطانيين القاهرة. (.....) تشكيل وزارة البارودى.

(.....) المذكرة المشتركة الأولى. (.....) محاكمة زعماء الثورة العرابية.

(.....) حادثة قصر النيل.

أسئلة للتميز

١٣ اختر الإجابة الصحيحة مما بين القوسين :

(١) تقدم ضباط الجيش بشكوى ضد عثمان رفقى بسبب .....

(سوء الأحوال الاقتصادية - حرمانهم من حقوقهم - تأثرهم بالأفكار الغربية - زيادة التدخل الأجنبى)

(٢) عادت الحياة النيابية بمصر فى عهد الخديو توفيق بعد .....

(مظاهرة عابدين - حادثة قصر النيل - المذكرة المشتركة الأولى - تولى رياض الوزارة)

(٣) ظهر التناقض بين وزارة البارودى ووزارة شريف باشا فى ..... (مناقشة الميزانية وإقرارها - تشكيل مجلس النواب - مسئولية الوزارة أمام البرلمان - تأييد الحكم المطلق)

(٤) حدث فراغ فى منصب الوزارة بعد ..... (احتلال مدينة الإسكندرية - إرسال المذكرة المشتركة الثانية - استقالة راغب باشا - معركة كفر الدوار)

(٥) نستنتج من الخريطة المقابلة .....

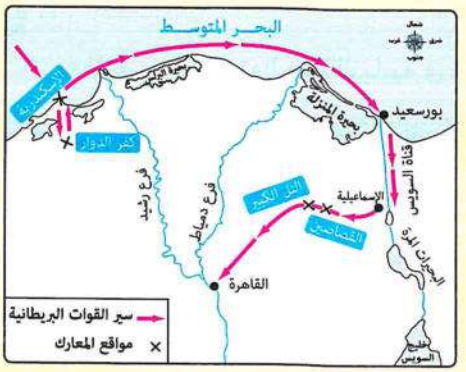

(انسحاب الإنجليز من مدينة الإسكندرية - فشل الإنجليز فى دخول القاهرة من غرب الدلتا - انتهاء مقاومة المصريين بعد معركة القصاصين - التفوق الإنجليزى فى معركة كفر الدوار)

(٦) اختلفت مقاومة العرابيين للإنجليز فى معركة التل الكبير عن معركة كفر الدوار من حيث .....

(الروح المعنوية للجنود - كفاءة المعدات الحربية - موقف الخديو مع العرابيين - كفاءة القوات الإنجليزية)

(٧) تم الاحتلال البريطانى لأول مدينة مصرية فى عهد وزارة .....

(البارودى - رياض - شريف - راغب)

(٨) أخطأ قادة الثورة العرابية حينما .....

(صمموا على مقاومة المعتدين - أنشأوا استحكامات فى كفر الدوار - رفضوا تنفيذ أوامر الخديو - اعتمدوا على عهود إدارة القناة)

١٤ استنتج السبب فيما يلى : إصدار الخديو توفيق قرار بعزل عرابى من وزارة الحربية يوليو ١٨٨٢م.

.....

.....

امتحان ؟ على الدرس الثانى

١ (أ) اختر الإجابة الصحيحة مما بين القوسين :

(١) اضطهاد عثمان رفقى ناظر الجهادية فى عهد توفيق للضباط المصريين وعدم ترقيتهم يتناقض مع إصلاحات ..... فى هذا المجال.

(سعيد باشا - عباس الأول - محمد على - الخديو إسماعيل) (الشرقية ٢٤)

(٢) نجحت مظاهرة عابدين ٩ سبتمبر ١٨٨١م فى إقالة وزارة .....

(عثمان رفقى - شريف - البارودى - رياض) (ش. سيناء ٢٣)

(٣) فى مايو ١٨٨٢م طالبت كل من بريطانيا و ..... إقالة وزارة البارودى.

(الدولة العثمانية - فرنسا - روسيا - الحركة الوطنية)

(٤) كانت ..... المحطة التالية للقوات البريطانية بعد مدينة القصاصين.

(الإسكندرية - القاهرة - التل الكبير - كفر الدوار)

(ب) ما العلاقة بين : السلطان العثمانى، ومعركة التل الكبير؟

(جـ) حدد وجه الاختلاف بين الأثر الناتج عن :

تأثير أمر الخديو توفيق بعزل عرابى من وزارة الحربية يوليو ١٨٨٢م، وتأثير فرمان السلطان العثمانى بعصيان عرابى.

---

٢ (أ) صوب ما تحته خط :

(١) طالب العرابيون بزيادة عدد الجيش خلال حادثة قصر النيل.

(٢) عُرفت وزارة رياض باشا بوزارة الثورة فبراير ١٨٨٢م.

(ب) دلل تاريخيًا على صحة كل عبارة مما يأتى :

(١) خالفت إنجلترا الاتفاقيات الدولية عام ١٨٨٢م (بالنسبة لقناة السويس).

(٢) أثرت الحركة الوطنية على قرارات كل من الخديو إسماعيل فى نهاية حكمه والخديو توفيق فى بداية حكمه.

(٣) تهيأت الظروف لبريطانيا لتحقيق أطماعها فى مصر يونيه ١٨٨٢م. (القليوبية ٢٥)

(جـ) حدد الأثر الناتج عن : رغبة شريف باشا فى تأجيل مناقشة المجلس للميزانية.

الدرس
الثالث

الكفاح الوطنى ضد الاحتلال البريطانى

فى هذا الدرس سندرس

مصر تحت الاحتلال البريطانى

الكفاح الوطنى ضد الاحتلال البريطانى



مصر تحت الاحتلال البريطانى

* تعرفنا من الدرس السابق كيف نجحت بريطانيا فى احتلال مصر بحجة :
  - حماية الخديو وتدعيم سلطته.
  - تأمين حياة الأجانب ومصالحهم.
  - القضاء على الثورة العرابية.

* عمل الإنجليز منذ احتلالهم لمصر على فرض سيطرتهم على البلاد، ويتضح ذلك فيما يلى :

الحكم والإدارة

(١) السلطة الفعلية : أصبحت للمعتمد البريطانى (ممثل سلطة الاحتلال فى مصر).

(٢) سلطة الخديو : انحصرت فى التصديق على قرارات سلطات الاحتلال.

الحياة النيابية

ألغت سلطات الاحتلال مجلس النواب الذى انتخب عام ١٨٨١م، وأنشأت مجالس صورية لا سلطة لها، تتمثل فى : مجلس شورى القوانين والجمعية العمومية، ثم أُنشئت الجمعية التشريعية.

الجيش

أنشأ الإنجليز جيشًا مصريًا لا يتجاوز عدده ستة آلاف جندى يتولى قيادته ضابط إنجليزى، وانحصرت مهمة هذا الجيش فى إقرار الأمن وحفظ النظام.

الاقتصاد

عملت بريطانيا على فرض سياسة اقتصادية تخدم مصالحها **دلل؟** حيث قامت بـ :
- التوسع فى زراعة القطن لتوفير المادة الخام اللازمة للمصانع البريطانية.
- محاربة الصناعة المصرية بتسويق المنتجات البريطانية والأجنبية فى السوق المصرية.

وقد ترتب على هذه السياسة ظهور طبقة من كبار الملاك والأعيان تستفيد من هذه السياسة، ويرتبط نموها الاقتصادى باستمرار بقاء الاحتلال.

التعليم

أهمل الاحتلال البريطانى التعليم **دلل؟**

حيث جعله بمصروفات مرتفعة وحصره فى فئة قليلة وذلك بهدف تخريج مجموعة من الموظفين للعمل فى الإدارات والمصالح الحكومية.

التدريب الأول

١ اكتب كلمة (صواب) أمام العبارة الصحيحة، وكلمة (خطأ) أمام العبارة غير الصحيحة، مع التصويب :

(١) أنشأ الاحتلال البريطانى جيش مصرى قليل العدد بقيادة ضابط مصرى. ☐

(٢) أهمل الاحتلال البريطانى التعليم وجعلوه بمصروفات مرتفعة. ☐

(٣) انحصرت سلطة الخديو فى التصديق على قرارات سلطة الاحتلال البريطانى. ☐

٢ اختر الإجابة الصحيحة مما بين القوسين :

(١) أصبحت السلطة الفعلية لمصر بعد الاحتلال البريطانى فى يد .....

(الخديو - السلطان العثمانى - المعتمد البريطانى - رئيس الوزراء)

(٢) توسع الاحتلال البريطانى بمصر فى زراعة ..... اللازم للمصانع البريطانية.

(الكتان - القطن - القمح - قصب السكر)

(٣) استفادت بعض فئات المجتمع المصرى من وجود الاحتلال البريطانى بالبلاد ومنهم .....

(الفلاحين - الحرفيين - كبار ملاك الأراضى - عمال الصناعة)

٣ ما العلاقة بين : الاحتلال البريطانى، والحياة النيابية فى مصر؟

.....

.....

٤ دلل تاريخيًا على صحة العبارة : تعددت الحجج التى اتخذتها إنجلترا لاحتلال مصر.

.....

.....

٥ ما تقييمك لمصداقية العبارة التالية :

ازدهرت الصناعة المصرية خلال عهد الاحتلال البريطانى ؟

.....

.....

الكفاح الوطنى ضد الاحتلال البريطانى

* استمر المصريون فى مواصلة الكفاح ضد الاحتلال البريطانى ومواجهة الحكام المستبدين من أسرة محمد على **من أجل :**
  - تحقيق الاستقلال.
  - إقامة حكومة دستورية.
* ظهر زعماء وطنيون حملوا لواء الكفاح الوطنى، **مثل :**
  مصطفى كامل، ومحمد فريد،

وفيما يلى سنتعرف كفاح كل منهما بشىء من التفصيل.

مصطفى كامل باعث الحركة الوطنية


مصطفى كامل

* وُلد مصطفى كامل عام ١٨٧٤م.
* قاد الزعيم الوطنى مصطفى كامل الحركة الوطنية فى أواخر القرن **التاسع عشر الميلادى**، وكانت سلطات الاحتلال البريطانى **قد تمكنت من :**
  - إحكام قبضتها على البلاد.
  - إشاعة روح اليأس فى نفوس المصريين.
* **تمثل كفاح مصطفى كامل وتحركاته فى اتجاهين :**

١ كفاح مصطفى كامل داخل مصر دلل ؟ حيث :

- وجه خطبه ومقالاته للمصريين فكانت **بمثابة :**
  - الحث على التمسك بالوحدة الوطنية والإخلاص لمصر.
  - محاربة اليأس واستثارة روح الكرامة فى نفوسهم.
- طالب بالدستور.
- أسس جريدة اللواء **عام** ١٩٠٠م.
- أعلن تأسيس الحزب الوطنى رسميًا **عام** ١٩٠٧م.
- دعا إلى إنشاء الجامعة المصرية، والتى أُنشئت **عام** ١٩٠٨م «جامعة القاهرة حاليًا».

معلومة إثرائية

*** من الأقوال المأثورة لمصطفى كامل :**
- «لا معنى للحياة مع اليأس ولا معنى لليأس مع الحياة».
- «إن من يتسامح فى حقوق بلاده ولو مرة واحدة بقى أبد الدهر مزعزع العقيدة سقيم الوجدان».


جامعة القاهرة

٢ كفاح مصطفى كامل خارج مصر دلل ؟ حيث :

- دعا إلى رفض اتفاقية الحكم الثنائى للسودان (بين مصروبريطانيا) التى عقدت فى يناير ١٨٩٩م.
- عرَّف الرأى العام الأوروبى والقوى الدولية وفى مقدمتها فرنسا بحق مصر فى الاستقلال ورفضها للاحتلال وسياساته، وقد تخلت فرنسا عن مساندة مصطفى كامل بعقدها الاتفاق الودى مع إنجلترا عام ١٩٠٤م.
- استغل مصطفى كامل حادثة دنشواى عام ١٩٠٦م فى التنديد بالاحتلال البريطانى وسياسته القمعية مما أدى إلى استقالة اللورد كرومر (أول وأقوى معتمد بريطانى فى مصر).

ما المقصود بـ : الاتفاق الودى ؟

اتفاق بين فرنسا وإنجلترا نص على انفراد إنجلترا بحكم مصر مقابل انفراد فرنسا بحكم مراكش (المغرب حاليًا).

معلومة إثرائية حادثة دنشواى :

قام ضباط إنجليز برحلة لصيد الحمام فى قرية دنشواى (إحدى قرى المنوفية) وصرخ أحد الفلاحين محذرًا بعدم إطلاق النار على الحمام حتى لا يحترق جرن القمح، حيث كان وقت حصاد المحصول، ولم يعبأ الضباط وأصروا على إطلاق الرصاص فقتلوا امرأة، فطارد الأهالى الضباط ومات أحدهم من ضربة شمس، لكن الإدارة البريطانية انتقمت أشد الانتقام وأحالت ٥٢ متهمًا للمحاكمة فضلًا عن محاكمة سبعة غيابيًا وانتهت المحاكمة الصورية بشنق أربعة وجلد خمسة ومعاقبة اثنى عشر بالأشغال الشاقة لمدد متفاوتة.

* توفى مصطفى كامل عام ١٩٠٨م وخلفه فى زعامة الحزب الوطنى رفيقه فى الكفاح محمد فريد.

محمد فريد



محمد فريد

* تولى محمد فريد رئاسة الحزب الوطنى فى ظروف صعبة دلل ؟ حيث تحول الخديو عباس حلمى الثانى عن مؤازرة «تأييد» الحركة الوطنية إلى موالاة الاحتلال، لذلك اتجه محمد فريد إلى الجهاد ضد الاحتلال البريطانى والخديو فى وقت واحد، والمطالبة بـ : • الجلاء. • الدستور.



الخديو عباس حلمى الثانى
فترة حكمه من (١٨٩٢م : ١٩١٤م)

كفاح محمد فريد

* ظل محمد فريد يجاهد لتحقيق مطالبه دلل ؟ حيث :
  - طالب بإنشاء مجلس نيابى له سلطات واسعة.
  - طالب بإنشاء نقابات للعمال.
  - دعا إلى إنشاء مدارس الشعب الليلية لتعليم العمال والفقراء مجانًا.
  - دعا إلى جعل التعليم إلزاميًا وبالمجان فى المرحلة الابتدائية.
  - نجح بتأييد من الرأى العام فى إجبار الحكومة المصرية على دعوة مجلس شورى القوانين والجمعية العمومية لمناقشة طلب شركة قناة السويس فى مد الامتياز أربعين عامًا أخرى، وأدى ذلك إلى رفض الحكومة المصرية طلب الشركة.

* توفى محمد فريد فى نوفمبر ١٩١٩م.

التدريب الثانى

١ دلل على صحة كل عبارة مما يأتى :

(١) لم تقتصر أعمال مصطفى كامل داخل مصر على الجانب السياسى.

.....

(٢) كان الاتفاق الودى ضربة قوية للحركة الوطنية فى مصر.

.....

(٣) استفاد محمد فريد من الدعم الشعبى فى كفاحه ضد مد امتياز شركة قناة السويس.

.....

٢ ما العلاقة بين ... ؟

(١) حادثة دنشواى عام ١٩٠٦م، واللورد كرومر.

.....

.....

(٢) محمد فريد، وحقوق العمال المصريين.

.....

.....

٣ فسر: استمر المصريون فى مواصلة الكفاح ضد الاحتلال البريطانى لمصر ومواجهة الحكام المستبدين من أسرة محمد على.

.....

.....

٤ ما الآثار الناتجة عن : كفاح مصطفى كامل ضد الاحتلال البريطانى خارج مصر ؟

.....

.....

٥ ما تقييمك لمصداقية العبارة الآتية :

أثرت موالاة السلطة الحاكمة فى مصر لسلطات الاحتلال البريطانى على كفاح محمد فريد ؟

.....

أهم نقاط الدرس

سياسة الاحتلال البريطانى فى مصر

الحكم والإدارة

أصبحت السلطة الفعلية للمعتمد البريطانى وانحصرت سلطة الخديو فى التصديق على قرارات سلطات الاحتلال.

الحياة النيابية

ألغى مجلس النواب وأنشأ مجالس صورية لا سلطة لها، مثل : مجلس شورى القوانين والجمعية العمومية ثم الجمعية التشريعية.

الجيش

أنشأ جيشًا لا يتجاوز ستة آلاف جندى بقيادة ضابط إنجليزى.

الاقتصاد

فرض سياسة اقتصادية تخدم مصالحه فتوسع فى زراعة القطن وحارب الصناعة المصرية.

التعليم

أهمله وجعله بمصروفات مرتفعة وحصره فى فئة قليلة.

الكفاح الوطنى ضد الاحتلال البريطانى

كفاح مصطفى كامل

داخل مصر

- وجه خطبه ومقالاته لتحث على الوحدة الوطنية ومحاربة اليأس.
- طالب بالدستور.
- أسس جريدة اللواء عام ١٩٠٠م.
- أعلن تأسيس الحزب الوطنى رسميًا عام ١٩٠٧م.
- دعا إلى إنشاء الجامعة المصرية التى أنشئت عام ١٩٠٨م.

خارج مصر

- دعا إلى رفض اتفاقية الحكم الثنائى للسودان عام ١٨٩٩م.
- عرَّف الرأى العام الأوروبى والقوى الدولية وفى مقدمتها فرنسا بحق مصر فى الاستقلال ولكن تخلت عنه فرنسا بعد عقدها الاتفاق الودى مع إنجلترا عام ١٩٠٤م.
- استغل حادثة دنشواى عام ١٩٠٦م فى التنديد بالاحتلال البريطانى مما أدى إلى استقالة اللورد كرومر.

كفاح محمد فريد

* طالب بإنشاء مجلس نيابى له سلطات واسعة.
* طالب بإنشاء نقابات للعمال.
* دعا إلى إنشاء مدارس الشعب الليلية لتعليم العمال والفقراء مجانًا.
* دعا إلى جعل التعليم إلزاميًا وبالمجان فى المرحلة الابتدائية.
* أجبر الحكومة المصرية على رفض مد امتياز قناة السويس أربعون عامًا أخرى.

أسئلة ؟ على الدرس الثالث



أسئلة تفاعلية

• تذكر • فهم • تطبيق مستويات عليا

١ اختر الإجابة الصحيحة مما بين القوسين :

(١) نجحت بريطانيا فى احتلالها لمصر بحجة أنها تقوم بـ .....

(تنظيم تسديد الديون - حماية عرش الخديو - حماية المصريين - تنفيذ أوامر السلطان)

(٢) كان هدف إنجلترا الأساسى من احتلال مصر ..... (دعم سلطة الخديو - حماية مصالح الأجانب - القضاء على نفوذ فرنسا - دعم مصالحها الاقتصادية)

(٣) الطبقة الاجتماعية التى استفادت من سياسة الاحتلال البريطانى لمصر وارتبط نموها الاقتصادى ببقائه هى طبقة ..... (الأعيان - العلماء - الصناع - الشراكسة) (بنى سويف ٢٥)

(٤) تُعد أكثر الصناعات الإنجليزية التى استفادت من احتلال بريطانيا لمصر الصناعات .....

(التعدينية - النسيجية - الغذائية - الخشبية)

(٥) اعتمد مصطفى كامل فى كفاحه داخل مصر ضد الإنجليز على .....

(إيقاظ وعى المصريين - دعم فرنسا له - دعم السلطان العثمانى - حشد القوى العسكرية)

(٦) استقال اللورد كرومر أول معتمد بريطانى فى مصر عقب .....

(الاتفاق الودى - مؤتمر الآستانة - حوادث الإسكندرية - حادثة دنشواى) (بورسعيد ٢٤)

(٧) فضلت فرنسا مصلحتها وتخلت عن مساندة مصطفى كامل بعد ..... (الشرقية ٢٢)

(حادثة دنشواى - اتفاقية الحكم الثنائى للسودان - حوادث الإسكندرية - الاتفاق مع الإنجليز)

(٨) خاض محمد فريد صراعًا مزدوجًا ضد كل من ..... (دمياط ٢٢)

(الإنجليز وتوفيق - الأتراك وتوفيق - الإنجليز وعباس حلمى الثانى - الفرنسيين وعباس حلمى الأول)

(٩) استطاع محمد فريد أن يؤثر على السلطة التنفيذية المصرية فى مسألة مد امتياز قناة السويس من خلال .....

(الضغط الشعبى - دعم السلطان العثمانى - مساعدة الفرنسيين - مساعدة الإنجليز)

٢ أعد كتابة العبارات الآتية بعد تصويب ما بها من أخطاء :

(١) عقب الاحتلال الإنجليزى لمصر، أصبحت السلطة الفعلية فى يد الخديو. (البحر الأحمر ٢٤)

.....

(٢) قررت سلطات الاحتلال البريطانى إعادة تكوين الجيش المصرى على أن يكون بقيادة الخديو.

.....

(٣) فرضت سلطات الاحتلال البريطانى سياسة اقتصادية تهدف إلى النهوض بالمجتمع المصرى.

.....

(٤) دعا مصطفى كامل أن يكون التعليم إلزاميًا وبالمجان فى المرحلة الابتدائية.

.....

٣ اكتب ما تشير إليه كل عبارة من العبارات الآتية :

(١) محصول توسعت سلطات الاحتلال البريطانى فى زراعته بمصر لتوفير المادة الخام اللازمة للمصانع البريطانية. (الشرقية ٢٠) (.....)

(٢) فئة من الشعب المصرى ارتبط نموها الاقتصادى باستمرار بقاء الإنجليز فى البلاد. (القليوبية ٢٣) (.....)

(٣) اتفاق نص على انفراد إنجلترا بحكم مصر مقابل انفراد فرنسا بحكم مراكش (المغرب حاليًا) عام ١٩٠٤م. (سوهاج ٢٤) (.....)

(٤) حادثة استغلها مصطفى كامل للتنديد بالاحتلال البريطانى وسياسته القمعية فى مصر عام ١٩٠٦م. (الإسكندرية ٢٠) (.....)

٤ إلى من تنسب الأعمال التاريخية الآتية ... ؟

(١) دعا إلى رفض اتفاقية الحكم الثنائى للسودان يناير ١٨٩٩م. (أسيوط ٢٠) (.....)

(٢) أسس جريدة اللواء عام ١٩٠٠م. (الوادى الجديد ٢٤) (.....)

(٣) طالب بإنشاء مجلس نيابى له سلطات واسعة عقب توليه رئاسة الحزب الوطنى بعد وفاة مصطفى كامل. (القليوبية ٢٠) (.....)

(٤) الخديو الذى تحول عن مؤازرة الحركة الوطنية إلى موالاة الاحتلال أوائل القرن الـ ٢٠م. (بورسعيد ١٩) (.....)

٥ بم تفسر... ؟

(١) تدهور الحياة النيابية بمصر عقب الاحتلال البريطانى.

.....

(٢) تدهور أحوال التعليم فى مصر خلال عهد الاحتلال البريطانى. (السويس ٢٠)

.....

(٣) اتصال مصطفى كامل بالقوى الدولية.

.....

(٤) تخلى فرنسا عن مساندة مصطفى كامل عام ١٩٠٤م. (القاهرة ٢٥)

.....

(٥) دعوة محمد فريد لإنشاء مدارس الشعب الليلية.

.....

٦ ما النتائج التى ترتبت على ... ؟

(١) السياسة الاقتصادية للاحتلال البريطانى فى مصر. (أسيوط ٢٥)

.....

(٢) تنديد الزعيم مصطفى كامل بحادثة دنشواى عام ١٩٠٦م. (المنوفية ٢٣)

.....

(٣) معارضة محمد فريد مشروع مد امتياز قناة السويس أربعين سنة أخرى.

.....

٧ دلل تاريخيًا على صحة كل عبارة مما يأتى :

(١) اتخذت بريطانيا عدة مبررات لاحتلال مصر. (بورسعيد ٢٣)

.....

(٢) عملت بريطانيا على إضعاف الجيش المصرى بعد احتلال مصر سبتمبر ١٨٨٢م. (بنى سويف ٢٠)

.....

(٣) فرضت سلطات الاحتلال البريطانى فى مصر سياسة اقتصادية تخدم مصالحه. (دمياط ٢٤)

.....

(٤) تولى مصطفى كامل الحركة الوطنية بعد أن أحكم الاحتلال قبضته على البلاد.

.....

(٥) الاتفاق الودى عام ١٩٠٤م لا يعبر إلا عن المصالح الاستعمارية. (دمياط ٢٥)

.....

٨ من أقوال مصطفى كامل : «*لا معنى للحياة مع اليأس ولا معنى لليأس مع الحياة*» . فى ضوء ذلك، وضح :

(١) جهود مصطفى كامل الداخلية للتخلص من الاحتلال البريطانى.

.....

(٢) جهود مصطفى كامل الخارجية لجلاء الاحتلال عن مصر.

.....

٩ «*عمل الإنجليز منذ احتلالهم لمصر على فرض سيطرتهم على البلاد*» . فى ضوء ذلك، وضح :

(١) الدور الوطنى لمحمد فريد فى الحركة الوطنية المصرية. (بنى سويف ٢٢)

.....

(٢) ماذا كان يحدث إذا : لم يتحول الخديو عباس حلمى الثانى عن تأييد الحركة الوطنية إلى موالاة الاحتلال. (البحيرة ١٧)

.....

أسئلة للتميز

١٠ اختر الإجابة الصحيحة مما بين القوسين :

(١) عملت سلطات الاحتلال البريطانى فى مصر على إشاعة روح اليأس فى نفوس المصريين بهدف .....

(تدمير التعليم - حماية الأقليات - إضعاف المقاومة - تدعيم الخديو)

(٢) تم توقيع اتفاقية الحكم الثنائى للسودان عام ١٨٩٩م خلال عهد .....

(الخديو إسماعيل - الخديو توفيق - الخديو عباس حلمى الثانى - السلطان حسين كامل)

١١ استنتج السبب فى :

(١) ظهور الطبقية المجتمعية فى التعليم بمصر خلال عهد الاحتلال البريطانى.

.....

(٢) تأثر كفاح مصطفى كامل بالسلب بالمصالح والعلاقات الدولية.

.....

١٢ حدد الأثر الاجتماعى الناتج عن : سياسة بريطانيا التى طبقتها فى الزراعة بمصر.

.....

١٣ ما تقييمك لمصداقية كل عبارة من العبارات الآتية ... ؟

(١) استخدم مصطفى كامل سلاح التعليم فى مواجهة الاحتلال.

.....

(٢) حدث تصادم بين السلطتين الفعلية والشرعية خلال كفاح محمد فريد.

.....

(٣) كان كفاح محمد فريد عاملًا مؤثرًا فى نجاح ممثلى الحياة النيابية المصرية فى تأدية واجبهم.

.....

(٤) كان لمحمد فريد دور ثقافى مهم فى المجتمع المصرى.

.....

امتحان ؟ على الدرس الثالث

١ (أ) اختر الإجابة الصحيحة مما بين القوسين :

(١) ناقش مجلس شورى القوانين والجمعية العمومية طلب شركة قناة السويس بمد الامتياز أربعين عامًا بناءً على طلب .....

(زعماء الشعب - الحكومة الفرنسية - الحكومة المصرية - الخديو)

(٢) أعلن مصطفى كامل تأسيس ..... رسميًا عام ١٩٠٧م.

(الحزب الوطنى - مدارس الشعب الليلية - نقابات للعمال - جريدة اللواء)

(٣) من وسائل كفاح مصطفى كامل داخل مصر .....

(رفض اتفاقية الحكم الثنائى - تأسيس الصحف الوطنية - استغلال حادثة دنشواى - الاتصال بالقوى الدولية)

(٤) قاد الحركة الوطنية ضد الاحتلال البريطانى فى أواخر القرن الـ ١٩م ومطلع القرن الـ ٢٠م ..... (أحمد عرابى - مصطفى كامل - محمد عبيد - عبدالله النديم)

(٥) توسع الاحتلال البريطانى بمصر فى زراعة ..... اللازم للمصانع البريطانية.

(الكتان - القطن - القمح - قصب السكر)

(ب) ما المقصود بـ : الاتفاق الودى ؟

(جـ) ما تقييمك لـ : سياسة الاحتلال البريطانى الاقتصادية فى مصر ؟

---

٢ (أ) فى عهد أى من حكام مصر حدث ما يلى ... ؟

(١) رفض طلب شركة قناة السويس بمد الامتياز أربعين عامًا أخرى.

(٢) إلغاء مجلس النواب المنتخب عام ١٨٨١م وإنشاء مجلس شورى القوانين.

(٣) إنشاء الجامعة المصرية عام ١٩٠٨م. (القليوبية ٢٤)

(ب) دلل على صحة العبارة الآتية :

أخلت سياسة الاحتلال البريطانى بمطالب الوطنيين خلال مظاهرة عابدين (من ناحية الجيش).

(جـ) حدد أوجه الشبه بين :

دور مصطفى كامل ، ومحمد فريد بالنسبة للتعليم. (الدقهلية ٢٤)

الدرس

الرابع

مصر من الحماية البريطانية حتى ثورة يوليو ١٩٥٢م



* مـرت مصر بمراحـل من الصدام بـين الحركة الوطنية وسـلطات الاحتـلال البريطانى منذ عـام ١٩١٤م حتى قيام ثورة يوليو ١٩٥٢م.

ثـورة ١٩١٩م

مقدمات ثورة ١٩١٩م

* فى نوفمـبر ١٩١٨م عقب انتهاء الحرب العالمية الأولى، تألف وفد مصرى من أعضاء الجمعية التشـريعية برئاسـة سعد زغلول ، ومعه آخرون توجهوا لمقابلة المندوب السـامى البريطانى فى مصر (السـير ونجت)

بم تفسر ؟ للمطالبة بـ :

- إلغاء الحماية البريطانية (التى أعلنتها بريطانيا على مصر فى ديسمبر ١٩١٤م).
- إنهاء الأحكام العرفية(*).
- إلغاء الرقابة على الصحف والمطبوعات.
- الاستقلال التام.
- السماح لهم بالسفر إلى باريس لعرض المطالب الوطنية على مؤتمر الصلح هناك.

ما المقصود بـ : الحماية البريطانية ؟

خضوع مصر المطلق للاحتلال البريطانى.

* **الصدام بين أعضاء الوفد وسلطات الاحتلال :**

- اعترض المندوب السـامى البريطانى على الصفـة التى تعطى أعضاء الوفد حق التحدث باسـم الأمة، ولذلك بدأت فكرة جمع التوكيلات(**) من الأمة للوفد المصرى، للسعى إلى استقلال مصـر استقلالاً تامًا، ونتيجة لذلك أصبح الوفد المصرى بزعامة سعد زغلول يمثل الأمة.
- رفضت سلطات الاحتلال البريطانى مطالب الوفد المصرى، وقامت بالقبض على سعد زغلول وزملائه ونفيهم إلى جزيرة مالطة فى مارس ١٩١٩م وكان ذلك سببًا فى إشعال ثورة ١٩١٩م، ولكن هناك عوامل أخرى أسهمت فى قيامها.

أهم عوامل قيـام ثورة ١٩١٩م بم تفسر ؟ بسبب :

* ازدياد نمو الوعى الوطنى لدى المصريين من أجل الاستقلال.
* الإجراءات العنيفة التى اتخذتها سلطات الاحتلال أثناء الحرب العالمية الأولى (١٩١٤م : ١٩١٨م).
* ادعاء إنجلترا وحلفائها بأنها تحارب من أجل حرية الشعوب واستقلالها.
* إعلان الرئيس الأمريكى ولسن المبادئ الأربعة عشر ومنها حق الشعوب فى تقرير مصيرها.

(*) الأحكام العرفية : نظام استثنائى يفرض فى حالة الأزمات الطارئة واختلال الأمن وتقرر فيه حالة الطوارئ ومنع التجول وتمنح فيه السلطة التنفيذية سلطات واسعة مثل ما طبقته إنجلترا أثناء الحرب العالمية الأولى فى مصر.

(**) التوكيلات : هى عرائض وقعها المصريون وفوضوا فيها سعد زغلول والوفد بالتحدث باسم الأمة.



أحداث ثورة ١٩١٩م

* اندلعت الثورة فى القاهرة وامتدت إلى كافة المدن والأقاليم.
* شارك فى الثورة جميع فئات وعناصر الشعب المصرى.

مما يؤكد على الوحدة الوطنية بين أبناء الأمة المصرية.

نتائج ثورة ١٩١٩م

قيام الحكومة البريطانية بـ:

- عزل السير ونجت (المندوب السامى البريطانى) وتعيين الجنرال اللنبى.
- الإفراج عن سعد زغلول ورفاقه فى أبريل ١٩١٩م والسماح لهم بالسفر إلى باريس لعرض قضية استقلال مصر على مؤتمر الصلح.

الوفد المصرى فى باريس

* صُدم أعضاء الوفد المصرى بعد وصولهم إلى باريس **بم تفسر؟** بسبب اعتراف كل من الدول الموجودة بالمؤتمر والرئيس الأمريكى ولسن بالحماية البريطانية على مصر مما أصاب أعضاء الوفد المصرى بإحباط كبير.

التدريب الأول

١ اكتب كلمة (صواب) أمام العبارة الصحيحة ، وكلمة (خطأ) أمام العبارة غير الصحيحة، مع ذكر السبب فى الحالتين :

(١) رفضت سلطات الاحتلال البريطانى مطالب الوفد المصرى عقب انتهاء الحرب العالمية الأولى. ☐

(٢) اقتصرت ثورة ١٩١٩م على القاهرة. ☐

٢ دلل : (١) تناقض موقف الرئيس الأمريكى ولسن من قضايا الاستقلال.

.....

(٢) تعتبر ثورة ١٩١٩م ثورة شعبية شاملة.

.....

٣ ما النتائج التى ترتبت على : قيام ثورة ١٩١٩م ؟

.....

٤ ما العلاقة بين : الحرب العالمية الأولى، وثورة ١٩١٩م ؟

.....

٥ فسر: مقابلة أعضاء الوفد المصرى للمندوب السامى البريطانى (السير ونجت) فى مصر.

.....

المفاوضات المصرية البريطانية (بعد ثورة ١٩١٩م حتى تصريح ٢٨ فبراير ١٩٢٢م)

لجنة ملنر ديسمبر ١٩١٩م

* أرسلت الحكومة البريطانية لجنة برئاسة اللورد ملنر وزير المستعمرات البريطانية إلى مصر لإقناع الشعب المصرى بقبول الحماية البريطانية.

* رفض الشعب المصرى التفاوض مع لجنة ملنر وقاطعها **بم تفسر؟**

لأن تفاوض الشعب مع لجنة ملنر يعنى التنازل عن الوكالة التى أعطاها للوفد المصرى.

مفاوضات سعد - ملنر

* أبدى ملنر استعداده للتفاوض مع الوفد المصرى.

* انتهت المفاوضات بمشروع معاهدة رفضها الشعب بجميع طوائفه **بم تفسر؟**

لأنها كانت ستؤدى إلى استقلال مصر استقلالًا صوريًا.

مفاوضات عدلى - كيرزون مارس ١٩٢١م



عدلى يكن

* تولى عدلى يكن الوزارة فى مارس ١٩٢١م وكان يرجو أن يوفق فى الاتفاق مع البريطانيين على وضع دستور يحقق أمانى ومطالب المصريين ودارت المفاوضات حيث كان :

- أطرافها : عدلى يكن رئيس الحكومة المصرية، وكيرزون وزير خارجية بريطانيا.
- نتائجها : فشلت المفاوضات لأنها لم تصل إلى نتيجة مما أدى إلى :

١ استقالة عدلى يكن باشا من الوزارة.

٢ رفض رجال السياسة تشكيل حكومة جديدة.

٣ القبض على (سعد زغلول) ونفيه للمرة الثانية إلى جزيرة سيشل(*) مما ترتب عليه تجدد ثورة المصريين ومقاطعة الشعب المصرى البضائع الإنجليزية، مما اضطر الحكومة البريطانية للإفراج عن سعد زغلول.

ولتهدئة الأوضاع قامت بريطانيا بإصدار تصريح ٢٨ فبراير ١٩٢٢م.

(*) تم نفى سعد زغلول للمرة الثانية إلى جزيرة سيشل بسبب دوره فى عرقلة تشكيل الحكومة الجديدة بعد استقالة عدلى يكن.

تصريح ٢٨ فبراير ١٩٢٢م

* أهم نصوصه :

- الاعتراف بمصر دولة مستقلة ذات سيادة.
- إنهاء الحماية البريطانية على مصر.
- إلغاء الأحكام العرفية.

* بالرغم من اعتراف بريطانيا بمصر دولة مستقلة، إلا أن التصريح لم يحقق للمصريين أمانيهم الوطنية كاملة **بم تفسر؟** لأن بريطانيا احتفظت بعدة أمور (المعروفة بالتحفظات الأربعة) تمثلت فى :

١ تأمين المواصلات البريطانية فى مصر.

٢ الدفاع عن مصر ضد أى اعتداء أو تدخل أجنبى.

٣ حماية المصالح الأجنبية وحماية الأقليات فى مصر.

٤ استمرار أوضاع السودان على ما كانت عليه وفقًا لاتفاقية الحكم الثنائى عام ١٨٩٩م.

ما النتائج التى ترتبت على صدور تصريح ٢٨ فبراير ١٩٢٢م ؟

ترتب على ذلك :

- أعلن السلطان فؤاد نفسه ملكًا على مصر مارس ١٩٢٢م.
- أُعيدت وزارة الخارجية المصرية.
- شكلت وزارة عبدالخالق ثروت باشا لجنة من ثلاثين عضوًا لإعداد الدستور الذى عُرف بدستور ١٩٢٣م.


الملك فؤاد الأول


عبدالخالق ثروت

دستور ١٩ أبريل ١٩٢٣م

* مزايا الدستور :

- كان خطوة فى تقرير مبدأ «الأمة مصدر السلطات».
- وضع نهاية للحكم المطلق.
- قرر مبدأ : – المساواة بين جميع المصريين فى الحقوق والواجبات.
  – احترام الحريات العامة.

* عيوب الدستور : أعطى الملك سلطات واسعة إزاء السلطتين التشريعية والتنفيذية، فكان من حقه حل البرلمان والدعوة لانتخابات جديدة.

وزارة الشعب

* طبقًا لدستور ١٩٢٣م أُجريت الانتخابات العامة فى مصر وحصل حزب الوفد على الأغلبية، وبناءً على ذلك :

- شكل سعد زغلول فى يناير ١٩٢٤م أول وزارة برلمانية عُرفت بـ «وزارة الشعب».
- أُفتتح أول برلمان مصرى فى مارس ١٩٢٤م.

اغتيال السير لى ستاك

* فى ١٩ نوفمبر ١٩٢٤م تم اغتيال «السير لى ستاك» القائد العام للجيش المصرى والحاكم العام للسودان

ما النتائج؟ ترتب على ذلك تقديم المندوب السامى البريطانى اللورد اللنبى إنذاره للحكومة المصرية فى ٢٢ نوفمبر ١٩٢٤م وطلب فيه عدة مطالب منها سحب الجيش المصرى من السودان، **مما أدى إلى :**

- استقالة وزارة سعد زغلول *(لرفضه المطالب)* فى اليوم التالى من الإنذار.
- تأليف وزارة برئاسة زيور باشا (رئيس مجلس الشيوخ)، والتى قبلت المطالب البريطانية.

معلومة إثرائية

فى أغسطس ١٩٢٧م توفى سعد زغلول فخسرت مصر زعيمًا قديرًا ووطنيًا مخلصًا، وخلفه فى زعامة حزب الوفد مصطفى النحاس باشا.

دستور ١٩٣٠م

* فى يونيه ١٩٣٠م شكل إسماعيل صدقى باشا وزارة جديدة، قامت بإلغاء دستور ١٩٢٣م ووضع دستور ١٩٣٠م حيث :

- أعطى الملك مزيدًا من السلطات.
- أهدر سلطة الأمة وحقوقها فى مواضع كثيرة.

* **موقف الشعب من دستور ١٩٣٠م :**

عارض الشعب هذا الدستور، وقام بالعديد من المظاهرات للمطالبة بإلغاء دستور ١٩٣٠م ونتج عن ذلك أن اضطر الملك فؤاد الأول إلى الرضوخ لمطالب الأمة وإعادة دستور ١٩٢٣م.

تعدد الأحزاب

* تعددت الأحزاب فى مصر منذ صدور دستور ١٩٢٣م، ولكن تعددها لم يؤدِّ لإثراء الحياة النيابية **بم تفسر؟** لأنها كانت أداة للقصر الملكى ولبريطانيا لتحقيق مصالحهما دون النظر لمصالح الشعب المصرى.

التدريب الثانى

١ فى عهد مَن مِن رؤساء وزراء مصر تم الحدث التالى ... ؟

(١) تشكيل لجنة من ثلاثين عضوًا لإعداد دستور ١٩٢٣م. (.....)

(٢) أُفتتح البرلمان المصرى مارس ١٩٢٤م. (.....)

(٣) انسحب الجيش المصرى من السودان تنفيذًا لإنذار بريطانيا ٢٢ نوفمبر ١٩٢٤م. (.....)

٢ ما تقييمك لمصداقية كل عبارة من العبارات الآتية ... ؟

(١) اتبع الشعب المصرى أسلوب المقاطعة الاقتصادية ضد الاحتلال البريطانى عقب نفى سعد زغلول للمرة الثانية.

.....

(٢) نجحت مفاوضات عدلى - كيرزون فى وضع دستور يحقق مطالب المصريين.

.....

(٣) تعددت الأحزاب السياسية التى أفادت الحياة النيابية فى مصر بعد صدور دستور ١٩٢٣م.

.....

(٤) غير تصريح ٢٨ فبراير ١٩٢٢م من ملامح السياسة المصرية فى مصر.

.....

٣ بم تفسر ... ؟

(١) إرسال الحكومة البريطانية لجنة ملنر فى ديسمبر ١٩١٩م.

.....

(٢) لم يحقق تصريح ٢٨ فبراير ١٩٢٢م لمصر استقلالها الكامل.

.....

٤ ما النتائج التى ترتبت على : صدور دستور ١٩٣٠م ؟

.....

٥ دلل تاريخيًا على صحة العبارة : كان لدستور ١٩٢٣م العديد من المزايا ولكنه لم يخلُ من العيوب.

.....

٦ وضح : نصوص تصريح ٢٨ فبراير ١٩٢٢م.

.....

.....

معاهدة ١٩٣٦م

* فى عام ١٩٣٦م اضطرت بريطانيا لعقد معاهدة مع مصر لتخوفها من قيام ثورة جديدة فى الوقت الذى ستخوض فيه بريطانيا حرب عالمية جديدة.
* دارت المفاوضات بين مصطفى النحاس والإنجليز وانتهت بتوقيع معاهدة فى أغسطس ١٩٣٦م وقد نصت المعاهدة على :

١ جلاء القوات البريطانية عن القاهرة وجميع الجهات الأخرى، عدا منطقة قناة السويس.
٢ وضع مصر موانيها ومطاراتها وطرق مواصلاتها تحت تصرف بريطانيا فى حالة الحرب.
٣ تعهد الحكومة المصرية ببناء الثكنات والمعسكرات والطرق والكبارى اللازمة للقوات البريطانية وصيانتها.
٤ مساعدة بريطانيا لمصر للانضمام لعصبة الأمم.
٥ استمرار إدارة السودان وفقًا لاتفاقية الحكم الثنائى يناير ١٨٩٩م، مع عودة القوات المصرية إلى السودان.
٦ أن تسرى المعاهدة لمدة عشرين عامًا.

ما النتائج التى ترتبت على معاهدة ١٩٣٦م ؟ ترتب على ذلك :

(١) انتهاء احتلال مصر عسكريًا مع بقاء قوات بريطانية فى قناة السويس.
(٢) انضمام مصر إلى عضوية عصبة الأمم باعتبارها دولة مستقلة ذات سيادة.
(٣) إلغاء الامتيازات الأجنبية، وفقًا لمؤتمر مونترو ١٩٣٧م.
(٤) تقوية الجيش المصرى لكى يتمكن من الدفاع عن قناة السويس بمفرده، وبالتالى تجلو القوات البريطانية عن مصر.
(٥) حرية مصر فى عقد المعاهدات السياسية مع الدول الأجنبية بشرط ألا تتعارض مع هذه المعاهدة.
(٦) عودة الجيش المصرى إلى السودان واعتراف بريطانيا بالإدارة المشتركة مع مصر للسودان.

المتغيرات الداخلية والدولية بعد معاهدة ١٩٣٦م


الملك فاروق

* تحولت العلاقة بين مصر وبريطانيا من احتلال إلى تحالف.
* ازداد نفوذ القصر وسيطرته منذ اعتلاء الملك فاروق العرش.
* تغيرت الأوضاع الدولية عقب اندلاع الحرب العالمية الثانية سبتمبر ١٩٣٩م وحدثت خلافات بين الحكومة المصرية وبريطانيا بسبب إصرار بريطانيا على أن تعلن مصر الحرب على دول المحور، وهو ما كانت ترفضه الحكومة المصرية (لاتباع سياسة تجنب مصر ويلات الحرب).

ونتيجة لذلك بادرت بريطانيا بالضغط على الملك فاروق لتشكيل حكومة جديدة برئاسة مصطفى النحاس وعندما ماطلهم الملك اضطرت بريطانيا أن ترسل الإنذار الشهير عام ١٩٤٢م.

حادث ٤ فبراير ١٩٤٢م

أسبابه : مماطلة الملك فاروق فى الاستجابة لمطلب بريطانيا بتشكيل حكومة جديدة برئاسة مصطفى النحاس باشا.

أحداثه :
- قامت بريطانيا بتوجيه إنذار للملك فاروق.
- قامت الدبابات البريطانية بمحاصرة قصر عابدين، وهددت بخلع الملك فاروق عن العرش.

نتائجه : قبل الملك فاروق الإنذار البريطانى، وعرض على (مصطفى النحاس باشا) رئيس حزب الوفد تأليف الوزارة فقبل ذلك.



مصطفى النحاس

قضية الجلاء الكامل للقوات البريطانية

* فى عام ١٩٤٧م عرضت الحكومة المصرية على مجلس الأمن قضية جلاء القوات البريطانية الكامل عن مصر ووحدة وادى النيل، ولكن لم يتخذ مجلس الأمن قرارًا فى القضية وتركها معلقة.

معلومة إثرائية

سرعان ما استقالت وزارة النحاس وتوالت عدة وزارات منها وزارة النقراشى الذى عرض قضية جلاء القوات البريطانية على مجلس الأمن.

* فى أكتوبر ١٩٥١م أعلن مصطفى النحاس (رئيس الوزارة فى هذا الوقت) إلغاء معاهدة ١٩٣٦م، وأطلق الحرية للشعب للنضال المسلح ضد القوات البريطانية فى القناة، ونتج عن ذلك مهاجمة جماعات الفدائيين للمعسكرات البريطانية.
* عمدت الحكومة المصرية إلى زيادة عدد جنود الشرطة (فى منطقة القناة) لمساعدة الفدائيين فقامت القوات البريطانية بحصار مبنى المحافظة بالإسماعيلية لنزع سلاح جنود الشرطة، فرفض جنود الشرطة المصرية التسليم لقوات الاحتلال فوقع الصدام بين قوات الاحتلال وعناصر الشرطة المصرية فى ٢٥ يناير ١٩٥٢م واستشهد الكثير من المصريين بعدها تطورت الأحداث.

ففى اليوم التالى مباشرة (٢٦ يناير ١٩٥٢م) وقع حريق القاهرة فكان ذلك إيذانًا بنهاية النظام الملكى وقيام ثورة يوليو ١٩٥٢م

التدريب الثالث

١ من هو ... ؟

(١) رأس وفد مصر فى المفاوضات مع بريطانيا لعقد معاهدة ١٩٣٦م. (.....)

(٢) ازداد نفوذ القصر منذ اعتلائه عرش مصر. (.....)

٢ وضح : أسباب الخلاف بين الحكومة المصرية والإنجليز عقب اندلاع الحرب العالمية الثانية ١٩٣٩م.

.....

.....

٣ دلل على صحة العبارة الآتية :

كان لجنود الشرطة المصرية دورًا بطوليًا ضد الاحتلال البريطانى فى ٢٥ يناير ١٩٥٢م.

.....

٤ ما العلاقة بين ... ؟

(١) معاهدة ١٩٣٦م، والأوضاع المصرية بالسودان.

.....

.....

(٢) حادثة ٤ فبراير ١٩٤٢م، ووزارة مصطفى النحاس.

.....

.....

٥ ما النتائج التى ترتبت على ... ؟

(١) تخوف بريطانيا من قيام ثورة جديدة قبل قيام الحرب العالمية الثانية.

.....

(٢) توقيع مصر معاهدة ١٩٣٦م مع بريطانيا.

.....

(٣) إلغاء مصطفى النحاس لمعاهدة ١٩٣٦م فى أكتوبر ١٩٥١م.

.....

أهم نقاط الدرس

مصر من الحماية البريطانية حتى ثورة يوليو ١٩٥٢م

١ عوامل قيام ثورة ١٩١٩م

* ازدياد نمو الوعى الوطنى لدى المصريين من أجل الاستقلال.
* الإجراءات العنيفة التى اتخذتها سلطات الاحتلال البريطانى أثناء الحرب العالمية الأولى (١٩١٤م - ١٩١٨م).
* ادعاء إنجلترا وحلفائها بإنها تحارب من أجل حرية الشعوب واستقلالها.
* إعلان الرئيس الأمريكى ولسن المبادئ الأربعة عشر (أثناء الحرب العالمية الأولى) ومنها حق الشعوب فى تقرير مصيرها.

٢ نتائج ثورة ١٩١٩م

* عزل السير ونجت وتعيين الجنرال اللنبى.
* الإفراج عن سعد زغلول ورفاقه أبريل ١٩١٩م والسماح لهم بالسفر إلى باريس لعرض قضية استقلال مصر على مؤتمر الصلح.

٣ المفاوضات المصرية البريطانية من ١٩١٩م إلى ١٩٢٢م

* مفاوضات سعد - ملنر: انتهت بمشروع معاهدة رفضها الشعب.
* مفاوضات عدلى - كيرزون (مارس ١٩٢١م):

فشلت ولم تصل إلى نتيجة مما أدى إلى استقالة عدلى يكن من الوزارة ورفض رجال السياسة تشكيل حكومة جديدة.

٤ تصريح ٢٨ فبراير ١٩٢٢م

قامت بريطانيا بإصداره بعد فشل مفاوضات عدلى - كيرزون.

* **نصوصه** : • الاعتراف بمصر دولة مستقلة ذات سيادة.
  • إنهاء الحماية البريطانية على مصر (يقصد بالحماية البريطانية : **خضوع مصر المطلق للاحتلال البريطانى**).
  • إلغاء الأحكام العرفية.
* **شروطه (التحفظات الأربعة)** : ١ تأمين المواصلات البريطانية فى مصر.
  ٢ الدفاع عن مصر ضد أى اعتداء أو تدخل أجنبى.
  ٣ حماية المصالح الأجنبية وحماية الأقليات فى مصر.
  ٤ استمرار أوضاع السودان على ما كانت عليه وفقًا لاتفاقية الحكم الثنائى عام ١٨٩٩م.

٥ معاهدة ١٩٣٦م

* **نصوصها** :
  • جلاء القوات البريطانية عن القاهرة وجميع الجهات الأخرى عدا منطقة قناة السويس.
  • وضع مصر موانيها ومطاراتها وطرق مواصلاتها تحت تصرف بريطانيا فى حالة الحرب.
  • تعهد الحكومة المصرية ببناء الثكنات والمعسكرات والطرق والكبارى اللازمة للقوات البريطانية وصيانتها.
  • مساعدة بريطانيا لمصر للانضمام لعصبة الأمم.
  • استمرار إدارة السودان وفقًا لاتفاقية الحكم الثنائى يناير ١٨٩٩م مع عودة القوات المصرية إلى السودان.
  • أن تسرى المعاهدة لمدة ٢٠ عامًا.

٦ المتغيرات الداخلية والدولية بعد معاهدة ١٩٣٦م

* تحولت العلاقة بين مصر وبريطانيا من احتلال إلى تحالف.
* ازداد نفوذ القصر وسيطرته منذ اعتلاء الملك فاروق العرش.
* تغيرت الأوضاع الدولية عقب اندلاع الحرب العالمية الثانية سبتمبر ١٩٣٩م.
* حادث ٤ فبراير ١٩٤٢م والذى ترتب عليه تأليف مصطفى النحاس للوزارة.

٧ قضية الجلاء الكامل للقوات البريطانية

* عرضت الحكومة المصرية على مجلس الأمن عام ١٩٤٧م قضية الجلاء الكامل للقوات البريطانية عن مصر لكنه لم يتخذ قرارًا فى القضية وتركها معلقة.
* ألغى النحاس رئيس الحكومة معاهدة ١٩٣٦م فى أكتوبر ١٩٥١م وأطلق الحرية للشعب فى النضال المسلح بالقناة ضد القوات البريطانية.
* استشهد الكثير من المصريين فى ٢٥ يناير ١٩٥٢م.
* وقوع حريق القاهرة ٢٦ يناير ١٩٥٢م.

أسئلة على الدرس الرابع

أسئلة تفاعلية

• تذكر • فهم • تطبيق • مستويات عليا

١ اختر الإجابة الصحيحة مما بين القوسين :

(١) يدل طلب الوفد المصرى من المعتمد البريطانى السماح لهم بالسفر إلى مؤتمر الصلح فى باريس على ..... (رغبة إنجلترا فى إنهاء الحماية على مصر - ثقة الوفد فى الإنجليز - امتلاك الإنجليز للسلطة الفعلية - دعم السلطة التنفيذية للحركة الوطنية)

(٢) تم رفض طلب سعد زغلول والوفد بالسفر إلى مؤتمر الصلح بباريس من قبل .....
(اللورد ملنر - السير لى ستاك - السير ونجت - الجنرال اللنبى)

(٣) السبب المباشر فى اشتعال ثورة ١٩١٩م .....
(إعلان ولسن حق تقرير المصير - رفض مطالب الوفد المصرى - اعتقال أعضاء الوفد المصرى - إجراءات إنجلترا العنيفة خلال الحرب)

(٤) بدأت المفاوضات المصرية البريطانية بسبب .....
(رغبة إنجلترا فى منح مصر الاستقلال - رغبة إنجلترا فى إلغاء الحماية على مصر - مقاطعة الشعب للجنة ملنر - إعلان الأحكام العرفية على مصر)

(٥) أدى إعلان بريطانيا لتصريح ٢٨ فبراير ١٩٢٢م إلى ..... (استقالة عدلى يكن - تغيير لقب حاكم مصر - إعلان الحماية البريطانية على مصر - بدء مفاوضات سعد / ملنر)

(٦) تم نفى سعد زغلول للمرة الثانية إلى جزيرة ..... (سيشل - مالطة - كريت - سيلان) (مطروح ٢٥)

(٧) أعيدت وزارة الخارجية المصرية بناءً على .....
(دستور ١٩٢٣م - إصدار تصريح ٢٨ فبراير ١٩٢٢م - عقد معاهدة ١٩٣٦م - دستور ١٩٣٠م)

(٨) تم إصدار دستور ١٩٢٣م فى عهد وزارة .....
(سعد زغلول - عدلى يكن - إسماعيل صدقى - عبدالخالق ثروت)

(٩) قبل إصدار تصريح ٢٨ فبراير ١٩٢٢م كان أحمد فؤاد الأول يحمل لقب .....
(سلطان - ملك - خديو - والى) (بورسعيد ٢٤)

(١٠) حق الملك فى حل البرلمان والدعوة لانتخابات جديدة طبقًا لدستور ١٩٢٣م يعنى .....
(الأمة مصدر السلطات - وجود سلطات واسعة للملك - نهاية الحكم المطلق - المساواة بين المصريين)

(١١) ترتب على استقالة سعد زغلول تأليف وزارة جديدة برئاسة ..... (القاهرة ٢٣)
(عدلى يكن - زيور باشا - إسماعيل صدقى - مصطفى النحاس)

(١٢) رئيس الوزراء الذى ألغى دستور ١٩٢٣م ووضع دستور ١٩٣٠م هو .....
(عبدالخالق ثروت - سعد زغلول - إسماعيل صدقى - مصطفى النحاس) (أسوان ٢٥)

(١٣) ازدادت سلطة ملك مصر نتيجة لـ .....

(دستور ١٩٣٠م – حادثة ٤ فبراير ١٩٤٢م – تصريح ٢٨ فبراير ١٩٢٢م – معاهدة ١٩٣٦م)

(١٤) كانت أكثر العوامل التى دفعت بريطانيا لتوقيع معاهدة ١٩٣٦م .....

(فوز النحاس برئاسة الوزارة – ظهور بوادر حرب عالمية جديدة – عودة السياسة الخارجية لمصر – رغبة بريطانيا فى إنهاء احتلالها لمصر)

(١٥) نصت معاهدة ١٩٣٦م على عودة الجيش المصرى إلى السودان والذى تم سحبه عقب .....

(تصريح ٢٨ فبراير ١٩٢٢م – مقتل السير لى ستاك – صدور دستور ١٩٢٣م – إلغاء الامتيازات الأجنبية)

(١٦) انضمت مصر لعصبة الأمم بعد .....

(دستور ١٩٢٣م – دستور ١٩٣٠م – معاهدة ١٩٣٦م – تصريح ٢٨ فبراير ١٩٢٢م) (الإسكندرية ٢٥)

٢ أكمل العبارات الآتية بما يناسبها :

(١) عارض الشعب المصرى دستور ١٩٣٠م مما اضطر الملك ..... إلى إعادة دستور ١٩٢٣م.

(٢) تم إلغاء الامتيازات الأجنبية وفقًا لقرارات مؤتمر ..... عام ١٩٣٧م. (البحر الأحمر ٢٢)

(٣) عرضت الحكومة المصرية عام ١٩٤٧م قضية جلاء القوات البريطانية الكامل عن البلاد على ..... (مطروح ٢٤)

(٤) مثّل الأمة المصرية فى مؤتمر الصلح أعضاء من ..... (كفر الشيخ ٢٥)

٣ اكتب كلمة (صواب) أمام العبارة الصحيحة، وكلمة (خطأ) أمام العبارة غير الصحيحة، مع التصويب :

(١) فرضت فرنسا الحماية على مصر أثناء الحرب العالمية الأولى. ( )

(٢) تألف الوفد المصرى برئاسة محمد فريد لعرض المطالب على مؤتمر الصلح. ( )

(٣) شارك فى أحداث ثورة ١٩١٩م جميع فئات الشعب المصرى. ( )

(٤) قدم عدلى يكن استقالته بعد فشل مفاوضاته مع ملنر عام ١٩٢١م. ( )

(٥) اعترفت بريطانيا بمصر دولة مستقلة بعد تصريح ٢٨ فبراير ١٩٢٢م. ( )

(٦) أكد دستور ١٩٢٣م على مبدأ «الأمة هى مصدر السلطات». ( )

(٧) شكل الزعيم سعد زغلول أول وزارة برلمانية فى يناير ١٩٢٤م. (القليوبية ١٨) ( )

(٨) أعطى دستور ١٩٣٠م للشعب المصرى المزيد من الرقابة على الحكومة والملك. ( )

(٩) وقع مصطفى النحاس باشا معاهدة ١٩٣٦م مع الإنجليز. ( )

(١٠) غير تصريح ٢٨ فبراير ١٩٢٢م العلاقة بين مصر وبريطانيا من احتلال إلى تحالف. (الإسكندرية ٢٢) ( )

(١١) ازداد نفوذ القصر الملكى بعد اعتلاء فاروق العرش. (الشرقية ٢٠) ( )

(١٢) يعد حادث ٤ فبراير ١٩٤٢م انتهاكًا مباشرًا لمعاهدة ١٩٣٦م. ( )

(١٣) خيب المجتمع الدولى تطلعات مصر فى الحرية والاستقلال عامى ١٩١٩م ، ١٩٤٧م. ( )

(١٤) حدث حريق القاهرة فى اليوم التالى لاستشهاد أفراد الشرطة بمبنى المحافظة بالإسماعيلية. ( )

٤ إلى من تنسب الأعمال التاريخية الآتية ... ؟

(١) أعلن المبادئ الأربعة عشر ومنها حق الشعوب فى تقرير مصيرها. (الفيوم ٢٢) (.....)

(٢) أرسلته الحكومة البريطانية فى ديسمبر ١٩١٩م لإقناع الشعب المصرى بقبول الحماية البريطانية. (الشرقية ١٩) (.....)

(٣) أعلن نفسه ملكًا على مصر فى مارس ١٩٢٢م. (ش. سيناء ٢٢) (.....)

(٤) تولى رئاسة الحكومة المصرية بعد حادث ٤ فبراير ١٩٤٢م. (دمياط ١٨) (.....)

(٥) أطلق الحرية للشعب المصرى للنضال المسلح ضد القوات البريطانية فى القناة فى أكتوبر ١٩٥١م. (أسيوط ٢٠) (.....)

٥ ما المقصود بـ: الحماية البريطانية ؟ (أسوان ٢٤)

.....

٦ بم تفسر ... ؟

(١) القبض على سعد زغلول وزملائه فى مارس ١٩١٩م ونفيهم إلى جزيرة مالطة. (القاهرة ٢٠)

.....

(٢) اشتعال ثورة ١٩١٩م. (السويس ١٨)

.....

(٣) شعور أعضاء الوفد المصرى بإحباط كبير فى عام ١٩١٩ م بعد سفرهم إلى باريس.

.....

(٤) لم يحقق تصريح ٢٨ فبراير ١٩٢٢م للمصريين أمانيهم الوطنية. (الشرقية ١٧)

.....

(٥) لم يؤد تعدد الأحزاب بعد دستور ١٩٢٣م إلى إثراء الحياة النيابية فى مصر. (الأقصر ٢٥)

.....

(٦) تضمن دستور ١٩٣٠م العديد من العيوب. (كفر الشيخ ٢٤)

.....

(٧) الخلاف بين حكومة مصر والإنجليز بعد اندلاع الحرب العالمية الثانية ١٩٣٩م. (السويس ٢٣)

.....

٧ ما النتائج التى ترتبت على ... ؟

(١) نجاح فكرة جمع التوكيلات من الأمة للوفد المصرى عام ١٩١٩م.

.....

(٢) فشل مفاوضات عدلى – كيرزون ١٩٢١م. (المنوفية ٢٢)

.....

(٣) صدور تصريح ٢٨ فبراير ١٩٢٢م بالنسبة للسياسة الداخلية لمصر. (بنى سويف ٢٤)

.....

(٤) صدور دستور ١٩٢٣م.

.....

(٥) مقتل الحاكم العام للسودان السير لى ستاك ١٩ نوفمبر ١٩٢٤م. (الإسكندرية ٢٤)

.....

(٦) محاصرة القوات البريطانية لقصر عابدين فى ٤ فبراير ١٩٤٢م.

.....

٨ ماذا كان يحدث إذا ... ؟

(١) تفاوض المصريون مع لجنة ملنر. (بنى سويف ٢٠)

.....

(٢) لم يتضمن تصريح ٢٨ فبراير ١٩٢٢م التحفظات الأربعة.

.....

(٣) لم يعترض الشعب المصرى على دستور ١٩٣٠م.

.....

(٤) لم يتم توقيع معاهدة ١٩٣٦م بين مصر وبريطانيا. (ج. سيناء ٢٠)

.....

٩ ما رأيك فى ... ؟

(١) دستور ١٩٢٣م.

.....

(٢) إلغاء مصطفى النحاس معاهدة ١٩٣٦م. (الأقصر ٢٥)

.....

(٣) موقف رجال الشرطة المصرية فى ٢٥ يناير ١٩٥٢م. (قنا ٢٣)

.....

(٤) رفض الحكومة المصرية إعلان الحرب على دول المحور عقب اندلاع الحرب العالمية الثانية. (الشرقية ٢٤)

.....

١٠ قارن بين : إنذار اللورد اللنبى للحكومة المصرية ٢٢ نوفمبر ١٩٢٤م، والإنذار البريطانى للحكومة المصرية ٤ فبراير ١٩٤٢م، من حيث الأسباب.

.....

١١ دلل تاريخيًا على صحة كل عبارة مما يأتى :

(١) استبدت سلطات الاحتلال البريطانى بالمصريين أثناء الحرب العالمية الأولى ١٩١٤م : ١٩١٨م.

.....

(٢) أكدت ثورة ١٩١٩م على الوحدة الوطنية بين أبناء الأمة المصرية. (ش.سيناء ٢٥)

.....

(٣) للشعب المصرى دورًا واضحًا فى الإفراج عن سعد زغلول وعودته إلى مصر بعد نفيه لجزيرة سيشل. (دمياط ٢٥)

.....

(٤) أثبت الشعب المصرى وعيه فى مرحلة بداية المفاوضات المصرية البريطانية بعد ثورة ١٩١٩م.

.....

(٥) تضمن دستور ١٩٢٣م بعض المبادئ الإيجابية. (الدقهلية ٢٤)

.....

(٦) استقالت وزارة سعد زغلول عام ١٩٢٤م احتجاجًا على التدخل الأجنبى فى شئون البلاد. (القليوبية ٢٠)

.....

(٧) حققت معاهدة ١٩٣٦م بين مصر وبريطانيا بعض المكاسب لمصر. (الشرقية ٢٣)

.....

١٢ «ارتبط شهر فبراير من عامى ١٩٢٢م، ١٩٤٢م بأحداث مهمة فى تاريخ مصر». فى ضوء ذلك وضح :

(١) الأحداث المرتبطة بشهر فبراير من هذين العامين.

.....

(٢) الآثار التاريخية التى ترتبت على كل منهما بالنسبة لمصر.

.....

١٣ تأمل الصورة المقابلة واستنتج :



(١) الثورة التى تعبر عنها الصورة.

.....

(٢) أهمية المشاركة السياسية للمرأة فى أحداث تلك الثورة.

.....

١٤ «أجريت الانتخابات العامة فى مصر طبقًا لدستور ١٩٢٣م وحصل حزب الوفد على الأغلبية».

(المنيا ٢٤)

فى ضوء هذه العبارة، أجب عن الأسئلة الآتية :

(١) ما العلاقة بين : اغتيال السير لى ستاك، ووزارة سعد زغلول ؟

.....

(٢) كان تعدد الأحزاب السياسية فى مصر بعد صدور دستور ١٩٢٣م نقمة على مصالح الشعب. وضح ذلك.

.....

أسئلة للتميز

١٥ اختر الإجابة الصحيحة مما بين القوسين :

(١) يرجع الهدف الأساسى لإرسال إنجلترا لجنة ملنر لمصر إلى رغبتهم فى ..... (شق وحدة الصف المصرى - التفاوض مع سعد زغلول - إقالة وزارة سعد زغلول - التفاوض مع عدلى يكن)

(٢) حدثت أضرار اقتصادية لإنجلترا قبل إعلان تصريح ٢٨ فبراير ١٩٢٢م بسبب .....
(المقاومة السلبية للشعب المصرى - رفض الشعب المصرى للتفاوض - إلغاء الحماية البريطانية - إعلان استقلال مصر)

(٣) عادت القوات المصرية للسودان بعد معاهدة ١٩٣٦ م بسبب .....
(قيام الحرب العالمية الثانية - رغبة بريطانيا فى إنهاء ثورة السودان - إعادة العمل باتفاقية الحكم الثنائى - مطالب الشعب المصرى)

١٦ ما تقييمك لمصداقية العبارة التالية :

استمرت مصر تابعة للحكم العثمانى أثناء الحرب العالمية الأولى ؟

.....

١٧ حدد أوجه النقد لـ : وزارة إسماعيل صدقى ١٩٣٠م.

.....

١٨ دلل تاريخيًا على صحة العبارات الآتية :

(١) توجد عوامل خارجية ساهمت فى قيام ثورة ١٩١٩ م.

.....

(٢) اتحدت طوائف الشعب أكثر من مرة خلال عام ١٩١٩ م.

.....

(٣) كان لمعاهدة ١٩٣٦ م مزايا لمصر على المستوى الدولى.

.....

امتحان ؟ على الدرس الرابع

١ (أ) اكتب كلمة (صواب) أمام العبارة الصحيحة، وكلمة (خطأ) أمام العبارة غير الصحيحة، مع التصويب :

(١) أُلغيت الامتيازات الأجنبية بناءً على قرارات مؤتمر مونترو عام ١٩٣٧م. ( )

(٢) اضطر الملك فاروق لإلغاء دستور ١٩٣٠م إرضاءً للشعب المصرى. ( )

(٣) اشترك كل من مصطفى كامل ومحمد فريد وسعد زغلول فى مجابهتهم للاحتلال البريطانى لمصر. ( )

(ب) قارن بين : تصريح ٢٨ فبراير ١٩٢٢م، ومعاهدة ١٩٣٦م من حيث عيوب كل منهما.

(جـ) دلل : كان دستور ١٩٢٣م خطوة للقضاء على الحكم المطلق. (الأقصر ٢٤)

(د) حدد الآثار الناتجة عن :

(١) الإنذار البريطانى الموجه للحكومة المصرية فى ٢٢ نوفمبر ١٩٢٤م.

(٢) اشتراك جميع طوائف الشعب المصرى فى ثورة ١٩١٩م.

---

٢ (أ) فى عهد مَن مِن حكام مصر حدث كل مما يأتى ... ؟

(١) عمل لجنة لإعداد دستور عُرف بدستور ١٩٢٣م.

(٢) تم إلغاء معاهدة ١٩٣٦م.

(٣) حادثة ٤ فبراير ١٩٤٢م. (الدقهلية ٢٤)

(ب) استخلص السبب وراء : تكوين وفد مصرى يمثل الأمة.



(جـ) *«أمامك صورة لأحد الزعماء الذين تولوا رئاسة الوزارة فى مصر».*

فى ضوء ذلك، أجب عما يلى :

(١) من هو صاحب الصورة الذى عقد معاهدة مع الإنجليز قبل الحرب العالمية الثانية وألغاها بعد خمسة عشر عامًا ؟

(٢) لإلغاء هذه المعاهدة نتائج مؤثرة فى نضال الشعب المصرى، وضحها.

(د) ما العلاقة بين :

الرئيس الأمريكى ولسن، وقيام ثورة ١٩١٩م فى مصر ؟ (قنا ٢٤)

الفهـــرس

الموضوع	الصفحة
كتـاب الشـرح	
أولاً الجغرافيـا	٥
الوحدة 1 الجغرافيا الطبيعية للعالم.	٨
الـدرس الأول: قارات العالم. «الموقع والمساحة».	٩
الدرس الثانى: تضاريس العالم.	٣٢
الدرس الثالث: المناخ والنبات الطبيعى فى العالم.	٥٩
الوحدة 2 جغرافية سكان العالم.	٧٩
الـدرس الأول: السلالات البشرية فى العالم.	٨٠
الدرس الثانى: توزيع السكان فى العالم.	٩٢
الدرس الثالث: خصائص سكان العالم.	١١٢
ثانيًا التاريـــخ	١٢٩
الوحدة 3 مصر تحت الحكم العثمانى	١٣١
الـدرس الأول: مصر بين المماليك والعثمانيين.	١٣٢
الدرس الثانى: الحملة الفرنسية على مصر «١٧٩٨م - ١٨٠١م».	١٤٧
الدرس الثالث: ثورة الشعب المصرى وتولية محمد على.	١٦٧
الدرس الرابع: محمد على وبناء مصر الحديثة.	١٧٨

الموضوع	الصفحة
الوحدة 4 مصر والزحف الاستعمارى ومحاولات التحرر الوطنى	١٩٦
الـدرس الأول: خلفاء محمد على وازدياد النفوذ الأجنبى.	١٩٧
الدرس الثانى: الحركة الوطنية والثورة العرابية.	٢١٧
الدرس الثالث: الكفاح الوطنى ضد الاحتلال البريطانى.	٢٣٤
الدرس الرابع: مصر من الحماية البريطانية حتى ثورة يوليو ١٩٥٢م.	٢٤٦
كتـاب المراجعة	
يشمل:	
• مراجعـة شهريـة.	
• أسئلة عامة وامتحان على كل وحدة.	
• امتحـان علـى الجغـرافيـا.	
• امتحـان علـى التـاريـخ.	
• امتحانات نهاية الفصل الدراسى.	
• الإجابـات.	
مفكرة الامتحان	
تشمل:	
• مراجعة على كل وحدة.	

تصريح وزارة التربية والتعليم رقم ١٠٣ - ١١ - ١ - ١٨٠

2026

الدراسات الاجتماعية

كتاب المراجعة

- مراجعة شهرية.
- أسئلة عامة وامتحانات على الوحدات.
- امتحانات نهاية الفصل الدراسى.
- الإجابات.



الصحاب

الصف الثالث الإعدادى

الفصل الدراسى الأول

محتويـات الكتاب



أولًا | مراجعة شهرية. جديد

ثانيًا | أسئلة عامة وامتحانات على الوحدات.

ثالثًا | امتحانات نهاية الفصل الدراسى.

رابعًا | الإجابـات.

ارجع للمفكرة

لتتذكر
أهم نقاط الدرس



أولًا مراجعة شهرية

جديد

مجاب عنها؟

	التقييمات	مقرر الجغرافيا	مقرر التاريخ
تقييمات الشهر الأول	الأسبوع الأول		الوحدة 3 الدرس الأول: مصر بين المماليك والعثمانيين.
	الأسبوع الثانى	الوحدة 1 الدرس الأول: قارات العالم «الموقع و المساحة».	
	الأسبوع الثالث		الوحدة 3 الدرس الثانى: الحملة الفرنسية على مصر «١٧٩٨م: ١٨٠١م».
	الأسبوع الرابع	الوحدة 1 الدرس الثانى: تضاريس العالم.	
	الأسبوع الخامس		الوحدة 3 الدرس الثالث: ثورة الشعب المصرى وتولية محمد على.
	اختبـــاران علـى الشهـــر الأول		
تقييمات الشهر الثانى	الأسبوع السادس	الوحدة 1 الدرس الثالث: المناخ والنبات الطبيعى فى العالم.	
	الأسبوع السابع		الوحدة 3 الدرس الرابع: محمد على وبناء مصر الحديثة.
	الأسبوع الثامن	الوحدة 2 الدرس الأول: السلالات البشرية فى العالم.	
	الأسبوع التاسع		الوحدة 4 الدرس الأول: خلفاء محمد على وازدياد النفوذ الأجنبى.
	اختبـــاران علـى الشهـــر الثانى		
تقييمات الشهر الثالث	الأسبوع العاشر	الوحدة 2 الدرس الثانى: توزيع السكان فى العالم.	
	الأسبوع الحادى عشر		الوحدة 4 الدرس الثانى: الحركة الوطنية والثورة العرابية.
	الأسبوع الثانى عشر	الوحدة 2 الدرس الثالث: خصائص سكان العالم.	
	الأسبوع الثالث عشر		الوحدة 4 الدرس الثالث: الكفاح الوطنى ضد الاحتلال البريطانى.
	الأسبوع الرابع عشر		الوحدة 4 الدرس الرابع: مصر من الحماية البريطانية حتى ثورة يوليو ١٩٥٢م.
	الأسبوع الخامس عشر		
	اختبـــاران علـى الشهـــر الثالـث		

تقييمات الشهر الأول

تقييمات الأسبوع الأول

المجموعة الأولى

(١) بم تفسر : تعرض دولة المماليك لتدهور اقتصادى منذ أواخر القرن الـ ١٥ م ؟

(٢) قارن بين : معركة مرج دابق، ومعركة الريدانية، من حيث :

* أطرافها. * نتائجها.

(٣) ماذا كان يحدث إذا : لم ينحاز محمد بك أبو الدهب للسلطان العثمانى ضد على بك الكبير؟

(٤) دلل على صحة العبارة : معاناة الفلاح المصرى أثناء الحكم العثمانى للبلاد.

(٥) حدد الأثر الناتج عن : العزلة التى فرضها العثمانيون على مصر (بالنسبة للحياة الثقافية).

المجموعة الثانية

(١) ما العلاقة بين : تفوق أوروبا حضاريًا وعسكريًا، وحروب العثمانيين فى الشرق ؟

(٢) ما النتائج التى ترتبت على : تدهور الصناعة فى مصر خلال العصر العثمانى ؟

(٣) فسر : حمل نظام الحكم العثمانى فى ثناياه عوامل ضعفه.

(٤) اكتب كلمة (صواب) أو كلمة (خطأ) أمام العبارة الآتية، مع ذكر السبب فى الحالتين :

تدهورت التجارة الخارجية الخاصة بمصر أثناء العصر العثمانى. ( )

(٥) ما رأيك فى : انقسم المجتمع المصرى خلال العصر العثمانى إلى فئتين ؟

المجموعة الثالثة

(١) ما الآثار التى ترتبت على : هزيمة الجيوش المملوكية أمام العثمانيين ؟

(٢) ما تقييمك لمصداقية العبارة الآتية : ازدهرت التجارة الداخلية فى مصر أثناء العصر العثمانى ؟

(٣) حدد الأسباب التى أدت إلى :

فشل الحركة الاستقلالية لعلى بك الكبير فى النصف الثانى من القرن الـ ١٨ م.

(٤) أيد تاريخيًا صحة العبارة :

تدهورت الحياة الفكرية والثقافية بمصر أثناء الحكم العثمانى.

(٥) ما المقصود بـ : حق الانتفاع ؟

تقييمات الأسبوع الثانى

المجموعة الأولى

(١) دلل على صحة أو خطأ العبارة : توجد دول جزرية فى قارة آسيا.

(٢) قارن بين : قارتى أفريقيا، وأستراليا، من حيث : الموقع الجغرافى.

(٣) ما المقصود بـ : الموقع الجغرافى ؟

(٤) أيد صدق العبارة جغرافيًا : تعتبر قارة أوروبا شبه جزيرة.

(٥) ما النتائج المترتبة على :

امتداد القارة القطبية الجنوبية (أنتاركتيكا) أقصى جنوب الكرة الأرضية ؟

المجموعة الثانية

(١) حدد مدى مصداقية العبارة : تحاط قارة آسيا بالمحيطات من ثلاث جهات عدا الجهة الشمالية.

(٢) ما المقصود بالمصطلح الجغرافى : دول جزرية ؟

(٣) ماذا يحدث إذا : لم تتسم قارة أوروبا بتعرج السواحل وكثرة الجزر؟

(٤) حدد وجه الشبه بين : قارتى أمريكا الشمالية، وأمريكا الجنوبية، من حيث : الموقع الجغرافى.

(٥) دلل على صحة العبارة : يمر مدار السرطان بثلاث قارات.

المجموعة الثالثة

(١) بم تفسر : قارة أنتاركتيكا غير مأهولة بالسكان ؟

(٢) أيد صحة العبارة : يمر بقارة أمريكا الجنوبية دائرتى عرض رئيسيتين.

(٣) ما رأيك فى : ينطبق مفهوم الدولة الجزرية على بعض الدول الأفريقية ؟

(٤) اختر الإجابة الصحيحة مما بين القوسين :

يفصل قارة أستراليا عن جزر إندونيسيا .....

(بحر المرجان - بحر تسمانيا - بحر آرافورا - الخليج الأسترالى الكبير)

(٥) أعط أمثلة لـ : أشباه الجزر بقارة آسيا.

تقييمات الأسبوع الثالث

المجموعة الأولى

(١) ما المقصود بالمصطلح التاريخى : جلاء ؟

(٢) اكتب كلمة (صواب) أو كلمة (خطأ) أمام العبارة الآتية، مع ذكر السبب فى الحالتين :

اقتصرت مقاومة المصريين للحملة الفرنسية على الوجه البحرى. ( )

(٣) قارن بين : ثورة القاهرة الأولى، وثورة القاهرة الثانية ضد الاحتلال الفرنسى، من حيث : النتائج.

(٤) حدد الأسباب التى أدت إلى : إرسال فرنسا حملتها على مصر بقيادة نابليون بونابرت عام ١٧٩٨م.

(٥) أيد صحة العبارة تاريخيًا : كان لبريطانيا دورًا فى فشل دخول نابليون لمدينة عكا.

المجموعة الثانية

(١) ما العلاقة بين : الحملة الفرنسية، وتاريخ مصر القديم ؟

(٢) بم تفسر : فشل اتفاقية العريش عام ١٨٠٠م ؟

(٣) حدد الآثار الناتجة عن : تحطيم الأسطول الفرنسى فى معركة أبى قير البحرية عام ١٧٩٨م.

(٤) ما رأيك فى العبارة التالية :

تعددت الأخطار التى تعرضت لها الحملة الفرنسية خلال قيادة كليبر لها ؟

(٥) ما تقييمك لمصداقية العبارة التالية : ساهمت أفعال الجنود الفرنسيين فى القاهرة على قيام أهاليها بالثورة ضدهم فى أكتوبر ١٧٩٨م ؟

المجموعة الثالثة

(١) استنتج : سبب هزيمة المماليك أمام قوات الحملة الفرنسية فى معركتى شبراخيت وإمبابة.

(٢) دلل على صحة العبارة : أدرك نابليون أثناء إعداده للحملة الفرنسية على مصر أهمية وجود وسيلة للتواصل مع المصريين.

(٣) ما النتيجة التى ترتبت على : مذبحة يافا البشرية ؟

(٤) ما المقصود بـ : مقاومة ؟

(٥) ما العلاقة بين : الحملة الفرنسية، والروح القومية للمصريين ؟

تقييمات الأسبوع الرابع

المجموعة الأولى

(١) حدد العبارة صادقة أو غير صادقة، مع ذكر السبب :

يقتصر وجود الجبال فى قارة أفريقيا على الجهة الجنوبية الشرقية.

(٢) ما المقصود بالمصطلح الجغرافى : حوض النهر ؟

(٣) فسر : ضيق السهول الساحلية فى غرب قارة أمريكا الجنوبية.

(٤) حدد أين يصب كل نهر من الأنهار الآتية : (السند - النيجر - الدانوب - نلسن - الأمازون - دارلنج).

(٥) دلل على صحة العبارة : يؤثر المناخ على القيمة الاقتصادية لأنهار سهول سيبيريا بآسيا.

المجموعة الثانية

(١) حدد أوجه الشبه بين : السهول الساحلية شرق أستراليا، والسهول الساحلية غرب أمريكا الجنوبية.

(٢) وضح سبب : تسمية هضبة التبت بسقف العالم.

(٣) أيد صحة العبارة جغرافيًا : تتعدد منابع نهر النيل.

(٤) ماذا يحدث إذا : تشابهت سواحل أفريقيا مع سواحل أوروبا ؟

(٥) اختر الإجابة الصحيحة مما بين القوسين :

تقع فى الشمال الشرقى من قارة أمريكا الشمالية هضبة .....

(بتاجونيا - المكسيك - لبرادور - جيانا)

المجموعة الثالثة

(١) حدد تقييمك لصحة العبارة : تمتلك قارة آسيا سهول ساحلية داخلية.

(٢) ما العلاقة بين : هضاب شرق ووسط أفريقيا، ونهر النيل ؟

(٣) ما رأيك فى : للسهل الأوروبى العظيم أهمية اقتصادية ؟

(٤) ما النتائج المترتبة على : اقتراب جبال الحاجز الكبير من المحيط الهادى بأستراليا ؟

(٥) قارن بين : السهول الفيضية فى آسيا، والسهول الفيضية فى أمريكا الشمالية.

تقييمات الأسبوع الخامس

المجموعة الأولى

(١) فسر: ثورة الشعب المصرى فى مارس ١٨٠٤م.

(٢) دلل تاريخيًا على صحة العبارة: تجلى دور الزعامة الشعبية فى مصر أوائل القرن الـ ١٩م.

(٣) ما العلاقة بين: فرمان ١٨٠٦م، ومجىء الحملة الإنجليزية على مصر ١٨٠٧م ؟

(٤) حدد الآثار الناتجة عن: مذبحة القلعة ١٨١١م.

(٥) ما المقصود بـ: فرمان ؟

المجموعة الثانية

(١) حدد تقييمك لمدى صدق العبارة: تم تقييد محمد على فى بداية حكمه.

(٢) اختر الإجابة الصحيحة مما بين القوسين:

نفى عمر مكرم عام ١٨٠٩م إلى مدينة ..... (دمياط - الإسكندرية - أسوان - رشيد)

(٣) وضح: أهداف حملة فريزر مارس ١٨٠٧م.

(٤) أيد بالأدلة التاريخية صحة العبارة: تعددت وسائل محمد على للتخلص من المماليك.

(٥) ما النتائج التى ترتبت على: انضمام محمد على لثورة المصريين عام ١٨٠٤م ؟

المجموعة الثالثة

(١) أيد صحة العبارة الآتية: ساعدت القيادات الشعبية محمد على فى التخلص من عمر مكرم.

(٢) بم تفسر: رغبة بريطانيا فى تولية محمد بك الألفى حكم مصر ؟

(٣) حدد: موقف السلطان العثمانى من قرار زعماء الشعب فى ١٣ مايو ١٨٠٥م.

(٤) ما تقييمك لمصداقية العبارة الآتية:

ظهر رفض الشعب المصرى لحكم العثمانيين وزعماء المماليك عقب خروج الحملة الفرنسية من مصر ؟

(٥) ما رأيك فى: قيام محمد على بمذبحة القلعة مارس ١٨١١م ؟

اختباران على الشهر الأول

اختبـــار ١

أولا الجغرافيـا

أجب عن الأسئلة الآتية:

١ (أ) أمامك خريطة للعالم، اكتب حسب المطلوب :

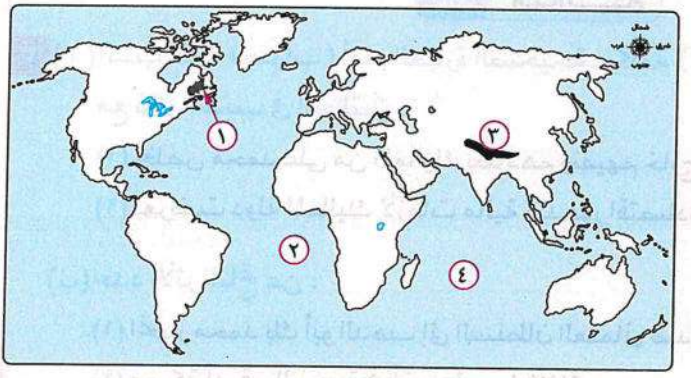

(١) يشير الرقم ③ إلى جبال .....

(٢) المنطقة المشار إليها برقم ① تمثل هضبة .....

(٣) المحيط الأطلنطى يمثله الرقم .....

(ب) دلل جغرافيًا على صحة كل عبارة مما يأتى :

(١) أهمية السهل الأوروبى العظيم.

(٢) يوجد دول جزرية فى قارة أفريقيا.

(٣) تتشابه تضاريس قارتى أفريقيا وأستراليا.

(جـ) ما العلاقة بين : هضبة إثيوبيا، والنشاط الزراعى فى بعض دول أفريقيا ؟

---

٢ (أ) اختر الإجابة الصحيحة مما بين القوسين :

(١) تقع قارة آسيا شمال المحيط .....

(الهادى - الأطلنطى - الهندى - القطبى الشمالى)

(٢) تشغل هضبة ..... معظم مساحة إسبانيا.

(جيانا - الميزيتا - فرنسا الوسطى - التبت)

(ب) بم تفسر... ؟

(١) كثرة الموانئ فى قارة أوروبا.

(٢) قلة الأهمية الاقتصادية لأنهار شمال آسيا شتاءً.

(جـ) حدد تقييمك لمدى مصداقية العبارتين التاليتين :

(١) تمر دائرة الاستواء بثلاث قارات.

(٢) يضيق السهل الساحلى بشمال غرب قارة أفريقيا .

(د) حدد وجه الشبه بين : هضبة جنوب أفريقيا، وهضبة فرنسا الوسطى.

ثانيًا التاريخ

٣ (أ) اكتب كلمة (صواب) أمام العبارة الصحيحة، وكلمة (خطأ) أمام العبارة غير الصحيحة، مع ذكر السبب فى الحالتين :

(١) تخلص محمد على من المماليك بطردهم ونفيهم خارج البلاد. ( )

(٢) تعرضت دولة المماليك لأزمات مالية وتدهور اقتصادى أواخر القرن الـ ١٥م. ( )

(ب) حدد الأثر الناتج عن :

(١) انحياز محمد بك أبو الدهب إلى السلطان العثمانى ضد على بك الكبير.

(٢) معركة أبى قير البحرية فى أغسطس ١٧٩٨م.

(جـ) قارن بين : ثورة القاهرة الأولى، وثورة القاهرة الثانية، من حيث :

* مركزها. * القائد الفرنسى الذى قامت ضده الثورة.

٤ (أ) من هو ... ؟

(١) هزم الصفويين فى معركة جالديران عام ١٥١٤م ودخل عاصمتهم تبريز.

(٢) قائد الحملة الإنجليزية على مصر عام ١٨٠٧م.

(٣) قاد حركة المقاومة ضد حملة نابليون فى عكا.

(٤) أعدم رميًا بالرصاص فى سبتمبر ١٧٩٨م لتصديه للحملة الفرنسية فى الإسكندرية.

(ب) دلل على صحة كل عبارة مما يأتى :

(١) حاول قادة الحملة الفرنسية على مصر تنشيط التجارة الخارجية رغم حصار الأسطول البريطانى لشواطئ مصر الشمالية.

(٢) شهدت مصر حالة من عدم الاستقرار السياسى عقب خروج الحملة الفرنسية.

(جـ) ما رأيك فى : إرسال أمهر الصناع المصريين إلى الآستانة أثناء الحكم العثمانى ؟

(د) حدد أسباب ما يلى : اصطحاب نابليون فى حملته على مصر مجموعة من العلماء.

اختبار ٢

أولًا الجغرافيا

أجب عن الأسئلة الآتية:

١ (أ) أمامك خريطة لقارة أفريقيا،
وضح ما تدل عليه الأرقام التى عليها :

(١) دائرة عرض .....

(٢) هضبة .....

(٣) جبال .....

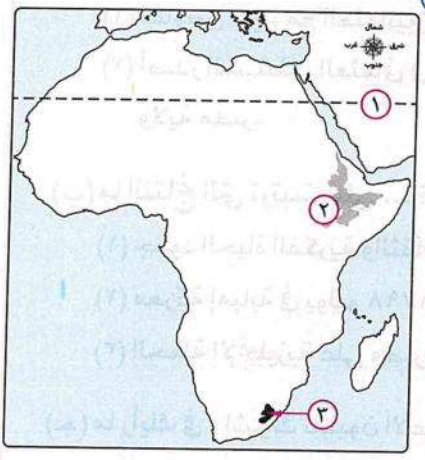

(ب) اكتب ما تشير إليه كل عبارة مما يأتى :

(١) أعلى هضاب العالم، وتعرف بسقف العالم.

(٢) موقع المكان بالنسبة للأماكن الأخرى من بحار ومحيطات وقارات أو دول مجاورة.

(٣) قارة من قارات العالم الجديد تمر بأطرافها الدائرة القطبية الجنوبية.

(جـ) بم تفسر ... ؟

(١) التناقض بين السهول الساحلية الغربية والسهول الساحلية الشرقية فى أستراليا. (دمياط ٢٤)

(٢) الأهمية الاقتصادية للسهول الفيضية.

(د) ما أوجه الاختلاف بين : نهر المسيسبى، ونهر النيجر ؟

---

٢ (أ) فى أى القارات يمتد كل نهر مما يأتى ... ؟ وأين يصب ؟

(١) بارانا. (٢) سانت لورانس.

(ب) دلل جغرافيًا على صحة العبارات الآتية :

(١) تضم قارة أفريقيا الأنواع الرئيسية للسهول.

(٢) تشتهر قارة آسيا بكثرة الجزر.

(٣) تُعد قارة أستراليا جزيرة كبيرة.

(جـ) قارن بين :

قارة آسيا، وقارة أمريكا الشمالية، من حيث :

* دوائر العرض الرئيسية المارة بها. * أهم جبالها.

ثانيا التاريخ

٣ (أ) صوب ما تحته خط :

(١) تفاوض كليبر مع العثمانيين لعقد اتفاقية الإسكندرية عام ١٨٠٠م.

(٢) أصدر السلطان العثمانى فى ٩ يوليو ١٨٠٥م فرمانًا تضمن عزل محمد بك أبو الدهب من ولاية مصر.

(ب) ما النتائج التى ترتبت على ... ؟

(١) جمود الحياة الفكرية والثقافية فى مصر خلال الحكم العثمانى.

(٢) معركة إمبابة فى يوليو ١٧٩٨م.

(٣) الحملة الإنجليزية على مصر عام ١٨٠٧م.

(جـ) ما رأيك فى : إشراك نابليون الأعيان والعلماء المصريين فى الديوان العام ؟

(د) *«شهد العالم الإسلامى أواخر القرن الخامس عشر الميلادى وأوائل القرن السادس عشر الميلادى صراعًا حادًا بين ثلاث قوى»*. حدد تلك القوى.

---

٤ (أ) اختر الإجابة الصحيحة مما بين القوسين :

(١) ضمت الطبقة الوسطى من المجتمع المصرى أثناء الحكم العثمانى .....

(الأتراك - المماليك - كبار التجار - الفلاحين)

(٢) جاءت الحملة البحرية العثمانية لطرد الحملة الفرنسية من مصر عن طريق جزيرة .....

(كريت - قبرص - مالطة - رودس)

(٣) تفوقت الطبيعة الجغرافية على الأسلحة الحديثة فى حروب نابليون فى .....

(الإسكندرية - إمبابة - الصعيد - عكا)

(٤) أصدر السلطان العثمانى فرمان عام ١٨٠٦م بنقل محمد على إلى .....

(سالونيك - الآستانة - مقدونيا - رودس)

(ب) حدد مدى مصداقية كل عبارة مما يأتى :

(١) كانت الحملة الفرنسية على مصر مجرد حملة عسكرية تقليدية.

(٢) نجحت الإرادة الشعبية فى تغيير المشهد السياسى بمصر فى ١٣ مايو ١٨٠٥م.

(جـ) حدد وجه الشبه والاختلاف بين :

معركة مرج دابق عام ١٥١٦م، ومعركة الريدانية عام ١٥١٧م.

تقييمات الشهر الثانى

تقييمات الأسبوع السادس

المجموعة الأولى

(١) حدد أوجه التشابه بين : إقليم المناخ المدارى الحار، وإقليم المناخ الموسمى.

(٢) بم تفسر : تسمية الغابات النفضية بهذا الاسم ؟

(٣) أنسب الأشجار الآتية إلى الغابات التى تنمو داخلها، مع تحديد الإقليم المناخى الذى ترتبط به :

(١) المطاط. (٢) الزيتون. (٣) البلوط. (٤) الشربين.

(٤) ما النتائج المترتبة على : اختلاف درجات الحرارة، وكميات الأمطار من مكان لآخر على الجبال المرتفعة ؟

(٥) ما المقصود بالمصطلح الجغرافى : إقليم مناخى ؟

المجموعة الثانية

(١) ماذا يحدث إذا : مرت دائرة الاستواء بوسط قارة أوروبا (بالنسبة للمناخ والنبات الطبيعى) ؟

(٢) دلل جغرافيًا على صحة العبارة :

يتشابه المناخ المعتدل شرق القارات مع مناخ غرب أوروبا فى بعض الخصائص.

(٣) اكتب كلمة (صواب) أو كلمة (خطأ) أمام العبارة الآتية، مع ذكر السبب فى الحالتين :

تنمو حشائش السافانا ضمن إقليم مناخ البحر المتوسط. ( )

(٤) حدد أسباب : تنوع الحياة النباتية فى إقليم المناخ الجبلى.

(٥) ما رأيك فى : لمنطقة البرارى بأمريكا الشمالية قيمة اقتصادية ؟

المجموعة الثالثة

(١) قارن بين : إقليم مناخ غرب أوروبا، وإقليم مناخ التندرا، من حيث :

* الخصائص النباتية. * الموقع.

(٢) فسر : تعد حشائش السافانا حديقة حيوان طبيعية.

(٣) ما الآثار الناتجة عن : ارتفاع درجة الحرارة وسقوط الأمطار طوال العام فى حوض الكونغو ؟

(٤) ما العلاقة بين : إقليم مناخ البحر المتوسط، وتنمية الثروة الحيوانية ؟

(٥) حدد : العوامل المؤثرة فى مناخ العالم.

تقييمات الأسبوع السابع

المجموعة الأولى

(١) ما المقصود بـ : نظام الاحتكار ؟

(٢) بم تفسر : نشطت التجارة الداخلية والخارجية فى عهد محمد على ؟

(٣) ما النتيجة التى ترتبت على : حاجة محمد على إلى موظفين فى المصالح الحكومية ؟

(٤) دلل تاريخيًا على صحة العبارة : ازدهار النقل والمواصلات فى مصر خلال حكم محمد على.

(٥) قارن بين : حروب شبه الجزيرة العربية، وحروب اليونان، من حيث :

* أسبابها. * نتائجها.

المجموعة الثانية

(١) أيد صحة العبارة تاريخيًا : حاول محمد على الاكتفاء الذاتى فى التصنيع الحربى.

(٢) ما : أهداف إنشاء محمد على للمطبعة الأميرية فى بولاق ؟

(٣) ماذا كان يحدث إذا : لم يتمكن محمد على من ضم السودان ؟

(٤) عدِّد : شروط معاهدة لندن الدولية ١٨٤٠م.

(٥) حدد أسباب : ازدهار الزراعة فى مصر خلال عهد محمد على. (يكتفى بثلاثة أسباب)

المجموعة الثالثة

(١) فسر : اهتمام محمد على بالتنظيمات الإدارية فى مصر.

(٢) اختر الإجابة الصحيحة مما بين القوسين :

توترت العلاقة بين محمد على والسلطان العثمانى عقب حروب .....

(السودان - شبه الجزيرة العربية - الشام - اليونان)

(٣) ما رأيك فى : سياسة الاحتكار التى اتبعها محمد على فى بناء الاقتصاد المصرى ؟

(٤) حدد مدى مصداقية العبارة الآتية :

اعتمد «محمد على» على قوة العمل المحلية إلى جانب الخبرات الأجنبية فى المجال الصناعى.

(٥) ما العلاقة بين : محمد على، والحركة الوهابية ؟

تقييمات الأسبوع الثامن

المجموعة الأولى

(١) فسر: تمثل السلالة المغولية أكثر من ثلث سكان العالم.

(٢) عرف المصطلح الجغرافى : سلالة بشرية.

(٣) حدد السلالة البشرية المنتشرة فى كل منطقة من المناطق الآتية :

سيبيريا - اليابان - مصر - المناطق الاستوائية بأفريقيا.

(٤) دلل جغرافيًا على صحة العبارة : أثرت الهجرات على تعدد السلالات فى الولايات المتحدة الأمريكية.

(٥) ما رأيك فى : بعض السلالات البشرية تعتبر نفسها أكثر ذكاءً وقدرة على العمل ؟

المجموعة الثانية

(١) حدد : الصفات الجسمانية التى تميز السلالة القوقازية عن غيرها.

(٢) وضح سبب : ندرة وجود سكان دولة من سلالة واحدة على مستوى العالم.

(٣) ما العلاقة بين : النشاط الزراعى، ووجود الزنوج فى الأمريكتين ؟

(٤) قارن بين : السلالة المغولية، والسلالة الزنجية، من حيث :

* الشكل الخارجى. * أماكن انتشارها.

(٥) ما تقييمك لمصداقية العبارة :

تُعد الإسكيمو من نماذج السلالات النقية التى تعيش فى غابات أمريكا الجنوبية ؟

المجموعة الثالثة

(١) ماذا يحدث إذا : لم تنصهر السلالة البشرية مع بعضها البعض ؟

(٢) اكتب كلمة (صواب) أو كلمة (خطأ) أمام العبارة الآتية، مع ذكر السبب فى الحالتين :

العرب ليسوا من سلالة بشرية واحدة. ( )

(٣) أيد صحة العبارة : أثرت قارة أفريقيا على التركيب السكانى للأمريكتين.

(٤) أنسب كل قسم من الأقسام البشرية التالية إلى السلالة البشرية التى تتبعها :

الأقزام - المجموعة الألبية - الهنود الحمر - البانتو.

(٥) بم تفسر: اختلاف الشكل الخارجى لسكان المناطق الاستوائية فى قارة آسيا عن الموجودة فى قارة أفريقيا؟

تقييمات الأسبوع التاسع

المجموعة الأولى

(١) دلل على صحة العبارة : أصبح الجيش رمزًا للمساواة بين المصريين فى عهد سعيد باشا.

(٢) فسر : توقف حركة النهضة فى عهد عباس باشا الأول.

(٣) «تخيل أنك مكان سعيد باشا ..» غير بأسلوبك فى :

شروط امتياز قناة السويس لتصبح فى صالح مصر.

(٤) وضح مدى صدق العبارة :

كان للحملات الحربية التى وجهها الخديو إسماعيل إلى أفريقيا جانب إنسانى.

(٥) حدد : اقتراحات بعثة كيف ديسمبر ١٨٧٥م.

المجموعة الثانية

(١) قارن بين : اللائحة السعيدية، واللائحة الأساسية، من حيث :

* الحاكم الذى أصدرها. * الهدف من إصدارها.

(٢) ما العلاقة بين : قناة السويس، والأزمة المالية فى عهد الخديو إسماعيل ؟

(٣) اختر الإجابة الصحيحة مما بين القوسين :

بدأ إنشاء أول خط حديدى بين القاهرة والإسكندرية عام ١٨٥٢م فى عهد .....

(عباس باشا الأول - سعيد باشا - محمد على - الخديو إسماعيل)

(٤) ما النتائج التى ترتبت على : إنشاء المحاكم المختلطة عام ١٨٧٥م ؟

(٥) أيد صحة العبارة تاريخيًا : اهتم سعيد باشا اهتمامًا كبيرًا بالنقل والمواصلات.

المجموعة الثالثة

(١) وضح : اختصاصات المحاكم القنصلية خلال عهد الخديو إسماعيل.

(٢) أعط أمثلة لـ : أهم مطالب لجنة التحقيق العليا الأوروبية ١٨٧٨م.

(٣) حدد الأسباب التى أدت إلى : عزل الخديو إسماعيل فى يونيه ١٨٧٩م وتولية ابنه توفيق.

(٤) ما تقييمك لمدى صحة العبارة : يعد التعليم شاهدًا على مساوئ حكم سعيد باشا لمصر ؟

(٥) دلل تاريخيًا على صحة العبارة : لم يكن خلفاء (محمد على) على شاكلته من القوة والوعى.

اختباران على الشهر الثانى

اختبـــار ١

أولا الجغـرافيـا

أجب عن الأسئلة الآتية:

١ (أ) استعن بخريطة العالم التى أمامك، للإجابة عما يلى :

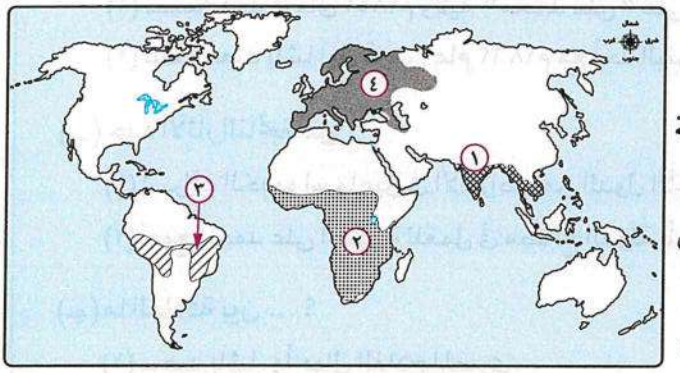

(١) الرقم (٣) يشير إلى سلالة بشرية نقية .....

(٢) الإقليـم المناخى الموسمى يشيرله الرقم .....

(٣) السلالة القوقازية تحمل الرقم .....

(ب) بم تفسر ... ؟

(١) يختلف المناخ داخل القارة الواحدة من منطقة لأخرى.

(٢) نمو الغابات الموسمية فى شبه جزيرة الهند الصينية.

(٣) نشأة السلالات البشرية المختلفة.

(جـ) قارن بين : شمال اليابان، والساحل الأوسط فى شيلى، من حيث :

* الخصائص المناخية. * الخصائص النباتية.

---

٢ (أ) اختر الإجابة الصحيحة مما بين القوسين :

(١) تتركز السلالة المغولية فى قارة ..... (أفريقيا - آسيا - أوروبا - أستراليا)

(٢) يسود الجزر البريطانية مناخ .....

(إقليم البحر المتوسط - إقليم غرب أوروبا - إقليم التندرا - الإقليم الموسمى)

(ب) حدد السلالة البشرية التى تعيش فى المنطقتين التاليتين، ثم وضح أهم صفاتها الجسمانية :

(١) قرب دائرة الاستواء بأفريقيا.

(٢) شمال الصحراء الكبرى.

(جـ) حدد مدى صحة العبارتين التاليتين :

(١) تسقط الأمطار طوال العام على جزيرة مدغشقر.

(٢) يمكن من خلال زيارة الولايات المتحدة الأمريكية دراسة صفات السلالات البشرية مجمعة.

ثانيا التاريخ

٣ (أ) أعد كتابة العبارات الآتية بعد تصويب ما تحته خط :

(١) تضمن أحد فرمانى ١٨٤١م ولاية «محمد على» على الشام.

(٢) عقد سعيد باشا أول قرض عام ١٨٦٢م مع أحد البنوك الفرنسية.

(ب) حدد الآثار الناتجة عن :

(١) إسراف الخديو إسماعيل فى الاقتراض من الدول الأجنبية.

(٢) جمع محمد على الصبية للعمل فى مصانع الدولة بأجور رمزية.

(جـ) ما العلاقة بين ... ؟

(١) سعيد باشا، وأحوال الفلاح المصرى.

(٢) المحاكم القنصلية، والتدخل الأجنبى فى مصر.

(د) ما النتائج التى ترتبت على ... ؟

(١) حروب محمد على فى الشام.

(٢) صدور مرسوم نوفمبر ١٨٧٦م من قبل الخديو إسماعيل.

٤ (أ) رتب الأحداث التاريخية الآتية من الأقدم إلى الأحدث :

* تشكيل الوزارة المختلطة.
* حروب محمد على فى شبه الجزيرة العربية.
* عقد الامتياز الأول لقناة السويس.
* معركة نفارين.

(ب) حدد أسباب ما يلى :

(١) اهتمام محمد على ببناء القوة العسكرية لمصر.

(٢) عزل الخديو إسماعيل فى يونيه ١٨٧٩م وتولية ابنه توفيق.

(٣) استعانة محمد على ببعض الأساتذة الأجانب.

(جـ) اذكر عملًا واحدًا لكل من :

(١) عباس باشا الأول.
(٢) إسماعيل باشا.
(٣) على مبارك

اختبار ٢

أولًا الجغرافيا

أجب عن الأسئلة الآتية :

١ (أ) أمامك خريطة للعالم، وضح ما تدل عليه الأرقام التى عليها :

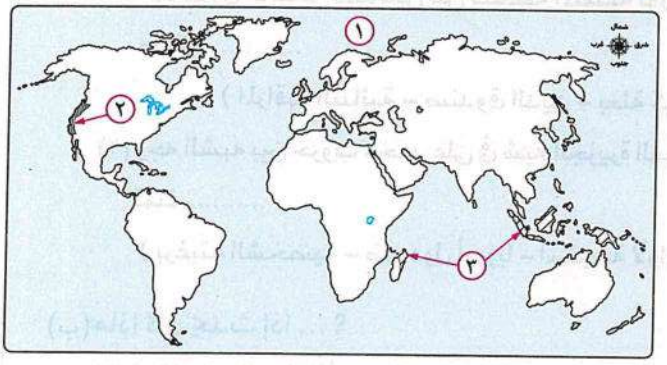

(١) مسطح مائى .....

(٢) إقليم مناخى .....

(٣) سلالة بشرية .....

(ب) حدد مدى تقييمك لصدق العبارتين التاليتين :

(١) تتشابه سهول سيبيريا مع حوض الكونغو نباتيًا.

(٢) تنتمى السلالات النقية فى قارتى أمريكا الشمالية وأمريكا الجنوبية لسلالة واحدة.

(جـ) ما النتائج المترتبة على ... ؟

(١) ذوبان الجليد فى إقليم التندرا (بالنسبة للحياة النباتية).

(٢) انصهار السلالات البشرية واختلاط صفاتها الطبيعية.

(د) ماذا يحدث إذا : تغير المناخ فى شمال قارة أوروبا إلى المناخ المعتدل البارد شرق القارات ؟

---

٢ (أ) صوب ما تحته خط :

(١) تعيش جماعة الإسكيمو فى سيبيريا.

(٢) يسود أقصى شمال قارة أستراليا إقليم المناخ الاستوائى وشبه الاستوائى.

(ب) وضح أوجه التشابه والاختلاف بين :

إقليم مناخ البحر المتوسط، وإقليم المناخ المعتدل شرق القارات (الصينى).

(جـ) بم تفسر ... ؟

(١) تعرض عدد كبير من الزنوج بأفريقيا للهجرات القسرية إلى الأمريكتين.

(٢) العرب ليسوا من سلالة بشرية واحدة.

(٣) تدرج حشائش الساڤانا فى أطوالها كلما اتجهنا شمالًا وجنوبًا من دائرة الاستواء.

(د) حدد السلالة البشرية المنتشرة فى كل منطقة من المناطق الآتية :

(١) منغوليا. (٢) جنوب شرق الهند. (٣) ليبيا.

ثانيًا التاريخ

٣ (أ) اختر الإجابة الصحيحة مما بين القوسين :

(١) جاء تنازل الخديو إسماعيل عن سلطته المطلقة لوزارة مسئولة عن الحكم فى البلاد نتيجة مطالبة .....

(المراقبة الثنائية - صندوق الدين - بعثة كيف - لجنة التحقيق العليا الأوروبية)

(٢) وجه الشبه بين حروب محمد على فى شبه الجزيرة العربية وحروبه فى اليونان هو أن كل منهما تمت .....

(برغبته الشخصية - ضد دول أوروبا - استجابة لأوامر السلطان - تحقيقًا للإرادة الشعبية)

(ب) ماذا كان يحدث إذا ... ؟

(١) لم تفرض الدول الأوروبية معاهدة لندن ١٨٤٠م على «محمد على».

(٢) لم يصدر مرسوم أبريل ١٨٧٩م بتسوية الديون طبقًا للائحة الوطنية.

(ج) أيد تاريخيًا صحة العبارتين التاليتين :

(١) جاءت معظم شروط عقد الامتياز الثانى لمشروع قناة السويس ظالمة لمصر والمصريين.

(٢) قام محمد على بتطوير وتحديث الإنتاج الصناعى فى مصر.

---

٤ (أ) اكتب ما تشير إليه كل عبارة من العبارات الآتية :

(١) تسهيلات منحتها الدولة العثمانية لرعايا بعض الدول الأوروبية تشجيعًا لهم على الإقامة والتجارة.

(٢) محاكم كانت تفصل فى المنازعات التى تنشأ بين الأجانب والحكومة المصرية نفسها.

(٣) نظام تقوم فيه الحكومة ممثلة فى محمد على بتحديد نوع الغلات التى تزرع ونوع المصنوعات التى تنتج وتحديد أثمان شرائها وبيعها فى السوق.

(٤) صحيفة أصدرت فى عهد محمد على من خلال المطبعة الأميرية فى بولاق.

(ب) حدد أسباب ما يلى :

(١) نجاح محمد على فى تجنيد المصريين.

(٢) توجيه الخديو إسماعيل حملات عسكرية إلى الأقاليم الاستوائية فى أفريقيا.

(٣) كان صندوق الدين بمثابة خزانة فرعية للخزانة المصرية فى عهد الخديو إسماعيل.

(ج) استنتج الهدف من : قيام إسماعيل بتقديم المال والهدايا للسلطان العثمانى.

تقييمات الشهر الثالث

تقييمات الأسبوع العاشر

المجموعة الأولى

(١) ما المقصود بـ : الهجرات غير الشرعية ؟

(٢) دلل على صحة العبارة : أثرت التضاريس فى توزيع سكان قارة أفريقيا.

(٣) بم تفسر : تركز السكان فى ولايات الوسط بالولايات المتحدة الأمريكية ؟

(٤) ما العلاقة بين : النبات الطبيعى، وتوزيع السكان فى شمال أستراليا ؟

(٥) اكتب كلمة (صواب) أو كلمة (خطأ) أمام العبارة الآتية، مع ذكر السبب فى الحالتين :

يتشابه سبب قلة السكان فى شمال ووسط قارة آسيا. ( )

المجموعة الثانية

(١) ما الآثار الناتجة عن : زيادة عدد السكان فى معظم دول قارة آسيا ؟

(٢) وضح سبب : قلة السكان فى دولتى فنلندا والنرويج.

(٣) حدد وجه الشبه بين :

الساحل الشرقى لأمريكا الشمالية، والساحل الشرقى لأستراليا من حيث توزيع السكان.

(٤) أيد بالأدلة الجغرافية صحة العبارة : يؤثر المناخ فى توزيع سكان قارة أفريقيا.

(٥) ما رأيك فى : تعد السهول الساحلية من مناطق تركز السكان فى العالم ؟

المجموعة الثالثة

(١) حدد سبب تركز السكان فى المناطق التالية :

① غرب ووسط أوروبا. ② وادى النيل بمصر والسودان. ③ هضبة البرازيل.

(٢) ما النتائج المترتبة على : وقوع قارة أنتاركتيكا أقصى جنوب الكرة الأرضية ؟ (بالنسبة لتوزيع السكان).

(٣) حدد وجه الارتباط بين : التربة فى جزيرة جاوة، وتوزيع السكان ؟

(٤) قارن بين : سهول سيبيريا، وسهول البمباس، من حيث :

* القارة المنتميين إليها. * توزيع السكان.

(٥) حدد مصداقية العبارة التالية :

يقل عدد السكان فى حوض نهر الأمازون بالرغم من أنه أوسع سهول فيضية فى العالم.

تقييمات الأسبوع الحادى عشر

المجموعة الأولى

(١) ما الفرق بين : اللائحة الأساسية فى عهد كل من وزارة شريف باشا ١٨٨١م، ووزارة البارودى ١٨٨٢م ؟

(٢) ما المقصود بالمصطلح التاريخى التالى : احتلال ؟

(٣) وضح : موقف عرابى من تحرك القوات البريطانية نحو منطقة قناة السويس.

(٤) أيد تاريخيًا صحة العبارة : تعددت العوامل الداخلية التى أدت إلى فشل الثورة العرابية ١٨٨٢م.

(٥) حدد مدى صدق العبارة : اتخذ الخديو توفيق سياسة أدت إلى زيادة التدخل الأجنبى فى شئون البلاد.

المجموعة الثانية

(١) ما وجه الارتباط بين : المؤثرات الفكرية الغربية، والثورة العرابية ؟

(٢) اكتب كلمة (صواب) أو كلمة (خطأ) أمام العبارة الآتية، مع ذكر السبب فى الحالتين :

ظهر الدعم الشعبى لأول مرة للعرابيين فى حادثة قصر النيل. ( )

(٣) حدد الآثار الناتجة عن : حادثة الإسكندرية ١١ يونيه ١٨٨٢م.

(٤) بم تفسر : إرسال إنجلترا وفرنسا المذكرة المشتركة الأولى فى يناير ١٨٨٢م ؟

(٥) ما تقييمك لمصداقية العبارة الآتية : كانت المستعمرات البريطانية فى الهند مكانًا لمعاقبة القادة المصريين فى الربع الأخير من القرن الـ ١٩م ؟

المجموعة الثالثة

(١) ماذا كان يحدث إذا : رفض الخديو توفيق مطالب الوطنيين فى ٩ سبتمبر ١٨٨١م ؟

(٢) ما العلاقة بين : الأوضاع الداخلية فى مصر، ومؤتمر الآستانة ؟

(٣) دلل تاريخيًا على صحة العبارة :

خالفت إنجلترا الاتفاقيات الدولية عام ١٨٨٢م (بالنسبة لقناة السويس).

(٤) قارن بين : معركة كفر الدوار، ومعركة التل الكبير، من حيث النتائج.

(٥) حدد سبب : إرسال إنجلترا وفرنسا المذكرة المشتركة الثانية.

تقييمات الأسبوع الثانى عشر

المجموعة الأولى

(١) ما المقصود بـ : ديموجرافيا ؟

(٢) أعط تفسيرًا لـ : ارتفاع نسبة كبار السن فى الدول المتقدمة.

(٣) حدد تقييمك لمصداقية العبارة : يؤثر المستوى المعيشى بدولة ما فى معدلات الوفيات بها.

(٤) ما العلاقة بين : الدخل الاقتصادى، والنشاط الصناعى كنشاط رئيسى فى الدولة ؟

(٥) صنف : دول العالم من حيث الرعاية الطبية، مع إعطاء مثال لكل منها.

المجموعة الثانية

(١) ما النتائج المترتبة على : ارتفاع نسبة فئة صغار السن فى الدول النامية ؟

(٢) ماذا يحدث إذا : لم يتم استخراج البترول وتصديره فى دول الخليج العربى ؟ (بالنسبة لاقتصادها).

(٣) حدد وجه الارتباط بين : درجة تقدم الدول، وانتشار الأمية بها.

(٤) فسر : ارتفاع معدل المواليد فى قارة أفريقيا بشكل كبير.

(٥) اختر الإجابة الصحيحة مما بين القوسين :

من الدول ذات الدخل الاقتصادى الزراعى المنخفض .....

(هايتى - باكستان - تركيا - جنوب أفريقيا)

المجموعة الثالثة

(١) أعط أمثلة لـ : الدول التى تعتمد على التصنيع النامى والأنشطة التقليدية.

(٢) ما مقترحاتك لـ : خفض معدل الزيادة الطبيعية فى قارة أفريقيا ؟

(٣) عرف المصطلح الجغرافى : قوة العمل.

(٤) حدد مدى صحة العبارة : هناك بعض العادات والتقاليد التى تؤثر فى معدل تعليم الإناث.

(٥) حدد أسباب : ارتفاع نسبة المتعلمين فى مصر نحو ٦٥ ٪ من السكان.

تقييمات الأسبوع الثالث عشر

المجموعة الأولى

(١) ما العلاقة بين : الاحتلال البريطانى، والحياة النيابية فى مصر ؟

(٢) ما الأثر الناتج عن : تنديد الزعيم مصطفى كامل بحادثة دنشواى عام ١٩٠٦م ؟

(٣) حدد (العبارة صادقة أو غير صادقة) مع ذكر السبب :

تولى محمد فريد الحركة الوطنية فى ظروف صعبة.

(٤) دلل تاريخيًا على صحة العبارة : تعددت الحجج التى اتخذتها إنجلترا لاحتلال مصر.

(٥) اكتب من وجهة نظرك : الدروس المستفادة من كفاح مصطفى كامل.

المجموعة الثانية

(١) حدد وجه الارتباط بين : محمد فريد، وحقوق العمال المصريين.

(٢) أيد صحة العبارة تاريخيًا : عملت بريطانيا على فرض سياسة اقتصادية تخدم مصالحها.

(٣) حدد : أهم الجهود الداخلية لمصطفى كامل ضد الاحتلال الإنجليزى.

(٤) اكتب كلمة (صواب) أو كلمة (خطأ) أمام العبارة الآتية، مع ذكر السبب فى الحالتين :

كان الاتفاق الودى ١٩٠٤م ضربة قوية للحركة الوطنية فى مصر. ( )

(٥) ماذا كان يحدث إذا : فشل محمد فريد فى منع مد امتياز قناة السويس ٤٠ سنة أخرى ؟

المجموعة الثالثة

(١) ما المقصود بـ : الاتفاق الودى ؟

(٢) بم تفسر : دعوة محمد فريد لإنشاء مدارس الشعب الليلية ؟

(٣) حدد مدى صحة العبارة : أصبحت السلطة الفعلية فى يد الخديو عقب الاحتلال الإنجليزى لمصر.

(٤) ما النتائج التى ترتبت على : سياسة بريطانيا التى طبقتها على الاقتصاد المصرى ؟

(٥) وضح : جهود مصطفى كامل الخارجية لجلاء الاحتلال عن مصر.

تقييمات الأسبوع الرابع عشر

المجموعة الأولى

(١) بم تفسر: قيام ثورة ١٩١٩م ؟

(٢) ما الآثار الناتجة عن : فشل مفاوضات عدلى - كيرزون مارس ١٩٢١م ؟

(٣) دلل على صحة أو خطأ العبارة : اقتصرت ثورة ١٩١٩م على القاهرة.

(٤) عرف المفهوم التاريخى : الحماية البريطانية.

(٥) حدد : أهم نصوص تصريح ٢٨ فبراير ١٩٢٢م.

المجموعة الثانية

(١) أيد تاريخيًا صحة العبارة :

تناقض موقف الرئيس الأمريكى ولسن من قضايا استقلال الشعوب.

(٢) اختر الإجابة الصحيحة مما بين القوسين :

أدى إعلان بريطانيا لتصريح ٢٨ فبراير ١٩٢٢م إلى ..... (استقالة عدلى يكن - تغيير لقب حاكم مصر - إعلان الحماية البريطانية على مصر - بدء مفاوضات سعد / ملنر)

(٣) ماذا كان يحدث إذا : تفاوض المصريون مع لجنة ملنر؟

(٤) ما النتائج التى ترتبت على : نفى سعد زغلول إلى جزيرة سيشل ؟

(٥) وضح : أهم إيجابيات تصريح ٢٨ فبراير ١٩٢٢م.

المجموعة الثالثة

(١) دلل على صحة العبارة :

المقاطعة هى أسلوب سلمى استخدمه الشعب المصرى مرتين فى أحداث ثورة ١٩١٩م.

(٢) حدد الأثر السلبى لـ : تصريح ٢٨ فبراير ١٩٢٢م بالنسبة لمصر.

(٣) ما العلاقة بين : الحرب العالمية الأولى، وثورة ١٩١٩م ؟

(٤) ما مدى تقييمك لصدق العبارة : اشترك جميع طوائف الشعب المصرى فى ثورة ١٩١٩م ؟

(٥) فسر : القبض على سعد زغلول وزملائه فى مارس ١٩١٩م ونفيهم إلى جزيرة مالطة.

تقييمات الأسبوع الخامس عشر

المجموعة الأولى

(١) قارن بين : تصريح ٢٨ فبراير ١٩٢٢م، ومعاهدة ١٩٣٦م، من حيث عيوب كل منهما.

(٢) ما النتائج التى ترتبت على : اغتيال السير لى ستاك فى نوفمبر ١٩٢٤م ؟

(٣) حدد : مزايا دستور ١٩ أبريل ١٩٢٣م.

(٤) ما العلاقة بين : حادثة ٤ فبراير ١٩٤٢م، ووزارة مصطفى النحاس ؟

(٥) ما رأيك فى : إلغاء معاهدة ١٩٣٦م فى أكتوبر ١٩٥١م ؟

المجموعة الثانية

(١) ماذا كان يحدث إذا : لم يعترض الشعب المصرى على دستور ١٩٣٠م ؟

(٢) دلل تاريخيًا على صحة العبارة : لم يخل دستور ١٩٢٣م من العيوب.

(٣) ما وجه الارتباط بين : معاهدة ١٩٣٦م، والأوضاع المصرية بالسودان ؟

(٤) حدد تقييمك لمدى صدق العبارة :

تعددت الأحزاب السياسية التى أفادت الحياة النيابية فى مصر بعد صدور دستور ١٩٢٣م.

(٥) بم تفسر : الخلاف بين حكومة مصر والإنجليز بعد اندلاع الحرب العالمية الثانية ١٩٣٩م ؟

المجموعة الثالثة

(١) أيد تاريخيًا صحة العبارة : كان لجنود الشرطة دورًا ضد الاحتلال البريطانى فى ٢٥ يناير ١٩٥٢م.

(٢) ما الآثار الناتجة عن : صدور دستور ١٩٢٣م ؟

(٣) حدد : ثلاث من نصوص معاهدة ١٩٣٦م.

(٤) اكتب كلمة (صواب) أو كلمة (خطأ) أمام العبارة الآتية، مع ذكر السبب فى الحالتين :

أيد مجلس الأمن عام ١٩٤٧م رغبة الحكومة المصرية فى الجلاء الكامل للقوات البريطانية عن مصر. ( )

(٥) وضح : نتائج حادث ٤ فبراير ١٩٤٢م.

اختباران على الشهر الثالث

اختبـــار ١

أولًا الجغـرافيـا

أجب عن الأسئلة الآتية:

١ (أ) أمامك خريطة للعالم، اكتب مدلول الأرقام الموقعة عليها:

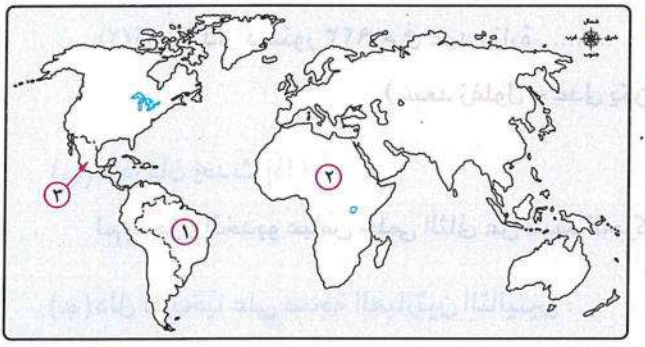

(١) أكبر دول القارة سكانًا .....

(٢) أعلى القارات فى معدلات المواليد .....

(٣) دولة ذات دخل اقتصادى فوق المتوسط .....

(ب) استنتج أسباب ما يلى:

(١) يتركز سكان العالم فى المدن الكبرى.

(٢) انخفاض نسبة الأمية فى السنوات الأخيرة فى مصر.

(٣) اختلاف الخصائص الاقتصادية لسكان العالم.

(جـ) ما رأيك فى: العادات والتقاليد التى تؤثر على معدل تعليم الإناث فى بعض دول العالم ؟

---

٢ (أ) صوب ما تحته خط:

(١) عدد السكان ثابت فى قارة أمريكا الجنوبية.

(٢) يقل السكان فى أمريكا الشمالية فى دول البرزخ مثل المكسيك.

(ب) ما العلاقة بين ... ؟

(١) معدل الزيادة الطبيعية، والدول المتقدمة.

(٢) نصيب الفرد من الدخل القومى، والنشاط الزراعى فى قارة أفريقيا.

(جـ) حدد الآثار الناتجة عن:

(١) ارتفاع معدلات المواليد وانخفاض معدلات الوفيات فى مصر.

(٢) سيادة الظروف الصحراوية فى غرب أستراليا.

(د) ما المقصود بكل من ... ؟

(١) الزيادة الطبيعية. (٢) التركيب العمرى.

ثانيًا التاريـــخ

٣ (أ) اختر الإجابة الصحيحة مما بين القوسين :

(١) عُين أحمد عرابى وزيرًا للجهادية فى وزارة ..... (رياض - شريف - البارودى - نوبار)

(٢) تم إصدار دستور ١٩٢٣م فى عهد وزارة .....

(سعد زغلول - عدلى يكن - إسماعيل صدقى - عبدالخالق ثروت)

(ب) ماذا كان يحدث إذا :

لم يتحول الخديو عباس حلمى الثانى عن تأييد الحركة الوطنية إلى موالاة الاحتلال ؟

(جـ) دلل تاريخيًا على صحة العبارتين التاليتين :

(١) حققت معاهدة ١٩٣٦م بين مصر وبريطانيا بعض المكاسب لمصر.

(٢) أكدت ثورة ١٩١٩م على الوحدة الوطنية بين أبناء الأمة المصرية.

(د) ما المقصود بـ : حق تقرير المصير للشعوب ؟

---

٤ (أ) رتب الأحداث التاريخية الآتية من الأقدم إلى الأحدث :

* نفى سعد زغلول إلى جزيرة مالطة. * حريق القاهرة.

* إصدار جريدة اللواء. * الاحتلال البريطانى لمصر.

(ب) بم تفسر ... ؟

(١) تدبير الضباط الشراكسة لمؤامرة عام ١٨٨٢م.

(٢) استمرار المصريين فى مواصلة الكفاح بعد الاحتلال البريطانى.

(٣) لم يحقق تصريح ٢٨ فبراير ١٩٢٢م لمصر استقلالها الكامل.

(جـ) قارن بين : إنذار اللورد اللنبى للحكومة المصرية ٢٢ نوفمبر ١٩٢٤م، والإنذار البريطانى للحكومة المصرية ٤ فبراير ١٩٤٢م، من حيث : الأسباب.

اختبـــار ٢

أولاً الجغـرافيـا

أجب عن الأسئلة الآتية :

١ (أ) أمامك خريطة للعالم، اكتب فى كراسة إجابتك مدلول الأرقام الموضحة عليها :

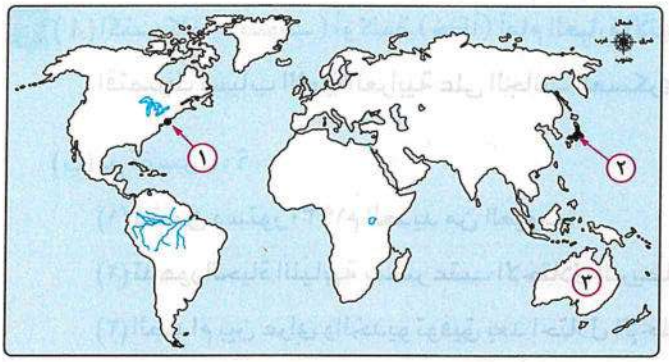

(١) مدينة .....

(٢) منطقة تركز سكانى .....

(٣) أعلى قارات العالم فى نصيب الفرد من الدخل القومى .....

(ب) حدد مدى تقييمك لمصداقية العبارتين الآتيتين :

(١) يزداد عدد السكان فى المناطق الشمالية لقارة أوروبا.

(٢) يُعد عدد الأطباء مؤشرًا على الرعاية الطبية فى دول العالم.

(جـ) *«يختلف توزيع السكان من منطقة إلى أخرى داخل قارات العالم»*.

فى ضوء العبارة، أجب عما يأتى :

(١) حدد أهم المشكلات المترتبة على زيادة عدد السكان فى معظم دول قارة آسيا.

(٢) ما مقترحاتك لـ : النهوض بمستوى الخدمات التعليمية فى الدول النامية ؟

---

٢ (أ) اختر الإجابة الصحيحة مما بين القوسين :

(١) توجد أعلى نسب من السكان البالغين فى دول .....

(شمال أوروبا - غرب أوروبا - شمال آسيا - غرب آسيا)

(٢) يتركز السكان فى مناطق السهول الفيضية مثل سهول نهر..... فى الصين.

(الجانج - الفرات - اليانجتسى - دجلة)

(ب) أى منطقة مما يأتى يتركز بها السكان ... ؟ وأيها يقل بها السكان ؟ ولماذا ؟

(١) غرب أستراليا. (٢) سهول البمباس.

(جـ) حدد وجه الارتباط بين :

(١) الحروب والكوارث الطبيعية، ومعدل الوفيات فى العالم.

(٢) التضاريس، وقلة السكان فى قارة أوروبا.

ثانيا التاريـــخ

٣ (أ) اكتب كلمة (صواب) أو كلمة (خطأ) أمام العبارة الآتية، مع ذكر السبب فى الحالتين :

اقتصرت أسباب الثورة العرابية على الجانب العسكرى. ( )

(ب) بم تفسر ... ؟

(١) تضمن دستور ١٩٣٠م العديد من العيوب.

(٢) تدهور الحياة النيابية بمصر عقب الاحتلال البريطانى.

(٣) الصدام بين عرابى والخديو توفيق بعد احتلال الإنجليز مدينة الإسكندرية.

(جـ) *«ارتبط شهر فبراير من عامى ١٩٢٢م، ١٩٤٢م بأحداث مهمة فى تاريخ مصر»*.

فى ضوء ذلك وضح :

الآثار الناتجة عن الأحداث المرتبطة بشهر فبراير من هذين العامين.

---

٤ (أ) إلى من تنسب الأعمال التاريخية الآتية ... ؟

(١) صمد بقواته أمام القوات البريطانية فى معركة التل الكبير إلى أن استشهد هو ومعظم رجاله.

(٢) أصدر أمرًا بعزل عرابى من وزارة الحربية يوليو ١٨٨٢م.

(٣) دعا إلى رفض اتفاقية الحكم الثنائى للسودان يناير ١٨٩٩م.

(٤) قام بإلغاء معاهدة ١٩٣٦م فى أكتوبر ١٩٥١م.

(ب) دلل على صحة العبارتين الآتيتين :

(١) استفاد محمد فريد من الدعم الشعبى فى كفاحه ضد امتياز شركة قناة السويس.

(٢) الاتفاق الودى عام ١٩٠٤م لا يعبر إلا عن المصالح الاستعمارية.

(جـ) ما العلاقة بين : قناة السويس، واحتلال الإنجليز لمصر ؟

ثانيًا

أسئلة عامة وامتحانات على الوحدات

مجاب عنها

تشمل :

- أسئلة عامة وامتحان على كل وحدة.
- امتحان على الجغرافيا.
- امتحان على التاريخ.



أسئلة عامة على الوحدة الأولى

١ الخرائط

① أمامك خريطة للعالم، لاحظها جيدًا ثم أجب :

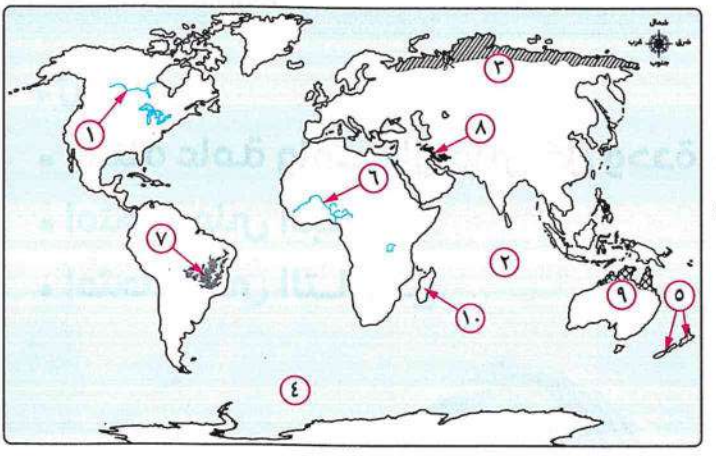

(١) المحيط الهندى يمثله رقم .....

(٢) المحيط القطبى الجنوبى يمثله رقم .....

(٣) نهر النيجر يمثله رقم .....

(٤) نهر نلسن يمثله رقم .....

(٥) جبال زاجروس يمثلها رقم .....

(٦) هضبة البرازيل يمثلها رقم .....

(٧) جزر نيوزيلندا يمثلها رقم .....

(٨) إقليم مناخ التندرا يمثله رقم .....

② أمامك خريطة لقارة آسيا، اكتب ما تدل عليه الأرقام التى عليها :

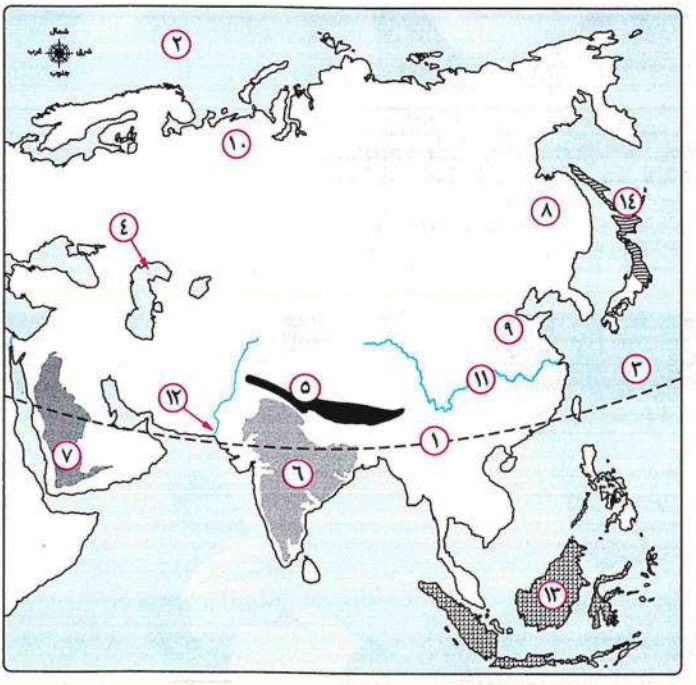

(١) مـــدار.....

(٢) المحيـط .....

(٣) المحيـط .....

(٤) بـحـــر.....

(٥) جبـــال .....

(٦) هضبـــة .....

(٧) هضبـــة .....

(٨) سهـــول .....

(٩) سهـــول .....

(١٠) سهـول .....

(١١) نهـــر.....

(١٢) نهـــر .....

(١٣) إقليم مناخى.....

(١٤) إقليم مناخى.....

③ أمامك خريطة لقارة أفريقيا، اكتب ما تدل عليه الأرقام التى عليها :

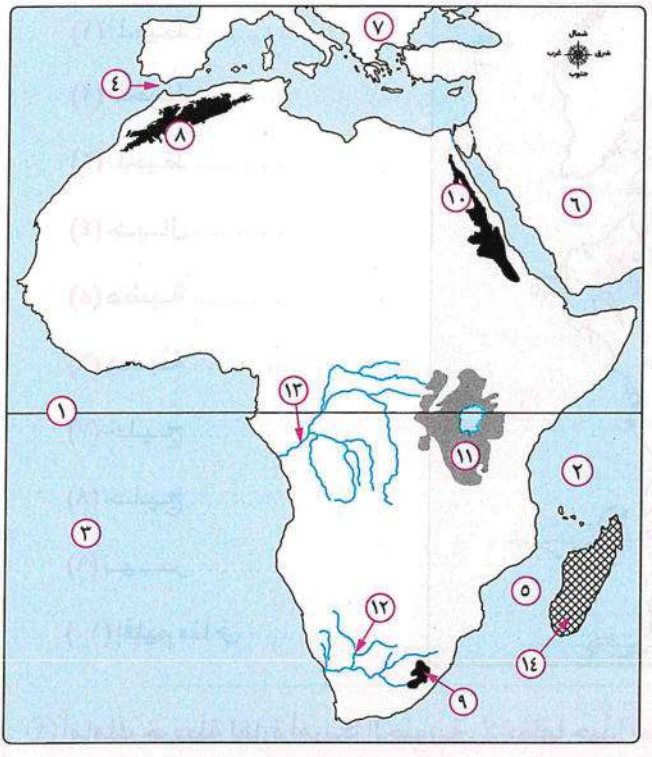

(١) دائـــرة .....
(٢) المحيط .....
(٣) المحيط .....
(٤) مضيـق .....
(٥) مضيـق .....
(٦) قـــارة .....
(٧) قـــارة .....
(٨) جبـــال .....
(٩) جبـــال .....
(١٠) جبال .....
(١١) هضبة .....
(١٢) نهـــر .....
(١٣) نهـــر .....
(١٤) إقليم مناخى .....

④ أمامك خريطة لقارة أوروبا، اكتب ما تدل عليه الأرقام التى عليها :

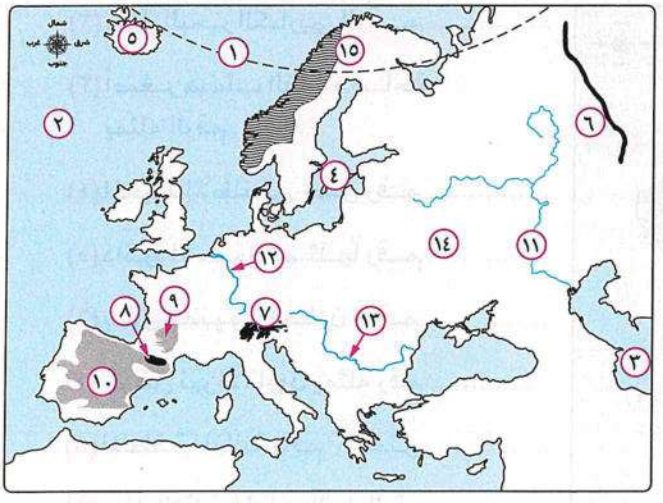

(١) الدائـــرة .....
(٢) المحيـــط .....
(٣) بحـــــر .....
(٤) البحـــــر .....
(٥) جـــزيـــرة .....
(٦) جبـــال .....
(٧) جبـــال .....
(٨) جبـــال .....
(٩) هضبـــة .....
(١٠) هضبـــة .....
(١١) نهـــر .....
(١٢) نهـــر .....
(١٣) نهـــر .....
(١٤) السهـل .....
(١٥) إقليم مناخى .....

⑤ أمامك خريطة لقارة أمريكا الشمالية، اكتب ما تدل عليه الأرقام التى عليها :

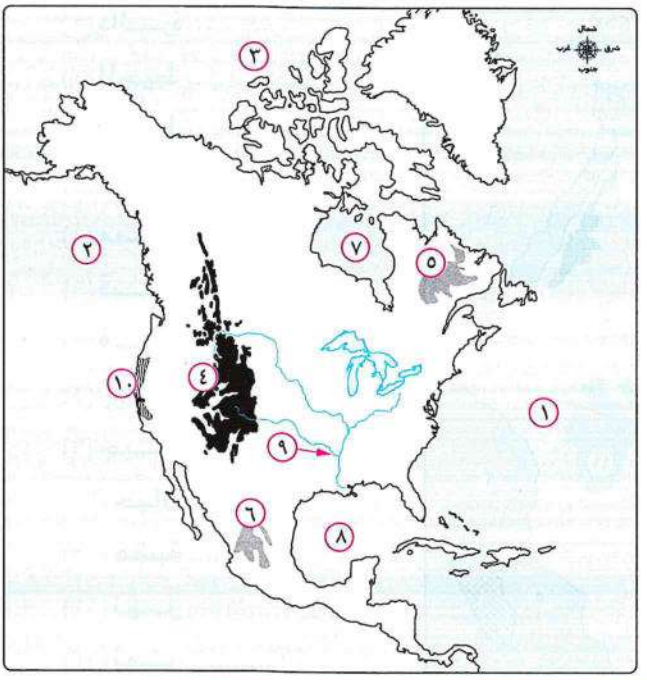

(١) المحيط .....

(٢) المحيط .....

(٣) المحيط .....

(٤) جبال .....

(٥) هضبة .....

(٦) هضبة .....

(٧) خليج .....

(٨) خليج .....

(٩) نهر .....

(١٠) إقليم مناخى .....

⑥ أمامك خريطة لقارة أمريكا الجنوبية، لاحظها جيدًا ثم أجب :

(١) أكبر محيطات العالم مساحة يمثله الرقم .....

(٢) يمثل البحر الكاريبى الرقم .....

(٣) أصغر هضاب القارة مساحة يمثله الرقم .....

(٤) المحيط الأطلنطى يحمل رقم .....

(٥) دائرة الاستواء يمثلها رقم .....

(٦) يمثل مضيق ماجلان الرقم .....

(٧) حوض نهر الأمازون يمثله رقم .....

(٨) المنطقة المظللة برقم ⑥ تمثل .....

(٩) يمثل الإقليم المدارى الحار الرقم .....

(١٠) يشير الرقم ⑧ إلى نهر .....



⑦ أمامك خريطة لقارتى أمريكا الشمالية وأمريكا الجنوبية، اكتب ما تشير إليه الأرقام التى عليها :

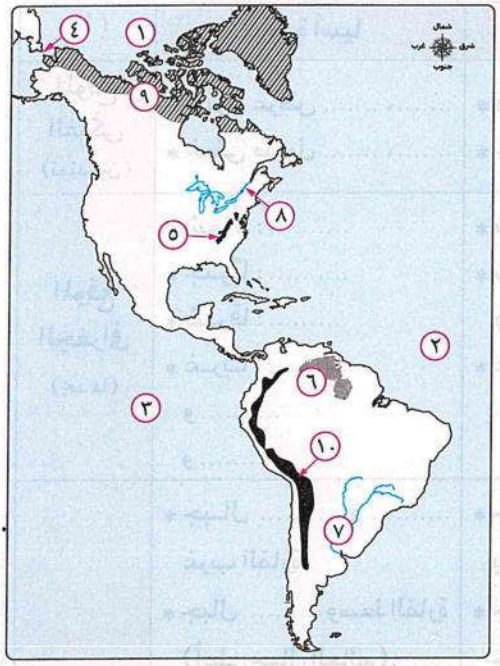

(١) المحيط .....

(٢) المحيط .....

(٣) المحيط .....

(٤) مضيق .....

(٥) جبال .....

(٦) هضبة .....

(٧) نهر .....

(٨) نهر .....

(٩) إقليم مناخى .....

(١٠) إقليم مناخى .....

⑧ أمامك خريطة لقارة أستراليا، اكتب ما تدل عليه الأرقام التى عليها :

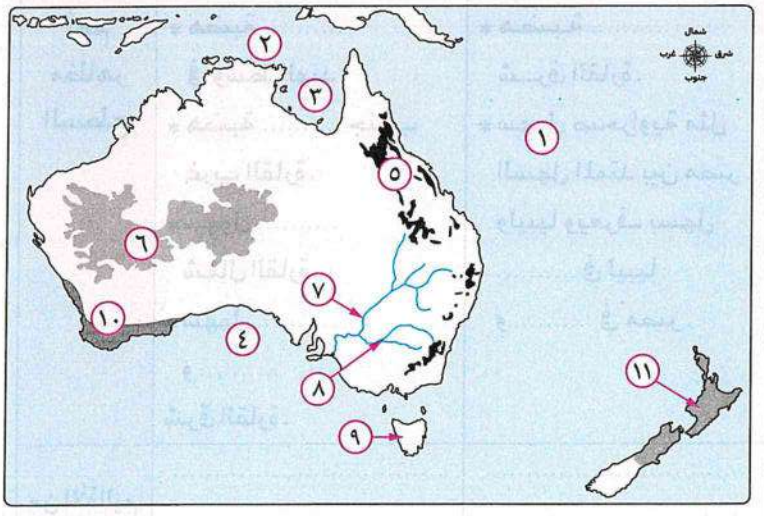

(١) المحيط .....

(٢) بحر .....

(٣) خليج .....

(٤) الخليج .....

(٥) جبال .....

(٦) الهضبة .....

(٧) نهر .....

(٨) نهر .....

(٩) جزيرة .....

(١٠) إقليم مناخى .....

(١١) إقليم مناخى .....

٢ أكمل الجدولين الآتيين

(أ)	قارة آسيا	قارة أفريقيا	قارة أوروبا
الموقع الفلكى (تمتد بين)	* دائرتى عرض ..... ، ..... * خطى طـول ..... ،	* دائرتى عرض ..... ، ..... * خطى طول ..... ،	* دائرتى عرض ..... ، ..... * خطى طول ..... ، .....
الموقع الجغرافى (يحدها)	* شمالًا : ..... * جنوبًا : ..... * شـرقًا : ..... * غـربًا : ..... و ..... و	* شمالًا : ..... * شـرقًا : ..... و ..... * غـربًا :	* شمالًا : ..... * جنـوبًا : ..... * شـرقًا : ..... * غـربًا : .....
أهم مظاهر السطح	* جبـال ..... و ..... غرب القارة. * جبال ..... وسط القارة (أعلى جبال العالم). * جـبال ..... شـرق القارة. * هضبة ..... فى وسط الهند. * هضبة ..... جنوب غرب القارة. * سهول ..... شمال القارة. * سهول ..... و ..... شرق القارة.	* جبال ..... تحصر بينها هضبة الشطوط. * جبـال ..... فى أقـصى جنوب شرق القارة. * هضبة ..... وسط القارة. * هـضبـة ..... شـرق القارة. * سهول صحراوية مثل السهل الممتد بين مصر وليبيا ويعرف بسهل ..... فى ليبيا و ..... فى مصر.	* جبال ..... تمتد فى شبه جزيرة البلقان. * جبال ..... فى شمال إسبانيا. * هضبة ..... تشغل معظم إسبانيا. * هضبة ..... تقطعها أنهار مثل نهر السين. * السهل ..... ويمتـد مـن ساحـل المحيط الأطلنطى غربًا حتى جبال أورال شرقًا.
من الأقاليم المناخية التى تظهر بها	....	....	....

(ب)	قارة أمريكا الشمالية	قارة أمريكا الجنوبية	قارة أستراليا
الموقع الفلكى (تمتد بين)	* دائرتى عرض ..... ، ..... * خطى طول ..... ،	* دائرتى عرض ..... ، ..... * خطى طول ..... ،	* دائرتى عرض ..... ، ..... * خطى طول ..... ، .....
الموقع الجغرافى (يحدها)	* شمالًا : ..... * شرقًا : ..... * غربًا : ..... * من الجنوب الشرقى : ..... و	* شمالًا : ..... * شرقًا : ..... * غربًا :	* شمالًا : ..... * جنوبًا وغربًا : ..... * شرقًا : .....
أهم مظاهر السطح	* جبال ..... غرب القارة (أعلى جبال القارة). * هضبة ..... شمال شرق القارة. * هضبة ..... جنوب القارة. * سهول نهر ..... الذى يصب فى خليج المكسيك.	* جبال ..... غرب القارة. * هضبة ..... شرق القارة (أعلى هضاب القارة). * هضبة ..... جنوب القارة. * سهول حوض نهر ..... أوسع سهول فيضية فى العالم.	* جبال ..... تمتد على طول الساحل الشمالى الشرقى للقارة وتعرف باسم ..... * الهضبة ..... وتشغل نصف مساحة القارة. * سهول نهرا ..... و ..... اللذان يصبان فى الخليج الأسترالى الكبير.
من الأقاليم المناخية التى تظهر بها	.....	.....	.....

٣ اختر الإجابة الصحيحة مما بين القوسين

(١) قارة من قارات العالم القديم تقع بأكملها فى نصف الكرة الشمالى .....

(آسيا - أوروبا - أمريكا الشمالية - أفريقيا) (مطروح ٢٣)

(٢) تقع شبه جزيرة الملايو فى قارة ..... (أوروبا - أفريقيا - آسيا - أمريكا الجنوبية)

(٣) تفصل جبال ..... بين آسيا وأوروبا. (البرانس - الألب - القوقاز - أورال) (أسيوط ١٧)

(٤) من الدول الجزرية فى قارة أفريقيا .....
(نيوزيلندا - اليابان - الفلبين - مدغشقر) (المنوفية ٢٥)

(٥) يحد قارة أوروبا من الشمال المحيط .....
(القطبى الشمالى - الأطلنطى - الهادى - الهندى) (الإسكندرية ٢٢)

(٦) تتكون قارة أستراليا من مجموعة جزر منها جزيرة .....
(مدغشقر - آيسلندا - سومطرة - تسمانيا) (الجيزة ٢٠)

(٧) يفصل قارة أستراليا عن جزر إندونيسيا بحر.....
(المرجان - آرافورا - مرمرة - تسمانيا) (السويس ١٨)

(٨) تكثر الجزر القريبة من السواحل بقارتى .....
(أفريقيا وآسيا - أستراليا وأمريكا الجنوبية - أوروبا وأفريقيا - آسيا وأوروبا) (الدقهلية ١٦)

(٩) أعلى قمة جبلية فى العالم قمة ..... (كلمنجارو - زاجروس - إفرست - كينيا)

(١٠) تظهر السلاسل الجبلية غرب قارة آسيا ومنها جبال ..... فى تركيا.
(زاجروس - طوروس - الهيمالايا - أطلس) (الفيوم ٢٠)

(١١) يوجد ..... شرق أفريقيا.
(جبل كلمنجارو - جبال دراكنزبرج - جبال الهيمالايا - جبال أطلس)

(١٢) تتسع السهول الساحلية فى قارة أفريقيا عند .....
(بحيرة ڤيكتوريا - سهل كلنشو - مصب نهر لمبوبو - هضبة الحبشة) (المنوفية ٢٢)

(١٣) تعتبر من الهضاب ذات الأهمية لمصر هضبة .....
(جنوب أفريقيا - الشطوط - الحبشة - تبيستى) (البحر الأحمر ٢٥)

(١٤) يمتد سهل كلنشو فى دولة ..... (الجزائر - المغرب - السودان - ليبيا)

(١٥) يجرى نهرا ..... فى هضبة جنوب أفريقيا.
(لمبوبو والكونغو - أورانج ولمبوبو - الزمبيزى والسنغال - النيجر والكونغو)

(١٦) نهر بقارة أوروبا يصب فى أكبر بحر مغلق فى العالم .....
(السين - الراين - الفولجا - الدانوب) (الإسكندرية ٢٤)

(١٧) تمتد سلاسل جبال ..... فى شرق قارة أمريكا الشمالية.
(روكى - الأبلاش - سيرانيفادا - كسكيد) (البحيرة ١٦)

(١٨) تقع هضبة المكسيك جنوب قارة ..... (أمريكا الشمالية - أوروبا - أستراليا - آسيا)

(١٩) يمتد سهل نهر..... فى شمال أمريكا الجنوبية. (أورينوكو - باراجواى - بارانا - لابلاتا)

(٢٠) يجرى نهرا مرى ودارلنج فى أستراليا ويصبان فى .....
(الخليج الأسترالى الكبير - خليج كاربنتاريا - بحر تيمور - بحر المرجان) (كفر الشيخ ٢٤)

(٢١) أى من الجبال التالية يسود فى شرقها المظهر الهضبى ؟ .....
(أطلس - الأبلاش - البحر الأحمر - الإنديز) (كفر الشيخ ٢٥)

(٢٢) يختفى إقليم المناخ الاستوائى وشبه الاستوائى فى قارة .....
(أفريقيا - أمريكا الجنوبية - آسيا - أوروبا) (سوهاج ١٦)

(٢٣) يسود جزر إندونيسيا الإقليم المناخى .....
(الموسمى - الجبلى - المعتدل شرق القارات - الاستوائى وشبه الاستوائى) (البحيرة ٢٤)

(٢٤) يتمثل المناخ الاستوائى وشبه الاستوائى بأفريقيا فى حوض نهر .....
(لمبوبو - أورانج - النيل - الكونغو) (المنوفية ١٨)

(٢٥) تتمثل الغابات الاستوائية فى قارة أمريكا الجنوبية فى حوض نهر .....
(بارانا - باراجواى - لابلاتا - الأمازون)

(٢٦) ينتمى الإقليم السودانى للأقاليم المناخية .....
(الحارة - المعتدلة الدفيئة - المعتدلة الباردة - الباردة)

(٢٧) تنمو أشجار جوز الهند فى الغابات .....
(المدارية - المخروطية - الموسمية - النفضية) (الأقصر ٢٢)

(٢٨) تسقط أمطار الإقليم المناخى الموسمى فى فصل ..... (الصيف - الشتاء - الربيع - الخريف)

(٢٩) من أهم الأقاليم المناخية التى تشهد جفافًا فى فصل الشتاء .....
(المدارى الحار والموسمى - المدارى الحار والاستوائى - الصينى والمدارى الحار - اللورانسى والمدارى الحار) (بورسعيد ٢٤)

(٣٠) تنتمى سواحل دول المغرب العربى لإقليم مناخ .....
(الصحارى المعتدلة - المعتدل شرق القارات - البحر المتوسط - الموسمى)

(٣١) يمتد الإقليم المناخى ..... بين دائرتى عرض ٣٠° ، ٤٥° شمالًا وجنوبًا شرق معظم القارات.
(الصينى - البحر المتوسط - غرب أوروبا - اللورانسى)

(٣٢) من أهم أشجار غابات الإقليم الصينى ..... (المطاط - الصفصاف - الصنوبر - الزيتون)

(٣٣) تتشابه غابات إقليم مناخ البحر المتوسط والإقليم المناخى الصينى فى أنها .....
(كثيفة ومتشابكة - نباتات عشبية - أشجار موسمية - دائمة الخضرة)

(٣٤) سمى الإقليم المناخى المعتدل شرق القارات بـ.....
(التندرا - الصينى - الموسمى - اللورانسى)

(٣٥) يختفى الإقليم المناخى المعتدل البارد شرق القارات فى .....
(شمال شرق الصين - شرق أوروبا - شمال شرق أمريكا الشمالية - شمال اليابان)

(٣٦) من أشجار الغابات المخروطية ..... (الصنوبر - الزان - الصفصاف - الماهوجنى) (قنا ٢٤)

(٣٧) قارة أنتاركتيكا يسودها الإقليم المناخى .....
(التندرا - اللورانسى - الصينى - البحر المتوسط) (قنا ٢٢)

(٣٨) يعيش حيوان الرنة فى مُناخ ..... (البحر الأحمر ٢٣)

(إقليم غرب أوروبا - إقليم البحر المتوسط - الإقليم الصحراوى المعتدل - إقليم التندرا)

(٣٩) أكثر القارات تنوعًا فى مناخها قارة ..... (آسيا - أفريقيا - أوروبا - الأوقيانوسية)

(٤٠) الامتداد الفلكى لقارة أستراليا حرمها من نمو أشجار.....

(الزيتون - البلوط - جوز الهند - الشربين)

٤ اكتب كلمة (صواب) أمام العبارة الصحيحة، وكلمة (خطأ) أمام العبارة غير الصحيحة، مع التصويب

(١) يعتبر المحيط الهندى حدًا طبيعيًا لأكبر وأصغر قارات العالم مساحة. (الشرقية ٢٤) ( )

(٢) تقترب قارة أفريقيا من قارة آسيا عند مضيق جبل طارق. ( )

(٣) يحد قارة أمريكا الجنوبية من الشمال المحيط القطبى الشمالى. ( )

(٤) يمر مدار الجدى بقارات أستراليا وأفريقيا وأمريكا الجنوبية. (البحيرة ٢٤) ( )

(٥) تضم قارة أستراليا مجموعة جزر صغيرة فى المحيط الهندى. (المنوفية ٢٣) ( )

(٦) تقع هضبة التبت فى وسط آسيا وتعرف بسقف العالم. (الإسكندرية ١٧) ( )

(٧) تجرى بسهول شرق قارة آسيا العديد من الأنهار أهمها نهر السند. (القليوبية ١٩) ( )

(٨) تمتد جبال أطلس أقصى شمال غرب قارة أفريقيا. ( )

(٩) تنبع روافد نهر النيل من هضبتى الحبشة والبحيرات الاستوائية. ( )

(١٠) تمتد الهضاب بوسط قارة أوروبا من الغرب إلى الشرق. ( )

(١١) تُعد هضبة بتاجونيا أكبر هضاب قارة أمريكا الجنوبية من حيث المساحة. ( )

(١٢) تعتبر سهول نهر المسيسبى أوسع سهول فيضية فى العالم. (البحر الأحمر ١٦) ( )

(١٣) تتميز جبال الحاجز الكبير فى أستراليا بارتفاعها كما تقطعها بعض الأنهار. (القاهرة ٢٠) ( )

(١٤) تعتبر حشائش الإستبس حديقة حيوان طبيعية. (بورسعيد ١٨) ( )

(١٥) تنمو حشائش الساڤانا ضمن إقليم مناخ البحر المتوسط. (السويس ٢٢) ( )

(١٦) يتميز إقليم غرب أوروبا بأمطار موسمية وخاصة فى الشتاء والخريف. (الغربية ٢٢) ( )

(١٧) يقع إقليم المناخ المعتدل البارد شرق القارات فى نفس عروض مناخ غرب أوروبا. ( )

(١٨) يتشابه الجنوب الشرقى لقارات العالم الجديد مناخيًا ونباتيًا. (الشرقية ٢٣) ( )

(١٩) الشربين من أهم أشجار الغابات المخروطية. (القاهرة ٢٢) ( )

(٢٠) تقل درجة الحرارة فى قارة آسيا كلما اتجهنا جنوبًا. ( )

(٢١) تنمو أشجار جوز الهند اعتمادًا على غزارة الأمطار خلال فصل الصيف. (ج. سيناء ٢٣) ( )

٥ صوب ما تحته خط

(١) يشغل اليابس ٧٠,٧ ٪ من مساحة الكرة الأرضية، بينما تشغل المحيطات والبحار ٢٩,٣ ٪

(٢) أكبر قارات العالم مساحة قارة أوروبا، وأكبر محيطات العالم المحيط الهندى.

(٣) من قارات العالم الجديد فى نصف الكرة الأرضية الشرقى أمريكا الشمالية. (القاهرة ٢٣)

(٤) يحد قارة أفريقيا غربًا المحيط الهندى. (بنى سويف ١٩)

(٥) تطل قارة أمريكا الجنوبية على المحيط الهادى من الشرق.

(٦) من جبال قارة آسيا جبال الألب والهيمالايا.

(٧) جبال كلمنجارو عبارة عن سلاسل جبلية تحصر بينها هضبة الشطوط.

(٨) تقع جبال دراكنزبرج فى أقصى الشمال الغربى من قارة أفريقيا.

(٩) من أهم السلاسل الجبلية فى قارة أوروبا سلاسل جبال الأورال التى تمتد من الغرب إلى الشرق فى وسط القارة.

(١٠) تحتل هضبة لبرادور معظم مساحة دولة إسبانيا. (الدقهلية ٢٤)

(١١) تمتد السهول الفيضية فى أوروبا من سواحل المحيط الهادى غربًا حتى جبال الأورال شرقًا.

(١٢) تُعد جبال الأبلاش أعلى جبال قارة أمريكا الشمالية وتغطى الثلوج قممها شتاءً.

(١٣) من هضاب قارة أمريكا الشمالية هضبة جيانا فى الشمال الشرقى.

(١٤) تتمثل المرتفعات الغربية بقارة أمريكا الجنوبية فى سلاسل جبال روكى.

(١٥) تكثر الهضاب شرق جبال الإنديز مثل هضبة المكسيك فى الجنوب. (الإسماعيلية ٢٠)

(١٦) يتميز إقليم المناخ الاستوائى وشبه الاستوائى بغزارة الأمطار صيفًا بينما يسود الجفاف شتاءً.

(١٧) يوجد إقليم المناخ الاستوائى وشبه الاستوائى بآسيا على سواحل الشام وتركيا. (الوادى الجديد ٢٢)

(١٨) يظهر إقليم مناخ البحر المتوسط فى أمريكا الشمالية فى الغرب بالوادى الأوسط بولاية شيكاغو.

(١٩) تُعرف الساڤانا فى أمريكا الشمالية بحشائش البرارى. (الإسماعيلية ١٨)

(٢٠) يعيش حيوان الدب القطبى فى إقليم المناخ الجبلى. (السويس ٢٤)

٦ اكتب ما تشير إليه كل عبارة مما يأتى

(١) أصغر قارات العالم مساحة وتحيط بها المياه من جميع الجهات.

(٢) موقع المكان سواء كان قارة أو دولة بالنسبة للأماكن الأخرى من بحار ومحيطات وقارات أو دول مجاورة. (بورسعيد ١٨)

(٣) أكبر مسطح مائى مغلق فى العالم. (قنا ٢٥)

(٤) دول تتكون من جزيرة أو أكثر أو قد تكون جزءًا من جزيرة. (القليوبية ٢٢)

(٥) قارة تبدو فى شكل أقرب إلى المثلث ويحدها من الشمال البحر الكاريبى. (أسيوط ٢٤)

(٦) الأرض التى يجرى فيها النهر أو أحد روافده أو تنحدر مياهه إليه. (الأقصر ٢٥)

(٧) منطقة محددة على سطح الأرض لها خصائص مناخية معينة من حيث الحرارة والرياح والأمطار وغيرها. (الجيزة ٢٤)

(٨) حشائش حارة تتدرج فى الطول حسب كمية المطر وتنمو فى الإقليم المناخى المدارى والموسمى.

(٩) إقليم مناخى يقع فى العروض المعتدلة غرب معظم القارات بين دائرتى عرض ٣٠°، ٤٥° شمالًا وجنوبًا.

(١٠) إقليم مناخى يتعرض أحيانًا لعواصف مدارية مثل عواصف التيفون. (القليوبية ١٩)

(١١) غابات من أهم أشجارها الزان وتنفض أوراقها فى فصل الشتاء.

(١٢) إقليم مناخى تتنوع فيه الحياة النباتية طبقًا لارتفاع السطح وكمية المطر. (الفيوم ٢٢)

(١٣) قارة تقع بنصفى الكرة الأرضية الشرقى والغربى ويسودها إقليم مناخى واحد. (الفيوم ٢٥)

٧ بم تفسر ... ؟

(١) وجود الموانئ فى قارة أوروبا. (المنيا ٢٥)

(٢) تُعرف هضبة التبت بآسيا بسقف العالم. (سوهاج ٢٤)

(٣) قلة الأهمية الاقتصادية لأنهار شمال آسيا شتاءً. (الفيوم ٢٢)

(٤) ضيق السهول الساحلية فى قارة أفريقيا بصفة عامة. (الإسماعيلية ٢٥)

(٥) ضيق السهول الساحلية غرب قارة أمريكا الجنوبية. (الغربية ٢٥)

(٦) ضيق السهول الساحلية شرق قارة أستراليا. (البحر الأحمر ٢٥)

(٧) نمو الغابات الموسمية فى جزيرة مدغشقر. (القاهرة ٢٢)

(٨) يتشابه المناخ فى أقصى جنوب قارة أوروبا مع المناخ فى أقصى شمال قارة أفريقيا. (دمياط ٢٢)

(٩) تعد حشائش الساڤانا حديقة حيوان طبيعية. (الجيزة ٢٣)

(١٠) تسمية الغابات النفضية بهذا الاسم. (مطروح ١٨)

(١١) تنوع الحياة النباتية فى إقليم المناخ الجبلى. (الوادى الجديد ٢٤)

٨ ما النتائج المترتبة على ... ؟

(١) كثرة تعاريج السواحل والجزر فى قارة أوروبا. (ش. سيناء ١٦)

(٢) اقتراب حافات الجبال والهضاب من سواحل البحار والمحيطات بقارة أفريقيا. (البحيرة ٢٥)

(٣) وقوع قارة أنتاركتيكا أقصى جنوب الكرة الأرضية. (ش. سيناء ٢٢)

٩ ماذا يحدث إذا ...؟

(١) كانت جبال الإنديز بعيدة عن ساحل المحيط الهادى. (القاهرة ١٧)

(٢) مرت دائرة الاستواء بوسط قارة أوروبا (بالنسبة للمناخ والنبات الطبيعى).

(٣) تغير المناخ فى شمال قارة أوروبا إلى المناخ المعتدل البارد شرق القارات. (الشرقية ٢٢)

(٤) تشابهت السهول الساحلية بقارة أفريقيا مع السهول الساحلية بقارة أوروبا. (الشرقية ٢٤)

١٠ ما المقصود بالمصطلحات الجغرافية الآتية ... ؟

(١) دولة جزرية. (سوهاج ٢٥) (٢) موقع جغرافى. (المنوفية ٢٣)

(٣) حوض النهر. (الإسماعيلية ٢٥) (٤) إقليم مناخى. (الدقهلية ٢٥)

١١ دلل جغرافيًا على صحة كل عبارة مما يأتى

(١) يوجد دول جزرية فى قارتى أفريقيا وآسيا. (دمياط ٢٤)

(٢) تتعدد منابع نهر النيل.

(٣) أهمية السهل الأوروبى العظيم. (بنى سويف ١٨)

(٤) يُعد البحر المتوسط حلقة وصل بين قارات العالم القديم.

(٥) تتشابه تضاريس قارة أستراليا مع تضاريس قارة أفريقيا. (الغربية ٢٤)

(٦) تعدد خصائص السهول الفيضية لأمريكا الشمالية. (دمياط ٢٥)

(٧) يتشابه الإقليم المناخى المدارى الحار (السودانى) مع الإقليم المناخى الموسمى فى بعض الخصائص المناخية والنباتية. (الإسكندرية ٢٤)

(٨) يتشابه المناخ المعتدل البارد شرق القارات مع مناخ غرب أوروبا.

١٢ قارن بين

(١) قارة أفريقيا، وقارة أمريكا الجنوبية، من حيث :

* أهم الهضاب. * أهم الأنهار.

(٢) السهول الفيضية فى قارة أوروبا، والسهول الفيضية فى قارة أمريكا الشمالية، من حيث :

* الامتداد. * أهم الأنهار. (القليوبية ٢٥)

(٣) نهر الدانوب، ونهر أورينوكو، من حيث : (البحيرة ٢٤)

* القارة التى يقع بها كل منهما. * المصب الذى يصب فيه كل منهما.

(٤) إقليم المناخ الاستوائى وشبه الاستوائى، وإقليم المناخ المدارى الحار، من حيث :

* القارات التى يظهر فيها. * الخصائص النباتية.

(٥) إقليم المناخ الصينى، وإقليم مناخ البحر المتوسط، من حيث :

* الموقع بالنسبة لدوائر العرض. * الخصائص المناخية.

* الخصائص النباتية. (أسوان ٢٢)

(٦) جزر إندونيسيا، وشمال اليابان، من حيث : (مطروح ٢٤)

* الإقليم المناخى. * موسم سقوط الأمطار. * أهم الأشجار.

(٧) إقليم مناخ غرب أوروبا، وإقليم المناخ اللورانسى، من حيث :

* الخصائص المناخية. * الخصائص النباتية. (بورسعيد ٢٢)

(٨) إقليم مناخ التندرا، وإقليم المناخ الجبلى، من حيث :

* الموقع. * الخصائص المناخية. * النبات الطبيعى.

(٩) قارة آسيا، وقارة أفريقيا، من حيث : (الغربية ١٨)

* هضبتين توجدان فى كل قارة.

* المناطق التى يوجد بها الإقليم الاستوائى وشبه الاستوائى فى القارتين.

(١٠) جنوب شرق أفريقيا، وجنوب غرب أسيا، من حيث : الخصائص النباتية. (الشرقية ٢٥)

١٣ أسئلة متنوعة

① فى أى المحيطات أو البحار أو الخلجان يصب كل نهر من الأنهار الآتية ... ؟

(١) السند. (دمياط ٢٠) (٢) الفرات. (بورسعيد ١٨)

(٣) ينسى. (المنوفية ١٧) (٤) لابلاتا. (سوهاج ١٦)

(٥) لينا. (الغربية ١٦) (٦) الفولجا. (أسوان ٢٤)

(٧) مرى ودارلنج. (دمياط ٢٠) (٨) الراين. (بنى سويف ٢٠)

(٩) النيجر. (١٠) الكونغو. (١١) المسيسبى.

(١٢) سانت لورانس. (١٣) النيل.

② فى أى القارات توجد كل ظاهرة تضاريسية من الظواهر الآتية ... ؟

(١) سهول صحراء كلهارى. (مطروح ١٩) (٢) جبال الهيمالايا.

(٣) جبال الأبلاش. (السويس ١٨) (٤) جبال الألب.

(٥) هضبة بتاجونيا. (بورسعيد ١٦) (٦) هضبة لبرادور.

(٧) هضبة الميزيتا. (المنيا ١٨) (٨) هضبة جيانا. (٩) نهر النيجر.

(١٠) سهول سيبيريا. (١١) نهرا مرى ودارلنج. (١٢) جبال البرانس.

(١٣) جزر نيوزيلندا. (١٤) بحر الرمال العظيم. (١٥) سهول لابلاتا.

(١٦) جبال طوروس. (١٧) جزر اليابان.

(١٨) جبال الألب الدينارية. (١٩) بحر قزوين. (قنا ١٨)

(٢٠) جزر القمر. (٢١) نهر نلسن. (بورسعيد ١٩)

(٢٢) هضبة الدكن. (بنى سويف ٢٠) (٢٣) نهر باراجواى.

(٢٤) جبال الإنديز. (مطروح ٢٠) (٢٥) شبه جزيرة الملايو. (مطروح ٢٠)

(٢٦) سهل كلنشو. (البحر الأحمر ٢٤) (٢٧) نهر أوب.

(٢٨) هضبة المكسيك. (الوادى الجديد ٢٣) (٢٩) جبال دراكنزبرج. (الأقصر ٢٠)

---

③ انسب الأشجار الآتية إلى الغابات التى تنمو داخلها، مع تحديد الإقليم المناخى الذى ترتبط به :

(١) المطاط. (٢) الصفصاف. (البحيرة ٢٢)

(٣) الشربين. (البحيرة ٢٢) (٤) الزيتون.

(٥) الصنوبر. (الوادى الجديد ٢٤) (٦) الزان. (بنى سويف ٢٢)

(٧) جوز الهند. (البحيرة ٢٢) (٨) الماهوجنى. (الوادى الجديد ٢٤)

(٩) البلوط.

---

④ من خلال دراستك لمناخ القارات، حدد النبات الطبيعى الذى ينمو فى كل منطقة مما يلى :

(١) شمال سيبيريا. (٢) أقصى شمال أستراليا. (الدقهلية ٢٤)

---

⑤ حدد الاسم الجغرافى غير المناسب لمجموعته، مع ذكر السبب :

(١) الهيمالايا - جيانا - بتاجونيا - الدكن. (الفيوم ١٨)

(٢) التبت - الميزيتا - شبه الجزيرة العربية - الدكن.

(٣) ينسى - لابلاتا - دجلة - السند.

(٤) الفولجا - الراين - الكونغو - الدانوب. (الفيوم ٢٤)

---

⑥ حدد التشابه والاختلاف بين : إقليم مناخ البحر المتوسط، وإقليم المناخ الصينى. (الجيزة ٢٢)

---

⑦ *«اتجهت أنظار العالم إلى قارة أفريقيا عامة ومصر خاصة من خلال مؤتمر المناخ (Cop27) حيث أصبحت مصر أيقونة العالم من خلال مبادرة "اتحضر للأخضر"».*

فى ضوء العبارة السابقة، أجب عما يأتى :

(١) حدد المناطق التى تفصل قارة أفريقيا عن قارة آسيا.

(٢) ما النتائج المترتبة على : تدرج كمية الأمطار فى الإقليم المدارى الحار؟

---

⑧ *«يختلف المناخ داخل القارة الواحدة من منطقة لأخرى وفقًا لعدة عوامل مؤثرة فى مناخ القارة».*

فى ضوء العبارة السابقة، أجب عن الآتى :

(١) حدد العوامل المؤثرة فى مناخ العالم.

(٢) ما الآثار المترتبة على : ذوبان الجليد فى إقليم التندرا على الحياة النباتية فيه ؟

(٣) ما دورك لـ : الحد من الآثار السلبية للتغيرات المناخية ؟ (أسوان ٢٣)

امتحان على الوحدة الأولى

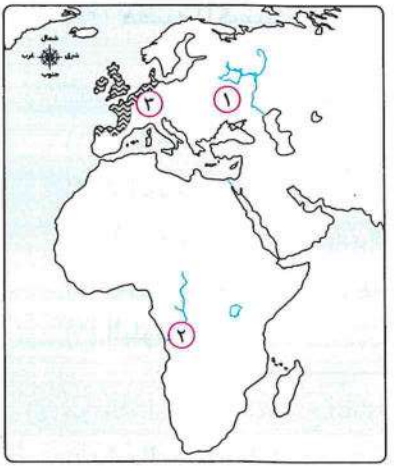

١ (أ) لاحظ الخريطة التى أمامك، ثم اكتب ما تدل عليه الأرقام الموضحة عليها :

(١) منطقة سهلية ..... (٢) نهـــر .....

(٣) إقليم منـــاخى .....

(ب) اكتب كلمة (صواب) أو كلمة (خطأ) أمام العبارة الآتية، مع ذكر السبب فى الحالتين :

يمر خط جرينتش (خـط الطول الرئيسى) بخمس من قارات العالم. (بورسعيد ٢٥) ( )

(جـ) دلل جغرافيًا على صحة كل عبارة مما يأتى :

(١) تعتبر قارة أوروبا شبه جزيرة. (دمياط ٢٥)

(٢) يختلف إقليم مناخ البحر المتوسط وإقليم المناخ الصينى رغم امتدادهما فى دوائر عرضية واحدة. (أسيوط ٢٥)

(د) حدد أوجه الشبه بين : نهر الكونغو، ونهر الأمازون. (المنوفية ٢٥)

---

٢ (أ) اختر الإجابة الصحيحة مما بين القوسين :

(١) يقع الإقليم اللورانسى فى نفس عروض .....

(إقليم البحر المتوسط - الإقليم الموسمى - إقليم التندرا - إقليم غرب أوروبا) (الإسكندرية ٢٤)

(٢) يمتد يابس قارة أمريكا الشمالية إلى الشرق من .....

(المحيط الأطلنطى - خليج المكسيك - المحيط الهادى - البحر الكاريبى) (الغربية ٢٣)

(٣) أى الأنهار التالية ينحدر من الجنوب للشمال ؟ ..... (بارانا - المسيسبى - ينسى - باراجواى)

(ب) *«أدى الامتداد الفلكى والجغرافى الكبير لقارة آسيا إلى تميزها بخصائص طبيعية وبشرية مثل تنوع المناخ والنبات الطبيعى بالإضافة إلى تنوع مظاهر السطح من جبال وهضاب وسهول إضافة إلى طول سواحلها على عدد من محيطات العالم»*. **فى ضوء العبارة، أجب عن الآتى :**

(١) ما أهم الجبال التى تمتد فى غرب قارة آسيا ؟

(٢) لقارة آسيا فواصل طبيعية تفصلها عن كل من قارة أوروبا وقارة أفريقيا، فما هى ؟ (بنى سويف ٢٤)

(جـ) بم تفسر ... ؟ (١) تنوع الحياة النباتية على قمم ومنحدرات جبال روكى. (كفر الشيخ ٢٤)

(٢) الأهمية الاقتصادية للسهول الفيضية. (الإسماعيلية ٢٤)

(د) حدد إلى أى الأقاليم المناخية تنتمى كل منطقة مما يأتى، مع ذكر موسم سقوط المطر فى كل منطقة :

(١) شبه جزيرة الهند الصينية. (٢) شمال اليابان.

أسئلة عامة على الوحدة الثانية

١ الخرائط

① أمامك خريطة للعالم، اكتب ما تدل عليه الأرقام التى عليها :

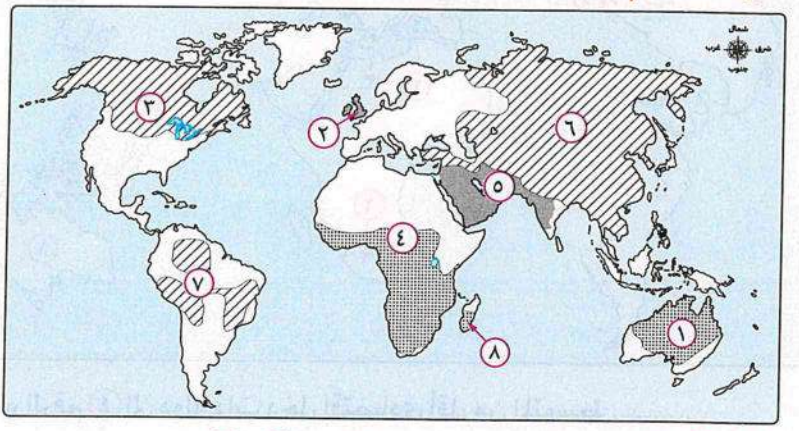

(١) رقم ① ، ④ ، ⑧ يمثل السلالة ..... (٢) رقم ② ، ⑤ يمثل السلالة .....

(٣) رقم ③ ، ⑥ ، ⑦ يمثل السلالة .....

② أمامك خريطة للعالم، اكتب ما تدل عليه الأرقام التى عليها :

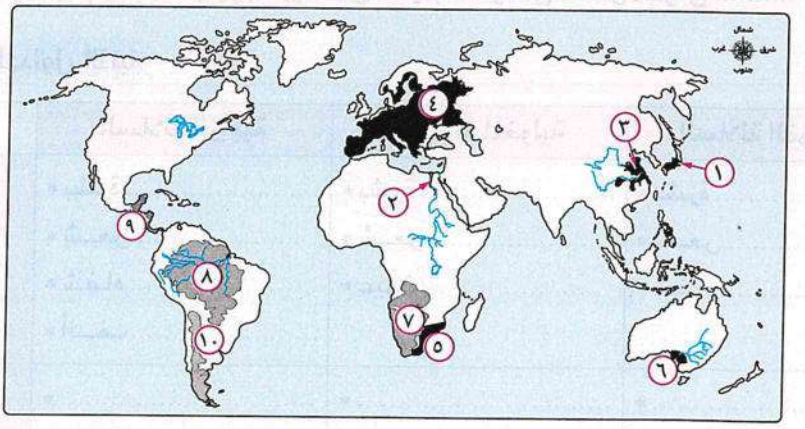

(١) منطقة تركز سكانى .....

(٢) منطقة تركز سكانى .....

(٣) منطقة سهلية يتركز بها السكان .....

(٤) منطقة سهلية يتركز بها السكان .....

(٥) منطقة يتركز بها السكان .....

(٦) منطقة يتركز بها السكان .....

(٧) منطقة يقل بها السكان .....

(٨) منطقة يقل بها السكان .....

(٩) منطقة يقل بها السكان .....

(١٠) منطقة يقل بها السكان .....

③ أمامك خريطة للعالم، اكتب ما تدل عليه الأرقام التى عليها :

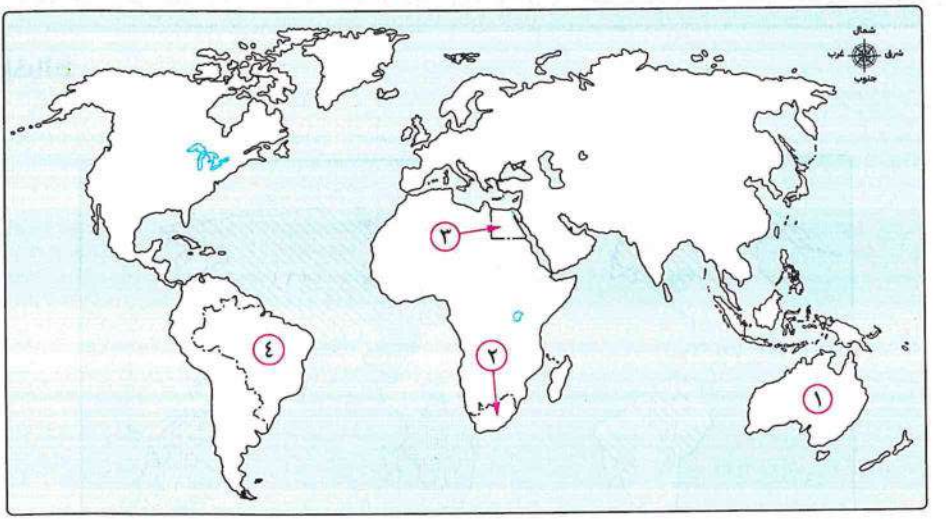

(١) يشير الرقم ④ إلى دولة ذات دخل اقتصادى أقل من المتوسط .....

(٢) يشير الرقم ② إلى دولة ذات دخل اقتصادى فوق المتوسط .....

(٣) يشير الرقم ③ إلى دولة ذات رعاية طبية مرتفعة .....

(٤) يشير الرقم ① إلى قارة يوجد بها أعلى نصيب للفرد من الدخل القومى .....

٢ أكمل الجداول الآتية

(أ)	السلالة الزنجية	السلالة المغولية	السلالة القوقازية
تتميز بـ	* بشرة ..... * شعر ..... * شفاه ..... * أنف	* بشرة ..... * شعر ..... * عيون	* بشرة ..... * شعر ..... * شفاه .....
من أقسامها	* ..... * ..... * ..... * ..... *	* ..... * ..... * ..... * ..... *	* ..... * ..... * ..... * ..... * .....

(ب)	قارة آسيا	قارة أفريقيا	قارة أوروبا
مناطق تركز السكان	* سهـــول نهـــر ..... في الصين. * سهـــول نهـــر ..... في الهند. * جـــزر ..... وجـــزر ..... وجزيرة	* سهـــول وادى ..... في مصر و ..... * سواحل ..... و ..... * المناطق مرتفعة السطح في الدول المداريـة، مثـل دولتـى ..... و	* دول غرب ووسط القارة في : • المدن والمناطق الصناعية الكـبرى، مثـل ..... و ..... • السهـول الـزراعيـة الخصبـة، مثـل السهل ..... * دول ..... القارة.
مناطق قلة السكان	* المناطـق الشماليـة مثل سهول ..... * المناطـق الصحـراوية، مثـل ..... * المناطق ..... و ..... وسط القارة.	* المنـاطـق ..... لنمـو الغابات الكثيفة. * الصحراء ..... و ..... * بعض المنـاطق الجبلية الوعرة، مثل جبال	* المنـاطـق ..... كمـا فى دولتى ..... و ..... * المناطق .....

(جـ)	قارة أمريكا الشمالية	قارة أمريكا الجنوبية	قارة أستراليا (الأوقيانوسية)
أكثر دول القارة سكانًا	.....	.....	.....
مناطق تركز السكان	* الساحل ..... وولايات ..... ومنطقة ..... * المدن الكبرى، مثل ..... فى كندا و ..... فى المكسيك.	* سهـــول ..... فى فنزويلا وسهول ..... التى تعرف فى الأرجنتين بسهول ..... * هضبة ..... وسواحلها حيث المدن الكبرى.	* السواحـل ..... حيث المدن الكبرى، مثـل ..... والمناطق ..... * جنـــوب شرق القـــارة حيث سهول نهرى ..... و .....
مناطق قلة السكان	* دول .....، مثل ..... و ..... * بعض الجزر الصغيرة.	* سهول ..... * قمم جبال ..... * هضبة ..... فى الجنوب.	* الشمـــال حيث ..... و ..... * داخـل (وسـط) وغرب القارة لسيادة .....

٣ اختر الإجابة الصحيحة مما بين القوسين

(١) تتركز السلالة ..... قرب دائرة الاستواء فى أفريقيا. (الزنجية - القوقازية - المغولية - النوردية)

(٢) ينتمى البوشمن والهوتنتوت إلى .....

(السلالة القوقازية - السلالة الزنجية - السلالة المغولية - المجموعة النوردية الشمالية) (القاهرة ٢٤)

(٣) جماعة التنجوس من أقسام السلالة المغولية وتعيش فى .....

(منغوليا - أستراليا - ألاسكا - سيبيريا)

(٤) من الصفات الجسمية الخارجية لسكان ألاسكا .....

(الشعر المسترسل - الشفاه الرفيعة - الشعر المتموج - الأنف العريض) (كفر الشيخ ٢٥)

(٥) ينتمى الهنود الحمر لـ.....

(السلالة القوقازية - السلالة الزنجية - المجموعة النوردية - السلالة المغولية)

(٦) ينتمى معظم سكان قارة أوروبا إلى .....

(السلالة المغولية - السلالة الزنجية - السلالة القوقازية - البانتو)

(٧) ينتمى سكان غرب ووسط أوروبا إلى .....

(جماعة التنجوس - المجموعة الألبية - البانتو - الإسكيمو) (أسوان ٢٤)

(٨) تتركز المجموعة النوردية الشمالية التى تنتمى للسلالة القوقازية فى دول .....

(شمال أفريقيا - شمال أوروبا - شمال آسيا - شرق آسيا)

(٩) من السلالات غير النقية فى الوقت الحاضر .....

(الإسكيمو - الهنود الحمر - العرب - الأستراليين الأصليين) (القليوبية ٢٣)

(١٠) يعيش فى صحارى التندرا الباردة بشمال كندا سلالة نقية تعرف باسم .....

(البانتو - الإسكيمو - المجموعة الألبية - المجموعة النوردية الشمالية) (بورسعيد ٢٣)

(١١) يتركز السكان فى مناطق السهول الفيضية مثل سهول نهر..... فى الصين.

(الجانج - الفرات - اليانجتسى - دجلة) (سوهاج ١٧)

(١٢) تتشابه العوامل التى ساعدت على انخفاض الكثافة السكانية فى كل من حوض الكونغو وسهول .....

(منشوريا - سيبيريا - الأمازون - المسيسبى) (بورسعيد ٢٣)

(١٣) يقل السكان بقارة أفريقيا فى .....

(السهول الساحلية - السهول الفيضية - المناطق الاستوائية - المناطق المدارية المرتفعة)

(١٤) من أقل الجهات سكانًا فى قارة أوروبا الجهات .....

(الشمالية - الشرقية - الجنوبية - الغربية) (الإسكندرية ٢٤)

(١٥) معظم سكان أمريكا الشمالية يتركزون فى .....

(الولايات المتحدة الأمريكية - كندا - المكسيك - دول البرزخ) (الجيزة ٢٠)

(١٦) يتركز السكان بكندا فى المدن الكبرى مثل مدينة .....
(مونتريال - شيكاغو - مكسيكو - فيلادلفيا) (الأقصر ٢٥)

(١٧) تؤثر الغابات الموسمية سلبًا على توزيع السكان فى .....
(غرب أوروبا - جنوب أفريقيا - شرق أوروبا - شمال أستراليا) (القاهرة ٢٣)

(١٨) يتركز سكان أستراليا فى ..... حيث المدن الكبرى.
(السواحل الشمالية - المنطقة الوسطى - السواحل الشرقية - الهضبة الغربية) (البحر الأحمر ١٩)

(١٩) القارة التى تسجل أعلى معدل مواليد فى العالم .....
(أفريقيا - آسيا - أوروبا - أمريكا الشمالية) (القاهرة ١٨)

(٢٠) يتساوى معدل المواليد مع معدل الوفيات فى قارة .....
(أمريكا الشمالية - أفريقيا - أوروبا - أستراليا) (أسوان ٢٢)

(٢١) توجد أعلى نسب من السكان البالغين فى دول .....
(الخليج العربى - غرب أوروبا - قارة أفريقيا - قارة آسيا) (كفر الشيخ ٢٢)

(٢٢) تُعد مصر من الدول ذات الرعاية الطبية .....
(المنخفضة - المتوسطة - المرتفعة - الفائقة) (الأقصر ٢٤)

(٢٣) من الدول ذات الرعاية الطبية المنخفضة ..... (الإمارات - الأردن - النيجر - روسيا) (أسيوط ٢٠)

(٢٤) أعلى نصيب للفرد من الدخل القومى فى العالم يوجد فى قارة .....
(آسيا - أستراليا - أفريقيا - أمريكا الشمالية) (بنى سويف ١٦)

(٢٥) من الدول ذات الدخل الاقتصادى المرتفع ..... (معظم دول أمريكا الجنوبية - دول شرق أوروبا - دول غرب أوروبا - معظم دول أفريقيا) (السويس ١٨)

(٢٦) دول الخليج العربى من الدول ذات الدخل الاقتصادى .....
(المرتفع - المنخفض - أقل من المتوسط - فوق المتوسط) (أسوان ١٧)

(٢٧) الدول ذات الدخل الاقتصادى المرتفع تزداد بها نسبة العاملين بحرفة .....
(الزراعة - الصناعة - الصيد - قطع الغابات) (قنا ١٧)

(٢٨) من دول العالم ذات الدخل الاقتصادى فوق المتوسط ..... (الهند - هايتى - تركيا - أوكرانيا)

(٢٩) من الدول ذات الدخل الأقل من المتوسط .....
(الهند - تركيا - المكسيك - باكستان) (السويس ٢٥)

(٣٠) من الدول ذات الاقتصاد الزراعى المنخفض .....
(جنوب أفريقيا - هايتى - الكونغو - فرنسا) (بورسعيد ١٦)

(٣١) تقل نسبة العاملين فى مجال الزراعة لتصل إلى أقل من ١٠ ٪ من قوة العمل فى .....
(إثيوبيا - الهند - أستراليا - تركيا)

٤ اكتب كلمة (صواب) أمام العبارة الصحيحة، وكلمة (خطأ) أمام العبارة غير الصحيحة، مع التصويب

(١) تتميز السلالة القوقازية بالبشرة الداكنة والشعر المجعد. ( )

(٢) تنتمى جماعة الإسكيمو التى تعيش فى ألاسكا إلى السلالة المغولية. (القاهرة ٢٢) ( )

(٣) تمثل السلالة المغولية أكثر من ثلث سكان العالم. ( )

(٤) ينتمى معظم سكان الصين ودول جنوب شرق آسيا للسلالة القوقازية. ( )

(٥) تمثل السلالة الزنجية نصف سكان العالم. ( )

(٦) تتركز السلالة المغولية فى قارة أوروبا. ( )

(٧) من أمثلة السلالات النقية الهنود الحمر ويعيشون فى غابات وجبال أمريكا الجنوبية. ( )

(٨) معظم العرب من السلالة القوقازية. ( )

(٩) تقسيم السلالات البشرية يعتمد على أُسس جوهرية. ( )

(١٠) تقوم دول العالم بإجراء تعداد لسكانها كل خمس أو عشر سنوات. ( )

(١١) تُعد قارة أمريكا الشمالية أكبر قارات العالم سكانًا. (الجيزة ١٧) ( )

(١٢) أكبر دولتين فى العالم من حيث عدد السكان هما اليابان وإندونيسيا. ( )

(١٣) يتركز السكان فى المناطق المرتفعة السطح بالدول المدارية فى قارة أفريقيا. ( )

(١٤) يتركز سكان قارة أوروبا فى المناطق الصناعية الكبرى فى فنلندا والنرويج. (القاهرة ٢٢) ( )

(١٥) يتركز سكان الولايات المتحدة الأمريكية فى عدة مناطق منها الساحل الشمالى الشرقى. (الغربية ٢٣) ( )

(١٦) سهول البمباس فى الأرجنتين من المناطق ذات التركز السكانى. (المنوفية ٢٤) ( )

(١٧) تُعد البرازيل أكبر دول قارة أمريكا الجنوبية سكانًا. (الغربية ٢٤) ( )

(١٨) ترتفع نسبة فئة صغار السن فى الدول المتقدمة وتنخفض فى الدول النامية. (الأقصر ٢٤) ( )

(١٩) ترتفع نسبة كبار السن فى الدول النامية. (المنوفية ١٧) ( )

(٢٠) الأردن من الدول ذات الرعاية الطبية الفائقة. (بنى سويف ١٨) ( )

(٢١) أقل نصيب للفرد من الدخل القومى فى العالم يوجد فى قارة أفريقيا. ( )

(٢٢) الدول ذات الدخل الاقتصادى المرتفع تعتمد على التصنيع النامى وتعدد الأنشطة التقليدية. ( )

(٢٣) تعتبر مصر من الدول ذات الدخل الاقتصادى أقل من المتوسط. (القاهرة ١٨) ( )

(٢٤) تعمل النسبة الكبرى من قوة العمل بالدول النامية بأفريقيا فى مجال الزراعة. (الإسماعيلية ٢٣) ( )

٥ صوب ما تحته خط

(١) جماعة البانتو تنتمى للسلالة القوقازية. (بورسعيد ٢٢)

(٢) تتجه الهجرات غير الشرعية فى معظمها إلى الدول النامية. (الجيزة ٢٤)

(٣) البشرة الصفراء والعيون المنحرفة والشعر الأسود المسترسل من صفات السلالة القوقازية. (الغربية ١٦)

(٤) أكثر مناطق العالم ازدحامًا بالسكان جزيرة تايوان فى قارة آسيا. (الإسكندرية ٢٢)

(٥) يقل السكان فى شبه الجزيرة العربية لوعورة السطح. (الإسكندرية ١٩)

(٦) يتركز السكان فى سهول نهرى جوبا وشبيلى بقارة أستراليا. (الفيوم ٢٢)

(٧) عدد السكان ثابت فى قارة أمريكا الشمالية. (الإسكندرية ٢٠)

(٨) يسود الدول ذات الدخل الاقتصادى المنخفض النشاط التجارى. (القليوبية ١٧)

(٩) تعتمد بعض الدول فى قارة أوروبا على التصنيع النامى ومنها ألمانيا. (الإسكندرية ٢٤)

٦ اكتب ما تشير إليه كل عبارة مما يأتى

(١) مجموعة بشرية تتشابه فى صفاتها الجسمية الخارجية. (السويس ٢٤)

(٢) سلالة بشرية تمثل ٧٠ ٪ من سكان أفريقيا.

(٣) سلالة بشرية ينتمى إليها معظم العرب. (قنا ٢٥)

(٤) سلالة بشرية تتميز بالبشرة البيضاء الوردية.

(٥) مجموعة تتبع السلالة القوقازية وتشمل عدد كبير من سكان جنوب أوروبا.

(٦) علم دراسة السكان من حيث النمو والتوزيع والتركيب السكانى. (المنوفية ٢٤)

(٧) فئة عمرية غير منتجة تضم الرضع والأطفال والمراهقين الذين تقل أعمارهم عن ١٥ عامًا. (الفيوم ٢٢)

(٨) فئة عمرية غير منتجة تزيد بالدول المتقدمة لتقدم الخدمات الصحية والتعليمية. (الأقصر ٢٢)

(٩) عدد الأفراد فى سن العمل والقادرين عليه والذين يعملون فعليًا أو يبحثون عن عمل. (البحر الأحمر ٢٣)

٧ بم تفسر ... ؟

(١) نشأة السلالات البشرية المختلفة. (البحيرة ٢٤)

(٢) تعرض عدد كبير من الزنوج للهجرات الإجبارية إلى الأمريكتين. (البحيرة ٢٢)

(٣) زيادة نسبة الجنس المغولى عن ٤٠ ٪ من سكان العالم. (القليوبية ٢٤)

(٤) انعدام تواجد شعب بالكامل من سلالة واحدة.

(٥) العرب ليسوا من سلالة بشرية واحدة. (المنوفية ٢٣)

(٦) تركز سكان العالم فى المدن الكبرى.

(٧) تُعد جزيرة جاوة من أكثر مناطق العالم ازدحامًا بالسكان. (القليوبية ٢٢)

(٨) تركز السكان فى أفريقيا فى المناطق مرتفعة السطح بالدول المدارية. (القاهرة ٢٤)

(٩) قلة عدد السكان فى شبه الجزيرة العربية. (قنا ٢٤)

(١٠) قلة عدد السكان فى المناطق الاستوائية فى قارة أفريقيا.

(١١) قلة عدد السكان فى المناطق الشمالية لقارة أوروبا.

(١٢) تركز السكان على الساحل الشمالى الشرقى للولايات المتحدة الأمريكية. (الأقصر ١٨)

(١٣) تركز السكان فى منطقة البحيرات العظمى بالولايات المتحدة الأمريكية. (البحيرة ٢٢)

(١٤) قلة عدد السكان فى سهول الأمازون بأمريكا الجنوبية.

(١٥) تركز السكان فى جنوب شرق قارة أستراليا. (كفر الشيخ ٢٢)

(١٦) تركز السكان فى السواحل الشرقية لقارة أستراليا. (أسوان ١٨)

(١٧) قلة عدد السكان فى غرب ووسط قارة أستراليا. (بورسعيد ١٧)

(١٨) قلة عدد السكان فى شمال قارة أستراليا. (أسيوط ٢٣)

(١٩) سجلت قارة أفريقيا أكبر معدل مواليد فى العالم. (السويس ٢٤)

(٢٠) ارتفاع معدلات الوفيات فى قارة أوروبا. (الأقصر ٢٤)

(٢١) انخفاض معدلات الوفيات فى مصر.

(٢٢) وصلت نسبة التعليم فى مصر إلى ٦٥ ٪ من السكان. (المنوفية ٢٢)

(٢٣) انخفاض معدل تعليم الإناث فى بعض الدول. (أسيوط ٢٥)

(٢٤) تختلف الخصائص الاقتصادية لسكان العالم. (الإسكندرية ٢٤)

٨ ما النتائج المترتبة على ... ؟

(١) انصهار السلالات البشرية واختلاط صفاتها الطبيعية التى تميز كل سلالة عن الأخرى. (البحيرة ٢٥)

(٢) زيادة عدد السكان فى معظم دول قارة آسيا. (القليوبية ٢٣)

(٣) سيادة الظروف الصحراوية فى غرب أستراليا (بالنسبة لتوزيع السكان). (دمياط ٢٠)

(٤) ارتفاع معدلات المواليد وانخفاض معدلات الوفيات فى مصر. (الأقصر ١٧)

(٥) تساوى معدلات المواليد مع معدلات الوفيات بقارة أوروبا. (القليوبية ٢٣)

(٦) ارتفاع نسبة فئة صغار السن فى الدول النامية. (قنا ٢٢)

(٧) تقدم الخدمات الصحية فى الدول المتقدمة.

(٨) اعتماد دول الخليج العربى على استخراج البترول وتصنيع مشتقاته. (أسيوط ٢٤)

٩ ماذا يحدث إذا ... ؟

(١) لم تختلط أو تنصهر السلالات مع بعضها البعض. (أسوان ١٧)

(٢) انخفضت أعداد السكان فى آسيا. (بنى سويف ٢٠)

(٣) انخفضت معدلات المواليد فى قارة أفريقيا. (ش. سيناء ٢٢)

(٤) تساوت معدلات المواليد ومعدلات الوفيات فى أفريقيا.

(٥) استطاعت مصر خفض معدلات الزيادة الطبيعية.

(٦) انخفضت فئة صغار السن فى الدول النامية. (السويس ٢٥)

(٧) أصبحت الصناعة الحرفة الأولى فى مصر.

(٨) استفادت دول قارة أفريقيا من ثرواتها المعدنية والزراعية فى التصنيع. (الجيزة ٢٢)

١٠ ما المقصود بالمصطلحات الجغرافية الآتية ... ؟

(١) هجرات غير شرعية. (بنى سويف ٢٢) (٢) ديموجرافيا. (البحيرة ٢٥)

(٣) زيادة طبيعية. (ش. سيناء ٢٥) (٤) تركيب عمرى. (الإسكندرية ٢٤)

(٥) قوة العمل. (الإسماعيلية ٢٣)

١١ دلل جغرافيًا على صحة كل عبارة مما يأتى

(١) رغم انصهار السلالات البشرية ما زالت هناك بعض السلالات النقية فى الوقت الحاضر. (بنى سويف ٢٥)

(٢) تتعدد السلالات البشرية داخل الولايات المتحدة الأمريكية. (بنى سويف ١٧)

(٣) يتم تقسيم السلالات البشرية على أسس ظاهرية وليست جوهرية.

(٤) يؤثر المناخ فى توزيع سكان قارة أفريقيا. (أسيوط ١٩)

(٥) يتشابه العامل المؤثر فى توزيع السكان فى كل من شمال شرق الولايات المتحدة الأمريكية وهضبة البرازيل. (بورسعيد ٢٥)

(٦) هناك عدة عوامل مؤثرة فى معدلات الوفيات فى العالم.

(٧) انخفاض نسبة الأمية فى الدول المتقدمة.

(٨) يُعتبر عدد الأطباء مؤشرًا مهمًا على الرعاية الطبية فى دول العالم. (مطروح ٢٠)

١٢ قارن بين

(١) السلالة المغولية، والسلالة الزنجية، من حيث :

* الشكل الخارجى. * أكثر القارات انتشارًا. (الوادى الجديد ١٧)

(٢) قارة أفريقيا، وقارة أوروبا، من حيث :

* مناطق تركز السكان. * مناطق قلة السكان.

(٣) قارة أمريكا الشمالية، وقارة أمريكا الجنوبية، من حيث مناطق التركز السكانى.

(٤) قوة العمل فى الدول النامية، وفى الدول المتقدمة، من حيث نوع النشاط الاقتصادى. (المنيا ٢٥)

١٣ أسئلة متنوعة

① ما رأيك فى ... ؟

(١) بعض السلالات التى تعتبر نفسها أكثر ذكاء وقدرة على العمل.

(٢) ارتفاع نسبة صغار السن فى الدول النامية. (الجيزة ١٧)

(٣) الجهود القائمة بشأن تعليم المرأة فى مصر.

(٤) العادات والتقاليد التى تؤثر على معدل تعليم الإناث فى بعض دول العالم.

(٥) جهود مصر فى مجال محو الأمية. (الفيوم ١٩)

② ما العلاقة بين ... ؟

(١) مستوى الرعاية الصحية، ومعدلات الوفيات. (أسوان ١٧)

(٢) توزيع السكان، والمدن الكبرى. (أسوان ١٧)

(٣) عدد الأطباء، ومستوى الرعاية الطبية فى دولة ما. (البحر الأحمر ٢٤)

(٤) الدخل الاقتصادى للدول، والنشاط الصناعى فى العالم. (مع ذكر أمثلة). (سوهاج ١٧)

③ إلى أى السلالات ينتمى كل من ... ؟

(١) سكان حوض البحر المتوسط. (أسيوط ١٩) (٢) جماعة التنجوس. (القليوبية ٢٥)

(٣) البوشمن والهوتنتوت. (القليوبية ٢٥)

④ أمامك مجموعة من مناطق توزيع السكان فى العالم، ضع كل منها فى مكانها الصحيح بالجدول :

(١) جزر اليابان. (٢) شبه الجزيرة العربية.

(٣) الصحراء الكبرى وصحراء كلهارى. (٤) لندن وباريس.

(٥) سواحل بلاد المغرب العربى. (٦) مدينة مونتريال.

(٧) مدينة مكسيكو. (٨) دولة هندوراس.

(٩) سهول الأمازون. (١٠) مناطق حشائش الساڤانا بأستراليا.

مناطق يتركز بها السكان	مناطق يقل بها السكان
.....	.....
.....	.....
.....	.....

⑤ أى المناطق الآتية يتركز بها السكان، وأيها يقل بها السكان ... ؟ ولماذا ؟

(١) سهول وادى النيل فى مصر والسودان. (٢) سهول سيبيريا.

(٣) غرب أستراليا. (٤) سهول البمباس. (٥) شمال أوروبا.

(٦) جزيرة جاوة. (٧) المناطق الاستوائية بأفريقيا.

⑥ صنف الدول الآتية من حيث الدخل الاقتصادى :

(١) تركيا. (٢) المغرب.

(٣) دول الخليج العربى. (بورسعيد ٢٢) (٤) أوكرانيا. (٥) مصر. (بورسعيد ٢٢)

(٦) الولايات المتحدة الأمريكية. (٧) باكستان.

⑦ صنف الدول الآتية من حيث الرعاية الطبية :

(١) روسيا. (كفر الشيخ ١٩) (٢) مصر. (٣) النيجر. (٤) الإمارات. (كفر الشيخ ١٩)

⑧ «تختلف الخصائص الاقتصادية لسكان العالم وفقًا للدخل الاقتصادى وتنوع الأنشطة الاقتصادية التى يقوم بها السكان فى كل دولة» . فى ضوء هذه العبارة، أجب عما يأتى :

(١) إلى أى مستويات الدخل تنتمى الدول الآتية (جنوب أفريقيا - الكونغو) ؟

(٢) حدد الحرفة الرئيسية التى يعتمد عليها اقتصاد كل دولة منهما.

(٣) ما مقترحاتك لتصبح مصر دولة ذات دخل اقتصادى مرتفع ؟ (ج. سيناء ٢٢)

⑨ «يتأثر توزيع السكان داخل القارات من منطقة إلى أخرى بعوامل طبيعية وأخرى بشرية» .

فى ضوء هذه العبارة، أجب عن الأسئلة الآتية : (الإسكندرية ٢٠)

(١) أين يتركز السكان فى قارة أستراليا ؟

(٢) لماذا يقل عدد السكان فى دولة النرويج ؟

(٣) ما مقترحاتك لحل المشكلات الناتجة عن زيادة السكان فى مصر ؟

⑩ «تهتم جميع دول العالم بالتعداد السكانى وهو إجراء دورى يتم كل خمس أو عشر سنوات» .

فى ضوء العبارة السابقة، استنتج العلاقة بين : (الوادى الجديد ٢٢)

(١) المناخ، وتوزيع السكان.

(٢) العادات والتقاليد، وارتفاع معدل المواليد فى أفريقيا.

⑪ «يختلف توزيع السكان من منطقة إلى أخرى داخل قارات العالم نتيجة لعوامل طبيعية وأخرى بشرية» . فى ضوء هذه العبارة، أجب عن الأسئلة الآتية : (بنى سويف ١٩)

(١) ما أهم المناطق التى يتركز فيها سكان الولايات المتحدة الأمريكية ؟

(٢) حدد أهم المشكلات المترتبة على زيادة عدد السكان فى معظم دول قارة آسيا.

(٣) ما مقترحاتك للنهوض بمستوى الخدمات الصحية والتعليمية فى الدول النامية ؟

⑫ حدد أى الأشكال الآتية يمثل النسب الصحيحة للسلالات البشرية، ثم حدد النسب مرتبة تنازليًا :

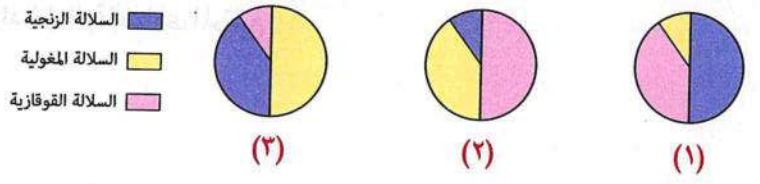

١٤ الأشكال البيانية

① اقرأ الرسم البيانى الذى أمامك، ثم أجب عن الأسئلة الآتية : (الجيزة ٢٢)

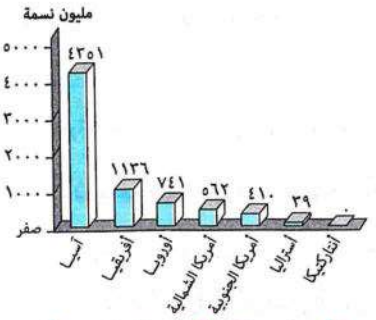

(أعداد سكان قارات العالم طبقًا لتقديرات عام ٢٠١٤م)

(١) ما أكبر قارات العالم سكانًا ؟

(٢) استنتج علاقة تضاريس هذه القارة بالتوزيع السكانى.

---

② أمامك رسم بيانى يوضح معدلات الوفيات فى العالم، عام ٢٠١٤م لاحظه جيدًا، ثم أجب عما يأتى : (القليوبية ١٩)



(١) أكمل : أقل معدل للوفيات يوجد فى قارة .....

(٢) ما تفسيرك لارتفاع معدل الوفيات فى أوروبا رغم تقدمها ؟

---

③ أمامك رسم بيانى يوضح نصيب الفرد من الدخل القومى السنوى فى قارات العالم للعام ٢٠١٤م، استعن به للإجابة عما يلى : (دمياط ٢٢)

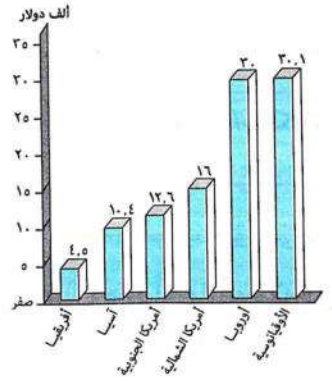

(١) أكمل :

أعلى نصيب من الدخل تمثله قارتى ..... و.....

(٢) ما تفسيرك لانخفاض نصيب الفرد من الدخل بقارتنا الأفريقية ؟

(٣) دلل على صحة العبارة «دول الخليج العربى من الدول ذات الدخل الاقتصادى المرتفع».

امتحان على الوحدة الثانية

١ **(أ) أمامك خريطة للعالم، اكتب مدلول الأرقام الموضحة عليها :**

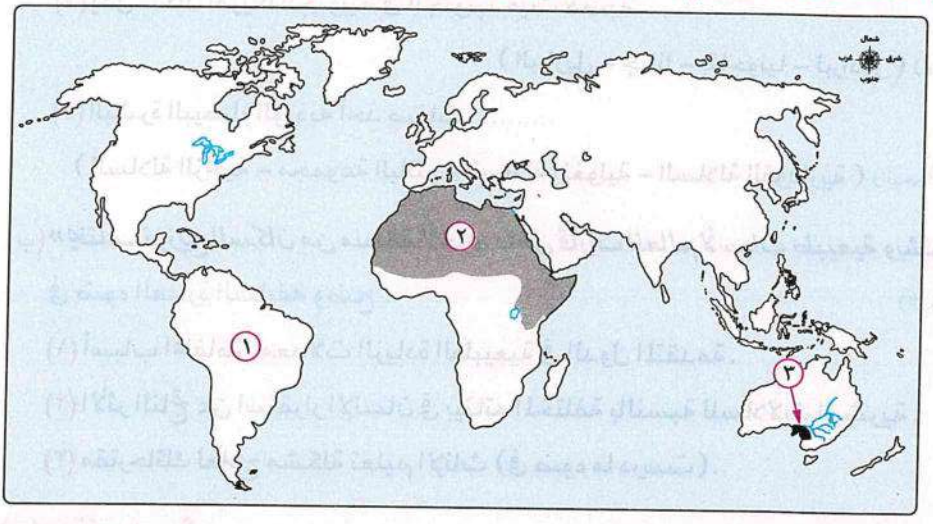

(١) أقل القارات فى معدل الوفيات .....

(٢) السلالة البشرية السائدة .....

(٣) منطقة يتركز بها السكان .....

(ب) اكتب كلمة (صواب) أو كلمة (خطأ) أمام العبارة الآتية، مع ذكر السبب فى الحالتين:

دول الخليج العربى من الدول ذات الدخل الاقتصادى فوق المتوسط. ( )

(جـ) دلل جغرافيًا على صحة كل مما يأتى :

(١) رغم تنوع واختلاط السلالات البشرية فى قارة أمريكا الشمالية إلا أنها لم تخل من السلالات النقية. (ج. سيناء ٢٥)

(٢) تختلف أسباب زيادة معدلات الوفيات فى قارة أوروبا عن قارة أفريقيا. (الدقهلية ٢٢)

(٣) يرتبط توزيع السكان فى أوروبا بالتقدم الحضارى. (مطروح ٢٥)

(د) ما العلاقة بين :

الكوارث الطبيعية، ومعدل الوفيات فى العالم ؟

٢ (أ) اختر الإجابة الصحيحة مما بين القوسين :

(١) أى من الدول الآتية تعتمد على التصنيع والتنمية الاقتصادية ؟ .....

(تركيا - الهند - أوكرانيا - هايتى)

(٢) يقل سكان أمريكا الجنوبية فى الجنوب حيث هضبة .....

(البرازيل - جيانا - بتاجونيا - لبرادور) (أسيوط ٢٢)

(٣) البشرة البيضاء الوردية أحد صفات .....

(السلالة الزنجية - مجموعة البانتو - السلالة المغولية - السلالة القوقازية) (البحر الأحمر ٢٤)

(ب) « *يختلف توزيع السكان من منطقة لأخرى داخل قارات العالم لأسباب طبيعية وبشرية* » .

فى ضوء العبارة السابقة وضح : (الدقهلية ٢٤)

(١) أسباب انخفاض معدلات الزيادة الطبيعية فى الدول المتقدمة .

(٢) الأثر الناتج عن استقرار الإنسان فى بيئاته المختلفة بالنسبة للسلالات البشرية .

(٣) مقترحاتك لعلاج مشكلة تعليم الإناث (فى ضوء ما درست) .

(جـ) بم تفسر ... ؟

(١) تعرض عدد كبير من الزنوج للهجرات الإجبارية إلى الأمريكتين . (كفر الشيخ ٢٣)

(٢) ارتفاع معدلات المواليد فى قارة أفريقيا بشكل كبير. (الجيزة ٢٣)



كتب الامتحان

فكر جديد ...

و **تميز** فى مجال التعليم ...

امتحان على الوحدتين الأولى والثانية
(عام على الجغرافيا)

١ (أ) أمامك خريطة لقارة أستراليا،
اكتب ما تدل عليه الأرقام الآتية :

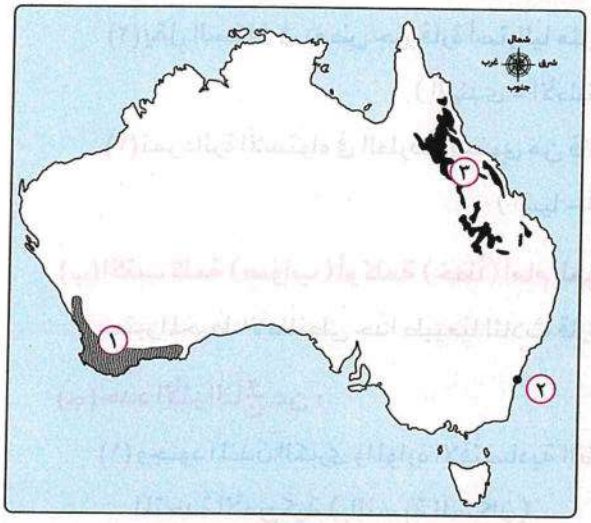

(١) إقليم مناخى .....

(٢) مدينة مزدحمة بالسكان .....

(٣) جبـــــال .....

(ب) أكمل الجدول التالى :

اسم الظاهرة	البرانس	المسيسبى	كلهارى	تسمانيا
تصنيفها الجغرافى	جبال	..... (١)	صحراء	..... (٢) .....
القارة	..... (٣)	أمريكا الشمالية	..... (٤)	أستراليا

(دمياط ٢٢)

(جـ) بم تفسر... ؟

(١) امتداد معظم الأقاليم المناخية فى قارة آسيا. (القاهرة ٢٣)

(٢) تركز سكان أمريكا الجنوبية فى هضبة البرازيل وسواحلها. (المنوفية ٢٣)

(٣) تمثل فئة صغار السن تحديًا كبيرًا للدول النامية. (ش. سيناء ٢٣)

(د) وضح أوجه الشبه بين :

قارة أمريكا الشمالية، وقارة أمريكا الجنوبية، من حيث الموقع الجغرافى. (أسوان ٢٣)

٢ (أ) اختر الإجابة الصحيحة مما بين القوسين :

(١) النهر الأوروبى الذى يصب فى بحر الشمال هو نهر .....

(الفولجا - الدانوب - الراين - السين) (بنى سويف ٢٣)

(٢) يقل السكان فى بعض جزر قارة أستراليا مثل جزيرة سولومون بالمحيط .....

(الهندى - الأطلنطى - الهادى - المتجمد الجنوبى) (بورسعيد ٢٣)

(٣) تمر دائرة الاستواء فى الطرف الجنوبى من قارة .....

(آسيا - أمريكا الشمالية - أوروبا - أستراليا) (الفيوم ٢٣)

(ب) اكتب كلمة (صواب) أو كلمة (خطأ) أمام العبارة الآتية، مع ذكر السبب فى الحالتين:

يعتبر المحيط الأطلنطى حدًا طبيعيًا لثلاث قارات مأهولة بالسكان. (كفر الشيخ ٢٥) ( )

(جـ) حدد الأثر الناتج عن :

(١) وجود المدن الكبرى والموارد الاقتصادية الضخمة بالساحل الشمالى الشرقى للولايات المتحدة الأمريكية (بالنسبة للسكان).

(٢) تجمد أنهار أوب وينسى ولينا فى فصل الشتاء.

(د) ما العلاقة بين ... ؟

(١) إقليم مناخ البحر المتوسط، وتنمية الثروة الحيوانية. (دمياط ٢٣)

(٢) زيادة عدد السكان فى قارة آسيا، ودول أوروبا. (كفر الشيخ ٢٤)

أسئلة عامة على الوحدة الثالثة

١ أكمل الجدولين الآتيين

(أ)

المعركة	الأطراف	النتائج
جالديران (١٥١٤م)	..... (١)	انتصار سليم الأول ودخوله تبريز
مرج دابق (١٥١٦م)	..... (٢)	هزيمة القوات المملوكية وأصبحت الشام ولاية عثمانية
الريدانية (١٥١٧م)	العثمانيون ضد المماليك	..... (٣) .....
شبراخيت (١٧٩٨م)	..... (٤)	..... (٥) .....
إمبابة (١٧٩٨م)	الفرنسيون ضد المماليك	..... (٦) .....
أبى قير البحرية (١٧٩٨م)	..... (٧)	..... (٨) .....
أبى قير البرية (١٧٩٩م)	..... (٩)	..... (١٠) .....

(ب)

مدينة	
(١)	عاصمة الدولة الصفوية واستولى عليها سليم الأول بعد معركة جالديران.
(٢)	تم نقل أمهر الصناع المصريين إليها فى العصر العثمانى.
(٣)	قاوم أهلها القوات الفرنسية بزعامة حاكمها محمد كُريم.
(٤)	استولى عليها نابليون وارتكب فيها مذبحة بشرية.
(٥)	استبسل أهلها فى الدفاع عنها بقيادة أحمد باشا الجزار ضد الفرنسيين.
(٦)	نُفى إليها السيد (عمر مكرم) عام ١٨٠٩م.
(٧)	أنشأ محمد على بها مدرسة عسكرية لإعداد الضباط.
(٨)	أنشأ بها محمد على ترسانة لصناعة السفن بعد ترسانة بولاق.
(٩)	تم إنشاءها فى السودان بعد ضم محمد على لها.

٢ اختر الإجابة الصحيحة مما بين القوسين

(١) قامت الدولة المملوكية فى مصر وضمت مناطق أخرى منها .....

(إيران - الحجاز - اليمن - الآستانة)

(٢) فقدت دولة المماليك أهميتها كوسيط تجارى بسبب .....

(الكشوف الجغرافية - معركة ديو البحرية - معركة الريدانية - اضطراب الأمن) (الفيوم ٢٥)

(٣) أى من المعارك التالية كانت سببًا فى تغيير الوضع الاقتصادى لمصر بداية القرن الـ ١٦م ؟

معركة ..... (أبى قير البرية - إمبابة - ديو البحرية - جالديران) (الدقهلية ٢٥)

(٤) المعركة التى كانت نتائجها بداية عصر جديد فى تاريخ مصر هى .....

(أبى قير البحرية - مرج دابق - الريدانية - ديو البحرية) (الغربية ٢٥)

(٥) أصبح ..... الحاكم الفعلى لمصر عام ١٧٦٨م.

(محمد بك الألفى - طومان باى - على بك الكبير - محمد بك أبو الدهب)

(٦) ضمت الطبقة الوسطى من المجتمع المصرى أثناء الحكم العثمانى .....

(الأتراك - المماليك - كبار التجار - الفلاحين) (المنوفية ٢٣)

(٧) أبحرت الحملة الفرنسية المتجهة سرًا إلى مصر من ميناء .....

(مرسيليا - جنوة - طولون - البندقية) (البحيرة ١٩)

(٨) واجه أهالى الإسكندرية الحملة الفرنسية ١٧٩٨م بزعامة .....

(أحمد باشا الجزار - عمر مكرم - محمد كُريم - مراد بك) (الغربية ٢٤)

(٩) فر مراد بك بعد هزيمته من الفرنسيين فى معركة إمبابة إلى .....

(الصعيد - الشام - دمياط - الإسكندرية) (السويس ١٩)

(١٠) حدث فراغ سياسى فى حكم مصر بعد معركة .....

(شبراخيت - أبى قير البرية - أبى قير البحرية - إمبابة)

(١١) ترتب على معركة أبى قير البحرية عام ١٧٩٨م .....

(رحيل نابليون إلى فرنسا - تحطم سفن الأسطول الإنجليزى -

توقف حركة التجارة الخارجية لمصر - عودة مراد بك إلى القاهرة)

(١٢) اتبع أهالى ..... حرب المناوشات والمعارك المتفرقة التى أنهكت قوة الفرنسيين.

(الإسكندرية - الدلتا - القاهرة - الصعيد) (الجيزة ١٩)

(١٣) شرع نابليون فى تحصين القاهرة بعد .....

(ثورة القاهرة الأولى - معركة أبى قير البرية - معركة شبراخيت - معركة إمبابة) (القاهرة ٢٣)

(١٤) قاد نابليون قواته إلى الشام للقضاء على الجيش العثمانى وفى طريقه استولى على .....

(الإسكندرية - دمياط - رشيد - العريش)

(١٥) تغير قائد الحملة الفرنسية فى مصر لأول مرة بعد ..... (بورسعيد ٢٣)

(معركة أبى قير البرية - ثورة القاهرة الأولى - معركة أبى قير البحرية - ثورة القاهرة الثانية)

(١٦) قامت ثورة القاهرة الثانية أثناء قيادة ..... للحملة الفرنسية فى مصر.
(نابليون - كليبر - مينو - ديبوى)

(١٧) يُعد إنشاء محاجر صحية بعدة مدن مصرية من إنجازات الحملة الفرنسية فى المجال .....
(الاقتصادى - السياسى - الاجتماعى - الإدارى)

(١٨) اطلع المصريون على بعض ملامح الحياة الديمقراطية فى أوروبا من خلال مشاركتهم فى .....
(المجمع العلمى - تأليف كتاب وصف مصر - الدواوين - مقاومة الحملة الفرنسية) (سوهاج ٢٢)

(١٩) حدث أول تقارب بين محمد على والزعامة الشعبية أثناء .....
(ثورة الشعب المصرى ١٨٠٤م - توليته عام ١٨٠٥م - محاولة نقله عام ١٨٠٦م - حملة فريزر ١٨٠٧م)

(٢٠) اجتمع زعماء الشعب بدار المحكمة فى مايو ١٨٠٥م وقرروا عزل الوالى .....
(محمد على - خورشيد باشا - إبراهيم بك - مراد بك) (القاهرة ٢٢)

(٢١) سعت بريطانيا فى مطلع القرن الـ ١٩م لتولية حكم مصر لحلفائها من .....
(المماليك - المصريين - العثمانيين - الفرنسيين) (المنوفية ٢٣)

(٢٢) فشلت حملة فريزر على مصر عام ١٨٠٧م بسبب مقاومة .....
(المماليك - الأتراك - المصريين - الفرنسيين) (الغربية ٢٠)

(٢٣) قام محمد على بنفى عمر مكرم إلى مدينة ..... (الإسكندرية - رشيد - دمياط - أسوان)

(٢٤) بدأ محمد على تطبيق سياسة الحكم المطلق بعد ..... (القضاء على الزعامة الشعبية - هزيمة الحملة الإنجليزية - فشل تنفيذ فرمان يوليو ١٨٠٦م - مذبحة القلعة) (سوهاج ٢٢)

(٢٥) أقام محمد على إصلاحات فى الزراعة عن طريق ..... (الاستثمارات الأجنبية - إلغاء المحاصيل التقليدية - الاهتمام بالرى والتعليم الزراعى - اتباع نظام الالتزام)

(٢٦) ظهرت طبقة ..... فى عهد محمد على كقوة اجتماعية مستقرة.
(علماء الأزهر - التجار - المماليك - البدو) (الجيزة ٢٢)

(٢٧) من أبرز أعضاء البعثات العلمية التى أوفدها محمد على إلى أوروبا .....
(عمر مكرم - رفاعة الطهطاوى - سليمان الحلبى - محمد كُريم) (دمياط ٢٣)

(٢٨) اكتسب حى بولاق خلال حكم محمد على لمصر أهمية .....
(عسكرية ودينية - ثقافية واجتماعية - اقتصادية ودينية - عسكرية وثقافية) (الدقهلية ٢٤)

(٢٩) أدت حروب محمد على فى اليونان لضم جزيرة ..... إلى ولاية مصر.
(مالطة - كريت - صقلية - رودس) (ش. سيناء ١٨)

٣ اكتب كلمة (صواب) أمام العبارة الصحيحة، وكلمة (خطأ) أمام العبارة غير الصحيحة، مع التصويب

(١) تعرضت دولة المماليك لأزمات مالية وتدهور اقتصادى منذ أواخر القرن الـ ١٥م.
( ) (القليوبية ١٧)

(٢) تحطم الأسطول العثمانى فى معركة ديو البحرية عام ١٥٠٩م. (الإسكندرية ٢٢) ( )

(٣) تجنب السلطان العثمانى سليم الأول أوائل القرن الـ١٦م الصدام مع الدول الأوروبية. ( )
(المنيا ٢٤)

(٤) نجح المماليك فى دخول تبريز عاصمة الصفويين عام ١٥١٤م. (مطروح ٢٤) ( )

(٥) اقتصرت الصناعة فى مصر أثناء الحكم العثمانى على الصناعات اليدوية البسيطة. ( )

(٦) اتسمت الحياة الفكرية والثقافية فى مصر أثناء الحكم العثمانى بالتطور والازدهار. (الفيوم ٢٤) ( )

(٧) تبلورت الزعامات الوطنية فى مقاومة الحملة الفرنسية على مصر منذ دخول نابليون الإسكندرية. ( )

(٨) انهزم الفرنسيون أمام المماليك فى معركة شبراخيت. ( )

(٩) اعتمد المماليك على الفروسية فى حروبهم ضد الحملة الفرنسية. ( )

(١٠) استقرت أوضاع الحملة الفرنسية بعد دخول نابليون القاهرة. ( )

(١١) كان لموقعة أبى قير البحرية فى أغسطس ١٧٩٨م أثر بعيد المدى على فشل الحملة الفرنسية على مصر. ( )

(١٢) سهلت مذبحة يافا البشرية على نابليون الاستيلاء على عكا. ( )

(١٣) أخفقت القوات الفرنسية فى إخضاع أهالى الصعيد. (بنى سويف ٢٥) ( )

(١٤) وافقت الحكومة البريطانية على اتفاقية العريش عام ١٨٠٠م. (أسيوط ٢٣) ( )

(١٥) شهدت مصر عقب خروج الحملة الفرنسية حالة من عدم الاستقرار السياسى. (الشرقية ٢٢) ( )

(١٦) جاهر محمد على بالانضمام إلى العلماء والمشايخ أثناء ثورة الشعب المصرى فى مارس ١٨٠٤م. (ج. سيناء ٢٠) ( )

(١٧) أرسى العلماء قواعد الحكم الدستورى لمصر منذ مطلع القرن الـ١٩م. (الدقهلية ٢٣) ( )

(١٨) حاولت إنجلترا تدعيم موقف محمد على بعد توليه السلطة. ( )

(١٩) أقدم «محمد على» على خلع السيد «عمر مكرم» من نقابة الأشراف. ( )

(٢٠) حرص «محمد على» على حرمان الزعامة الشعبية من تولى المناصب الرفيعة فى الدولة. (الإسكندرية ٢٠) ( )

(٢١) نظم محمد على الاقتصاد المصرى فى الزراعة والصناعة على أساس نظام الالتزام. (الفيوم ٢٣) ( )

(٢٢) أثرت سياسة محمد على الاقتصادية فى تشكيل البناء الاجتماعى فى مصر. (أسوان ١٨) ( )

(٢٣) زاد نفوذ طبقة التجار فى عهد محمد على. (السويس ١٧) ( )

(٢٤) كانت مشروعات محمد على التعليمية والثقافية بهدف سد احتياجات الجيش. (دمياط ٢٤) ( )

(٢٥) أصدر محمد على اللائحة الجديدة ١٨٣٧م لإعادة تنظيم الإدارة إلى سبعة دواوين وحدد اختصاصاتها. (الغربية ١٧) ( )

(٢٦) إنشاء مدينة الخرطوم من نتائج ضم محمد على للسودان. (البحر الأحمر ١٧) ( )

(٢٧) كانت حروب السودان نقطة تحول فى العلاقات بين مصر والدولة العثمانية. ( )

(٢٨) قضى فرمان ١٨٤١م بحكم وراثة مصر لأكبر أبناء محمد على من الذكور سنًا. (البحر الأحمر ١٩) ( )

٤ صوب ما تحته خط

(١) القوات المملوكية التى هزمت خارج حدود مصر عام ١٥١٦م كان يقودها على بك الكبير. (البحيرة ٢٤)

(٢) فشلت حركة على بك الكبير وعادت مصر ولاية عثمانية تحت حكم شيخ البلد إبراهيم بك. (البحيرة ١٧)

(٣) اعتقلت القوات الفرنسية مراد بك وقامت بإعدامه بالرصاص فى سبتمبر ١٧٩٨م.

(٤) كان حى بولاق مركزًا لثورة القاهرة الأولى ضد الفرنسيين. (القليوبية ١٩)

(٥) تفاوض كليبر مع العثمانيين لعقد اتفاقية لندن عام ١٨٠٠م. (المنوفية ١٧)

(٦) تحالفت الدولة العثمانية مع بريطانيا وألمانيا لإخراج الحملة الفرنسية من مصر. (المنيا ٢٢)

(٧) قام علماء الحملة الفرنسية بتأليف كتاب الوقائع المصرية.

(٨) وجهت حملة فريزر أنظار الدول الأوروبية إلى أهمية موقع مصر الجغرافى والاستراتيجى.

(٩) قاد نلسون الحملة الإنجليزية على مصر عام ١٨٠٧م. (السويس ٢٢)

(١٠) أدرك محمد على قوة المماليك بعد توليه الحكم عام ١٨٠٥م. (أسوان ٢٤)

(١١) من مظاهر اهتمام محمد على بتحسين طرق الرى فى مصر حفر ترعة الإبراهيمية. (القليوبية ٢٣)

(١٢) أنشأ محمد على مدرسة عسكرية فى الإسكندرية.

(١٣) صدرت صحيفة الأهرام فى عهد محمد على. (الأقصر ٢٥)

(١٤) أنشأ محمد على عدة دواوين مثل ديوان القاهرة.

(١٥) تُعرف حروب محمد على فى بلاد الشام بالحروب الوهابية. (الأقصر ٢٤)

٥ اكتب ما تشير إليه كل عبارة مما يأتى

(١) طريق اكتشف عام ١٤٩٨م فكان سببًا للتدهور الاقتصادى لدولة المماليك. (القاهرة ١٩)

(٢) معركة انتصر فيها سليم الأول على الصفويين عام ١٥١٤م. (قنا ١٧)

(٣) إمارة مملوكية بادر العثمانيون بالاستيلاء عليها عام ١٥١٦م. (مطروح ٢٥)

(٤) معركة حربية تحولت بعدها مصر إلى ولاية عثمانية عام ١٥١٧م. (القاهرة ١٩)

(٥) نظام أثقل الفلاح بالضرائب المفروضة على الأراضى الزراعية أثناء العصر العثمانى. (الشرقية ٢٠)

(٦) علوم احتفظت بمكانتها وأهميتها فى مصر خلال العصر العثمانى.

(٧) أول مواجهة عسكرية بين المماليك والحملة الفرنسية فى مصر. (الإسكندرية ١٨)

(٨) رحيل قوات الاحتلال عن البلد المحتل.

(٩) مكان اجتمع فيه زعماء الشعب وقرروا عزل خورشيد وتولية محمد على.

(١٠) أدرك محمد على أنها الدعامة الأساسية لتحقيق أهدافه وبناء الدولة الحديثة. (الإسكندرية ٢٢)

(١١) معركة تحطم فيها الأسطول المصرى أثناء حروب محمد على فى اليونان.

(١٢) معاهدة تحالفت فيها الدول الأوروبية مع الدولة العثمانية ضد محمد على عام ١٨٤٠م. (سوهاج ٢٤)

٦ إلى من تنسب الأعمال التاريخية الآتية ... ؟

(١) تمكن من هزيمة الصفويين فى معركة جالديران عام ١٥١٤م. (أسيوط ٢٢)

(٢) حاكم جنوب الشام الذى تحالف معه على بك الكبير. (السويس ٢٤)

(٣) قاد الأسطول الإنجليزى فى معركة أبى قير البحرية عام ١٧٩٨م. (كفر الشيخ ٢٠)

(٤) ارتكب مذبحة بشرية ضد أهالى يافا عام ١٧٩٩م. (بنى سويف ١٨)

(٥) قاد أهالى عكا فى الدفاع عن مدينتهم ضد قوات نابليون. (الجيزة ٢٤)

(٦) تزعم المصريين أثناء ثورة القاهرة الثانية ضد الفرنسيين عام ١٨٠٠م. (سوهاج ٢٣)

(٧) أنشأ ترسانة لصناعة السفن فى بولاق ثم فى الإسكندرية. (البحر الأحمر ٢٢)

(٨) اهتم بتمهيد وتأمين الطرق البرية والبحرية وبتطهير البحر الأحمر من القرصنة. (الفيوم ٢٢)

(٩) قام بتأسيس كل من المطبعة الأميرية وترسانة بحرية فى بولاق. (أسيوط ٢٣)

٧ بم تفسر ... ؟

(١) اتجاه العثمانيين للاستيلاء على الشام ومصر.

(٢) أصبحت مصر ولاية عثمانية عام ١٥١٧م.

(٣) هزيمة الجيوش المملوكية أمام جيوش العثمانيين فى الشام ومصر. (السويس ١٩)

(٤) فشل حركة على بك الكبير الاستقلالية بمصر. (سوهاج ٢٠)

(٥) تدهور الزراعة فى مصر فى العصر العثمانى. (الدقهلية ٢٠)

(٦) تدهور الصناعة فى مصر أثناء الحكم العثمانى. (ج. سيناء ٢٤)

(٧) كساد التجارة الداخلية والخارجية فى مصر أثناء الحكم العثمانى. (القاهرة ١٧)

(٨) مجىء الحملة الفرنسية على مصر عام ١٧٩٨م. (الأقصر ٢٥)

(٩) اصطحاب نابليون لمجموعة من العلماء فى حملته على مصر. (كفر الشيخ ٢٤)

(١٠) هزيمة المماليك أمام قوات الحملة الفرنسية.

(١١) فشل القوات الفرنسية فى إخضاع أهالى الصعيد. (ش. سيناء ٢٥)

(١٢) قيام ثورة القاهرة الأولى عام ١٧٩٨م. (البحيرة ٢٠)

(١٣) فشل الحملة الفرنسية فى الاستيلاء على عكا. (الأقصر ٢٤)

(١٤) رحيل نابليون سرًا إلى فرنسا. (المنيا ١٧)

(١٥) اتجاه كليبر للتفاوض مع الدولة العثمانية عام ١٨٠٠م. (السويس ٢٣)

(١٦) فشل اتفاقية العريش عام ١٨٠٠م. (المنوفية ٢٥)

(١٧) اهتمام نابليون بإنشاء الدواوين فى مصر.

(١٨) ثورة الشعب المصرى فى مارس ١٨٠٤م.

(١٩) نجاح محمد على فى اكتساب عطف الشعب المصرى وثقة زعمائه عام ١٨٠٤م.

(٢٠) إصدار السلطان العثمانى فرمان بنقل محمد على إلى ولاية سالونيك فى يوليو ١٨٠٦م.

(٢١) حملة فريزر على مصر فى مارس ١٨٠٧م. (المنوفية ١٩)

(٢٢) تطبيق نظام الاحتكار فى عهد محمد على.

(٢٣) ازدهار الزراعة فى مصر فى عهد محمد على. (القاهرة ٢٣)

(٢٤) نشاط التجارة فى مصر فى عهد محمد على. (كفر الشيخ ٢٥)

(٢٥) اهتمام محمد على بالتعليم والثقافة فى مصر.

(٢٦) إنشاء محمد على للمطبعة الأميرية فى بولاق.

(٢٧) حروب محمد على فى شبه الجزيرة العربية. (الأقصر ٢٠)

(٢٨) ضم محمد على للسودان.

(٢٩) حروب محمد على فى بلاد اليونان. (بورسعيد ٢٠)

(٣٠) توتر العلاقة بين محمد على والسلطان العثمانى فى نهاية حروب اليونان. (الغربية ٢٢)

(٣١) عقد معاهدة لندن الدولية عام ١٨٤٠م. (البحيرة ٢٤)

٨ ما النتائج التى ترتبت على ... ؟

(١) اكتشاف طريق رأس الرجاء الصالح عام ١٤٩٨م. (سوهاج ٢٤)

(٢) صراع المماليك المستمر على السلطة فيما بينهم.

(٣) موقعة مرج دابق عام ١٥١٦م. (أسيوط ٢٢)

(٤) هزيمة المماليك أمام العثمانيين فى معركة الريدانية عام ١٥١٧م. (الفيوم ٢٢)

(٥) انحياز محمد بك أبو الدهب للسلطان العثمانى ضد على بك الكبير. (كفر الشيخ ٢٤)

(٦) العزلة التى فرضها العثمانيون على مصر من الناحية الفكرية والثقافية. (أسيوط ٢٤)

(٧) انتقال الصناع المصريين المهرة إلى عاصمة الدولة العثمانية. (الإسكندرية ٢٠)

(٨) هزيمة المماليك فى معركة إمبابة على يد الفرنسيين.

(٩) معركة أبى قير البحرية فى أغسطس عام ١٧٩٨م. (بنى سويف ٢٤)

(١٠) اتباع أهالى الصعيد حرب المناوشات والمعارك المتفرقة ضد قوات الحملة الفرنسية. (الغربية ١٨)

(١١) ثورة القاهرة الأولى أكتوبر ١٧٩٨م. (أسوان ٢٣)

(١٢) مذبحة يافا البشرية. (الوادى الجديد ٢٤)

(١٣) ثورة القاهرة الثانية عام ١٨٠٠م. (المنوفية ٢٥)

(١٤) الحملة الإنجليزية على مصر عام ١٨٠٧م. (الإسكندرية ٢٢)

(١٥) انقسام القيادات الشعبية المصرية حول تقدير مكانة السيد (عمر مكرم). (بنى سويف ٢٠)

(١٦) حاجة محمد على إلى الموظفين لسد حاجة المصالح الحكومية.

(١٧) حروب محمد على فى شبه الجزيرة العربية. (سوهاج ٢٤)

(١٨) حروب محمد على فى بلاد اليونان. (سوهاج ٢٢)

(١٩) ضم محمد على للسودان. (الإسكندرية ٢٥)

(٢٠) حروب الشام ١٨٣١م : ١٨٣٩م. (ج. سيناء ٢٠)

(٢١) مفاوضات محمد على مع القوى الأوروبية لتأمين انسحاب جيشه من المورة. (المنيا ٢٠)

٩ ماذا كان يحدث إذا ... ؟

(١) لم يتم اكتشاف طريق رأس الرجاء الصالح ١٤٩٨م. (بنى سويف ٢٠)

(٢) هُزمت القوات العثمانية فى موقعة مرج دابق ١٥١٦م. (الوادى الجديد ٢٢)

(٣) نجحت حركة على بك الكبير الاستقلالية بمصر. (القليوبية ٢٢)

(٤) لم يتم إغراق أسطول الحملة الفرنسية فى أبى قير البحرية. (القليوبية ١٧)

(٥) نجح نابليون فى دخول عكا.

(٦) لم ترفض إنجلترا تنفيذ اتفاقية العريش عام ١٨٠٠م. (ج. سيناء ٢٤)

(٧) لم يتم اكتشاف حجر رشيد. (سوهاج ٢٣)

(٨) نجحت حملة فريزر عام ١٨٠٧م فى تحقيق أهدافها. (الفيوم ٢٢)

(٩) لم يقم محمد على بضم السودان. (ش. سيناء ٢٥)

(١٠) لم تفرض الدول الأوروبية معاهدة لندن ١٨٤٠م على «محمد على». (بور سعيد ١٩)

١٠ ما رأيك فى ... ؟

(١) نظام الالتزام الذى طبقته الدولة العثمانية على المصريين فى منتصف القرن الـ ١٧م. (سوهاج ١٨)

(٢) إرسال أمهر الصناع المصريين إلى عاصمة الدولة العثمانية أثناء الحكم العثمانى لمصر. (دمياط ١٨)

(٣) إشراك نابليون للأعيان والعلماء المصريين فى الديوان العام. (دمياط ١٧)

(٤) إعدام نابليون حامية يافا رغم تأمينه لهم على أرواحهم.

(٥) اختيار الشعب المصرى وزعمائه لمحمد على واليًا على مصر عام ١٨٠٥م.

(٦) موقف محمد على من الزعامة الشعبية بعد توليه الحكم. (بنى سويف ١٩)

(٧) قيام محمد على بمذبحة القلعة عام ١٨١١م. (مطروح ١٨)

(٨) سياسة الاحتكار التى طبقها محمد على فى بناء الاقتصاد المصرى. (الإسماعيلية ٢٤)

١١ ما العلاقة بين ... ؟

(١) معركة أبى قير البحرية عام ١٧٨٩م، وثورة القاهرة الأولى عام ١٧٩٨م. (الدقهلية ٢٣)

(٢) رواج التجارة الخارجية لمصر، ووجود الحملة الفرنسية. (المنيا ٢٥)

(٣) فرمان عام ١٨٠٦م، ومجىء حملة فريزر الإنجليزية على مصر عام ١٨٠٧م. (الشرقية ٢٢)

(٤) حروب اليونان ١٨٢١م : ١٨٢٨م، ومكانة مصر الدولية. (السويس ٢٥)

(٥) مذبحة يافا البشرية، وفشل نابليون فى اقتحام عكا. (البحيرة ٢٤)

١٢ ما المقصود بالمصطلحات التاريخية الآتية ... ؟

(١) حق الانتفاع. (قنا ٢٥) (٢) مقاومة. (الأقصر ٢٤) (٣) جلاء. (سوهاج ١٩)

(٤) فرمان. (القاهرة ٢٢) (٥) نظام الاحتكار. (السويس ٢٤)

١٣ أيد بالأدلة التاريخية صحة كل عبارة مما يأتى

(١) تعود هزيمة المماليك لعوامل أخرى غير تفوق الجيش العثمانى عسكريًا. (دمياط ٢٢)

(٢) حمل نظام الحكم العثمانى بمصر فى ثناياه عوامل ضعفه. (البحر الأحمر ١٨)

(٣) تدهور الصناعة فى مصر خلال الحكم العثمانى.

(٤) اتسمت الحياة الفكرية فى مصر تحت الحكم العثمانى بالجمود والتخلف. (الجيزة ٢٥)

(٥) تأثر وضع مصر السياسى بالصراع الاستعمارى الإنجليزى الفرنسى فى نهاية القرن الـ١٨م. (الفيوم ٢٥)

(٦) تولى كليبر أمر قيادة الحملة الفرنسية على مصر والأخطار تهدد الحملة من كل جانب. (البحيرة ١٨)

(٧) ساعدت بريطانيا فى إطالة فترة بقاء الحملة الفرنسية فى مصر. (الأقصر ٢٥)

(٨) كان للحملة الفرنسية على مصر آثار فى المجال الاقتصادى والاجتماعى.

(٩) استطاعت الزعامة الشعبية فرض إرادتها أكثر من مرة على السلطان العثمانى. (بنى سويف ٢٢)

(١٠) حاولت إنجلترا التخلص من محمد على فى بداية حكمه بالطرق السلمية والعسكرية. (مطروح ٢٣)

(١١) اتبع محمد على سياسة زراعية تهدف إلى توفير أكبر قدر من الإنتاج الزراعى فى مصر. (قنا ١٧)

(١٢) قام محمد على بتطوير وتحديث الإنتاج الصناعى فى مصر.

(١٣) اتبع محمد على سياسة تهدف إلى السيطرة على الإنتاج الصناعى فى مصر. (القليوبية ٢٢)

(١٤) ازدهار النقل والمواصلات فى مصر فى عهد محمد على. (الجيزة ٢٣)

(١٥) أثرت سياسة محمد على الاقتصادية فى تشكيل وبناء القوى الاجتماعية فى مصر. (كفر الشيخ ٢٤)

(١٦) اهتم محمد على بالتعليم والثقافة فى مصر.

(١٧) أثارت انتصارات محمد على وازدياد نفوذه الدول الأوروبية ضده.

١٤ قارن بين

(١) معركة مرج دابق ١٥١٦م، ومعركة الريدانية ١٥١٧م، من حيث :
* الأطراف. * النتائج.

(٢) معركة أبى قير البحرية، ومعركة أبى قير البرية، من حيث : (الجيزة ١٨)
* الأطراف. * النتائج.

(٣) ثورة القاهرة الأولى، وثورة القاهرة الثانية، من حيث : (القاهرة ٢٢)
* مركز المقاومة. * قائد الحملة الفرنسية. * النتائج.

(٤) الحملة الفرنسية على مصر ١٧٩٨م، والحملة الإنجليزية على مصر ١٨٠٧م، من حيث : (المنيا ٢٥)
الأسباب.

(٥) اتفاقية العريش عام ١٨٠٠م، ومعاهدة لندن الدولية عام ١٨٤٠م، من حيث :
* الأطراف. * الشروط.

١٥ رتب الأحداث التاريخية الآتية من القديم إلى الحديث

(١) * معاهدة لندن.
* تولية كليبر قيادة الحملة الفرنسية.
* معركة شبراخيت.
* مذبحة القلعة.

(٢) * تولية محمد على حكم مصر.
* معركة أبى قير البحرية.
* جلاء الفرنسيين عن مصر.
* معركة إمبابة.

(٣) * تولية مينو قيادة الحملة الفرنسية.
* نفى عمر مكرم إلى دمياط.
* إعدام محمد كريم.
* عودة نابليون لفرنسا.

(٤) * حروب محمد على فى بلاد اليونان.
* حملة فريزر على مصر.
* ثورة القاهرة الأولى.
* حروب محمد على بشبه الجزيرة العربية.
* الحملة الفرنسية على الشام.
* معركة الريدانية.

١٦ الخرائط

① أمامك خريطة توضح الحروب الوهابية من ١٨١١م إلى ١٨١٩م فى ضوء الخريطة وضح : (الجيزة ٢٤)

(١) الهدف من الحروب الوهابية.

(٢) مركز انتشار الدعوة الوهابية.

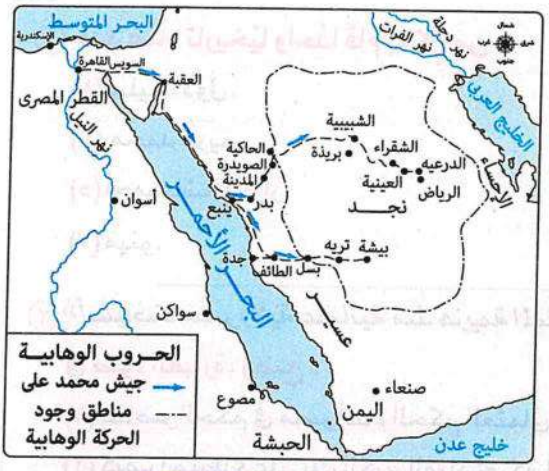

② أمامك خريطة لخط سير الحملة الإنجليزية على مصر تأملها، ثم أجب ما يلى : (الفيوم ٢٤)

(١) ما اسم قائد الحملة ؟ .....

(٢) اسم المدينة رقم ① .....

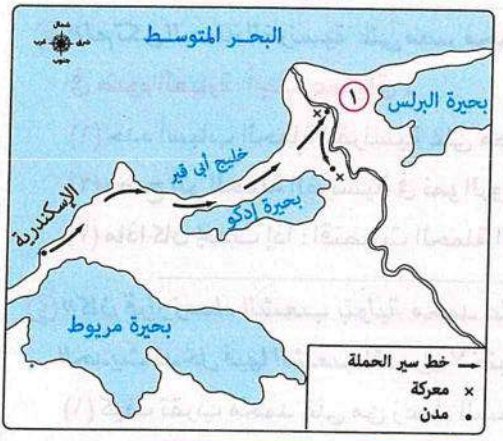

③ أمامك خريطة توضح أحد الطرق التجارية، من خلالها وضح ما يلى : (الجيزة ٢٢)

(١) اسم الطريق التجارى.

(٢) أثر اكتشاف هذا الطريق على دولة المماليك.

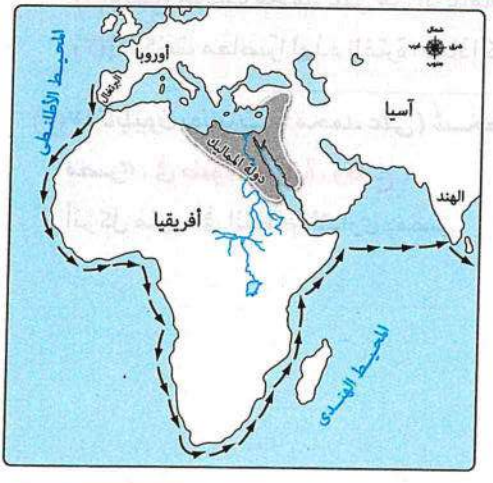

١٧ أسئلة متنوعة

① حدد عملًا تاريخيًا واحدًا قام به كل من :

(١) سليم الأول.
(٢) على بك الكبير.
(٣) محمد كُريم.
(٤) نابليون بونابرت.
(٥) أحمد باشا الجزار.
(٦) كليبر.
(٧) مينو.
(٨) ظاهر العمر. (الجيزة ٢٥)

---

② «أصبحت مصر ولاية عثمانية منذ هزيمة المماليك على يد العثمانيين عام ١٥١٧م».

فى ضوء العبارة، وضح :

(١) عناصر الحكم فى مصر أثناء الحكم العثمانى.

(٢) كيف استطاع على بك الكبير القيام بحركة استقلالية، وماذا كان مصيرها.

---

③ «لم تكن الحملة الفرنسية على مصر مجرد حملة عسكرية تقليدية للغزو والاحتلال».

فى ضوء العبارة، أجب عما يأتى :

(١) حدد أسباب الحملة الفرنسية على مصر عام ١٧٩٨م. (الوادى الجديد ١٨)

(٢) وضح أثر الحملة الفرنسية فى نمو الروح القومية عند المصريين.

(٣) ماذا كان يحدث إذا : اقتصرت الحملة الفرنسية على العسكريين فقط ؟

---

④ «كان قرار زعماء الشعب بتولية محمد على واليًا على مصر أول حادثة مهمة فى تاريخ مصر الحديث تدخل فيها الشعب المصرى لاختيار حاكمه بنفسه». فى ضوء العبارة :

(١) كيف تقرب محمد على من زعماء الشعب ؟

(٢) وضح موقف محمد على من الزعامة الشعبية بعد توليه حكم مصر.

(٣) إذا كنت معاصرًا لهذه الفترة، فماذا كنت تقول لكل من : عمر مكرم، محمد على ؟

---

⑤ «(نابليون بونابرت - محمد على) شخصيتان تاريخيتان لعب كل منهما دورًا بارزًا فى تاريخ مصر». فى ضوء العبارة، وضح :

أثر كل منهما فى النظام الإدارى بمصر.

امتحان على الوحدة الثالثة

١ (أ) اختر الإجابة الصحيحة مما بين القوسين :

(١) أسس محمد على مدرسة حربية فى ..... (بولاق - أسوان - دمياط - الإسكندرية) (المنوفية ٢٣)

(٢) تحطم أسطول دولة المماليك فى معركة .....

(مرج دابق - ديو البحرية - الريدانية - جالديران) (البحر الأحمر ٢٣)

(٣) ساءت العلاقة بين الإنجليز والسلطان العثمانى بعد ..... (تولية محمد على الحكم - حملة فريزر - رضوخ السلطان العثمانى للزعامة الشعبية - مذبحة القلعة) (الغربية ٢٢)

(ب) دلل تاريخيًا على صحة العبارتين الآتيتين :

(١) لعبت إنجلترا أدوارًا بارزة فى أحداث الحملة الفرنسية على مصر ١٧٩٨م. (بنى سويف ٢٣)

(٢) دخلت مصر فى حالة من الفوضى منذ عام ١٨٠١م حتى عام ١٨٠٥م. (دمياط ٢٢)

(جـ) أمامك صورة لشخصية تاريخية هامة تولت حكم مصر فى بداية القرن الـ ١٩م، وضح ما يلى : (الجيزة ٢٢)



(١) صاحب هذه الصورة.

(٢) دوره فى بناء أسطول مصرى قوى.

(د) رتب الأحداث التاريخية الآتية من القديم إلى الحديث :

* مذبحة القلعة.
* معركة أبى قير البحرية.
* حملة فريزر.
* معركة مرج دابق.
* إعدام محمد كُريم.

---

٢ (أ) اكتب كلمة (صواب) أو كلمة (خطأ) أمام العبارتين الآتيتين، مع ذكر السبب فى الحالتين:

(١) شهدت منطقة بولاق إقامة منشآت ثقافية وعسكرية فى عهد محمد على. ( )
(الإسماعيلية ٢٥)

(٢) كانت طبقة المماليك تمثل فئة الحكام فى عهد كل من الدول العثمانية ومحمد على. ( )
(الإسكندرية ٢٥)

(ب) *«تعرضت مصر عبر تاريخها لكثير من المحن والأزمات التى تم اجتيازها على يد أبنائها الشرفاء»*. فى ضوء هذه العبارة، أجب عما يأتى :

(١) حدد : أسباب اتجاه العثمانيين إلى الشام ومصر.

(٢) بم تفسر : كانت إنجلترا تسعى لتولية محمد بك الألفى حكم مصر؟ (القليوبية ٢٢)

(٣) ما المقصود بـ : فرمان ؟ (مطروح ٢٢)

(جـ) ما العلاقة بين ... ؟

(١) الحملة الفرنسية على مصر، والتاريخ المصرى القديم. (الإسكندرية ٢٥)

(٢) حركة على بك الاستقلالية، ومحمد بك أبو الدهب. (بنى سويف ٢٤)

أسئلة عامة على الوحدة الرابعة

١ أكمل الجدولين الآتيين

(أ)

وزارة	
(١)	تشكلت بعد مظاهرة عابدين وأجرت الانتخابات لمجلس النواب الجديد الذى أُفتتح فى ديسمبر ١٨٨١م.
(٢)	تشكلت فى فبراير ١٨٨٢م وعُين فيها عرابى وزيرًا للجهادية والبحرية.
(٣)	تشكلت فى يونيه ١٨٨٢م بعد أن ظلت البلاد بلا وزارة لمدة أسبوعين.
(٤)	دخلت فى مفاوضات رسمية مع كيرزون وزير خارجية بريطانيا.
(٥)	شكلت لجنة من ثلاثين عضوًا لوضع دستور ١٩٢٣م.
(٦)	استقالت بعد مقتل السير لى ستاك القائد العام للجيش المصرى والحاكم العام للسودان.
(٧)	قبلت بمطالب اللورد اللنبى ومنها سحب الجيش المصرى من السودان.
(٨)	ألغت دستور ١٩٢٣م ووضعت مكانه دستور ١٩٣٠م.
(٩)	تشكلت بعد حادث ٤ فبراير ١٩٤٢م.

(ب)

(١) أول خط حديدى بين القاهرة والإسكندرية شرع فى إنشائه	.....
(٢) أول قرض مع أحد البنوك البريطانية عُقد فى عهد	.....
(٣) أول وزارة مسئولة فى مصر بها وزيرين أجنبيين كانت برئاسة	.....
(٤) أول وزارة برلمانية فى مصر شكلها الزعيم	.....

٢ اختر الإجابة الصحيحة مما بين القوسين

(١) توقفت حركة النهضة التى بدأت فى عهد «محمد على» على يد .....

(سعيد - عباس الأول - توفيق - إسماعيل)

(٢) أُنشئ فى عهد سعيد باشا خط سكة حديد من القاهرة إلى .....

(بورسعيد - الإسكندرية - السويس - دمياط) (الإسماعيلية ٢٥)

(٣) جعل مدة الخدمة العسكرية سنة إجبارية للجميع .....

(الخديو إسماعيل - الخديو توفيق - سعيد باشا - عباس باشا الأول) (سوهاج ٢٢)

(٤) ألغى ..... ديوان المدارس وفى نفس الوقت شجع البعثات الأجنبية على إنشاء مدارس لها بمصر.

(توفيق - سعيد - إسماعيل - عباس) (المنوفية ٢٠)

(٥) بدأت الأزمة المالية فى مصر فى عهد .....

(عباس الأول - إسماعيل - توفيق - سعيد) (سوهاج ٢٥)

(٦) كان حفرها شرطًا من شروط حفر قناة السويس ترعة .....
(الإبراهيمية - النوبارية - المحمودية - الإسماعيلية) (البحر الأحمر ٢٤)

(٧) يمثل عهده أزهى الفترات وأكثرها تقدمًا وعمرانًا فى تاريخ مصر الحديث رغم التدخل الأجنبى .....
(إسماعيل - محمد على - سعيد - عباس الأول) (الغربية ٢٥)

(٨) تم إنشاء مصلحة البريد المصرية فى عهد ..... (عباس - سعيد - إسماعيل - توفيق)

(٩) عرفت مصر الهيئات شبه النيابية حين تأسس .....
(مجلس شورى النواب - ديوان القاهرة - الديوان العالى - مجلس المشورة) (ش.سيناء ٢٢)

(١٠) أرسلت بريطانيا عام ١٨٧٥م بعثة إلى مصر برئاسة ..... (ونجت - ملنر - كييف - اللنبى)

(١١) تم افتتاح قناة السويس للملاحة فى عهد .....
(الخديو توفيق - عباس باشا الأول - الخديو إسماعيل - سعيد باشا)

(١٢) تشكلت وزارة نوبار المختلطة تنفيذًا لمقترحات .....
(صندوق الدين - لجنة ملنر - لجنة التحقيق العليا الأوروبية - بعثة كييف) (البحر الأحمر ٢٤)

(١٣) كان تنازل إسماعيل عن أطيان عائلته ووضعها تحت الرقابة الدولية من مطالب .....
(بعثة كييف - صندوق الدين - المراقبة الثنائية - لجنة التحقيق العليا الأوروبية) (البحيرة ٢٠)

(١٤) اختلف الخديو إسماعيل عن سعيد باشا فى الاهتمام بـ.....
(الجيش والبحرية - النقل والمواصلات - النهضة العلمية - الرى والزراعة) (الشرقية ٢٤)

(١٥) أصدر السلطان العثمانى فى يونيه ١٨٧٩م فرمانًا بعزل إسماعيل وتولية .....
(فؤاد الأول - فاروق - توفيق - عباس حلمى الثانى)

(١٦) رئيس وزراء مصر الذى أسند وزارة الجهادية والبحرية لأحمد عرابى هو .....
(رياض باشا - عثمان رفقى - شريف باشا - محمود سامى البارودى) (شمال سيناء ٢٣)

(١٧) بعد حادث الإسكندرية ١١ يونيه ١٨٨٢م تشكلت وزارة برئاسة .....
(توفيق - شريف باشا - رياض باشا - راغب باشا) (الغربية ٢٠)

(١٨) دخل الإنجليز القاهرة بعد معركة ..... (كفر الدوار - التل الكبير - الإسكندرية - القصاصين)

(١٩) قامت الحكومة البريطانية بنفى زعماء الثورة العرابية إلى جزيرة .....
(سيلان - مالطة - سيشل - قبرص) (أسيوط ١٩)

(٢٠) استقال اللورد كرومر من منصبه عقب ..... (بورسعيد ٢٤)
(تصريح ٢٨ فبراير ١٩٢٢م - معركة التل الكبير - معاهدة ١٩٣٦م - حادثة دنشواى)

(٢١) تصدى الزعيم ..... لمشروع مد امتياز قناة السويس ٤٠ سنة أخرى.
(أحمد عرابى - مصطفى كامل - محمد فريد - سعد زغلول) (الغربية ٢٠)

(٢٢) قدم ..... استقالته بعد فشل مفاوضاته مع كيرزون عام ١٩٢١م.

(سعد زغلول - زيورباشا - عدلى يكن - عبدالخالق ثروت)

(٢٣) وافقت الدول المجتمعة فى مؤتمر الصلح بـ..... على الحماية البريطانية على مصر.

(لندن - الآستانة - باريس - برلين)

(٢٤) تم نفى سعد زغلول فى مارس ١٩١٩م إلى جزيرة ..... (مالطة - سيلان - كريت - قبرص)

(٢٥) اعترفت بريطانيا بمصر دولة مستقلة ذات سيادة، وأنهت الحماية عليها بمقتضى .....

(الوفاق الودى ١٩٠٤م - تصريح ٢٨ فبراير ١٩٢٢م - معاهدة ١٩٣٦م - حادثة قصر عابدين ١٩٤٢م) (الغربية ١٩)

(٢٦) أُعيدت وزارة الخارجية المصرية بناءً على .....

(تصريح ٢٨ فبراير ١٩٢٢م - معاهدة ١٩٣٦م - دستور ١٩٢٣م - دستور ١٩٣٠م) (الفيوم ١٩)

(٢٧) ترتب على استقالة وزارة سعد زغلول تأليف وزارة جديدة برئاسة .....

(عبدالخالق ثروت - مصطفى النحاس - زيورباشا - عدلى يكن) (القاهرة ٢٣)

(٢٨) تمثل الأثر السلبى لوزارة إسماعيل صدقى فى .....

(إعادة المراقبة الثنائية - وضع دستور ١٩٢٣م - سحب الجيش المصرى من السودان - وضع دستور ١٩٣٠م) (الشرقية ٢٣)

(٢٩) أعلن رئيس الوزراء ..... إلغاء معاهدة ١٩٣٦م.

(عبدالخالق ثروت - إسماعيل صدقى - عدلى يكن - مصطفى النحاس) (البحر الأحمر ١٨)

٣ اكتب كلمة (صواب) أمام العبارة الصحيحة، وكلمة (خطأ) أمام العبارة غير الصحيحة، مع التصويب

(١) أصدر سعيد باشا اللائحة السعيدية فى أغسطس ١٨٥٨م. ( )

(٢) شرع سعيد باشا فى إنشاء أول خط حديدى بين القاهرة والإسكندرية عام ١٨٥٢م. (أسيوط ٢٢) ( )

(٣) كانت شروط عقد الامتياز الثانى لقناة السويس لصالح مصر. ( )

(٤) كانت موافقة السلطان العثمانى على امتياز حفر قناة السويس شرطًا لصحته. ( )

(الإسكندرية ٢٤)

(٥) اتجه عباس باشا الأول إلى التوسع فى إنشاء مصانع السكر فى الوجه القبلى. (القاهرة ٢٣) ( )

(٦) أعاد الخديو إسماعيل فتح ديوان المدارس. (دمياط ١٧) ( )

(٧) امتد النفوذ المصرى إلى ساحل البحر الأحمر بكامله عام ١٨٧٥م. ( )

(٨) تشابهت الوجهة التوسعية بأفريقيا لكل من محمد على باشا والخديو إسماعيل. (المنيا ٢٤) ( )

(٩) كانت الوزارة المختلطة فى مصر عام ١٨٧٨م برئاسة شريف باشا. (ج. سيناء ٢٠) ( )

(١٠) ساعد إنشاء صندوق الدين فى مصر على تدخل الأجانب فى سلطة القضاء التشريعى. (دمياط ٢٤) ( )

(١١) أُنشئت المحاكم المختلطة بهدف الحد من مساوئ المحاكم القنصلية. (الجيزة ٢٣) ( )

(١٢) تكونت لجنة التحقيق العليا الأوروبية فى ١٨٧٨م لسوء وارتباك أمور مصر المالية. ( )

(١٣) أدرك توفيق منذ بداية حكمه مدى قوة وتسلط النفوذ الأجنبى فى مصر. (المنوفية ٢٠) ( )

(١٤) كانت المؤثرات الفكرية الغربية من عوامل قيام الثورة العرابية. ( )

(١٥) تحرك رجال الجيش إلى قصر النيل وأخرجوا عرابى وزملائه بالقوة فى منتصف يناير ١٨٨١م. ( )

(١٦) تُعد مظاهرة عابدين ٩ سبتمبر ١٨٨١م أولى أحداث الثورة العرابية. (الأقصر ٢٢) ( )

(١٧) احتلت القوات البريطانية مدينة الإسكندرية فى أغسطس ١٨٨٢م. ( )

(١٨) استفادت طبقة الأعيان من السياسة الاقتصادية للاحتلال البريطانى فى مصر. (الدقهلية ٢٤) ( )

(١٩) عقب الاحتلال الإنجليزى لمصر أصبحت السلطة الفعلية فى يد المعتمد البريطانى. (أسوان ٢٢) ( )

(٢٠) كان الاتفاق الودى عام ١٩٠٤م ضربة قوية للحركة الوطنية بمصر. (دمياط ٢٤) ( )

(٢١) طالب مصطفى كامل بإنشاء مجلس نيابى جديد له سلطات واسعة. (الشرقية ٢٣) ( )

(٢٢) تولى مصطفى كامل قيادة الحركة الوطنية فى أواخر القرن التاسع عشر الميلادى. ( )

(٢٣) اهتم الزعيم محمد فريد بمحو أمية العمال والفقراء. (الدقهلية ٢٢) ( )

(٢٤) كان ازدياد نمو الوعى الوطنى لدى المصريين من عوامل قيام ثورة ١٩١٩م. (البحر الأحمر ٢٣) ( )

(٢٥) تألف الوفد المصرى عقب انتهاء الحرب العالمية الثانية. ( )

(٢٦) حق الشعوب فى تقرير مصيرها من المبادئ الأربعة عشر للرئيس الأمريكى ولسن. (البحر الأحمر ٢٠) ( )

(٢٧) رفض مؤتمر الصلح بباريس الاعتراف بالحماية البريطانية على مصر. ( )

(٢٨) رفض الشعب المصرى التفاوض مع لجنة ملنر وقاطعها. (الأقصر ٢٢) ( )

(٢٩) شكلت وزارة عبد الخالق ثروت لجنة من ثلاثين عضوًا لإعداد دستور ١٩٢٣م. ( )

(٣٠) أعطى دستور ١٩٣٠م للملك مزيدًا من السلطات وأهدر سلطة الأمة. (الفيوم ٢٣) ( )

(٣١) استفاد القصر الملكى وبريطانيا من تعدد الأحزاب المصرية منذ صدور دستور ١٩٢٣م. (البحر الأحمر ٢٠) ( )

(٣٢) اتفقت مصر وبريطانيا فى معاهدة ١٩٣٦م على إلغاء الأحكام العرفية. (الدقهلية ٢٤) ( )

(٣٣) غير تصريح ٢٨ فبراير ١٩٢٢م العلاقة بين مصر وإنجلترا من احتلال لتحالف. (الإسكندرية ٢٢) ( )

٤ صوب ما تحته خط

(١) أتم الخديو إسماعيل الخط الحديدى بين القاهرة والإسكندرية. (القليوبية ٢٢)

(٢) اهتم سعيد باشا بالزراعة فقام بتطهير ترعة الإبراهيمية. (ش. سيناء ١٩)

(٣) عرفت مصر نظام الوزارة المسئولة ١٨٧٨م خلال عهد توفيق. (المنوفية ٢٢)

(٤) اختصت المحاكم المختلطة بالنظر فى الجرائم التى يرتكبها الرعايا الأجانب ضد المصريين والحكومة المصرية نفسها.

(٥) أعاد الخديو عباس حلمى الثانى نظام المراقبة الثنائية ورفض الدستور. (الغربية ٢٤)

(٦) استجاب الخديو توفيق لمطالب الضباط فى حادثة قصر النيل وعزل رياض باشا وعين البارودى بدلًا منه. (أسوان ٢٣)

(٧) أرسلت بريطانيا وفرنسا المذكرة المشتركة الثانية تطالبان بإقالة وزارة شريف. (ش. سيناء ٢٠)

(٨) تمكن العرابيون من صد هجمات القوات البريطانية عند مدينة التل الكبير. (الغربية ٢٤)

(٩) تم إلغاء مجلس شورى القوانين بعد احتلال الإنجليز لمصر عام ١٨٨٢م. (أسوان ٢٤)

(١٠) طالب مصطفى كامل أن يكون التعليم إلزاميًا ومجانًا فى المرحلة الابتدائية. (بور سعيد ١٨)

(١١) تقرر مبدأ الأمة مصدر السلطات واحترام الحريات العامة بنصوص تصريح ٢٨ فبراير ١٩٢٢م. (الإسماعيلية ٢٢)

(١٢) استقالت وزارة سعد زغلول عقب مقتل اللورد كرومر فى ٩ نوفمبر ١٩٢٤م. (البحيرة ١٨)

(١٣) قبل الملك فاروق الإنذار البريطانى عقب حادث ٤ فبراير ١٩٤٢م وعرض على زيور باشا تأليف الوزارة. (البحيرة ٢٠)

٥ اكتب ما تشير إليه كل عبارة مما يأتى

(١) صدرت فى أغسطس ١٨٥٨م وأصبح للفلاح بموجبها الحق فى توريث الأرض الزراعية. (القاهرة ١٩)

(٢) محاكم تم إنشائها للفصل فى القضايا المدنية والمنازعات العقارية بين المصريين والأجانب. (القليوبية ٢٣)

(٣) كان بمثابة خزانة فرعية للخزانة المصرية وأنشأه الخديو إسماعيل للإشراف على تسديد الديون. (الغربية ١٨)

(٤) ثورة انتهت بالفشل لأن الظروف الدولية عام ١٨٨٢م لم تكن فى صالح الحركة الوطنية. (الإسكندرية ٢٣)

(٥) الاستيلاء على أرض الغير بالقوة. (المنيا ١٩)

(٦) طبقة اجتماعية ظهرت وارتبط نموها الاقتصادى باستمرار الاحتلال البريطانى لمصر. (القليوبية ٢٣)

(٧) خضوع مصر المطلق للاحتلال البريطانى. (بنى سويف ٢٤)

(٨) منظمة دولية انضمت مصر إلى عضويتها بعد معاهدة ١٩٣٦م. (مطروح ٢٥)

(٩) هيئة دولية لم تتخذ قرارًا فى قضية مصر وتركتها معلقة عام ١٩٤٧م. (دمياط ٢٠)

٦ إلى من تنسب الأعمال التاريخية الآتية ... ؟

(١) مد الخطوط التلغرافية على الطريقة الحديثة بين الإسكندرية والقاهرة والسويس.

(٢) منح لفردیناند دیلیسبس امتیاز تأسیس شركة عامة لحفر قناة السويس. (الغربية ٢٣)

(٣) أنشأ دار الكتب المصرية ودار الرصد والجمعية الجغرافية. (الجيزة ٢٤)

(٤) أسس مجلس شورى النواب، ووضع أول دستور فى مصر. (القليوبية ١٨)

(٥) وجه عدة حملات حربية إلى الأقاليم الاستوائية فى أفريقيا لمنع تجارة الرقيق. (ش. سيناء ٢٢)

(٦) أصدر مرسومًا بتعيين مراقبين أجنبيين للمالية المصرية بريطانى للإيرادات وفرنسى للمصروفات.

(٧) أصدر مرسومًا بتأليف وزارة نوبار باشا عام ١٨٧٨م. (المنوفية ٢٣)

(٨) أصدر مرسوم فى أبريل ١٨٧٩م بتسوية الديون المصرية وفقًا لقرارات اللائحة الوطنية. (الغربية ٢٣)

(٩) وزير الحربية الذى اضطهد عرابى والضباط المصريين ومنع ترقيتهم. (كفر الشيخ ٢٠)

(١٠) قدم استقالة الوزارة لإصرار مجلس النواب على مناقشة الميزانية. (ج. سيناء ١٧)

(١١) تولى رئاسة الوزارة فى فبراير ١٨٨٢م وعين فيها عرابى وزيرًا للجهادية والبحرية. (قنا ٢٤)

(١٢) أراد تعطيل الملاحة فى قناة السويس ١٨٨٢م.

(١٣) أصدر منشورًا أعلن فيه عصيان عرابى.

(١٤) صمد بقواته أمام القوات البريطانية وقاتلهم حتى استشهد فى معركة التل الكبير. (الجيزة ٢٤)

(١٥) زعيم وطنى طالب بالدستور وأصدر جريدة اللواء. (الفيوم ١٩)

(١٦) دعا إلى رفض اتفاقية الحكم الثنائى للسودان يناير ١٨٩٩م. (المنيا ٢٤)

(١٧) قاد الكفاح الوطنى ضد الاحتلال البريطانى والخديو فى وقت واحد مطالبًا بالجلاء والدستور. (الأقصر ٢٥)

(١٨) حاول إقناع الشعب المصرى بقبول الحماية البريطانية على مصر ديسمبر ١٩١٩م. (ج. سيناء ٢٢)

(١٩) وزير خارجية بريطانيا الذى تفاوض مع عدلى يكن فى مارس ١٩٢١م. (السويس ٢٢)

(٢٠) شكل أول وزارة برلمانية والتى عُرفت بوزارة الشعب فى يناير ١٩٢٤م. (البحر الأحمر ٢٤)

(٢١) ألغى دستور ١٩٢٣م ووضع مكانه دستور ١٩٣٠م. (أسوان ٢٢)

(٢٢) عقد مع بريطانيا معاهدة ١٩٣٦م. (المنوفية ٢٢)

(٢٣) أطلق الحرية للشعب للنضال المسلح ضد الإنجليز فى القناة أكتوبر ١٩٥١م.

٧ بم تفسر ... ؟

(١) تحسنت أحوال الفلاح المصرى فى عهد سعيد باشا.

(٢) كانت شروط عقد الامتياز الثانى لحفر قناة السويس مجحفة لمصر.

(٣) توجيه الخديو إسماعيل حملات عسكرية إلى الأقاليم الاستوائية فى أفريقيا. (الغربية ٢٢)

(٤) كانت علاقة الخديو إسماعيل بالسلطان العثمانى أحد عوامل الأزمة المالية. (كفر الشيخ ١٨)

(٥) ازدياد الأزمة المالية فى عهد الخديو إسماعيل. (القليوبية ٢٣)

(٦) إنشاء الخديو إسماعيل للمحاكم المختلطة عام ١٨٧٥م. (البحر الأحمر ٢٥)

(٧) إنشاء الخديو إسماعيل لصندوق الدين مايو ١٨٧٦م.

(٨) إنشاء لجنة التحقيق العليا الأوروبية فى مصر عام ١٨٧٨م.

(٩) عزل الخديو إسماعيل يونيه ١٨٧٩م وتولية ابنه توفيق حكم مصر. (الغربية ٢٥)

(١٠) مظاهرة عابدين ٩ سبتمبر ١٨٨١م. (البحر الأحمر ٢٥)

(١١) قيام الثورة العرابية. (ج. سيناء ١٦)

(١٢) عرض شريف باشا اللائحة الأساسية على مجلس النواب غير متضمنة حق المجلس فى مناقشة الميزانية. (ج. سيناء ٢٢)

(١٣) إرسال إنجلترا وفرنسا المذكرة المشتركة الأولى فى يناير ١٨٨٢م. (البحر الأحمر ٢٣)

(١٤) إرسال بريطانيا وفرنسا المذكرة المشتركة الثانية فى مايو ١٨٨٢م.

(١٥) هزيمة العرابيين فى التل الكبير.

(١٦) فشل مؤتمر الآستانة ١٨٨٢م فى تنفيذ قراراته. (القليوبية ٢٣)

(١٧) فشل الثورة العرابية. (ج. سيناء ٢٤)

(١٨) اهتمام الاحتلال البريطانى بالتوسع فى زراعة القطن فى مصر. (الأقصر ١٧)

(١٩) تدهور التعليم فى ظل الاحتلال البريطانى لمصر. (البحيرة ١٩)

(٢٠) قيام ثورة ١٩١٩م. (السويس ١٨)

(٢١) إرسال إنجلترا لجنة ملنر إلى مصر فى ديسمبر ١٩١٩م. (الشرقية ٢٤)

(٢٢) القبض على سعد زغلول وزملائه فى مارس ١٩١٩م ونفيهم إلى جزيرة مالطة. (القاهرة ٢٠)

(٢٣) لم يحقق تصريح ٢٨ فبراير ١٩٢٢م للمصريين أمانيهم الوطنية كاملة.

(٢٤) معارضة الشعب المصرى دستور عام ١٩٣٠م والمطالبة بإلغائه. (أسوان ٢٣)

(٢٥) وقوع حادث ٤ فبراير عام ١٩٤٢م.

٨ ما النتائج التى ترتبت على ... ؟

(١) إصدار اللائحة السعيدية عام ١٨٥٨م. (قنا ٢٤)

(٢) اهتمام الخديو إسماعيل بالزراعة فى مصر. (الشرقية ١٩)

(٣) إنشاء الخديو إسماعيل المحاكم المختلطة عام ١٨٧٥م. (ج. سيناء ٢٤)

(٤) الانتقادات التى وجهتها الحركة الوطنية للوزارة المختلطة فى عهد الخديو إسماعيل. (بنى سويف ٢٥)

(٥) إقصاء الخديو إسماعيل للوزيرين الأجنبيين وإصدار لائحة لتسوية الديون فى أبريل ١٨٧٩م. (أسوان ٢٤)

(٦) مظاهرة عابدين ٩ سبتمبر ١٨٨١م. (الإسكندرية ٢٥)

(٧) تولى محمود سامى البارودى رئاسة الوزارة فبراير ١٨٨٢م.

(٨) إصرار مجلس النواب على مناقشة الميزانية عام ١٨٨٢م. (القليوبية ٢٤)

(٩) خيانة ديليسبس لعرابى (بالنسبة لأمر قناة السويس). (الإسكندرية ٢٢)

(١٠) إصدار السلطان العثمانى منشورًا بعصيان أحمد عرابى. (الإسكندرية ٢٤)

(١١) عقد الاتفاق الودى بين إنجلترا وفرنسا. (ج. سيناء ٢٤)

(١٢) تنديد الزعيم مصطفى كامل بحادثة دنشواى عام ١٩٠٦م. (المنوفية ٢٣)

(١٣) معارضة محمد فريد مشروع مد امتياز قناة السويس. (الفيوم ١٧)

(١٤) صدور تصريح ٢٨ فبراير ١٩٢٢م. (السويس ٢٣)

(١٥) صدور دستور ١٩٢٣م.

(١٦) مقتل الحاكم العام للسودان وقائد الجيش المصرى السير لى ستاك عام ١٩٢٤م. (الإسكندرية ٢٤)

(١٧) إلغاء دستور عام ١٩٢٣م وإصدار دستور ١٩٣٠م. (دمياط ١٨)

(١٨) عقد مصطفى النحاس لمعاهدة ١٩٣٦م بين مصر وبريطانيا. (الوادى الجديد ٢٤)

(١٩) إلغاء مصطفى النحاس لمعاهدة ١٩٣٦م. (المنيا ١٩)

٩ ماذا كان يحدث إذا ... ؟

(١) كان خلفاء «محمد على» على شاكلته من حيث القوة والوعى. (بورسعيد ١٦)

(٢) لم يتم إنشاء لجنة التحقيق العليا الأوروبية عام ١٨٧٨م.

(٣) لم يتقدم عرابى بمطالب الشعب فى ٩ سبتمبر ١٨٨١م.

(٤) نجح عرابى فى تعطيل الملاحة فى قناة السويس أثناء حربه مع الإنجليز عام ١٨٨٢م. (القاهرة ٢٤)

(٥) لم يصدر السلطان العثمانى منشورًا بعصيان عرابى عام ١٨٨٢م. (الإسكندرية ٢٥)

(٦) لم يعارض محمد فريد مشروع مد امتياز قناة السويس.

(٧) لم يقاطع الشعب المصرى لجنة ملنر. (بنى سويف ٢٠)

(٨) لم يتضمن تصريح ٢٨ فبراير ١٩٢٢م التحفظات الأربعة.

(٩) لم يتم اغتيال السير لى ستاك عام ١٩٢٤م. (بنى سويف ٢٢)

(١٠) لم يعترض الشعب المصرى على دستور ١٩٣٠م.

(١١) لم تحاصر الدبابات البريطانية قصر عابدين فى ٤ فبراير ١٩٤٢م. (بنى سويف ٢٤)

(١٢) لم يعلن مصطفى النحاس إلغاء معاهدة ١٩٣٦م. (سوهاج ٢٠)

١٠ ما العلاقة بين ... ؟

(١) معاهدة ١٩٣٦م، والامتيازات الأجنبية. (ج. سيناء ٢٤)

(٢) الأوضاع الداخلية فى مصر، وعقد مؤتمر الآستانة. (الإسكندرية ٢٣)

١١ ما رأيك فى ... ؟

(١) شروط عقد الامتياز الثانى لحفر قناة السويس يناير ١٨٥٦م.

(٢) الفوائد التى يمكن أن تعود على مصر من مشروع قناة السويس الجديدة. (القليوبية ١٦)

(٣) موقف الخديو إسماعيل من تجارة الرقيق فى أفريقيا. (دمياط ٢٢)

(٤) تواطؤ إدارة شركة قناة السويس مع قيادة الجيش البريطانى عام ١٨٨٢م. (أسوان ١٧)

(٥) إصدار السلطان العثمانى منشورًا بعصيان عرابى عام ١٨٨٢م. (الغربية ١٨)

(٦) السياسة الاقتصادية للاحتلال البريطانى فى مصر. (بنى سويف ١٧)

(٧) موقف الشعب المصرى مع لجنة ملنر وزير المستعمرات البريطانية فى ديسمبر ١٩١٩م. (كفر الشيخ ٢٤)

(٨) تمسك المصريين بدستور ١٩٢٣م ورفض دستور ١٩٣٠م. (بورسعيد ١٧)

(٩) بنود معاهدة ١٩٣٦م.

١٢ ما المقصود بالمصطلحات التاريخية الآتية ... ؟

(١) الاتفاق الودى. (القاهرة ٢٢) (٢) الحماية البريطانية. (الأقصر ٢٤)

(٣) احتلال. (قنا ٢٥)

١٣ أيد بالأدلة التاريخية صحة كل عبارة مما يأتى

(١) اهتمام سعيد باشا بالزراعة. (الجيزة ٢٢)

(٢) صحح الخديو إسماعيل مسار التعليم والثقافة فى مصر. (البحيرة ٢٤)

(٣) تعددت مظاهر النهضة العمرانية فى عهد إسماعيل. (بنى سويف ٢٣)

(٤) يعتبر عهد الخديو إسماعيل بداية الإصلاح النيابى فى مصر. (ج. سيناء ٢٥)

(٥) احتفاظ الخديو توفيق بالعرش يفوق اهتمامه باستقلال مصر. (الغربية ٢٠)

(٦) كانت حادثة قصر النيل أول الخطوات لتمكين العرابيين من السيطرة على الجيش. (بنى سويف ٢٠)

(٧) فشلت بريطانيا فى احتلال مصر فى بداية القرن الـ ١٩م ونجحت فى نهايته. (المنوفية ٢٢)

(٨) سيطرة بريطانيا على الحياة النيابية فى مصر عام ١٨٨٢م. (الدقهلية ٢٢)

(٩) فرضت سلطات الاحتلال البريطانى على مصر سياسة اقتصادية تخدم مصالحها. (ج. سيناء ٢٥)

(١٠) تناقض موقف الرئيس الأمريكى ولسن من الاستقلال. (القليوبية ٢٤)

(١١) اتجه محمد فريد إلى الكفاح ضد الاحتلال البريطانى والخديو فى آن واحد. (القليوبية ٢٢)

(١٢) استخدم محمد فريد سلاح التعليم فى مواجهة الاحتلال البريطانى. (بورسعيد ٢٢)

(١٣) كان لدستور ١٩٢٣م العديد من المزايا ولكنه لم يخلُ من العيوب. (ج. سيناء ٢٤)

١٤ قارن بين

(١) أحوال الفلاح المصرى فى عصر العثمانيين منتصف القرن الـ ١٧م، وفى عهد سعيد باشا ١٨٥٨م.
(دمياط ٢٤)

(٢) المذكرة المشتركة الأولى، والمذكرة المشتركة الثانية، من حيث : محتواها. (السويس ٢٥)

(٣) الثورة العرابية، وثورة ١٩١٩م، من حيث : * الأسباب. * النتائج.

(٤) حادث ٤ فبراير ١٩٤٢م، وحادث ٢٥ يناير ١٩٥٢م، من حيث الظروف التى أدت إلى كل منهما. (دمياط ٢٢)

١٥ رتب الأحداث التاريخية الآتية من القديم إلى الحديث

(١) * نفى سعد زغلول إلى جزيرة مالطة.
* المذكرة المشتركة الأولى.

(٢) * حادثة دنشواى.
* الثورة العرابية.

(٣) * قيام الحرب العالمية الثانية.
* تولية محمد على ولاية مصر.

(٤) * الاتفاق الودى بين إنجلترا وفرنسا.
* تأسيس مجلس شورى النواب.

(٥) * اكتشاف حجر رشيد.
* معاهدة لندن الدولية.

* حريق القاهرة.
* مفاوضات عدلى - كيرزون.
* الاحتلال البريطانى لمصر.
* افتتاح قناة السويس للملاحة الدولية.
* إصدار منشور عصيان عرابى.
* إصدار جريدة اللواء.
* تأييد الشعب للجيش فى ميدان عابدين.
* المذكرة المشتركة الثانية.
* احتلال القوات البريطانية مدينة القاهرة.
* حملة فريزر على مصر.

١٦ أسئلة متنوعة

① حدد عملًا تاريخيًا واحدًا قام به كل من :

(١) عباس باشا الأول. (٢) سعيد باشا. (٣) الخديو إسماعيل.
(٤) محمود سامى البارودى. (٥) نوبار باشا. (٦) إسماعيل صدقى.
(٧) فرديناند ديليسبس. (٨) الخديو توفيق. (٩) أحمد عرابى.
(١٠) مصطفى كامل. (١١) محمد فريد. (١٢) سعد زغلول.
(١٣) مصطفى النحاس.

② فى عهد أى من حكام مصر حدث ما يلى ... ؟

(١) إنشاء الجامعة المصرية ١٩٠٨م. (القليوبية ٢٤)

(٢) عرض قضية جلاء القوات البريطانية عن مصر على مجلس الأمن. (القليوبية ٢٣)

(٣) إصدار دستور ١٩٣٠م. (الدقهلية ٢٤)

(٤) إنشاء المحاكم المختلطة. (بنى سويف ٢٢)

---

③ وضح :

(١) موقف مصطفى كامل من حادثة دنشواى ١٩٠٦م. (البحيرة ٢٠)

(٢) شروط الامتياز الثانى لحفر قناة السويس ١٨٥٦م.

(٣) نصوص تصريح ٢٨ فبراير ١٩٢٢م.

(٤) نصوص معاهدة ١٩٣٦م.

---

④ «*فى عام ١٨٥٨م أصدر سعيد باشا اللائحة السعيدية*» . فى ضوء العبارة، وضح :

(١) الفوائد التى عادت على الفلاحين بموجب تلك اللائحة.

(٢) مظاهر اهتمام سعيد باشا بالجيش والبحرية.

---

⑤ «*فتح إسماعيل باب الاستدانة على مصراعيه مما أدى إلى حدوث الأزمة المالية والتدخل الأجنبى فى شئون مصر الداخلية*» . فى ضوء هذه العبارة وضح :

(١) الدروس المستفادة من سياسة الإسراف التى اتبعها الخديو إسماعيل.

(٢) كيف كانت المحاكم المختلطة مظهرًا من مظاهر التدخل الأجنبى فى شئون مصر فى عهد إسماعيل.

---

⑥ «*منذ بداية العصر الحديث، قاوم الشعب المصرى استبداد الحكام، وطغيان الاحتلال الخارجى*» . فى ضوء هذه العبارة وضح :

(١) أسباب قيام الثورة العرابية. (*يكتفى بنقطتين*) (الإسماعيلية ٢٢)

(٢) أسباب معارضة الشعب المصرى لدستور ١٩٣٠م.

---

⑦ «*شهدت مصر فى عهد الخديو إسماعيل نهضة فى كثير من المجالات ولكنها انتهت بالأزمة المالية التى أدت إلى التدخل الأجنبى فى مصر*» . فى ضوء هذه العبارة :

(١) وضح أهم أسباب ازدياد الأزمة المالية فى عهد إسماعيل.

(٢) ما الفرق بين التعليم فى عهد الخديو إسماعيل، وفى عصر الاحتلال البريطانى لمصر ؟

(٣) ما رأيك فى ... ؟

(١) تأسيس الخديو إسماعيل لمجلس شورى النواب.

(٢) عرض قضية مصر على مجلس الأمن عام ١٩٤٧م.

---

⑧ «*على الرغم من اشتداد وطأة الاحتلال البريطانى لمصر فترة طويلة من الزمن إلا أن دماء المقاومة لم تجف فى عروق المصريين*». **فى ضوء هذه العبارة وضح :**

(١) أهم تحركات مصطفى كامل الداخلية والخارجية ضد الاحتلال البريطانى. (الفيوم ١٨)

(٢) كفاح الزعيم محمد فريد ضد الاحتلال البريطانى فى مصر.

(٣) رأيك فى تعدد الأحزاب فى مصر منذ عام ١٩٢٣م.

---

⑨ «*أصدرت بريطانيا تصريح ٢٨ فبراير ١٩٢٢م، كما عقدت مع مصر معاهدة ١٩٣٦م*».

فى ضوء هذه العبارة أجب عما يأتى :

(١) ما أهم نتائج تصريح ٢٨ فبراير ١٩٢٢م ؟

(٢) ما أسباب عقد معاهدة ١٩٣٦م ؟

(٣) من الذى رأس وفد مصر فى المفاوضات مع بريطانيا والتى انتهت بعقد معاهدة ١٩٣٦م ؟

(٤) وضح معاناة مصر من عقد معاهدة ١٩٣٦م.

---

⑩ «*أثبت الشعب المصرى مدى تمسكه بالحرية والاستقلال عبر العصور*».

فى ضوء العبارة السابقة وضح العلاقة بين كلًا مما يأتى : (الدقهلية ٢٤)

(١) حادثة ٤ فبراير ١٩٤٢م، ووزارة مصطفى النحاس.

(٢) الحرب العالمية الأولى، وقيام ثورة ١٩١٩م.

---

⑪ **أمامك خريطة لخط سير القوات البريطانية على مصر عام ١٨٨٢م، وضح ما يلى :** (الجيزة ٢٣)

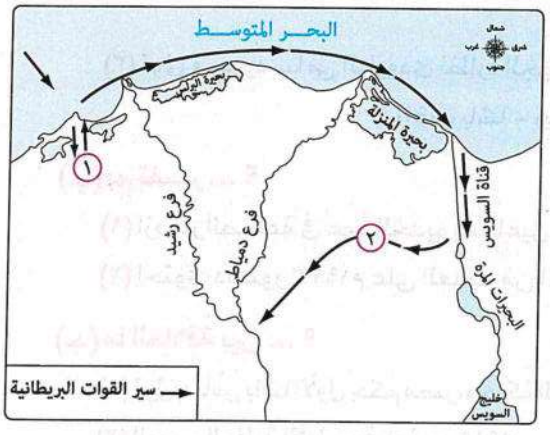

(١) مدينة انسحب إليها العرابيون وأقاموا فيها الاستحكامات لمواجهة الجيش البريطانى.

(٢) المعركة التى شهدت بطولات مصرية خالدة واستشهد فيها الضابط محمد عبيد.

امتحان على الوحدة الرابعة

١ (أ) صوب ما تحته خط فى العبارات الآتية :

(١) تقدم أحمد عرابى للخديو توفيق بمطالب الشعب ومنها إسقاط حكومة شريف باشا المستبدة.

(٢) أصبحت القوات البريطانية على مقربة من التل الكبير بعد احتلال بورسعيد أغسطس ١٨٨٢م. (القليوبية ٢٣)

(٣) تألف الوفد المصرى من أعضاء الجمعية العمومية برئاسة سعد زغلول. (السويس ٢٣)

(ب) أيد بالأدلة التاريخية صحة كل عبارة مما يأتى :

(١) تعددت سلطات حكم مصر أثناء الاحتلال البريطانى. (المنوفية ٢٢)

(٢) أدت سياسة الخديو توفيق منذ بداية حكمه إلى زيادة التدخل الأجنبى فى شئون مصر. (البحيرة ٢٣)

(ج) حدد الأثر السلبى لكل عبارة مما يأتى :

(١) معاهدة ١٩٣٦م على النقل والمواصلات فى مصر.

(٢) سياسة الاحتلال البريطانى الاقتصادية فى مصر. (المنوفية ٢٣)

(د) ما رأيك فى : موقف الخديو إسماعيل من تجارة الرقيق فى أفريقيا ؟ (دمياط ٢٢)

---

٢ (أ) اختر الإجابة الصحيحة مما بين القوسين :

(١) تم نفى سعد زغلول ورفاقه للمرة الثانية إلى جزيرة .....

(مالطة - سيشل - سيلان - صقلية) (المنوفية ٢٤)

(٢) تم إلغاء الامتيازات الأجنبية فى مؤتمر..... عام ١٩٣٧م.

(لندن - الصلح - الآستانة - مونترو) (السويس ٢٢)

(٣) تولى محمود سامى البارودى نظارة الجهادية للمرة الأولى فى وزارة .....

(راغب باشا - رياض باشا - نوبار باشا - شريف باشا) (الشرقية ٢٣)

(ب) بم تفسر ... ؟

(١) ازدهار الصناعة فى عهد الخديو إسماعيل.

(٢) احتوى دستور ١٩٢٣م على العديد من المتناقضات. (بورسعيد ٢٥)

(ج) ما العلاقة بين ... ؟

(١) تولى عباس باشا الأول حكم مصر، وحركة النهضة التى ظهرت فى عهد محمد على. (الإسكندرية ٢٣)

(٢) الحرب العالمية الأولى، وقيام ثورة ١٩١٩م. (الشرقية ٢٣)

امتحان على الوحدتين الثالثة والرابعة
(عام على التاريخ)

١ (أ) اكتب كلمة (صواب)، أوكلمة (خطأ) أمام العبارة الآتية، مع ذكر السبب فى الحالتين:

اختلفت طبقة الحكام فى مصر قبل مجىء الحملة الفرنسية وبعد تولية محمد على الحكم. (الشرقية ٢٣) ( )

(ب) «على الرغم مما مر بمصر من مؤامرات على مدار تاريخها، فالشعب المصرى شغوف ببلاده ثابت فى مصريته مدافع عن هويته الوطنية ضد كل المؤامرات».

فى ضوء العبارة، وضح ما يأتى:

(١) أهم الأعمال التى قام بها علماء الحملة الفرنسية فى مصر. (البحر الأحمر ٢٤)

(٢) كيف أظهرت ثورة ١٩١٩م الوحدة الوطنية بين أبناء الأمة المصرية. (الوادى الجديد ٢٤)

(٣) الدروس المستفادة من : أسباب فشل الثورة العرابية. (بورسعيد ٢٤)

(جـ) قارن بين:

المحاكم القنصلية، والمحاكم المختلطة. (دمياط ٢٣)

(د) ما العلاقة بين: الأسطول الإنجليزى، وفشل حملة نابليون بونابرت على الشام ؟ (الإسماعيلية ٢٤)

---

٢ (أ) فى عهد مَن (مِن رؤساء وزراء مصر) وقع الحدث التالى ... ؟

(١) مظاهرة عابدين ٩ سبتمبر ١٨٨١م. (مطروح ٢٣)

(٢) حدوث حريق القاهرة ٢٦ يناير ١٩٥٢م. (مطروح ٢٣)

(٣) إرسال المذكرة المشتركة الأولى يناير ١٨٨٢م.

(ب) اختر الإجابة الصحيحة مما بين القوسين:

(١) تحولت العلاقة بين مصر وبريطانيا من علاقة احتلال إلى علاقة تحالف بعد .....

(معاهدة ١٩٣٦م - مفاوضات عدلى / كيرزون ١٩٢١م - مؤتمر الآستانة ١٨٨٢م - مؤتمر الصلح ١٩١٩م) (بنى سويف ٢٥)

(٢) العامل المشترك فى التدهور الاقتصادى نهاية حكم المماليك وأثناء الحكم العثمانى لمصر.....

(افتقاد الأمن - الكشوف الجغرافية - نظام الالتزام - الامتيازات الأجنبية)

(٣) بعد عزل عثمان رفقى أصبح ..... ناظرًا للجهادية.

(أحمد عرابى - البارودى - شريف باشا - رياض باشا)

(جـ) وضح التشابه بين: التعليم والثقافة فى عهد محمد على باشا، وعهد الخديو إسماعيل.

(د) حدد: موقف محمد على من ثورة الشعب المصرى فى مارس ١٨٠٤م. (بنى سويف ٢٣)

ثالثًا

امتحانات
نهاية الفصل الدراسى

مجاب عن بعضها

امتحانات المحافظات



ملحوظة

السؤال المسبوق بالعلامة (*) معدل طبقًا لآخر التعديلات التى أقرتها وزارة التربية والتعليم

١ محافظة القاهرة

مجاب عنه

أجب عن الأسئلة الآتية: أولا الجغرافيا

١ (أ) أمامك خريطة لقارات العالم القديم، اكتب ما تدل عليه الأرقام الآتية :

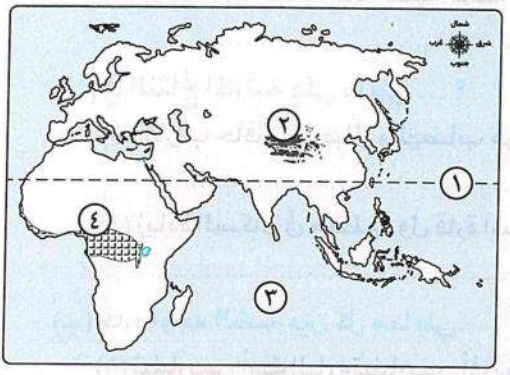

(١) دائرة عرض .....

(٢) هضبـــة .....

(٣) المحيـــط .....

(٤) إقليم المناخ .....

(٥) حدد الخصائص المناخية للإقليم المناخى المشار إليه فى الخريطة برقم ④

.....

(ب) «يختلف البشر فى صفاتهم الوراثية تبعًا لسلالاتهم» . فى ضوء العبارة السابقة، أجب :

(١) «تعرض الزنوج للهجرات الإجبارية القسرية للأمريكتين» . دلل على صحة العبارة السابقة.

.....

(٢) ما الآثار المترتبة على : ارتفاع فئة صغار السن فى الدول النامية؟

.....

(٣) اذكر سببًا واحدًا لـ : قلة السكان فى غرب أستراليا.

.....

(جـ) أكمل الجدول الآتى :

المنطقة	القارة	الإقليم المناخى	السلالة
جبال الأبلاش	..... (١)	..... (٢)	القوقازية
سهول سيبيريا	..... (٣)	المناخ البارد «التندرا»	..... (٤) .....

٢ (أ) اكتب كلمة (صواب) أمام العبارة الصحيحة، وكلمة (خطأ) أمام العبارة غير الصحيحة، مع ذكر السبب فى الحالتين :

(١) تمتد جبال الإنديز فى شرق أمريكا الجنوبية. ( )

.....

(٢) تنفض الغابات المخروطية أوراقها فى فصل الشتاء. ( )

.....

(٣) توجد سهول نهر نلسن فى الشمال الغربى لأمريكا الشمالية. ( )

.....

(٤) روسيا دولة ذات رعاية طبية فائقة. ( )

.....

(ب) ما النتائج المترتبة على ما يلى ... ؟

(١) اقتراب حافات الجبال والهضاب من الساحل فى أفريقيا (بصفة عامة).

.....

(٢) زيادة السكان فى معظم دول قارة آسيا.

.....

(جـ) حدد أوجه الشبه بين كل مما يلى :

(١) تضاريس أستراليا، وتضاريس أفريقيا.

.....

(٢) الإقليم المناخى اللورانسى، وإقليم مناخ غرب أوروبا.

.....

ثانيًا التاريـــخ

٣ (أ) تخير الإجابة الصحيحة مما بين القوسين فيما يلى :

(١) العاصمة التى كانت خارج سيطرة الدولة المملوكية قبل الصدام مع العثمانيين هى .....
(حلب – دمشق – تبريز – ذى القادر)

(٢) جاءت الحملة البحرية الشمالية لطرد الحملة الفرنسية عام ١٧٩٩م من مصر عن طريق جزيرة ..... (كريت – رودس – قبرص – مالطة)

(٣) كان من مطالب إنجلترا وفرنسا فى المذكرة المشتركة الثانية مايو ١٨٨٢م إقالة وزارة .....
(شريف – راغب – رياض – البارودى)

(٤) اعترفت بريطانيا بمصر دولة مستقلة ذات سيادة بمقتضى .....
(لجنة ملنر – تصريح ٢٨ فبراير ١٩٢٢م – مؤتمر مونترو – معاهدة ١٩٣٦م)

(ب) ما تقييمك لمصداقية العبارة التالية : تعددت الحجج التى اتخذتها إنجلترا لاحتلال مصر ؟

.....

(جـ) فسر كل عبارة مما يلى :

(١) كان لشركة قناة السويس دورًا كبيرًا فى فشل الثورة العرابية.

.....

(٢) تخلت فرنسا عن مساندة مصطفى كامل.

.....

٤ (أ) اكتب كلمة (صواب) أمام العبارة الصحيحة، وكلمة (خطأ) أمام العبارة غير الصحيحة، مع ذكر السبب فى الحالتين:

(١) شهدت مصر حالة من الاستقرار السياسى عقب خروج الحملة الفرنسية. ( )

.....

(٢) فرضت الزعامة الشعبية إرادتها على السلطان العثمانى عام ١٨٠٦م. ( )

.....

(٣) كانت شروط امتياز حفر قناة السويس مجحفة بالنسبة للمصريين. ( )

.....

(ب) ما النتائج التى ترتبت على ما يلى ... ؟

(١) اتساع الفجوة بين أساليب القتال التى استخدمها العثمانيين ضد المماليك.

.....

(٢) قرارات لجنة التحقيق العليا الأوروبية يناير ١٨٧٨م.

.....

(٣) اغتيال السير (لى ستاك) القائد العام للجيش المصرى فى نوفمبر ١٩٢٤م.

.....

(جـ) دلل تاريخيًا على ما يلى :

(١) أثرت معركة أبى قير البحرية سلبيًا على كل من فرنسا ومصر.

.....

(٢) ارتفاع مكانة مصر دوليًا أثناء حروب محمد على فى اليونان.

.....

٢ محافظة الجيزة



أجب عن الأسئلة الآتية:

١ (أ) بم تفسر ... ؟

(١) يتشابه الإقليم المدارى الحار مع الإقليم الموسمى.

.....

(٢) تسبب الزيادة السكانية مشكلات عديدة لمعظم دول قارة آسيا.

.....

(٣) لا توجد سلالة بشرية أكثر ذكاءً أو إبداعًا من سلالة أخرى.

.....

(٤) تؤثر الكوارث الطبيعية فى عدد سكان العالم.

.....

(ب) اقرأ الرسم البيانى الذى أمامك ثم أجب عما يأتى :

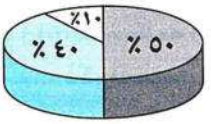

رسم بيانى يوضح نسب السلالات البشرية

(١) حدد: السلالة التى تمثل نصف سكان العالم.

.....

(٢) ما العلاقة بين : عدد الأطباء والرعاية الطبية ؟

.....

(جـ) *«تؤثر مظاهر السطح المتنوعة فى توزيع السكان فى كل قارات العالم»*.

فى ضوء العبارة السابقة، أجب عما يلى :

(١) ماذا يحدث إذا : كانت سواحل أفريقيا تتمتع بمميزات سواحل قارة أوروبا ؟

.....

(٢) أثبت صحة العبارة التالية : *«تؤثر الغابات الاستوائية على الكثافة السكانية»*.
مع ذكر أمثلة.

.....

---

٢ (أ) حدد عملًا تاريخيًا واحدًا لكل شخصية مما يلى :

(١) ظاهر العمر : .....

(٢) مستر كييف : .....

(٣) عبدالله النديم : .....

(ب) أمامك صورة لشخصية تاريخية، تأمل الصورة ثم أجب عما يلى :



(١) وضح: الدور الذى لعبه صاحب الصورة فى معاهدة ١٩٣٦م.

.....

(٢) حققت معاهدة ١٩٣٦م بعض المكاسب لمصر. (اذكر اثنين منها).

.....

(٣) لإلغاء معاهدة ١٩٣٦م نتائج مؤثرة فى نضال الشعب المصرى، وضحها. (يكتفى بنقطتين).

.....

(جـ) حدد دليلًا تاريخيًا على صحة كل عبارة مما يلى :

(١) اتسمت الحياة الثقافية والفكرية فى مصر بالجمود والتخلف خلال الحكم العثمانى.

.....

(٢) اهتم محمد على بالنقل والمواصلات فى مصر.

.....

٣ (أ) اختر الإجابة الصحيحة مما بين القوسين :

(١) تحطم الأسطول المملوكى عام ١٥٠٩م فى معركة .....

(الريدانية - جالديران - ديو البحرية - أبو قير البحرية)

(٢) واجه أهالى الإسكندرية الحملة الفرنسية بزعامة حاكمها .....

(محمد كريم - طومان باى - خورشيد باشا - محمد أبو الدهب)

(٣) أرسلت إنجلترا حملة عسكرية فى مارس ١٨٠٧م لاحتلال مصر وخلع محمد على بقيادة ..... (نلسون - فريزر - كيف - كيرزون)

(٤) انحصرت سلطته فى التصديق على قرارات سلطات الاحتلال البريطانى .....

(المعتمد البريطانى - الجمعية الجغرافية - صندوق الدين - الخديو)

(ب) حدد صحة أو خطأ العبارة التالية، مع ذكر السبب فى الحالتين :

اهتم محمد سعيد باشا بإصلاح أحوال الفلاحين المصريين.

.....

(جـ) ما النتائج التى ترتبت على ... ؟

(١) معركة نفارين البحرية ١٨٢٧م.

.....

(٢) اهتمام الخديو إسماعيل بالزراعة والرى.

.....

٤ (أ) أمامك خريطة لقارة أوروبا، اكتب مدلول الأرقام الموقعة عليها :

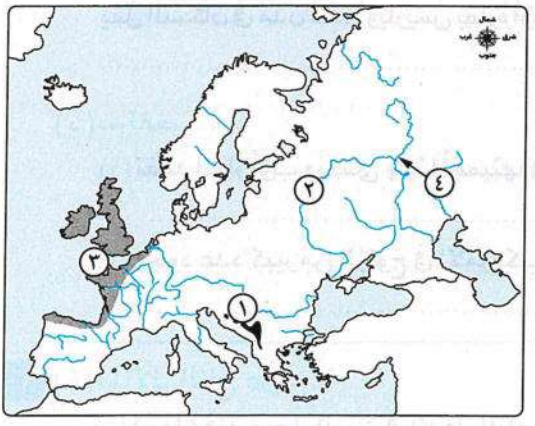

(١) جبـــــال .....

(٢) سهل فيضى .....

(٣) إقليم مناخى .....

(٤) اختر الإجابة الصحيحة :

يشير رقم ٤ فى الخريطة إلى نهر .....

(النيل - اليانجتسى - الفرات - الفولجا)

(ب) اكتب كلمة (صواب) أو كلمة (خطأ) أمام العبارة التالية، مع ذكر السبب فى الحالتين:

تعتبر حشائش السافانا حديقة حيوان طبيعية. ( )

.....

(جـ) ما المقصود بـ ... ؟

(١) حوض النهـــر : .....

(٢) التعداد السكانى : .....

٣ محافظة الإسكندرية

مجاب عنه

أجب عن الأسئلة الآتية:

أولاً الجغرافيا

١ (أ) أمامك خريطة لقارة أمريكا الجنوبية، اكتب ما تدل عليه الأرقام الآتية :



(١) دائرة عرض .....

(٢) نهـــــر .....

(٣) هضبة يقل بها السكان .....

(ب) اختر الإجابة الصحيحة مما بين القوسين :

يختفى حيوان الرنة من قارتين هما .....

(أوروبا وآسيا - أفريقيا وأستراليا - أفريقيا وأمريكا الشمالية - أستراليا وأوروبا)

(جـ) اكتب كلمة (صواب) أو كلمة (خطأ) أمام العبارة التالية، مع ذكر السبب فى الحالتين :

يقل السكان فى مدن لندن وباريس بقارة أوروبا. ( )

.....

(د) بم تفسر ... ؟

(١) تفقد أنهار أوب وينسى ولينا أهميتها فى فصل الشتاء.

.....

(٢) وجود عدد كبير من الزنوج فى الأمريكتين.

.....

٢ (أ) ما الأثر الناتج عن ... ؟

(١) ارتفاع فئة صغار السن فى الدول النامية.

.....

(٢) تساوى عدد المواليد مع عدد الوفيات فى قارة أوروبا.

.....

(٣) اقتراب جبال الحاجز الكبير فى أستراليا من المحيط الهادى.

.....

(ب) ما المقصود بكل مصطلح مما يأتى ... ؟

(١) دول جزرية : .....

(٢) قوة العمـــل : .....

(جـ) قارن بين كل من : سواحل شمال اليابان، وسواحل البحر المتوسط، وحوض الكونغو، من حيث :

وجـه المقارنـة	سواحل شمال اليابان	سواحل البحر المتوسط	حوض الكونغو
موسم سقوط المطر	.....(١).....	.....(٢).....	.....(٣).....
السلالة البشرية	.....(٤).....	.....(٥).....	.....(٦).....

ثانيا التاريـــخ

٣ (أ) اختر الإجابة الصحيحة مما بين القوسين :

(١) تمكن السلطان سليم الأول من الانتصار على الصفويين فى معركة .....

(الريدانية - جالديران - مرج دابق - ديو البحرية)

(٢) ظهر دور إنجلترا لأول مرة فى مقاومة وجود الحملة الفرنسية فى مصر فى معركة .....

(أبى قير البحرية - إمبابة - أبى قير البرية - شبراخيت)

(٣) بعد ثورة الشعب المصرى ١٨٠٤م اقترح محمد على تعيين حاكم لمصر هو .....

(خسرو - محمد بك الألفى - خورشيد باشا - إبراهيم بك)

(٤) انضمت مصر لعصبة الأمم بعد .....

(تصريح ٢٨ فبراير ١٩٢٢م - دستور ١٩٣٠م - دستور ١٩٢٣م - معاهدة ١٩٣٦م)

(ب) اكتب كلمة (صواب) أو كلمة (خطأ) أمام العبارة التالية، مع ذكر السبب فى الحالتين :

كانت طبقة المماليك تمثل فئة الحكام فى عهد كل من الدولة العثمانية ومحمد على. ( )

.....

(جـ) ما النتائج التى ترتبت على ... ؟

(١) مظاهرة عابدين ٩ سبتمبر ١٨٨١م.

.....

(٢) ضم محمد على للسودان.

.....

٤ (أ) فى عهد مَن مِن حكام مصر حدث ما يأتى ... ؟

(١) إرسال إنجلترا حملة فريزر على مصر. (.....)

(٢) فتح باب الترقى أمام الضباط المصريين. (.....)

(٣) تولى محمد فريد رئاسة الحزب الوطنى. (.....)

(٤) حصار الدبابات الإنجليزية لقصر عابدين فى ٤ فبراير ١٩٤٢م. (.....)

(ب) حدد العلاقة بين :

(١) الحملة الفرنسية، وتاريخ مصر القديم.

.....

(٢) قناة السويس، والأزمة المالية فى عهد إسماعيل.

.....

(جـ) أجب عما يأتى :

(١) ماذا كان يحدث إذا : لم يصدر السلطان العثمانى منشور بعصيان عرابى ؟

.....

(٢) ما رأيك فى : موقف الشعب المصرى من لجنة ملنر؟

.....

٤ محافظة القليوبية

مجاب عنه

أجب عن الأسئلة الآتية: أولا الجغرافيا

١ (أ) أمامك خريطة لقارة أفريقيا، اكتب مدلول الأرقام التى عليها :

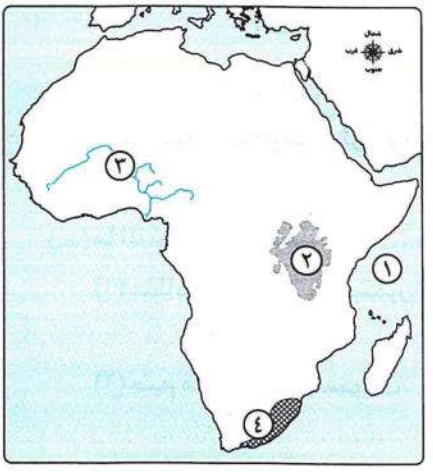

(١) مسطح مائى .....

(٢) هضبـــــة .....

(٣) نهـــــــر .....

(٤) إقـليم مناخى .....

(ب) إلى أى من السلالات البشرية ينتمى كل من ... ؟

(١) البوشمن والهوتنتوت. (.....)

(٢) التنجوس. (.....)

(٣) سكان حوض البحر المتوسط. (.....)

(٤) البانتو. (.....)

(جـ) بم تفسر ... ؟

(١) تختلف الخصائص المناخية والنباتية للإقليم الاستوائى وشبه الاستوائى عن الإقليم الموسمى.

.....

(٢) تباين الخصائص الاقتصادية لسكان العالم.

.....

---

٢ (أ) ما المقصود بالمصطلحات الآتية ... ؟

(١) السهل الأوروبى العظيم : .....

(٢) علم الديموجرافيا : .....

(٣) التركيب العمرى : .....

(ب) اكتب كلمة (صواب) أمام العبارة الصحيحة، وكلمة (خطأ) أمام العبارة غير الصحيحة، مع ذكر السبب فى الحالتين:

(١) تقل درجة الحرارة فى قارة آسيا كلما اتجهنا شمالًا. ( )

.....

(٢) أقل نصيب للفرد من الدخل القومى فى العالم يوجد فى قارة أفريقيا. ( )

.....

(جـ) (١) دلل على صحة العبارة الآتية : يؤثر المناخ فى توزيع سكان قارة أفريقيا.

.....

(٢) قارن بين : السهول الفيضية فى قارة أوروبا، والسهول الفيضية فى قارة أمريكا الشمالية، من حيث : * الامتداد. * أهم الأنهار.

.....

.....

.....

٣ (أ) اختر الإجابة الصحيحة مما بين القوسين :

(١) خرج السلطان الغورى لمواجهة العثمانيين بعد استيلائهم على .....

(دمشق - تبريز - ذى القادر - مرج دابق)

(٢) أصبحت الجندية من مظاهر المساواة بين المصريين فى عهد .....

(محمد على - عباس الأول - إسماعيل - سعيد)

(٣) تمثل اهتمام مصطفى كامل بالتعليم فى الدعوة إلى إنشاء .....

(الجامعة المصرية - المدارس الليلية - الكتاتيب - المعاهد العليا)

(٤) كان رئيس مجلس الشيوخ فى عهد أول وزارة برلمانية .....

(زيور باشا - سعد زغلول - عدلى يكن - مصطفى النحاس)

(٥) ساند العامل الجغرافى الجهد البشرى فى مقاومة القوات الفرنسية فى .....

(الإسكندرية - الصعيد - شبراخيت - إمبابة)

(ب) اكتب كلمة (صواب) أمام العبارة الصحيحة، وكلمة (خطأ) أمام العبارة غير الصحيحة، مع ذكر السبب فى الحالتين :

(١) تعددت عوامل ضم محمد على للسودان منها اقتصادية وعسكرية. ( )

.....

(٢) تمثل حملة فريزر ١٨٠٧م اعتراضًا من إنجلترا على اختيار الشعب المصرى. ( )

.....

(جـ) ما العلاقة بين : إلغاء معاهدة ١٩٣٦م فى أكتوبر ١٩٥١م، وقيام ثورة يوليو ١٩٥٢م ؟

.....

---

٤ (أ) ما النتائج التى ترتبت على ... ؟

(١) ضعف الدولة العثمانية بالنسبة للزراعة فى مصر.

.....

(٢) اعتماد الخديو إسماعيل فى علاقته مع السلطان العثمانى على تقديم المال والهدايا.

.....

(٣) مقاطعة الشعب المصرى لجنة ملنر.

.....

(٤) تولى مينو قيادة الحملة الفرنسية فى مصر.

.....

(ب) أيد صحة كل عبارة مما يأتى بالأدلة التاريخية :

(١) تهيأت الظروف لبريطانيا لتحقيق أطماعها فى مصر يونيه ١٨٨٢م.

.....

(٢) يعتبر عهد إسماعيل من أزهى عهود تاريخ مصر خاصة فى التعليم والثقافة.

.....

(جـ) أجب عما يأتى :

(١) ما رأيك فى : موقف نابليون من حامية يافا ؟

.....

(٢) ماذا كان يحدث إذا : انتصر جيش عرابى فى معركة التل الكبير؟

.....

٥ محافظة الشرقية

مجاب عنه

أجب عن الأسئلة الآتية:

أولاً الجغرافيا

١ (أ) أمامك خريطة لبعض القارات، اكتب مدلول الأرقام الموقعة عليها :

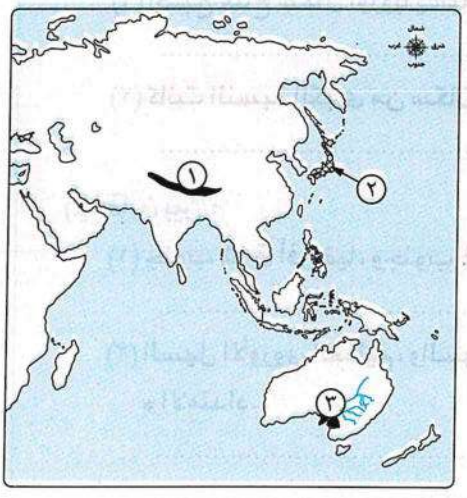

(١) إقليم مناخى .....

(٢) سلالة بشرية .....

(٣) منطقة تركز سكانى .....

(ب) اكتب كلمة (صواب) أو كلمة (خطأ) أمام العبارة التالية، مع ذكر السبب فى الحالتين :

تحاط أمريكا الشمالية بالمحيطات من ثلاث جهات. ( )

.....

(جـ) اختر الإجابة الصحيحة مما بين القوسين :

«تزداد معدلات الوفيات فى الدول التى تقل فيها الرعاية الصحية».

خالف هذه المقولة دول قارة ..... (آسيا - أفريقيا - أوروبا - أمريكا الجنوبية)

(د) دلل على صحة كل عبارة من العبارتين التاليتين :

(١) أثرت هضاب أفريقيا على اختلاف توزيع السكان فى مصر.

.....

(٢) يختلف نصيب الفرد من الدخل القومى داخل قارة أوروبا من دولة لأخرى.

.....

٢ (أ) بم تفسر ... ؟

(١) القارة القطبية الجنوبية تتميز بخصائص عن باقى قارات العالم.

.....

(٢) ضيق السهول الساحلية الشرقية لقارة أفريقيا بصفة عامة.

.....

(٣) ساهم الأوروبيون بتنوع السلالات البشرية بالولايات المتحدة الأمريكية.

.....

(٤) وجود أفراد ذات بشرة صفراء داخل دول أوروبا ليس لهم حق الإقامة الشرعية.

.....

(ب) ماذا يحدث إذا ... ؟

(١) أصبح مناخ شمال أوروبا يشبه مناخ سواحلها الجنوبية.

.....

(٢) كانت النسبة الكبرى من سكان مصر داخل قوة العمل.

.....

(جـ) قارن بين :

(١) جنوب شرق أفريقيا، وجنوب غرب آسيا، من حيث : الخصائص النباتية.

.....

(٢) السهل الأوروبى العظيم، والسهول الوسطى بأمريكا الشمالية، من حيث :

* الامتداد. * ذكر مثال لأحد الأنهار بكل منهما.

.....

.....

ثانيا التاريـــخ

٣ (أ) اختر الإجابة الصحيحة مما بين القوسين :

(١) افتقد الفلاح المصرى مشاعر ارتباطه وملكيته للأرض الزراعية خلال الحكم العثمانى نتيجة ..... (ظلم الملتزمين - حق الانتفاع - إهمال الرى - نظام الاحتكار)

(٢) قوة اجتماعية قديمة لم تتأثر سلبًا بسياسة «محمد على» الاقتصادية فى مصر .....
(البدو - المماليك - التجار - الأعيان)

(٣) اختلفت حملة فريزر الإنجليزية ١٨٠٧م عن الحملة الفرنسية على مصر ١٧٩٨م فى موقفها المساند لـ .....

(السلطان العثمانى - البكوات المماليك - الزعامة الشعبية - محمد على باشا)

(٤) أرسلتا بريطانيا وفرنسا مذكرة مشتركة يعلنان فيها رغبتهما الصريحة فى حل مجلس النواب فى عهد وزارة ..... (شريف باشا - محمود سامى البارودى - رياض باشا - راغب باشا)

(ب) اكتب كلمة (صواب) أو كلمة (خطأ) أمام العبارة التالية، مع ذكر السبب فى الحالتين :

ساهمت حروب اليونان فى نمو فكرة انفصال محمد على عن الدولة العثمانية. ( )

.....

(جـ) دلل على مصداقية العبارتين الآتيتين :

(١) حاول قادة الحملة الفرنسية على مصر تنشيط التجارة الخارجية رغم حصار الأسطول البريطانى لشواطئ مصر الشمالية.

.....

(٢) إصدار إسماعيل مرسوم إبريل ١٨٧٩م لتسوية الديون فى مصر كان سببًا فى عزله عن الحكم ١٨٧٩م.

.....

---

٤ (أ) ما الآثار التى ترتبت على ... ؟

(١) العزلة التى فرضها العثمانيون على مصر خلال حكمهم للبلاد بالنسبة للحياة الثقافية.

.....

(٢) مقاومة أبناء الصعيد للحملة الفرنسية على مصر ١٧٩٨م.

.....

(٣) اعتماد سعيد باشا على رؤوس الأموال الأجنبية.

.....

(٤) إسناد الخديو توفيق رئاسة الوزارة إلى رياض باشا فى بداية حكمه للبلاد.

.....

(ب) ماذا كان يحدث إذا ... ؟

(١) لم يرتكب نابليون بونابرت جريمته البشعة فى يافا ١٧٩٩م.

.....

(٢) استجاب الزعيم أحمد عرابى لأوامر الخديو بالكف عن استعداداته الحربية فى كفر الدوار.

.....

(جـ) من الأقوال المأثورة للزعيم مصطفى كامل : «*إن من يتسامح فى حقوق بلاده ولو مرة واحدة بقى أبد الدهر مزعزع العقيدة سقيم الوجدان*» . فى ضوء العبارة السابقة، وضح :

(١) أهداف خطب ومقالات مصطفى كامل الموجهة إلى المصريين.

.....

(٢) عاملين من العوامل الداخلية والتى أدت إلى قيام ثورة ١٩١٩م.

.....

٦ محافظة المنوفية

مجاب عنه

أجب عن الأسئلة الآتية:

أولا الجغرافيا

١ (أ) أمامك خريطة العالم، اكتب ما تدل عليه الأرقام التالية :

(١) مسطح مائى .....

(٢) هضبـــــة .....

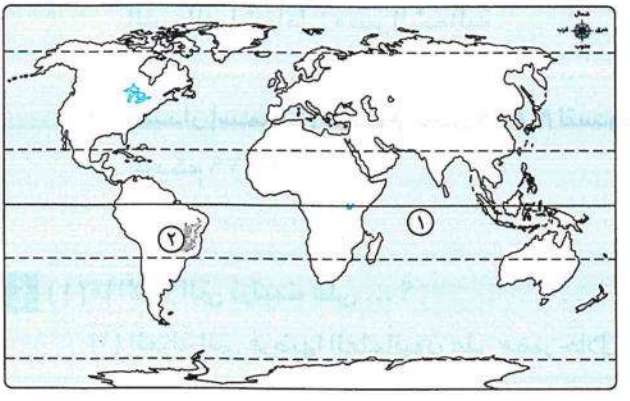

(ب) اكتب كلمة (صواب) أو كلمة (خطأ) أمام العبارة التالية، مع ذكر السبب فى الحالتين :

أفريقيا أعلى قارات العالم من حيث معدل المواليد. ( )

(جـ) ما الأثر السلبى لـ : المناخ الاستوائى على سكان أفريقيا؟

(د) فى ضوء ما درسته، وضح :

(١) أوجه التشابه بين : نهر الكونغو، ونهر الأمازون.

(٢) أوجه الاختلاف بين : الإسكيمو والبانتو.

---

٢ (أ) اختر الإجابة الصحيحة مما بين القوسين :

(١) من الدول الجزرية فى قارة أفريقيا ..... (مالطة - اليابان - الفلبين - مدغشقر)

(٢) يتركز سكان أستراليا فى ..... (الشمال الشرقى - الشمال - الجنوب الشرقى - الغرب)

(ب) قارن بين :

(١) نوع الحشائش فى الإقليم المدارى الحار، وإقليم البحر المتوسط.

(٢) توزيع السكان فى سهول اليانجتسى، وسهول سيبيريا.

(جـ) «يمثل النادى الأهلى مصر فى كأس العالم للأندية التى ستقام بالولايات المتحدة الأمريكية إحدى دول قارة أمريكا الشمالية» . فى ضوء هذه العبارة :

(١) ما : اسم السلالة الأصلية لسكان الولايات المتحدة الأمريكية ؟

(٢) اذكر : موسم سقوط المطر فى الجنوب الشرقى للقارة.

(٣) حدد : إحدى دول القارة ذات الدخل الاقتصادى فوق المتوسط.

(٤) أين : تقع جبال روكى فى قارة أمريكا الشمالية ؟

ثانيا التاريخ

٣ (أ) صوب ما تحته خط فيما يلى :

(١) كانت معركة مرج دابق بداية توسعات الدولة العثمانية فى الشرق.

(٢) اقترح السلطان العثمانى تولية خورشيد باشا ولاية مصر.

(ب) اكتب كلمة (صواب) أو كلمة (خطأ) أمام العبارة التالية، مع ذكر السبب فى الحالتين :

تناقضت سياسة محمد سعيد باشا التعليمية مع سياسة محمد على باشا. ( )

(جـ) بم تفسر ... ؟

(١) فشل اتفاقية العريش بين كليبر والدولة العثمانية.

(٢) إصدار الخديو إسماعيل مرسوم أبريل ١٨٧٩م.

(٣) استقالة وزارة شريف باشا ١٨٨٢م.

(٤) قاد محمد فريد الحركة الوطنية ضد الخديو والاحتلال معًا.

(د) ما العلاقة بين : الحرب العالمية الثانية، وتولى مصطفى النحاس رئاسة الوزراء ؟

---

٤ (أ) أكمل ما يأتى بكلمات مناسبة :

(١) قاد العثمانيين للانتصار على المماليك السلطان .....

(٢) تم سحب الجيش المصرى من السودان فى عهد وزارة .....

(ب) ما النتائج التى ترتبت على ... ؟

(١) ثورة القاهرة الثانية ١٨٠٠م. (٢) إنشاء الاحتلال البريطانى جيشًا صغير العدد.

(جـ) ماذا كان يحدث إذا ... ؟

(١) فشل محمد على فى ضم السودان. (٢) صدق ديليسبس فى وعده بحيادية القناة.



٧ محافظة الغربية

أجب عن الأسئلة الآتية:

أولًا الجغرافيا

١ (أ) لاحظ الخريطة التى أمامك، ثم اكتب ما تدل عليه الأرقام الموضحة عليها :

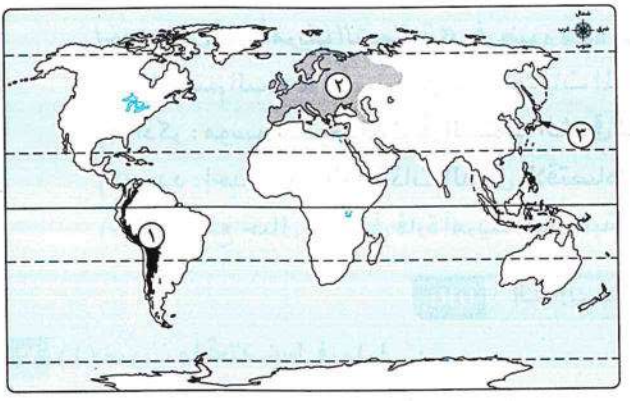

(١) اسم السلسلة الجبلية .....

(٢) اسم السلالة البشرية .....

(٣) جـــزر .....

(ب) اكتب كلمة (صواب) أو كلمة (خطأ) أمام العبارة التالية، مع ذكر السبب فى الحالتين :

تزداد نسبة العاملين فى الصناعة والخدمات المرتبطة بها فى الدول النامية. ( )

(جـ) اختر الإجابة الصحيحة من بين القوسين :

يتمثل المناخ الاستوائى وشبه الاستوائى فى .....

(الصحراء الكبرى - حوض الكونغو - شمال اليابان - شمال سيبيريا)

(د) أيد بالأدلة الجغرافية صحة كل عبارة مما يأتى :

(١) تتنوع الأقاليم المناخية وفقًا لعدة عوامل مؤثرة فى مناخ القارات.

(٢) تعرض العديد من زنوج أفريقيا للهجرة الإجبارية فى الماضى.

---

٢ (أ) *«دراسة السلالات البشرية تساعدنا على فهم أصولنا وتنوعنا الثقافى والإنسانى، وتشجيع التسامح والتفاهم بين الثقافات المختلفة»*. فى ضوء ما درست أجب :

(١) بم تفسر : ضيق السهول الساحلية فى غرب أمريكا الجنوبية ؟

(٢) اكتب سببًا : يقل عدد السكان فى السهول الشمالية من قارة آسيا.

(٣) دلل على صحة العبارة : تسمى غابات إقليم مناخ غرب أوروبا باسم الغابات النفضية.

(٤) ما رأيك فى : بعض السلالات تعتبر نفسها أكثر ذكاء وقدرة على العمل والإبداع من سلالة أخرى؟

(٥) صوب ما تحته خط فى العبارة : يوجد فى قارة أوروبا أكبر دولتين فى العالم سكانًا.

(٦) ما نتيجة : تساوى معدلات المواليد مع معدلات الوفيات فى قارة أوروبا ؟

(ب) أجب عما يأتى :

(١) ما العلاقة بين : التطور الصناعى، وتوزيع السكان فى قارات العالم؟

(٢) إذا افترضنا «ارتفاع كبير فى مستوى سطح البحر». فما هى الآثار المتوقعة على مساحة القارات والسواحل والدول ؟

ثانيا التاريخ

٣ (أ) اختر الإجابة الصحيحة مما بين القوسين وضع خطًا تحتها :

(١) نتائجها كانت بداية عصر جديد فى تاريخ مصر معركة .....

(مرج دابق - كفر الدوار - الريدانية - أبى قير البرية)

(٢) كانت محاولة لإنهاء وجود الحملة الفرنسية على مصر لكنها فشلت .....

(معاهدة لندن - مؤتمر الآستانة - اتفاقية العريش - المذكرة المشتركة الأولى)

(٣) يمثل عهده أزهى الفترات وأكثرها تقدمًا وعمرانًا فى تاريخ مصر الحديث رغم التدخل الأجنبى ..... (عباس الأول - محمد سعيد - الخديو إسماعيل - الخديو عباس حلمى الثانى)

(٤) من مظاهر عدم كفاءة خلفاء «محمد على» فى حكم مصر .....

(قبضهم على زمام الأمور فى البلاد - الميل للأجانب وسياسة التبعية - اعتمادهم على موارد مصر - زيادة الصادرات)

(ب) اكتب كلمة (صواب) أو كلمة (خطأ) أمام العبارة التالية، مع ذكر السبب فى الحالتين :

منح عباس الأول عقد امتياز تأسيس شركة عامة لحفر قناة السويس لفرديناند ديليسبس. ( )

(جـ) بم تفسر ... ؟ (١) أخفقت القوات الفرنسية فى إخضاع أهالى الصعيد.

(٢) عزل الخديو إسماعيل وتولية ابنه الخديو توفيق.

---

٤ (أ) صوب ما تحته خط فيما يلى :

(١) انتصرت الدولة العثمانية على الدولة الصفوية فى معركة ديو البحرية ١٥١٤م.

(٢) أجريت الانتخابات العامة فى مصر طبقًا لدستور ١٩٢٣م وحصل الحزب الوطنى على الأغلبية.

(ب) اكتب ما تشير إليه كل عبارة مما يأتى :

(١) عينه الخديو توفيق ناظرًا للجهادية بعد عزل عثمان رفقى.

(٢) أعلن إلغاء معاهدة ١٩٣٦م وأطلق الحرية للشعب للنضال المسلح ضد القوات البريطانية فى القناة أكتوبر ١٩٥١م.

(جـ) اكتب سببًا لكل عبارة مما يأتى :

(١) استمر المصريون فى مواصلة الكفاح بعد الاحتلال البريطانى لمصر.

(٢) إرسال إنجلترا لجنة ملنر إلى مصر ديسمبر ١٩١٩م.

(د) «أدى حفر قناة السويس إلى زيادة أهمية مصر استراتيجيًا، ولكنها زادت أيضًا من تدخل الدول الاستعمارية فى شئون مصر». فى ضوء ما درست أجب :

(١) اكتب اثنين : من أعمال علماء الحملة الفرنسية أثناء وجودهم فى مصر.

(٢) ماذا كان يحدث إذا : أمر أحمد عرابى بتعطيل الملاحة فى قناة السويس أثناء الاحتلال البريطانى لمصر ١٨٨٢م؟

٨ محافظة الدقهلية

مجاب عنه

أجب عن الأسئلة الآتية:

أولًا الجغرافيا

١ (أ) أمامك خريطة للعالم، لاحظها ثم أجب عما يأتى :

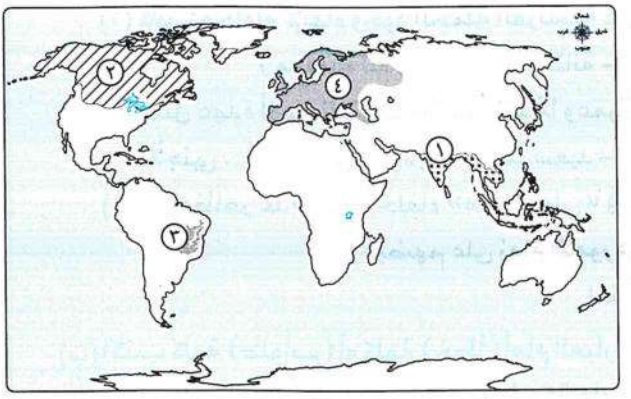

(١) هضبة البرازيل يمثلها رقم .....

(٢) إقليم المناخ الموسمى يمثله رقم ..... وأهم أشجاره .....

(٣) السلالة المغولية (الإسكيمو) يمثلها رقم .....

(ب) اختر الإجابة الصحيحة مما بين القوسين :

أكبر دول قارة أمريكا الجنوبية سكانًا ..... (الأرجنتين - البرازيل - شيلى - فنزويلا)

(جـ) اكتب كلمة (صواب) أو كلمة (خطأ) أمام العبارة التالية، مع ذكر السبب فى الحالتين :

تقع قارة أستراليا بأكملها فى نصفى الكرة الأرضية الشمالى والشرقى. ( )

(د) دلل على صحة العبارتين الآتيتين :

(١) الولايات المتحدة الأمريكية يضم شعبها سلالات مختلفة.

(٢) تتشابه تضاريس شمال غرب قارة أفريقيا، وجنوبها الشرقى، ويختلفان فى المناخ.

---

٢ (أ) بم تفسر ... ؟ (١) كثرة الموانئ فى قارة أوروبا.

(٢) زيادة السكان فى معظم قارة آسيا تخطت الحدود السياسية.

(٣) اختلاف الخصائص الاقتصادية لسكان العالم.

(ب) دلل جغرافيًا على مصداقية كل عبارة مما يأتى :

(١) لعب عامل ارتفاع السطح دورًا (متناقضًا) فى توزيع السكان فى قارة أفريقيا.

(٢) توجد علاقة بين الخدمات الصحية، ومعدل الوفيات فى قارة أوروبا.

(ج) «تتنوع الأنشطة الاقتصادية للسكان فى كل دولة وقارة بسبب تنوع الدخل الاقتصادى والصحة والتعليم» . فى ضوء هذه العبارة أجب عما يأتى :

حدد وجه الارتباط بين : معدلات تعليم الإناث، وعادات وتقاليد بعض الشعوب.

(د) ما المقصود بكل مصطلح جغرافى مما يأتى ... ؟ (١) دول جزرية. (٢) الإقليم المناخى.

ثانيًا التاريخ

٣ (أ) اختر الإجابة الصحيحة مما بين القوسين :

(١) تغير الوضع الاقتصادى لمصر بداية القرن السادس عشر الميلادى بعد معركة .....

(جالديران - إمبابة - التل الكبير - ديو البحرية)

(٢) الأثر السلبى لوزارة إسماعيل صدقى تمثل فى .....

(وضع دستور ١٩٢٣م - سحب الجيش المصرى من السودان - وضع دستور ١٩٣٠م - إعادة المراقبة الثنائية)

(٣) أصبح لمصر منصة إعلامية رسمية فى عهد محمد على من خلال .....

(المطبعة الأميرية - البعثات التعليمية - الخبراء الأجانب - ترجمة الكتب)

(٤) سمحت قوات الحملة الفرنسية للقوات العثمانية بالدخول إلى القاهرة فى عهد .....

(نابليون - كليبر - مينو - نلسون)

(ب) اكتب كلمة (صواب) أو كلمة (خطأ) أمام العبارة التالية، مع ذكر السبب فى الحالتين :

طلب سعد زغلول من المندوب السامى البريطانى السماح له بالسفر إلى لندن. ( )

(ج) أثبت تاريخيًا صحة كل عبارة مما يأتى :

(١) حملت المحاكم المختلطة فى داخلها العديد من العيوب.

(٢) ساعد السلطان العثمانى بريطانيا فى تحقيق رغبتها فى سبتمبر ١٨٨٢م.

---

٤ (أ) حدد العلاقة بين كل مما يأتى :

(١) حادثة دنشواى عام ١٩٠٦م، واللورد كرومر.

(٢) تولى عثمان رفقى ناظرًا للجهادية، واندلاع الثورة العرابية.

(ب) حدد وجه الشبه بين كل من :

(١) معركة مرج دابق ١٥١٦م، ومعركة الريدانية ١٥١٧م.

(٢) سياسة محمد على، والخديو إسماعيل فى أفريقيا.

(ج) حدد الدور الذى قام به كل من :

(١) محمد فريد وجهوده فى مجال التعليم .

(٢) محمد على فى تحسين طرق الرى.

(د) «قاوم الشعب المصرى على مر العصور استبداد الحكام وطغيان المحتل الخارجى».
فى ضوء هذه العبارة أجب عما يأتى :
(١) أيد صحة العبارة الآتية : نجح الشعب المصرى فى فرض إرادته عقب خروج الحملة الفرنسية من مصر.
(٢) فسر : قيام نابليون بإنشاء الديوان العام ودواوين الأقاليم وديوان القاهرة .

٩ محافظة الإسماعيلية

مجاب عنه

أجب عن الأسئلة الآتية:

أولاً الجغرافيا

١ (أ) أمامك خريطة للعالم، لاحظها ثم أجب :

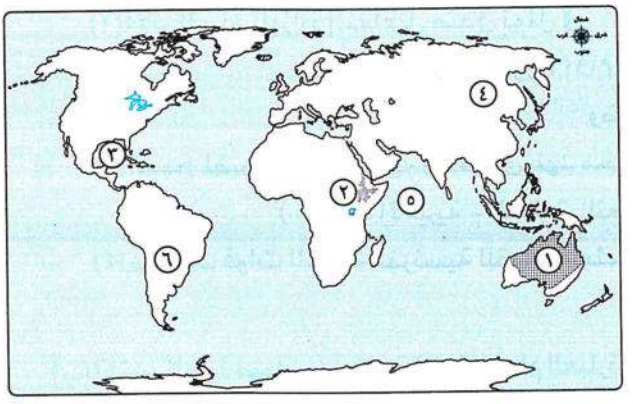

(١) نهر المسيسبى يمثل مصبه الرقم .....
(٢) الغابات الموسمية يمثلها الرقم .....
(٣) السلالة الزنجية يشير إليها رقم .....

(ب) اختر الإجابة الصحيحة مما بين القوسين :
القارة التى تحتل أعلى معدل وفيات وأقل معدل مواليد قارة .....
(آسيا - أفريقيا - أوروبا - أستراليا)

(جـ) اكتب كلمة (صواب) أو كلمة (خطأ) أمام العبارة التالية، مع ذكر السبب فى الحالتين :
تتفق سهول سيبيريا مع شمال كندا وألاسكا فى المناخ والسلالة البشرية. ( )

(د) بم تفسر ... ؟ (١) ضيق السهول الساحلية فى قارة أفريقيا بصفة عامة.
(٢) تمثل فئة صغار السن تحديًا واضحًا لبعض دول العالم.

---

٢ (أ) ما المقصود بكل من ... ؟ (١) الدولة الجزرية. (٢) حوض النهر.

(ب) ما النتائج المترتبة على ... ؟
(١) الموقع الفلكى للقارة القطبية الجنوبية.
(٢) كثرة تعاريج سواحل قارة أوروبا.
(٣) اختلاط الصفات الطبيعية للسلالات البشرية.
(٤) زيادة السكان فى معظم دول آسيا.

(جـ) «تلعب العوامل الطبيعية والبشرية دورًا هامًا فى توزيع السكان والأنشطة الاقتصادية فى جميع قارات العالم». فى ضوء هذه العبارة السابقة، أجب عما يأتى :

(١) دلل جغرافيًا : يقل السكان فى حوض نهر الأمازون ودولتى النرويج وفنلندا.

(٢) وضح أوجه الشبه والاختلاف بين : إقليم المناخ المعتدل شرق القارات (الصينى)، وإقليم مناخ البحر المتوسط.

ثانيًا التاريخ

٣ (أ) اختر الإجابة الصحيحة مما بين القوسين :

(١) أول لقاء عسكرى بين المماليك والعثمانيين فى مصر معركة .....

(مرج دابق - الريدانية - إمبابة - جالديران)

(٢) استطاع محمد أبو الدهب دخول دمشق بتكليف من حاكم مصر .....

(محمد على - إبراهيم بك - على بك الكبير - مراد بك)

(٣) أُنشئ فى عهد سعيد باشا خط سكة حديد من القاهرة إلى .....

(بورسعيد - الإسكندرية - الإسماعيلية - السويس)

(٤) تولى محمود سامى البارودى منصب ناظر الجهادية (الحربية) فى وزارتى .....

(رياض باشا وشريف باشا - نوبار باشا ورياض باشا - شريف باشا ونوبار باشا - شريف باشا وإسماعيل راغب)

(ب) اكتب كلمة (صواب) أو كلمة (خطأ) أمام العبارة التالية، مع ذكر السبب فى الحالتين :

شهدت منطقة بولاق إقامة منشآت ثقافية وعسكرية فى عهد محمد على. ( )

(جـ) حدد العلاقة بين كل من :

(١) الزعامة الشعبية، وتولية محمد على حكم مصر.

(٢) تصريح ٢٨ فبراير ١٩٢٢م، والأوضاع السياسية فى مصر.

---

٤ (أ) أجب عما يأتى :

(١) «التاريخ يعيد نفسه». يُطبَّق مدلول العبارة السابقة والصورة المقابلة على عصر إسماعيل، وضح ذلك.

(٢) ما رأيك فى : دور محمد فريد فى النهوض بالتعليم ؟



عودة النصر لصناعة السيارات بعد توقفها
(بكل فخر صنع فى مصر)

(ب) دلل تاريخيًا على صحة العبارات الآتية :

(١) لعبت الأوضاع السياسية والاقتصادية دورًا مهمًا فى تدهور دولة المماليك.

(٢) تمثل النتائج العلمية للحملة الفرنسية على مصر أبرز نتائجها.

(٣) أثرت حروب محمد على فى اليونان سلبًا وإيجابًا على مصر.

(٤) شهدت معركة التل الكبير بطولات وطنية رغم الهزيمة.

(جـ) *«يشهد التاريخ تصدى المصريين للاحتلال يدافعون عن حرية بلادهم واستقلالها»*.

فى ضوء العبارة السابقة، أجب عما يأتى :

(١) «أعداء الأمس أصبحوا أصدقاء اليوم» تمثل المقولة مشكلة واجهت مصطفى كامل فى كفاحه ضد الاحتلال البريطانى، وضح ذلك.

(٢) فى ضوء ما درست وضح : كان لمعاهدة ١٩٣٦م العديد من الإيجابيات ولكنها لم تخلو من السلبيات.

١٠ محافظة السويس

مجاب عنه

أجب عن الأسئلة الآتية:

أولا الجغرافيا

١ (أ) أمامك خريطة لقارة أمريكا الجنوبية، اكتب مدلول الأرقام التى عليها :



(١) جبـــــال .....

(٢) دائرة عرض .....

(٣) هضبـــــة .....

(ب) اختر الإجابة الصحيحة مما بين القوسين :

من الدول ذات الدخل الأقل من المتوسط .....

(تركيا - أوكرانيا - السعودية - أستراليا)

(جـ) اكتب كلمة (صواب) أو كلمة (خطأ) أمام العبارة التالية، مع التصويب :

الديموجرافيا هى علم دراسة الطاقة. ( )

(د) ما العلاقة بين ... ؟ (١) حرفة الزراعة، ووجود الزنوج فى الأمريكتين.

(٢) عدد الأطباء، والرعاية الطبية فى دول العالم.

---

٢ (أ) بم تفسر ... ؟ (١) يختلف المناخ داخل القارة الواحدة من منطقة لأخرى.

(٢) العرب الآن لا ينتمون إلى سلالة بشرية واحدة.

(٣) لحشائش الإستبس أهمية اقتصادية.

(ب) ما الأثر الناتج عن ... ؟

(١) اقتراب جبال الحاجز الكبير من ساحل المحيط الهادى بقارة أستراليا.

(٢) زيادة عدد السكان فى معظم دول قارة آسيا.

(جـ) ماذا يحدث إذا : انخفضت نسبة فئة صغار السن فى الدول النامية ؟

(د) دلل على صحة كل عبارة مما يأتى :

(١) يسود المظهر الهضبى سطح قارة أفريقيا.

(٢) يتشابه كل من شرق الصين وشمال شرق الصين مناخيًا، ويختلفان نباتيًا.

ثانيا التاريخ

٣ (أ) اختر الإجابة الصحيحة مما بين القوسين فيما يأتى :

(١) عام ١٥١٧م انتقلت خلافة العالم الإسلامى إلى الدولة .....

(الصفوية - المملوكية - العثمانية - الأيوبية)

(٢) فشلت حركة على بك الكبير فى تحقيق أهدافها بسبب انحياز ..... للسلطان العثمانى.

(مراد بك - محمد بك أبو الدهب - إبراهيم بك - محمد بك الألفى)

(٣) تألفت وزارة نوبار المختلطة تنفيذًا لمقترحات .....

(لجنة ملنر - صندوق الدين - المراقبة الثنائية - لجنة التحقيق العليا الأوروبية)

(٤) ألغى مصطفى النحاس معاهدة ١٩٣٦م، التى عقدتها مصر مع .....

(فرنسا - ألمانيا - بريطانيا - إيطاليا)

(ب) اكتب كلمة (صواب) أو كلمة (خطأ) أمام العبارة الآتية، مع التصويب :

استطاع محمد على الانفراد بحكم مصر عام ١٨١١م، بعد تخلصه من العثمانيين. ( )

(جـ) قارن بين : المذكرة المشتركة الأولى يناير ١٨٨٢م، والمذكرة المشتركة الثانية مايو ١٨٨٢م، من حيث: المطالب.

(د) ما المقصود بكل من ... ؟ (١) فرمان. (٢) حق الانتفاع.

---

٤ (أ) بم تفسر ... ؟ (١) فشل القوات الفرنسية فى إخضاع أهالى الصعيد.

(٢) للزعيم محمد فريد دور مهم فى الاهتمام بالتعليم فى مصر.

(٣) معارضة الشعب المصرى لدستور ١٩٣٠م.

(ب) ما النتائج التى ترتبت على ... ؟

(١) نفى سعد زغلول للمرة الثانية إلى جزيرة سيشل. (٢) اكتشاف حجر رشيد ١٧٩٩م.

(٣) سياسة العزلة التى فرضتها الدولة العثمانية على مصر.

(جـ) ما العلاقة بين : حروب اليونان ١٨٢١م : ١٨٢٨م، ومكانة مصر الدولية ؟

(د) دلل على صدق العبارة تاريخيًا : شهد عهد سعيد باشا تقدمًا فى النقل والمواصلات.



أجب عن الأسئلة الآتية:

١ (أ) أجب عما يأتى :

(١) قارن بين : الإقليم المدارى الحار، وإقليم البحر المتوسط، من حيث: موسم سقوط المطر.

(٢) حدد وجه التشابه بين كل من : هضبة جنوب أفريقيا، وهضبة فرنسا الوسطى.

(٣) ما العلاقة بين : الموقع الجغرافى للقارة القطبية الجنوبية، والسكان ؟

(٤) بم تفسر : قلة معدلات الزيادة الطبيعية فى الدول المتقدمة ؟

(٥) دلل على صحة العبارة الآتية : يتشابه العامل المؤثر فى توزيع السكان فى كل من شمال شرق الولايات المتحدة الأمريكية، وهضبة البرازيل.

(٦) اقترح حلولًا : لمشكلة الهجرة غير الشرعية .

(ب) حدد الأثر الناتج عن :

انصهار السلالات واختلاط الصفات الطبيعية التى تميز كل سلالة عن الأخرى.

(جـ) أكمل الجدول التالى بما يناسبه :

وجه المقارنة	غابات الإقليم الصينى	الغابات النفضية
أهم الأشجار	..... (١)	الزان
الخصائص النباتية	غابات دائمة الخضرة	..... (٢) .....

٢ (أ) وضح دور كل من : (١) عباس الأول : فى تسهيل الانتقال بين القاهرة وأهم الموانئ المصرية.

(٢) محمد على : فى الاهتمام بالملاحة البحرية.

(٣) إسماعيل : فى إقامة حياة دستورية سليمة.

(ب) بم تفسر ... ؟

(١) كان للحملة الفرنسية على مصر نتائج إيجابية فى مجالى الحكم والإدارة.

(٢) احتوى دستور ١٩٢٣م على عديد من المتناقضات.

(٣) كان السلطان العثمانى سببًا أساسيًا فى فشل الثورة العرابية.

(جـ) أجب عما يأتى :

(١) ما أوجه الاختلاف بين : التعليم فى عهد إسماعيل، والتعليم فى ظل الاحتلال البريطانى ؟

(٢) دلل تاريخيًا على صحة العبارة التالية : استغل محمد على الظروف السياسية والاقتصادية التى يمر بها الشعب المصرى عام ١٨٠٤م لتحقيق مكاسب سياسية.

٣ (أ) اختر الإجابة الصحيحة مما بين القوسين :

(١) استفادة الفلاح من الأرض الزراعية مع عدم قدرته على التصرف فيها يسمى بنظام ..... (الاحتكار - الالتزام - الانتفاع - السخرة)

(٢) نتج عن حادثة قصر النيل ١٨٨١م تعيين وزير حربية جديد هو .....
(عثمان رفقى - محمود سامى البارودى - أحمد عرابى - شريف باشا)

(٣) تم المطالبة بإنشاء مدارس الشعب ليلية لتعليم العمال والفقراء وجعل التعليم إلزاميًا من خلال الزعيم ..... (مصطفى كامل - سعد زغلول - محمد فريد - أحمد عرابى)

(ب) اكتب كلمة (صواب) أو كلمة (خطأ) أمام العبارة التالية، مع ذكر السبب فى الحالتين :

كانت الظروف التى ترك فيها نابليون قيادة الحملة الفرنسية فى مصر سببًا فى عقد اتفاقية العريش ١٨٠٠م. ( )

(جـ) أجب عما يأتى :

(١) ما العلاقة بين : النهضة الأوروبية، واتجاه العثمانيين نحو الشرق أوائل القرن الـ١٦م ؟

(٢) ما أهم النتائج التى ترتبت على : معاهدة ١٩٣٦م بين مصر وبريطانيا ؟ (يكتفى باثنين)

---

٤ (أ) أمامك خريطة لقارة آسيا، اكتب مدلول الأرقام التى عليها :

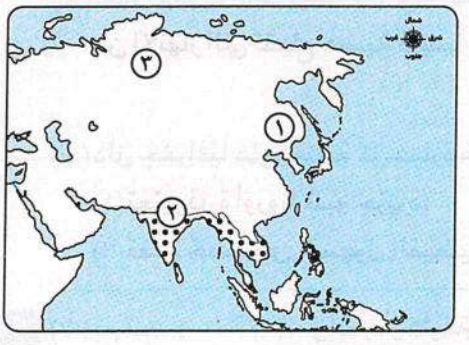

(١) سهل فيضى .....

(٢) إقليم مناخى .....

(٣) منطقة يقل بها عدد السكان .....

(ب) اختر الإجابة الصحيحة من بين البدائل التالية :

أى من الجبال الآتية يوجد إلى الشرق منها عديد من الأنهار ؟ .....

(أ) الأبلاش. (ب) الحاجز الكبير. (جـ) البحر الأحمر. (د) الإنديز.

(جـ) اكتب كلمة (صواب) أو كلمة (خطأ) أمام العبارة التالية، مع ذكر السبب فى الحالتين :

يمر خط جرينتش (خط الطول الرئيسى) بخمس من قارات العالم. ( )

(د) ما مدى مصداقية كل عبارة مما يأتى ... ؟

(١) أثرت قارة أفريقيا على التركيب السكانى لكل من قارتى أمريكا الشمالية وأوروبا.

(٢) تُعد دولة تركيا من دول الدخل الاقتصادى فوق المتوسط.

١٢ محافظة دمياط

مجاب عنه

أجب عن الأسئلة الآتية:

أولًا الجغرافيا

١ (أ) أمامك خريطة للعالم، اكتب فى كراسة إجابتك، مدلول الأرقام المدونة عليها مستعينًا بما يلى :

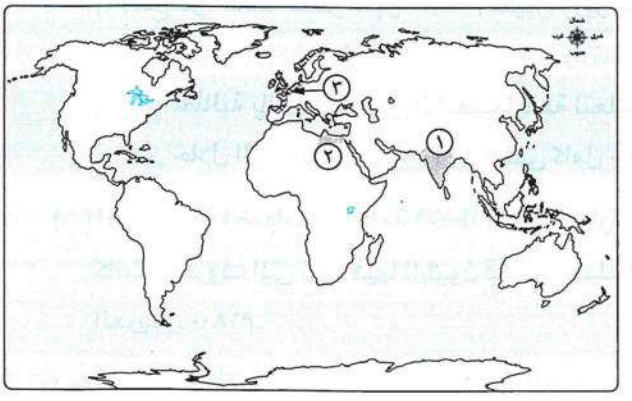

(١) هضبة .....

(٢) سهول رملية .....

(٣) اسم الأشجار التى تنمو فى هذا الإقليم .....

(ب) اكتب كلمة (صواب) أو كلمة (خطأ) أمام العبارة التالية، مع ذكر السبب فى الحالتين :

أثرت الأطماع الاقتصادية على التركيب السكانى فى الأمريكتين. ( )

(جـ) اختر الإجابة الصحيحة مما بين القوسين فيما يلى :

من الأنهار التى تقطع هضبة فرنسا الوسطى بقارة أوروبا نهر .....

(الراين - السين - الدانوب - الفولجا)

(د) دلل جغرافيًا على صحة كل عبارة مما يأتى :

(١) تعتبر قارة أوروبا شبه جزيرة.

(٢) تعدد خصائص السهول الفيضية فى أمريكا الشمالية.

---

٢ (أ) بم تفسر ... ؟ (١) نمو أشجار كثيفة ومتشابكة فى جزر إندونيسيا.

(٢) الأهمية الاقتصادية لحشائش البرارى بأمريكا الشمالية.

(٣) جنوب شرق أستراليا أكثر عرضة لمخاطر المناخ عن جنوبها الغربى.

(٤) تركز السكان فى دول المغرب العربى.

(ب) أثبت صحة كل عبارة مما يأتى :

(١) تعددت العوامل الطبيعية المؤثرة على معدلات الوفيات فى العالم.

(٢) تتميز معظم دول أوروبا وروسيا بالرعاية الطبية الفائقة.

(جـ) ما العلاقة بين ... ؟ (١) جبال الإنديز، والسهول الساحلية لأمريكا الجنوبية.

(٢) فئة صغار السن، والاقتصاد المصرى.

ثانيا التاريـــخ

٣ (أ) اختر الإجابة الصحيحة مما بين القوسين فيما يلى :

(١) أول من بدأ سياسة التفاوض مع الدولة العثمانية من قادة الحملة الفرنسية .....
(نابليون - كليبر - مينو - نلسون)

(٢) انفرد محمد على بالحكم دون وصاية أو رقابة شعبية بعد .....
(تأكيد الدولة العثمانية على ولايته - القضاء على حملة فريزر - نفى عمر مكرم - التخلص من المماليك)

(٣) تشابهت إنجازات عباس باشا مع سعيد باشا فى .....
(تحسين التعليم - تدعيم الأسطول - زيادة عدد الجيش - تحسين وسائل المواصلات)

(٤) انتهت تبعية مصر للدولة العثمانية أثناء الحرب العالمية الأولى نتيجة .....
(فرض الحماية البريطانية على مصر - وقوع مصر تحت الاحتلال البريطانى - إصدار تصريح ٢٨ فبراير - تأليف الوفد المصرى)

(ب) اكتب كلمة (صواب) أو كلمة (خطأ) أمام العبارة التالية، مع ذكر السبب فى الحالتين :

نال حى بولاق مكانة ثقافية وعسكرية فى عهد سعيد باشا. ( )

(جـ) ما النتائج التى ترتبت على ما يلى ... ؟

(١) توتر العلاقة بين محمد على والسلطان العثمانى بعد حرب اليونان.

(٢) الأحكام التى تصدرها المحاكم القنصلية لا تستأنف إلا فى الخارج.

---

٤ (أ) بم تفسر ... ؟

(١) تعرضت دولة المماليك لأزمات سياسية وعسكرية منذ أواخر القرن الخامس عشر الميلادى.

(٢) كانت العوامل البشرية والطبيعية ذات أثر كبير فى مقاومة الحملة الفرنسية.

(٣) يعتبر عهد الخديو إسماعيل بداية الإصلاح النيابى فى مصر.

(٤) حادثة قصر النيل مكنت العرابيين من السيطرة على الجيش.

(ب) دلل تاريخيًا على صحة كل عبارة مما يأتى :

(١) الاتفاق الودى ١٩٠٤م لا يعبر إلا عن المصالح الاستعمارية.

(٢) للشعب المصرى دورًا واضحًا فى الإفراج عن سعد زغلول وعودته لمصر بعد نفيه إلى جزيرة سيشل.

(جـ) أثبت تاريخيًا صدق العبارة التالية :

شهد ميدان القتال فى معركة التل الكبير بطولات مصرية خالدة.

(د) قارن فى جدول بين : أحوال الصناعة فى العصر العثمانى، وأحوال الصناعة فى عصر محمد على.



أجب عن الأسئلة الآتية:

أولًا الجغرافيا

١ (أ) أمامك خريطة للعالم، اكتب ما تدل عليه الأرقام الموقعة عليها :

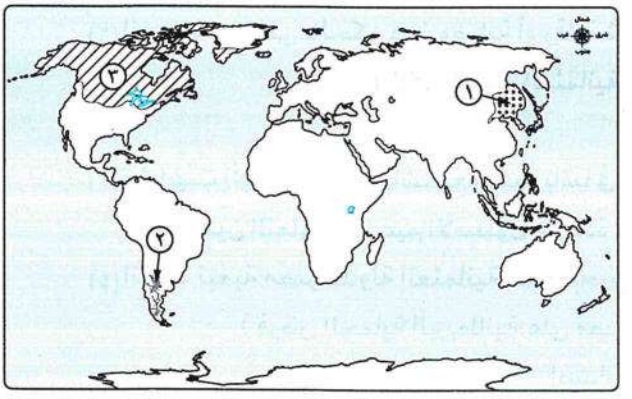

(١) إقليم مناخى .....

(٢) هضبة .....

(٣) سلالة بشرية .....

(ب) اختر الإجابة الصحيحة مما بين القوسين :

أى من الجبال التالية يسود فى شرقها المظهر الهضبى؟ .....

(أطلس - الأبلاش - البحر الأحمر - الإنديز)

(جـ) اكتب كلمة (صواب) أو كلمة (خطأ) أمام العبارة الآتية، مع ذكر السبب فى الحالتين :

يعتبر المحيط الأطلنطى حدًا طبيعيًا لثلاث قارات مأهولة بالسكان. ( )

(د) دلل على صحة كل عبارة مما يأتى :

(١) يُعد عدد الأطباء مؤشرًا مهمًا على مستوى الرعاية الطبية فى دول العالم.

(٢) لعبت الدوافع الاقتصادية دورًا مؤثرًا فى التركيب السكانى للأمريكتين.

---

٢ (أ) بم تفسر ... ؟

(١) خالفت أوغندا وكينيا قاعدة توزيع السكان فى المنطقة الاستوائية.

(٢) تركُز الدول ذات الدخل الاقتصادى المنخفض فى قارة أفريقيا.

(٣) الجنوب الشرقى لقارة أستراليا أكثر تعرضًا لمخاطر المناخ عن جنوبها الغربى.

(ب) ما النتائج المترتبة على ... ؟

(١) امتداد السلاسل الجبلية بالقرب من سواحل شرق المحيط الهادى.

(٢) اهتمام الدولة المصرية بالرعاية الصحية للأطفال.

(٣) زيادة عدد السكان فى معظم دول قارة آسيا.

(جـ) ما العلاقة بين ... ؟

(١) الأقاليم المناخية والنباتية، ومرور دائرة الاستواء فى وسط قارة أفريقيا.

(٢) نهر النيل، وهضاب شرق ووسط القارة.

ثانيًا التاريخ

٣ (أ) أكمل العبارات التالية بما يناسبها من كلمات :

(١) أولى القوى التى واجهت حملة نابليون على مصر ١٧٩٨م .....

(٢) نمت فكرة انفصال محمد على بمصر عن الدولة العثمانية بعد حرب .....

(٣) امتد النفوذ المصرى إلى العمق الأفريقى جنوبًا فى عهد إسماعيل للسيطرة على .....

(٤) تألف الوفد الذى كان يمثل الأمة المصرية فى مؤتمر الصلح من بين أعضاء .....

(ب) اكتب كلمة (صواب) أو كلمة (خطأ) أمام العبارة التالية، مع ذكر السبب فى الحالتين :

نجح الإنجليز فى احتلال مصر فى عهد حكومة محمود سامى البارودى. ( )

(جـ) بم تفسر ... ؟

(١) اهتمام محمد على بالتعليم والثقافة فى مصر.

(٢) هزيمة المماليك فى معركتى مرج دابق والريدانية.

---

٤ (أ) ما النتائج التى ترتبت على ... ؟

(١) حادثة دنشواى ١٩٠٦م.

(٢) معاهدة ١٩٣٦م بالنسبة لمصر عسكريًا.

(٣) موقف الزعامة الشعبية من نقل السلطان العثمانى لمحمد على لولاية سالونيك.

(ب) «*كانت مصر ولا تزال مطمعًا للغزاة على مر العصور*» . فى ضوء العبارة السابقة، أجب :

(١) ماذا كان يحدث إذا : لم ينحاز محمد بك أبو الدهب للسلطان العثمانى ؟

(٢) انقد إنشاء الخديو إسماعيل للمحاكم المختلطة.

(٣) وضح موقف أحد أبطال مصر الذين تصدوا للغزاة فى معركة التل الكبير.

(جـ) دلل على صحة كل عبارة مما يأتى تاريخيًا :

(١) أيقظت الحملة الفرنسية الروح القومية لدى المصريين.

(٢) تحسنت أحوال الفلاحين والزراعة بمصر فى بداية النصف الثانى من القرن الـ ١٩م.



مجاب عنه

أجب عن الأسئلة الآتية:

أولا الجغرافيا

١ (أ) أمامك خريطة العالم، وضح ما تدل عليه الأرقام :

(١) هضبة .....

(٢) إقليم مناخى .....

(٣) سلالة بشرية .....

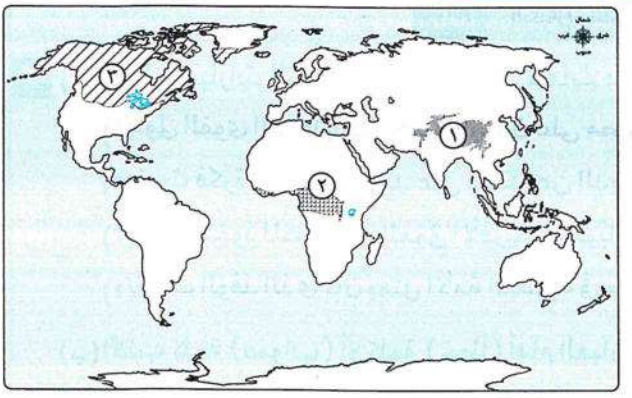

(ب) اختر الإجابة الصحيحة من بين البدائل التالية :

الجبال التى تقع فى أقصى الجنوب الشرقى لقارة أفريقيا هى .....

(أ) جبال أطلس. (ب) جبال البحر الأحمر. (جـ) جبال كلمنجارو. (د) جبال دراكنزبرج.

(جـ) اكتب كلمة (صواب) أو كلمة (خطأ) أمام العبارة الآتية ، مع ذكر السبب فى الحالتين :

تتميز قارة أوروبا بكثرة عدد الموانئ على سواحلها. ( )

(د) أجب عما يلى :

(١) قارن بين : جنوب غرب أستراليا، جنوب غرب أمريكا الجنوبية، من حيث :

* الإقليم المناخى الذى تنتمى إليه . * الخصائص النباتية.

(٢) ما العلاقة بين : ارتفاع السطح، والخصائص النباتية فى الإقليم المناخى الجبلى ؟

---

٢ (أ) حدد الأثر الناتج عن :

(١) اقتراب حافات الجبال والهضاب من سواحل البحار والمحيطات بقارة أفريقيا.

(٢) انصهار السلالات، واختلاط الصفات الطبيعية التى تميز كل سلالة عن الأخرى.

(٣) شدة البرودة بالمناطق الشمالية لقارة أوروبا فى فنلندا والنرويج.

(ب) دلل جغرافيًا على صحة كل عبارة من العبارات التالية :

(١) تجرى فى السهول الفيضية لقارة أوروبا العديد من الأنهار.

(٢) تتعدد الهضاب شرق جبال الإنديز بقارة أمريكا الجنوبية.

(٣) يلعب مستوى السكن والتغذية والخدمات الصحية العامة دورًا مؤثرًا فى معدل الوفيات فى العالم.

(جـ) ما المقصود بكل من ... ؟

(١) قوة العمل. (٢) الديموجرافيا.

(د) ما مقترحاتك لـ : علاج المشكلات المترتبة على الزيادة السكانية فى معظم دول قارة آسيا ؟

ثانيًا التاريخ

٣ (أ) اختر الإجابة الصحيحة من بين البدائل التالية :

(١) كانت أول معارك الفرنسيين ضد المماليك بعد دخولهم الإسكندرية هى .....

(أ) مرج دابق. (ب) الريدانية. (جـ) شبراخيت. (د) إمبابة.

(٢) ضمت الطبقة الوسطى فى المجتمع المصرى أثناء الحكم العثمانى .....

(أ) الفلاحين. (ب) رجال الدين. (جـ) المماليك. (د) الأتراك.

(٣) اهتم محمد على بالتصنيع الحربى فأنشأ ترسانة لصناعة الأسلحة والذخيرة فى .....

(أ) بولاق. (ب) القلعة. (جـ) الإسكندرية. (د) أسوان.

(٤) أنشأ محمد على عدة مجالس ودواوين منها مجلس .....

(أ) المشورة. (ب) الشيوخ. (جـ) الأمة. (د) النواب.

(ب) اكتب كلمة (صواب) أو كلمة (خطأ) أمام العبارة الآتية ، مع ذكر السبب فى الحالتين :

أدت سياسة الاحتلال البريطانى الاقتصادية إلى آثار سلبية على كل فئات المجتمع. ( )

(جـ) ما النتائج التى ترتبت على ... ؟

(١) استيلاء العثمانيين على إمارة ذى القادر المملوكية فى الشام.

(٢) معركة التل الكبير عام ١٨٨٢م.

---

٤ (أ) بم تفسر ... ؟

(١) جلاء الحملة الفرنسية عن مصر عام ١٨٠١م.

(٢) أهمية اجتماع زعماء الشعب فى دار المحكمة ١٣ مايو ١٨٠٥م.

(٣) يمثل عهد الخديو إسماعيل فترة من أزهى العهود وأخطرها.

(ب) أيد صحة العبارات التالية تاريخيًا :

(١) أسهم الأسطول الإنجليزى بقيادة نلسون بدور بارز فى فشل الحملة الفرنسية على مصر.

(٢) كانت المحصلة النهائية لحروب محمد على فى اليونان لصالح مصر.

(٣) زيادة التدخل الأجنبى فى مصر منذ بداية عهد توفيق.

(جـ) ***«إن قوة الدولة دائمًا ما تنبع من قوة قيادتها الرشيدة وقوتها العسكرية الحامية لها»***.

فى ضوء العبارة وضح :

(١) أوجه النقد لخلفاء محمد على فى الحكم والإدارة.

(٢) نتائج رفض الشعب المصرى التفاوض مع لجنة ملنر ومقاطعتها.



أجب عن الأسئلة الآتية:

أولاً الجغرافيا

١ (أ) أمامك خريطة لقارة أوروبا، وضح ما تدل عليه الأرقام التالية :

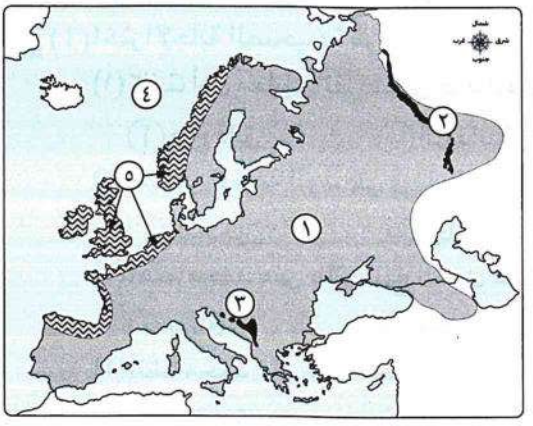

(١) مرتفعات الألب الدينارية يمثلها على الخريطة رقم .....

(٢) إقليم مناخ غرب أوروبا يمثله على الخريطة رقم .....

(٣) السلالة القوقازية يمثلها على الخريطة رقم .....

(ب) اختر الإجابة الصحيحة مما بين القوسين :

يتساوى معدل الوفيات فى قارتى .....

(أفريقيا وأوروبا – الأوقيانوسية وآسيا – أفريقيا وآسيا – أوروبا وأمريكا الشمالية)

(جـ) اكتب ما تشير إليه كل عبارة مما يأتى :

(١) قارة تقع بنصفى الكرة الأرضية الشرقى والغربى ويسودها إقليم مناخى واحد.

(٢) العامل المشترك فى تركز السكان فى بريطانيا وشمال شرق الولايات المتحدة الأمريكية.

(د) حدد أوجه الشبه بين :

(١) السهول الساحلية بشرق أستراليا، والسهول الساحلية بغرب أمريكا الجنوبية.

(٢) المناطق المناخية شمال شرق أمريكا الشمالية، والمناطق المناخية شمال شرق الصين.

---

٢ (أ) ما النتائج المترتبة على : ذوبان الجليد فى إقليم التندرا (بالنسبة للحياة النباتية)؟

(ب) بم تفسر : الجنوب الشرقى لأفريقيا أكثر عرضة لمخاطر المناخ من شمالها الغربى ؟

(جـ) ما العلاقة بين ... ؟

(١) زيادة عدد السكان فى دول قارة آسيا، ودول قارة أوروبا.

(٢) عادات وتقاليد الشعوب، ومعدل تعليم الإناث.

(د) أمامك شكلين يمثلان شعبين مختلفين، حدد اسم السلالة البشرية التى ينتمى لها كل منهما :



(هـ) ما تقييمك لمصداقية العبارة الآتية :
تسبب انحدار السطح فى قارة آسيا إلى فقدان الأهمية الاقتصادية للأنهار الشمالية ؟

(و) ما مقترحاتك لـ : حل المشكلات الناتجة عن زيادة السكان فى مصر (فى ضوء ما درست)؟

ثانيا التاريخ

٣ (أ) اختر الإجابة الصحيحة مما بين القوسين :
(١) تولى محمود سامى البارودى نظارة الجهادية للمرة الأولى فى وزارة .....
(راغب باشا - رياض باشا - نوبار باشا - شريف باشا)
(٢) فقدت دولة المماليك أهميتها كوسيط تجارى بسبب .....
(كثرة الفتن - الكشوف الجغرافية - اضطراب الأمن - معركة الريدانية)

(ب) أكمل ما يأتى بكلمة مناسبة :
(١) المدينة التى خرجت منها قوات الحملة الفرنسية على الشام .....
(٢) مدينة بالشام حاصرها نابليون حصارًا شديدًا ثم استسلمت .....

(جـ) فى عهد مَن مِن حكام مصر حدث الآتى ... ؟
(١) استيلاء السلطان العثمانى سليم الأول على إمارة ذى القادر.
(٢) تأسيس الترسانة الثانية لصناعة السفن.

(د) دلل تاريخيًا على صحة كل عبارة مما يأتى :
(١) تأثر وضع مصر السياسى بالصراع الاستعمارى الإنجليزى الفرنسى فى القرن الـ١٨م.
(٢) استخدم الشعب المصرى الحرب الاقتصادية عام ١٩٢١م ضد إنجلترا اعتراضًا على نفى زعمائه.

---

٤ (أ) حدد أوجه الاختلاف بين : عباس باشا الأول، والخديو إسماعيل فى المجال العسكرى.

(ب) ما النتائج التى ترتبت على : عدم التزام شركة قناة السويس بحيادية القناة أثناء الثورة العرابية ؟

(جـ) بم تفسر : أثرت علاقة الخديو إسماعيل بالسلطان العثمانى على الأزمة المالية فى مصر ؟

(د) ما العلاقة بين ... ؟
(١) الاحتلال البريطانى عام ١٨٨٢م، والحياة النيابية فى مصر.
(٢) اندلاع الحرب العالمية الثانية، وحادثة ٤ فبراير ١٩٤٢م.

(هـ) ما مدى مصداقية العبارة الآتية : أساءت الدولة العثمانية إلى الهوية الثقافية المصرية؟

(و) أيد بالأدلة التاريخية صحة العبارة الآتية :
كان للحملة الفرنسية آثار بعيدة المدى على علاقة مصر بأفريقيا.

مجاب عنه

أجب عن الأسئلة الآتية:

أولاً الجغرافيا

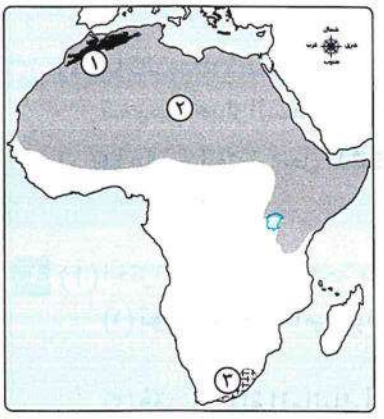

١ (أ) أمامك خريطة لقارة أفريقيا، اكتب مدلول الأرقام الموضحة عليها :

(١) جبـــــال .....

(٢) سلالة بشرية .....

(٣) إقليم منـاخى .....

(ب) استنتج أوجه الشبه بين :

(١) تضاريس أستراليا، وتضاريس أفريقيا.

(٢) الإقليم المدارى الحار (السودانى)، والإقليم الموسمى.

(٣) فئة صغار السن، وفئة كبار السن من السكان.

(جـ) أجب حسب المطلوب :

(١) «تتميز بعض قارات العالم القديم التى درستها بكثرة الجزر»، ما هى تلك القارات؟ اذكر مثال لتلك الجزر فى إحدى تلك القارات.

(٢) ماذا يحدث إذا : قامت قارة أفريقيا بالاستفادة من ثرواتها المعدنية والزراعية فى التصنيع ؟

---

٢ (أ) اكتب كلمة (صواب) أمام العبارة الصحيحة، وكلمة (خطأ) أمام العبارة غير الصحيحة، مع التصويب :

(١) يزداد عدد سكان أستراليا فى الداخل والغرب. ( )

(٢) تُعد هضبة بتاجونيا أصغر هضاب قارة أمريكا الجنوبية مساحة. ( )

(ب) بم تفسر... ؟

(١) أهمية هضبتى البحيرات الاستوائية والحبشة لمصر.

(٢) تسمية الغابات النفضية بهذا الاسم.

(٣) ارتفاع معدلات المواليد فى قارة أفريقيا بشكل كبير.

(جـ) (١) ما المقصود بـ : الهجرات غير الشرعية ؟

(٢) دلل : رغم انصهار السلالات البشرية ما زالت هناك بعض السلالات النقية فى الوقت الحاضر.

ثانيًا التاريـــخ

٣ (أ) اختر الإجابة الصحيحة مما بين القوسين :

(١) أصبح للفلاح المصرى الحق فى توريث الأرض الزراعية منذ عهد .....

(محمد على - عباس الأول - سعيد باشا - الخديو إسماعيل)

(٢) الطبقة الاجتماعية التى استفادت من سياسة الاحتلال البريطانى لمصر وارتبط نموها الاقتصادى ببقائه هى طبقة .....
(العمال - الفلاحين - المشايخ وعلماء الأزهر - كبار الملاك والأعيان)
(٣) تحولت العلاقة بين مصر وبريطانيا من علاقة احتلال إلى علاقة تحالف بعد .....
(تصريح ٢٨ فبراير ١٩٢٢م - معاهدة ١٩٣٦م - دستور ١٩٢٣م - دستور ١٩٣٠م)

(ب) ما النتائج التى ترتبت على ... ؟
(١) الانتقادات التى وجهتها الحركة الوطنية للوزارة المختلطة فى عهد الخديو إسماعيل.
(٢) اغتيال السير لى ستاك نوفمبر ١٩٢٤م. (٣) الاحتلال الإنجليزى لمصر بالنسبة للتعليم.

(جـ) (١) ما المقصود بـ : حق الانتفاع ؟
(٢) ما العلاقة بين : مذبحة يافا، وفشل الحملة الفرنسية على الشام ؟

---

٤ (أ) اكتب كلمة (صواب) أو كلمة (خطأ) أمام كل عبارة مما يأتى، مع التصويب :
(١) بلغت دولة المماليك أوج قوتها عسكريًا وازدهارها اقتصاديًا أواخر القرن الـ ١٥ م. ( )
(٢) أخفقت القوات الفرنسية فى إخضاع أهالى الصعيد. ( )

(ب) دلل على صحة ما يلى تاريخيًا :
(١) تعددت أساليب محمد على للتخلص من المماليك.
(٢) نجح محمد فريد بتأييد من الرأى العام فى إفشال مد امتياز قناة السويس.
(٣) تعددت الأسباب التى أدت إلى قيام الثورة العرابية.

(جـ) وضح ما يلى : (١) تضمن دستور ١٩٢٣م العديد من المزايا.
(٢) كان لحروب اليونان (١٨٢١م - ١٨٢٨ م) آثارًا سلبية وإيجابية على مصر.



١٧ محافظة المنيا

أجب عن الأسئلة الآتية: أولًا الجغرافيا



١ (أ) أمامك خريطة لقارة أمريكا الشمالية، اكتب مدلول الأرقام الموقعة على الخريطة :
(١) دائرة عرض .....
(٢) قـــــارة .....
(٣) إقليم مناخى .....

(ب) اختر الإجابة الصحيحة من بين البدائل التالية :

مناخ شمال سيبيريا يمتاز بـ.....

(أ) ليل طويل ونهار قصير. (ب) نهار طويل وليل قصير.

(جـ) شتاء قصير وصيف طويل. (د) شتاء طويل وصيف قصير.

(جـ) اكتب كلمة (صواب) أو كلمة (خطأ) أمام العبارة الآتية، مع ذكر السبب فى الحالتين :

تُعد دولة البرازيل أكبر دول قارة أمريكا الشمالية سكانًا. ( )

(د) ماذا يحدث إذا ...؟

(١) قامت أفريقيا بالاستفادة من ثرواتها المعدنية والزراعية فى التصنيع.

(٢) لم يستقر الإنسان فى بيئات مختلفة.

---

٢ (أ) بم تفسر ... ؟

(١) وجود بعض الزنوج قصار القامة فى المجتمعات البدائية.

(٢) وجود الموانئ فى قارة أوروبا. (٣) تقل الزيادة الطبيعية فى الدول المتقدمة.

(٤) تنمو الأشجار الموسمية فى شبه جزيرة الهند الصينية جنوب الصين.

(ب) وضح الأهمية الاستراتيجية لما يأتى : (١) مضيق باب المندب. (٢) بحر آرافورا.

(جـ) قارن بين : (١) سهل كلنشو، وسهول نهر الكنغو.

(٢) قوة العمل فى الدول المتقدمة، والدول النامية.

ثانيا التاريـــخ

٣ (أ) اختر الإجابة الصحيحة مما بين القوسين :

(١) أنشأ ..... المطبعة الأميرية وأصدر صحيفة الوقائع المصرية.

(محمد على - رفاعة الطهطاوى - على مبارك - إسماعيل)

(٢) عقد ممثلو الدول العظمى مؤتمر ..... فى يونيه ١٨٨٢ م للنظر فى المسألة المصرية.

(لندن - مونترو - الصلح - الآستانة)

(٣) كانت ..... تنظر فى الجرائم التى يرتكبها الرعايا الأجانب ضد المصريين وضد الحكومة المصرية نفسها.

(مجلس المشورة - الديوان العالى - المحاكم القنصلية - المحاكم المختلطة)

(٤) أغرق الأسطول الإنجليزى بقيادة ..... أسطول الحملة الفرنسية فى خليج أبى قير أغسطس ١٧٩٨م. (نلسون - فريزر - اللنبى - ونجت)

(ب) اكتب كلمة (صواب) أو كلمة (خطأ) أمام العبارة الآتية، مع ذكر السبب فى الحالتين :

ترك نابليون بونابرت قيادة الحملة لنائبه مينو وسافر سرًا لفرنسا. ( )

(جـ) قارن بين :

(١) أحوال الجيش المصرى فى عهد سعيد باشا، وعهد الخديو توفيق.

(٢) أسباب الحملة الفرنسية على مصر ١٧٩٨م، والحملة الإنجليزية على مصر ١٨٠٧م.

---

٤ (أ) ما النتائج التى ترتبت على ... ؟

(١) استقالة وزارة الشعب فى ٢٢ نوفمبر ١٩٢٤م.

(٢) معركة ديو البحرية ١٥٠٩م.

(٣) إرسال بريطانيا لجنة ملنر ديسمبر ١٩١٩م.

(ب) أيد بالأدلة التاريخية صحة كل عبارة من العبارات التالية :

(١) كانت التفرقة العنصرية واضحة فى المجتمع المصرى حيث عانى المصريون فى العصر العثمانى.

(٢) كان محمد على متفردًا فى حكمه من حيث الكفاءة والقوة والوعى لكن خلفاؤه لم يسيروا على نهجه.

(٣) امتد النفوذ المصرى للجنوب وأصبح لمصر إمبراطورية فى أفريقيا خلال الفترة ١٨٦٣م : ١٨٧٥م.

(جـ) ما العلاقة بين ...؟

(١) اندلاع الحرب العالمية الثانية ١٩٣٩م، وسياسة مصر الداخلية ١٩٤٢م.

(٢) رواج التجارة الخارجية لمصر، ووجود الحملة الفرنسية.

١٨ محافظة أسيوط

مجاب عنه

أجب عن الأسئلة الآتية:

١ (أ) بم تفسر ... ؟

(١) نجاح تجربة تجنيد المصريين فى عهد محمد على.

(٢) منح الدولة العثمانية الامتيازات الأجنبية لرعايا بعض الدول الأوروبية.

(٣) تعرض دولة المماليك لأزمات سياسية أواخر القرن الـ ١٥م.

(ب) ما النتائج التى ترتبت على ... ؟

(١) العزلة التى فرضها العثمانيون على مصر من الناحية الفكرية والثقافية.

(٢) السياسة الاقتصادية للاحتلال البريطانى فى مصر.

(٣) إقصاء الخديو إسماعيل للوزيرين الأجنبيين وإصدار لائحة لتسوية الديون فى أبريل ١٨٧٩م.

(جـ) *«أثبت الشعب المصرى خلال تاريخه المجيد دائمًا قدرته على تحقيق إرادته فى حكم البلاد ونهضتها»*. فى ضوء هذه العبارة وضح :

(١) ماذا كان يحدث إذا لم تحاصر الدبابات البريطانية قصر عابدين فى ٤ فبراير ١٩٤٢م.

(٢) جاءت شروط عقد الامتياز الثانى لحفر قناة السويس مجحفة لمصر والمصريين.

(اذكر اثنين من هذه الشروط)

٢ (أ) اختر الإجابة الصحيحة مما بين القوسين :

(١) واجه السلطان الغورى السلطان سليم الأول بعد الاستيلاء على إمارة ذى القادر فى .....
(مصر - الشام - تبريز - الحجاز)

(٢) المدينة التى تصدى أهلها بقيادة أحمد باشا الجزار للحملة الفرنسية .....
(العريش - يافا - غزة - عكا)

(٣) تحطم الأسطول المصرى ١٨٢٧م فى موقعة ..... (مرج دابق - إمبابة - الريدانية - نفارين)

(ب) أكمل ما يلى : تم إلغاء الامتيازات الأجنبية ١٩٣٧م فى مؤتمر .....

(جـ) اكتب كلمة (صواب) أو كلمة (خطأ) أمام العبارة الآتية، مع ذكر السبب فى الحالتين :

اتخذ الخديو توفيق سياسة أدت إلى الحد من التدخل الأجنبى فى شئون مصر. ( )

(د) أيد صحة كل عبارة مما يأتى :

(١) كان لأبناء الصعيد دورًا وطنيًا فى مقاومة الحملة الفرنسية.

(٢) تغير موقف محمد على من الزعامة الشعبية بعد تولية الحكم.

---

٣ (أ) أمامك خريطة لقارة أمريكا الشمالية، اكتب مدلول الأرقام الموقعة عليها :



(١) مسطح مائى .....

(٢) هضبة .....

(٣) سلالة بشرية .....

(ب) اكتب كلمة (صواب) أو كلمة (خطأ) أمام العبارة الآتية، مع ذكر السبب فى الحالتين :

يقل تركز السكان فى المناطق مرتفعة السطح بالدول المدارية فى قارة أفريقيا. ( )

(جـ) أكمل ما يلى : يفصل بحر آرافورا بين قارة أستراليا وجزر .....

(د) أيد صحة كل عبارة مما يأتى:

(١) يختلف مناخ إقليم البحر المتوسط عن إقليم المناخ الصينى رغم امتدادهما فى دوائر عرضية واحدة.

(٢) يوجد فى الوقت الحالى بعض السلالات النقية فى بعض المجتمعات البدائية.

---

٤ (أ) بم تفسر ... ؟

(١) تعرج سواحل قارة أوروبا أفضل من استقامتها.

(٢) انخفاض معدل تعليم الإناث فى بعض الدول.

(٣) ضيق السهول الساحلية المطلة على المحيط الهادى بالأمريكتين.

(ب) ما العلاقة بين ... ؟

(١) الدخل القومى، والنشاط الاقتصادى.

(٢) المناخ، وتوزيع السكان فى سيبيريا وفنلندا.

(٣) نهر النيل، وهضاب شرق ووسط أفريقيا.

(جـ) «*يختلف توزيع السكان من منطقة لأخرى وفقًا لخصائص طبيعية وبشرية*». فى ضوء العبارة :

(١) ما الآثار السلبية لارتفاع نسبة فئة صغار السن فى الدول النامية ؟

(٢) قارن بين : إقليم مناخ غرب أوروبا، وإقليم المناخ اللورانسى، من حيث :

الخصائص النباتية لكل منهما.

١٩ محافظة سوهاج

أجب عن الأسئلة الآتية:

١ (أ) أمامك خريطة للعالم، وضح مدلول الأرقام المدونة عليها :

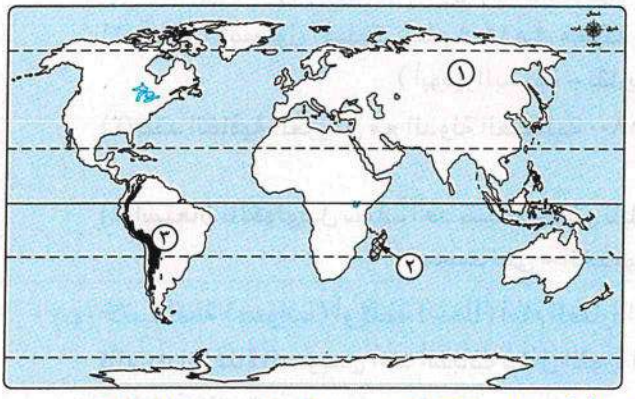

(١) جماعة بشرية .....

(٢) إقليم مناخى .....

(٣) جبال .....

(ب) اكتب كلمة (صواب) أو كلمة (خطأ) أمام العبارة الآتية، مع ذكر السبب فى الحالتين :

من أقسام السلالة القوقازية (البوشمن والهتنتوت). ( )

(جـ) اختر الإجابة الصحيحة مما بين القوسين :

(١) من الدول ذات الدخل الاقتصادى المرتفع دولة .....

(المكسيك - تركيا - الكويت - جنوب أفريقيا)

(٢) من أشجار الغابات النفضية ..... (جوز الهند - الزان - البلوط - الصفصاف)

(٣) تعتبر حشائش..... حديقة حيوان طبيعية.

(حشائش الإستبس - حشائش الساڤانا - الغابات النفضية - الغابات المخروطية)

(د) بم تفسر : اختلاف الإقليم المناخى الصينى عن إقليم مناخ البحر المتوسط مناخيًا على الرغم من وقوعهما على دوائر عرض واحدة ؟

٢ (أ) *«قاوم الشعب المصرى استبداد حكام أسرة محمد على والأطماع الخارجية بثورات متعددة».*

فى ضوء العبارة وضح :

(١) لماذا قام الشعب المصرى بثورة فى مارس ١٨٠٤م.

(٢) متى تخلت فرنسا عن مساندة الدور الوطنى للزعيم مصطفى كامل.

(ب) **بم تفسر ... ؟** (١) توقفت حركة النهضة فى عهد عباس باشا الأول (١٨٤٨م - ١٨٥٤م).

(٢) اهتزاز مكانة الأزهر العلمية خلال فترة الحكم العثمانى لمصر.

(٣) توقف حركة التجارة الخارجية لمصر خلال الحملة الفرنسية.

(٤) إرسال الخديو إسماعيل حملات حربية إلى الأقاليم الاستوائية.

(٥) حادثة قصر النيل منتصف يناير ١٨٨١م.

(٦) مقاطعة الشعب المصرى لجنة ملنر ١٩١٩م .

---

٣ (أ) **اختر الإجابة الصحيحة مما بين القوسين :**

(١) بدأت الأزمة المالية بمصر فى عهد .....

(عباس باشا الأول - محمد سعيد باشا - الخديو إسماعيل - الخديو توفيق)

(٢) تحطم الأسطول المملوكى عام ١٥٠٩ م فى معركة .....

(أبوقير البحرية - نفارين البحرية - ديو البحرية - أبوقير البرية)

(٣) عقد اتفاقية العريش مع الدولة العثمانية ١٨٠٠م القائد .....

(نلسون - مينو - نابليون - كليبر)

(٤) استعان بالكولونيل سيف أحد ضباط جيش نابليون للعمل فى المدارس العسكرية .....

(محمد على - الخديو توفيق - الخديو إسماعيل - سعيد باشا)

(ب) **اكتب كلمة (صواب) أو كلمة (خطأ) أمام العبارة الآتية، مع ذكر السبب فى الحالتين :**

كانت إدارة قناة السويس أحد أسباب فشل الثورة العرابية. ( )

(جـ) **ما النتائج التى ترتبت على ... ؟**

(١) معاهدة ١٩٣٦م بين مصر وبريطانيا. (٢) حروب اليونان ١٨٢١م - ١٨٢٨م.

---

٤ (أ) **ما المقصود بالمصطلحات الجغرافية الآتية ... ؟**

(١) الموقع الجغرافى. (٢) قوة العمل. (٣) الدول الجزرية.

(ب) **بم تفسر ... ؟** (١) تنوع الخصائص النباتية فى مناخ الإقليم الجبلى.

(٢) زيادة الموانئ فى أوروبا.

(٣) الدول العربية حاليًا ليسوا من سلالة واحدة.

(جـ) **ما النتائج المترتبة على ... ؟**

(١) قصر فصل الصيف وطول فصل الشتاء فى إقليم التندرا.

(٢) انتشار تجارة الرقيق (العبيد) فى أفريقيا فى الماضى.

أجب عن الأسئلة الآتية:

أولا الجغرافيا

١ (أ) أمامك خريطة للعالم اكتب مدلول الأرقام الموقعة عليها :

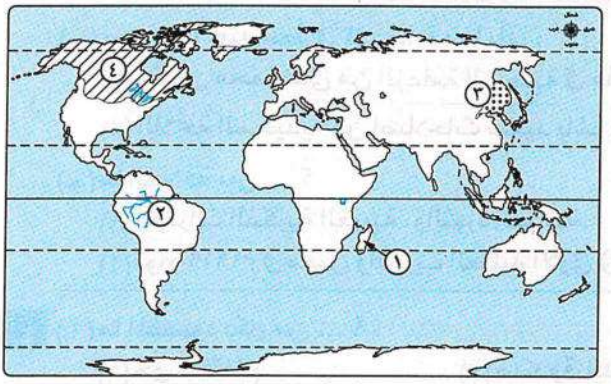

(١) جزيرة .....
(٢) نهر .....
(٣) إقليم مناخى .....
(٤) سلالة بشرية .....

(ب) اكتب كلمة (صواب) أمام العبارة الصحيحة وكلمة (خطأ) أمام العبارة غير الصحيحة، مع ذكر السبب فى الحالتين :

(١) أعلى جبال أمريكا الشمالية تقع فى الغرب. ( )
(٢) ارتفعت معدلات الوفيات فى مصر عام ٢٠١٤م. ( )

(جـ) ما الرابط بين: شمال سيبيريا، وشمال كندا فى الأقاليم المناخية ؟

(د) حدد وجه الشبه بين: إقليم المناخ المدارى الحار، وإقليم المناخ الموسمى.

---

٢ (أ) اكتب ما تشير إليه العبارات الآتية :

(١) سلالة بشرية ينتمى إليها معظم العرب.
(٢) انتقال أعداد من الأفارقة إلى أوروبا بوسائل غير قانونية.
(٣) أكبر مسطح مائى مغلق فى العالم. (٤) إقليم مناخى تهب عليه عواصف التيفون.

(ب) بم تفسر ... ؟ (١) تركز سكان أستراليا على سواحلها الشرقية.
(٢) اختلاف خصائص السكان الاقتصادية فى العالم.

(جـ) قارن بين : هضبة التبت، وهضبة الحبشة (إثيوبيا)، من حيث: * الموقع. * المميزات.

ثانيا التاريخ

٣ (أ) اختر الإجابة الصحيحة مما بين القوسين :

(١) تحولت مصر إلى ولاية عثمانية بعد معركة .....
(جالديران - مرج دابق - الريدانية - ديو البحرية)

(٢) استقالت وزارة سعد زغلول بسبب مطالب .....
(اللورد كرومر - السير ونجت - اللورد اللنبى - اللورد ملنر)

(٣) أول معارك المماليك ضد الحملة الفرنسية ١٧٩٨م كانت فى .....
(الإسكندرية - البحيرة - إمبابة - القاهرة)

(٤) أول دستور وضع فى مصر كان فى عهد .....
(عباس باشا - سعيد باشا - الخديو إسماعيل - الخديو توفيق)

(ب) صوب ما تحته خط فى كل عبارة مما يأتى :

(١) تخلص محمد على من الزعامة الشعبية فى مذبحة القلعة.

(٢) اللائحة السعيدية من إصلاحات سعيد باشا فى مجال النقل والمواصلات.

(جـ) ما العلاقة بين ... ؟

(١) المؤثرات الفكرية الغربية، والثورة العرابية.

(٢) ثورة ١٩١٩م فى مصر، والحرب العالمية الأولى (١٩١٤م - ١٩١٨م).

---

٤ (أ) ما المقصود بكل من ... ؟

(١) حق الانتفاع. (٢) صندوق الدين. (٣) احتلال.

(ب) ما النتائج التى ترتبت على ... ؟

(١) ثورة المصريين ضد الحملة الفرنسية فى أكتوبر ١٧٩٨م.

(٢) حروب محمد على فى الشام.

(٣) حادثة دنشواى فى مصر عام ١٩٠٦م.

(جـ) عبر برأيك عن : بطولات الجيش المصرى فى معركة التل الكبير ١٨٨٢م.

٢١ محافظة الأقصر

محافظة الأقصر

أجب عن الأسئلة الآتية: أولاً الجغرافيا

١ (أ) أمامك خريطة لقارة أفريقيا، اكتب ما تشير إليه الأرقام :

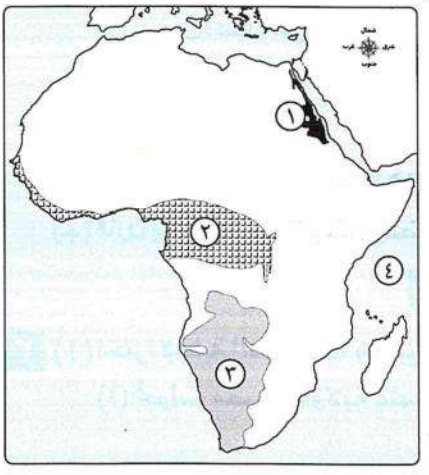

(١) ظاهرة تضاريسية تمتد فى ثلاث دول .....

(٢) إقليم مناخى يتميز بسقوط الأمطار طوال العام .....

(٣) منطقة يقل بها السكان .....

(٤) مسطح مائى .....

(ب) بم تفسر ... ؟

(١) قلة أهمية السهول الشمالية لقارة آسيا.

(٢) قلة معدلات الزيادة الطبيعية بالدول المتقدمة.

(٣) تركز السكان شرق وجنوب شرق أستراليا.

(جـ) اكتب ما تشير إليه كل عبارة من العبارات التالية :

(١) الأرض التى يجرى فيها النهر أو أحد روافده.

(٢) تُعد أكبر هضاب قارة أمريكا الجنوبية.

(٣) منطقة ذات دخل اقتصادى مرتفع اعتمادًا على مصادر الطاقة غير المتجددة.

---

٢ (أ) قارن بين : إقليم المناخ المعتدل البارد شرق القارات (اللورانسى)، وإقليم مناخ غرب أوروبا، من حيث : * الموقع الجغرافى. *الخصائص النباتية.

(ب) اختر الإجابة الصحيحة مما بين القوسين :

(١) تقع قارة أمريكا الشمالية بأكملها شرق المحيط .....

(الأطلنطى - الهندى - الهادى - القطبى الشمالى)

(٢) يتركز سكان دولة كندا فى مدينة ..... (واشنطن - نيويورك - مكسيكو - مونتريال)

(٣) ينتمى معظم العرب إلى .....

(السلالة المغولية - السلالة القوقازية - السلالة الزنجية - الإسكيمو)

(جـ) دلل على صحة كل عبارة من العبارات الآتية :

(١) يلعب ارتفاع السطح دورًا فى توزيع السكان بقارة أفريقيا.

(٢) يُطلق على قارة آسيا القارة الصفراء. (٣) ارتفاع نسبة الإعالة فى الدول النامية.

ثانيا التاريخ

٣ (أ) اختر الإجابة الصحيحة مما بين القوسين :

(١) أكثر المدن التى تأثرت سلبيًا من الناحية الاقتصادية ..... أثناء الحكم العثمانى.

(تبريز - القاهرة - الآستانة - دمشق)

(٢) ظهر الدور البارز للمصريين فى بناء الدولة الحديثة بمطلع القرن الـ ١٩م فى الجوانب .....

(الاقتصادية - الاجتماعية - السياسية - العلمية)

(٣) تم نفى زعماء الثورة العرابية إلى جزيرة ..... (مالطة - كريت - سيشل - سيلان)

(٤) كان التعليم فى عهد الاحتلال البريطانى على مصر مرتبط بـ.....

(الجيش - الإدارة - الاقتصاد - الحياة النيابية)

(ب) ما العلاقة بين كل من ... ؟

(١) الحركة الوطنية، واستقالة اللورد كرومر.

(٢) معاهدة لندن ١٨٤٠م، واستقلال مصر عن الدولة العثمانية.

(٣) سعيد باشا، وتحسين أحوال الفلاح المصرى.

(جـ) صوب ما تحته خط وأعد كتابة العبارة صحيحة :

(١) تحطم الأسطول المملوكى عام ١٥٠٩م فى معركة التل الكبير.

(٢) أخفقت الحملة الفرنسية فى السيطرة على الدلتا لأسباب جغرافية.

(٣) صدرت صحيفة اللواء فى عهد محمد على.

٤ (أ) بم تفسر ... ؟

(١) مجيء الحملة الفرنسية إلى مصر.

(٢) تعدد الأحزاب فى دستور ١٩٢٣م لم يحقق ثراء الحياة النيابية.

(٣) استقالة وزارة شريف باشا ١٨٨٢م.

(ب) اكتب ما تدل عليه كل عبارة مما يأتى :

(١) قاد حركة الكفاح الوطنى ضد الاحتلال والخديو فى وقت واحد.

(٢) وزير بريطانى حاول إقناع الشعب المصرى بقبول الحماية البريطانية.

(٣) كان سببًا لفشل الثورة العرابية لإصداره منشورًا ضد عرابى.

(٤) يُعد بداية لتاريخ المؤسسات النيابية فى مصر الحديثة.

(جـ) أثبت بالأدلة صحة كل عبارة مما يلى :

(١) دور بريطانيا فى إطالة أمد الحملة الفرنسية فى مصر.

(٢) تحسنت طرق الرى فى عهد محمد على.

(د) ما رأيك فى : إلغاء مصطفى النحاس معاهدة ١٩٣٦م ؟



٢٢ محافظة أسوان

أجب عن الأسئلة الآتية:

أولًا الجغرافيا

١ (أ) اكتب كلمة (صواب) أو كلمة (خطأ) أمام العبارة الآتية، مع ذكر السبب فى الحالتين :

تضيق السهول الساحلية شرق قارة أستراليا. ( )

(ب) أمامك خريطة لقارة أمريكا الشمالية، اكتب ما تدل عليه الأرقام فيما يلى :



(١) مسطح مائى .....

(٢) سلالة بشرية .....

(٣) إقليم مناخى .....

(جـ) وضح العلاقة بين الآتى :

(١) هضاب وسط وشرق أفريقيا، ونهر النيل.

(٢) المدن الكبرى، وتوزيع السكان فى كندا.

(د) اختر الإجابة الصحيحة مما بين القوسين :

من أمثلة الجزر فى قارة أفريقيا جزيرة ..... (مدغشقر - اليابان - الفلبين - تسمانيا)

٢ **(أ) اذكر نتيجة واحدة لكل مما يأتى :**

(١) دول شرق أوروبا أقل تقدمًا من دول غرب ووسط أوروبا.

(٢) اهتمام مصر بمحو الأمية، وتحقيق مبدأ تكافؤ الفرص.

(ب) حدد سببًا واحدًا لكل مما يأتى :

(١) ندرة السلالات النقية فى الوقت الحاضر. (٢) ارتفاع معدل المواليد فى قارة أفريقيا.

(جـ) *« للموقع والتضاريس دور واضح فى التأثير على المناخ، وتنوع الأقاليم المناخية والنباتية ».*

فى ضوء العبارة وضح :

(١) أوجه الشبه والاختلاف بين : الإقليم المدارى الحار، والإقليم الموسمى، من حيث الخصائص النباتية.

(٢) ماذا كان يحدث إذا : كان موقع مصر عند الدائرة القطبية الشمالية.

(د) أمامك رسم بيانى يوضح نصيب الفرد من الدخل القومى، استعن به، ثم أجب عما يأتى :

(١) وضح أسباب ارتفاع نصيب الفرد من الدخل فى دول غرب أوروبا.

(٢) ما مقترحاتك لتصبح دول قارة أفريقيا من الدول المتقدمة ؟

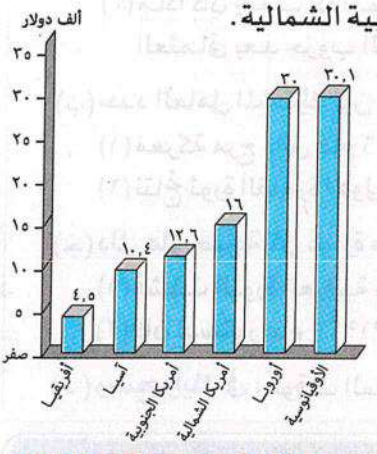

رسم بيانى يوضح نصيب الفرد من الدخل القومى السنوى فى قارات العالم عام ٢٠١٤م

ثانيًا التاريخ

٣ **(أ) اكتب كلمة (صواب) أو كلمة (خطأ) أمام العبارة الآتية، مع ذكر السبب فى الحالتين :**

تدهورت أوضاع التعليم فى مصر خلال عهد الاحتلال البريطانى. ( )

(ب) اختر الإجابة الصحيحة مما بين القوسين :

(١) واجهت الحملة الفرنسية مقاومة شديدة منذ وصولها مصر بدأت على يد .....

(المصريين - المماليك - العثمانيين - الإنجليز)

(٢) أسس الخديو إسماعيل أول هيئة برلمانية نيابية عام ١٨٦٦م باسم .....

(مجلس المشورة - الجمعية العمومية - مجلس شورى النواب - مجلس شورى القوانين)

(٣) تم إلغاء دستور عام ١٩٢٣م على يد رئيس الوزراء ..... عام ١٩٣٠م.

(عبدالخالق ثروت - سعد زغلول - مصطفى النحاس - إسماعيل صدقى)

(ج) وضح الأثر الناتج عن كل حدث مما يأتى : (يكتفى بنقطتين)

(١) اكتشاف طريق رأس الرجاء الصالح عام ١٤٩٨م على دولة المماليك.

(٢) ضم محمد على السودان عام ١٨٢٠م : ١٨٢٢م.

(د) فى عهد مَنْ من حكام مصر حدث الآتى : جعل مدة الخدمة العسكرية سنة واحدة، إجبارية للجميع، وفتح باب الترقى أمام الضباط المصريين ؟

---

٤ (أ) «نجح محمد على فى تحقيق نهضة شاملة فى مصر، رغم الصعوبات التى واجهته فى بداية حكمه».

فى ضوء العبارة، وضح :

(١) أسباب قيام محمد على بالتخلص من المماليك عام ١٨١١م.

(٢) ما المقصود بـ : فرمان.

(٣) ماذا كان يحدث إذا : لم تتدخل الدول الأوروبية فى الصراع بين محمد على والسلطان العثمانى بعد حروب الشام.

(ب) حدد العامل المشترك بين كل من :

(١) معركة مرج دابق عام ١٥١٦م، ومعركة الريدانية عام ١٥١٧م.

(٢) نتائج ثورة القاهرة الأولى عام ١٧٩٨م، ونتائج ثورة القاهرة الثانية عام ١٨٠٠م.

(ج) دلل على صحة كل عبارة مما يأتى تاريخيًا : (يكتفى بنقطتين لكل سؤال)

(١) فشلت الثورة العرابية رغم صدق أهدافها.

(٢) كان لدستور عام ١٩٢٣م بعض المميزات.

(د) وضح رأيك فى : موقف السلطان العثمانى قبل معركة التل الكبير عام ١٨٨٢م.

٢٣ محافظة الوادى الجديد



أجب عن الأسئلة الآتية:

١ (أ) أكمل العبارات التالية بكلمات مناسبة :

(١) انتصر سليم الأول على المماليك فى الشام عام ١٥١٦م فى معركة .....

(٢) دخل الفرنسيون القاهرة بعد أن هزموا المماليك فى معركة .....

(٣) تخلص محمد على من عمر مكرم عام ١٨٠٩م بنفيه إلى .....

(٤) عرضت الحكومة المصرية قضية مصر عام ١٩٤٧م على .....

(ب) هل العبارة الآتية صحيحة أم خطأ ؟ مع ذكر السبب :

عانى المجتمع المصرى خلال الحكم العثمانى.

(ج) إلى من تنسب الأعمال الآتية ... ؟

(١) أرسل حملات إلى الأقاليم الاستوائية للقضاء على تجارة الرقيق.

(٢) قاد حملة من إنجلترا على مصر لتعيين محمد بك الألفى واليًا على مصر بدلًا من محمد على.
(٣) استطاع تدمير الأسطول الفرنسى فى معركة أبى قير البحرية عام ١٧٩٨م.
(٤) قدم استقالته من الحكومة بعد إنذار إنجلترا عقب اغتيال السير لى ستاك حاكم السودان.

٢ (أ) اكتب ما تشير إليه الأرقام الآتية:

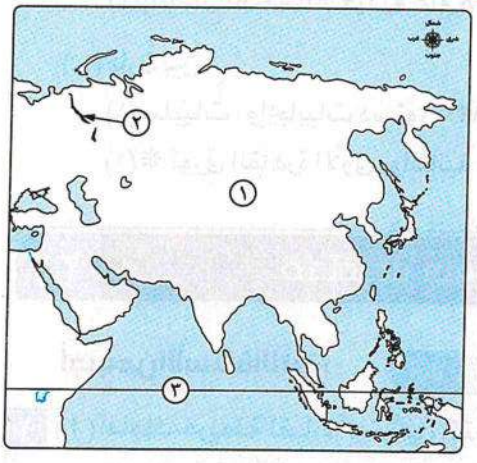

(١) اسم القارة التى أمامك فى الخريطة .....
(٢) جبال .....
(٣) دائرة عرض رئيسية .....

(ب) إلى أى القارات ينتمى كل من ... ؟

(١) جزيرة مدغشقر.
(٢) دولة البرازيل.
(٣) جزيرة صقلية.

(جـ) بم تفسر ... ؟

(١) تعتبر حشائش السافانا حديقة حيوان طبيعية.
(٢) ارتفاع معدلات المواليد فى قارة أفريقيا.

٣ (أ) ما العلاقة بين ... ؟ (١) التضاريس، وتوزيع السكان.
(٢) المستوى الاقتصادى، وتوزيع السكان فى أوروبا.

(ب) ما النتائج المترتبة على ... ؟

(١) جهود مصر فى مجالات محو الأمية والاهتمام بالتعليم.
(٢) انخفاض الحرارة شمال قارتى آسيا وأوروبا.
(٣) انتشار الأمية والفقر فى قارة أفريقيا.

(جـ) اختر الإجابة الصحيحة مما بين القوسين :

(١) تصب أنهار سيبيريا فى المحيط ..... (الهادى - الهندى - الأطلنطى - القطبى الشمالى)
(٢) تعتبر أكثر السلالات انتشارًا فى العالم .....
(السلالة القوقازية - السلالة المغولية - السلالة الزنجية - المجموعة الألبية)
(٣) تقع سواحل المغرب العربى ضمن إقليم .....
(المناخ اللورانسى - المناخ المدارى الحار - مناخ البحر المتوسط - المناخ الصينى)

٤ (أ) بم تفسر ... ؟ (١) يمثل يوم ٢٥ يناير من كل عام عيدًا للشرطة المصرية.
(٢) * استقالة وزارة شريف باشا.
(٣) مساوئ المحاكم القنصلية.

(ب) ما النتائج التى ترتبت على ... ؟

(١) نفى سعد زغلول إلى جزيرة مالطة عام ١٩١٩م.

(٢) هزيمة الإنجليز فى كفر الدوار.

(٣) إصدار اللائحة السعيدية عام ١٨٥٨م.

(جـ) قارن بين :

(١) سلبيات، وإيجابيات دستور ١٩٢٣م.

(٢) * ثورتى القاهرة الأولى، والثانية، من حيث : * المركز. * النتائج.

٢٤ محافظة جنوب سيناء

أجب عن الأسئلة الآتية:

أولاً الجغرافيا

١ (أ) أمامك خريطة لقارة أستراليا، اكتب ما تدل عليه الأرقام الموضحة عليها :

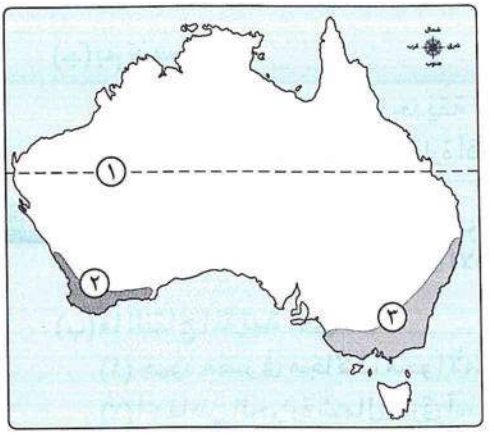

(١) دائرة عرض رئيسية .....

(٢) إقليم مناخى.....

(٣) سلالة بشرية .....

(ب) قارن بين كل من :

السهول الفيضية فى قارة أوروبا، والسهول الفيضية فى قارة أمريكا الشمالية، من حيث :

* الامتداد . * أهم الأنهار.

(جـ) (١) دلل على صحة العبارة التالية : رغم تنوع واختلاط السلالات البشرية فى قارة أمريكا الشمالية إلا أنها لم تخلُ من السلالات النقية.

(٢) ما مقترحاتك لـ : الحد من ارتفاع معدل المواليد فى قارة أفريقيا ؟

---

٢ (أ) (١) اختر الإجابة الصحيحة مما بين القوسين :

يفصل قارة آسيا عن قارة أوروبا جبال .....

(أورال - طوروس - الألب الدينارية - البرانس)

(٢) اكتب كلمة (صواب) أو كلمة (خطأ) أمام العبارة الآتية، مع ذكر السبب فى الحالتين :

ارتبطت الحياة الحيوانية بالحياة النباتية فى الإقليم الاستوائى وشبه الاستوائى. ( )

(ب)(١) ما المقصود بـ: علم الديموجرافيا ؟
(٢) بم تفسر: اختلاف المناخ داخل القارة الواحدة ؟
(٣) ما العلاقة بين: عدد الأطباء، ومستوى الرعاية الصحية فى دولة ما ؟

(جـ)(١) أثبت صحة العبارة الآتية: تختلف الخصائص المناخية لإقليم مناخ البحر المتوسط عن الإقليم المناخى المعتدل شرق القارات رغم وقوعهما فى نفس العروض.
(٢) ما النتائج المترتبة على: زيادة أعداد السكان فى معظم دول قارة آسيا ؟

ثانيا التاريخ

٣ (أ) اختر الإجابة الصحيحة مما بين القوسين:

(١) تقع على الحدود بين الدولة المملوكية والدولة العثمانية إمارة .....
(مرج دابق - ذى القادر - دمشق - تبريز)

(٢) انطلقت الحملة البحرية العثمانية لإخراج الفرنسيين من مصر من جزيرة .....
(سردينيا - صقلية - رودس - مالطة)

(٣) كان لسياسة محمد على الاقتصادية أثرها السلبى على طبقة .....
(عمال الصناعة - البدو - طوائف الحرف - التجار)

(ب) أيد صحة كل عبارة من العبارات التالية:

(١) انتصرت إرادة الزعامة الشعبية على إرادة السلطان العثمانى ١٨٠٦م.
(٢) يُعد عصر الخديو إسماعيل بداية الإصلاح النيابى فى مصر.
(٣) فرضت بريطانيا على مصر سياسة اقتصادية تخدم مصالحها.

(جـ) اكتب الأدلة على مصداقية كل عبارة مما يأتى:

(١) ارتبطت حروب الشام الأولى والثانية بنتائج حرب المورة.
(٢) تشابه موقف مؤتمر الصلح فى باريس عام ١٩١٩م مع موقف مجلس الأمن ١٩٤٧م من القضية المصرية.

---

٤ (أ) اكتب كلمة (صواب) أو كلمة (خطأ) أمام كل عبارة مما يأتى، مع تصويب الخطأ:

(١) كان احتلال بريطانيا لمصر مخالفًا لقرارات مؤتمر الآستانة. ( )
(٢) أُعيدت وزارة الخارجية المصرية بناءً على دستور ١٩٢٣م. ( )

(ب)(١) بم تفسر: تدهور التجارة الخارجية لمصر فى العصر العثمانى ؟
(٢) ماذا كان يحدث إذا: عطّل عرابى الملاحة فى قناة السويس ؟
(٣) دلل على صحة العبارة الآتية: لم يخلُ عهد عباس الأول من بعض الجوانب الإيجابية.

(جـ)(١) ما النتائج التى ترتبت على: حصار الأسطول الإنجليزى لشواطئ مصر الشمالية ١٧٩٨م ؟
(٢) ما العلاقة بين: موقف محمد على من ثورة الشعب المصرى ١٨٠٤م، وتوليته حكم مصر ؟



٢٥ محافظة شمال سيناء

أجب عن الأسئلة الآتية:

أولًا الجغرافيا

١ (أ) أمامك خريطة للعالم، اكتب مدلول الأرقام التى عليها :

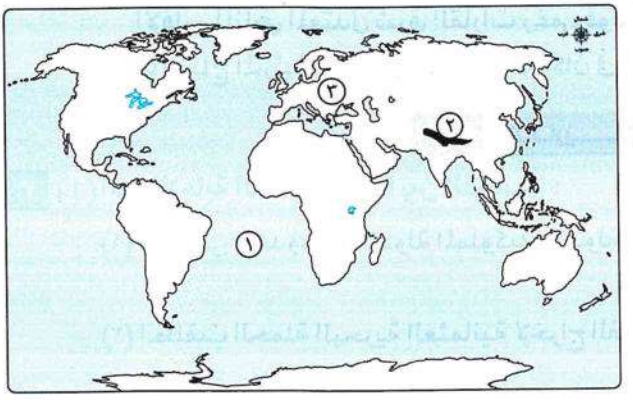

(١) المحيط .....

(٢) جبال .....

(٣) قارة .....

(ب) بم تفسر ... ؟

(١) أهمية هضبة الحبشة « إثيوبيا » لمصر.

(٢) تركز السكان فى هضبة البرازيل وعلى سواحلها.

(٣) تتعدد خصائص السهول الفيضية وسط أمريكا الشمالية.

(جـ) ما المقصود بالمصطلحات الجغرافية التالية ... ؟

(١) سلالة بشرية. (٢) الزيادة الطبيعية. (٣) الدول الجزرية.

(د) اقترح حلًا لـ : مشكلة الهجرة غير الشرعية.

---

٢ (أ) قارن بين : سهول سيبيريا، وسهول وادى النيل، من حيث :

* القارة المنتمين إليها. * توزيع السكان.

(ب) أكمل العبارات الآتية بكلمات مناسبة :

(١) القارة القطبية الجنوبية هى قارة ..... بالسكان.

(٢) نهر الفولجا أطول أنهار أوروبا ويصب فى بحر.....

(٣) يتميز إقليم المناخ ..... بارتفاع درجة الحرارة وسقوط أمطار طوال العام.

(جـ) وضح مصداقية كل عبارة من العبارات التالية :

(١) تعتبر حشائش الساڤانا حديقة حيوان طبيعية.

(٢) نحن العرب حاليًا لسنا من سلالة واحدة.

(٣) دول الخليج العربى دول ذات دخل اقتصادى مرتفع.

٣ (أ) ما النتائج التى ترتبت على ... ؟

(١) حادثة قصر النيل فى منتصف يناير ١٨٨١م.

(٢) اجتماع زعماء الشعب المصرى بدار الحكمة فى مايو ١٨٠٥م.

(٣) إغلاق معظم المدارس والمصانع فى عهد عباس باشا.

(ب) اكتب كلمة (صواب) أو كلمة (خطأ) أمام العبارة الآتية، مع ذكر السبب فى الحالتين :

أول مقاومة للحملة الفرنسية عند نزولها مصر قام بها المصريين. ( )

(جـ) دلل تاريخيًا على صحة العبارات الآتية :

(١) المماليك أنفسهم سببًا فى إضعاف قوتهم العسكرية.

(٢) أكدت ثورة ١٩١٩م على الوحدة الوطنية بين أبناء الأمة المصرية.

(٣) دور مصطفى كامل فى مواجهة الاحتلال البريطانى.

(د) ضع خطًا تحت الإجابة الصحيحة مما بين القوسين :

(١) اتسمت الحياة الفكرية والثقافية فى مصر أثناء عصر ..... بالجمود والتخلف.

(المماليك - الفرنسيين - العثمانيين - البريطانيين)

(٢) فى وزارة محمود سامى البارودى أسندت وزارتا الجهادية والبحرية إلى .....

(سعد زغلول - محمد فريد - أحمد عرابى - مصطفى النحاس)

---

٤ (أ) ماذا كان يحدث إذا ... ؟

(١) التزمت الزعامة الشعبية بفرمان يوليو ١٨٠٦م.

(٢) انتصر طومان باى على العثمانيين فى معركة الريدانية ١٥١٧م.

(٣) لم يتمكن محمد على من ضم السودان.

(ب) وضح سببًا واحدًا لكل مما يأتى :

(١) فشل الحملة الفرنسية فى إخضاع أهل الصعيد.

(٢) أصبح للفلاح المصرى الحق فى توريث الأرض الزراعية.

(٣) حملات الخديو إسماعيل إلى الأقاليم الاستوائية فى أفريقيا.

(جـ) صوب ما تحته خط :

(١) تولى مينو قيادة الحملة الفرنسية خلفًا لنابليون.

(٢) شكل سعيد باشا فى يونيه ١٩٣٠م وزارة جديدة قامت بإلغاء دستور ١٩٢٣م.

(د) حدد العلاقة بين : قناة السويس، والأزمة المالية فى عصر الخديو إسماعيل.



٢٦ محافظة البحر الأحمر

أجب عن الأسئلة الآتية:

أولاً الجغرافيا

١ (أ) أمامك خريطة للعالم، اكتب فى كراسة إجابتك مدلول الأرقام الموضحة عليها :

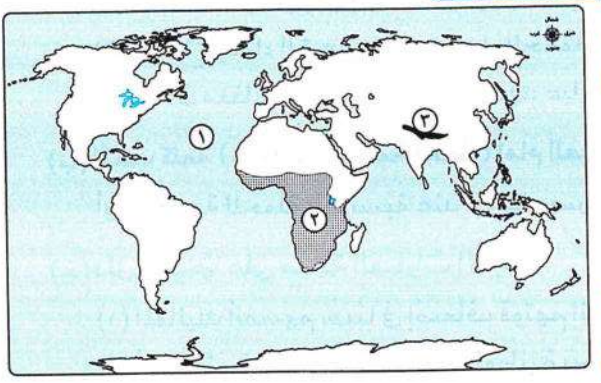

(١) مسطح مائى .....

(٢) سلالة بشرية .....

(٣) جبال .....

(ب) اكتب كلمة (صواب) أو كلمة (خطأ) أمام العبارة التالية، مع ذكر السبب فى الحالتين:

دول الخليج العربى من الدول ذات الدخل الاقتصادى المرتفع. ( )

(جـ) اختر الإجابة الصحيحة مما بين القوسين :

تعتبر من الهضاب ذات الأهمية لمصر هضبة .....

(التبت - الميزيتا - الحبشة - شبه الجزيرة العربية)

(د) ما المقصود بكل مصطلح جغرافى مما يأتى ...؟ (١) الديموجرافيا. (٢) الدول الجزرية.

(هـ) قارن بين: الإقليم المناخى الاستوائى وشبه الاستوائى، وإقليم مناخ البحر المتوسط، من حيث: الخصائص المناخية.

---

٢ (أ) بم تفسر ... ؟

(١) ضيق السهول الساحلية فى شرق قارة أستراليا.

(٢) وجود عدد كبير من الزنوج فى الأمريكتين.

(٣) ارتفاع معدل الوفيات فى قارة أوروبا رغم تقدمها فى الرعاية الصحية.

(٤) تسمية الغابات النفضية بهذا الاسم.

(٥) قلة عدد السكان فى المناطق الاستوائية بقارة أمريكا الجنوبية.

(ب) حدد : العوامل المؤثرة فى مناخ العالم.

(جـ) ما الأثر الناتج عن ... ؟

(١) ارتفاع نسبة صغار السن فى الدول النامية.

(٢) كثرة تعاريج السواحل والجزر فى قارة أوروبا.

(٣) امتداد القارة القطبية الجنوبية أقصى جنوب الكرة الأرضية.

(٤) زيادة عدد السكان فى قارة آسيا.

٣ (أ) اختر الإجابة الصحيحة مما بين القوسين :

(١) أصدر الخديو إسماعيل مرسومًا بإنشائه فى مايو ١٨٧٦م وهو بمثابة خزانة فرعية للخزانة المصرية .....
(لجنة التحقيق العليا الأوروبية - صندوق الدين - الوزارة المختلطة - بعثة كيف)

(٢) تضمنت شروط الامتياز الثانى لحفر قناة السويس حفر ترعة .....
(الإبراهيمية - النوبارية - الإسماعيلية - المحمودية)

(٣) ضمت الطبقة الوسطى فى مصر أثناء الحكم العثمانى .....
(رجال الدين - المماليك - الفلاحين - صغار الحرفيين)

(٤) حدث فراغ سياسى فى حكم مصر أثناء الحملة الفرنسية بعد معركة .....
(شبراخيت - أبى قير البحرية - إمبابة - أبى قير البرية)

(ب) اكتب كلمة (صواب) أو كلمة (خطأ) أمام العبارة التالية، مع ذكر السبب فى الحالتين :

بعد الاحتلال البريطانى لمصر أصبحت السلطة الفعلية فى يد الخديو. ( )

(جـ) *«أثبت الشعب المصرى خلال تاريخه المجيد دائمًا قدرته على تحقيق إرادته فى حكم البلاد»*.

فى ضوء هذه العبارة، أجب عما يلى :

(١) ما موقف الشعب المصرى من إرسال الحكومة البريطانية لجنة ملنر إلى مصر لإقناعه بقبول الحماية البريطانية ؟

(٢) ما الأثر الناتج عن : استغلال مصطفى كامل لحادثة دنشواى ١٩٠٦م للتنديد بالاحتلال البريطانى ؟

(٣) ما رأيك فى : إرسال أمهر الصُناع المصريين إلى الآستانة أثناء الحكم العثمانى ؟

(٤) حدد العلاقة بين : الحملة الفرنسية، وتاريخ مصر القديم.

---

٤ (أ) بم تفسر ... ؟

(١) تخلص محمد على من المماليك.

(٢) إنشاء الخديو إسماعيل للمحاكم المختلطة عام ١٨٧٥م.

(٣) أثرت الحملة الفرنسية فى نمو الروح القومية للشعب المصرى.

(٤) تدخل الدول الأوروبية أمام ازدياد نفوذ محمد على.

(٥) مظاهرة عابدين ٩ سبتمبر ١٨٨١م.

(٦) انتعاش الصناعة فى عهد الخديو إسماعيل.

(ب) اذكر عملًا واحدًا قام به كل من : (١) الرئيس الأمريكى ولسن. (٢) سليمان الحلبى.

(جـ) دلل تاريخيًا على صحة كل عبارة مما يلى :

(١) اهتمام محمد على بالتصنيع الحربى.

(٢) شهد ميدان القتال خلال معركة التل الكبير بطولات مصرية خالدة.

أجب عن الأسئلة الآتية:

أولاً الجغرافيا

١ (أ) أمامك خريطة لقارة آسيا،
اكتب ما تدل عليه الأرقام :

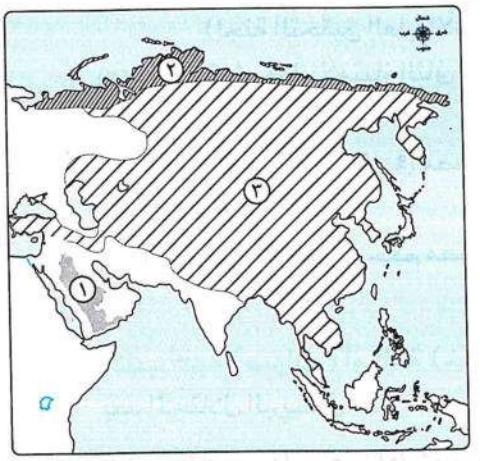

(١) هضبة .....

(٢) إقليم مناخى .....

(٣) سلالة بشرية .....

(ب) اختر الإجابة الصحيحة من بين القوسين :
تخلو قارتا أفريقيا وأستراليا من أشجار .....
(الزان - البلوط - المطاط - جوز الهند)

(جـ) اكتب كلمة (صواب) أمام العبارة الصحيحة أو كلمة (خطأ) أمام العبارة غير الصحيحة، مع ذكر السبب فى الحالتين:

(١) يعتبر أكبر بحر مغلق فى العالم هو بحر المانش. ( )

(٢) تقع قارة أمريكا الجنوبية شرق المحيط الأطلنطى. ( )

(د) بم تفسر ... ؟

(١) تختلف خصائص السهول الفيضية فى الأطراف الشمالية لقارة أمريكا الشمالية عن جنوبها.

(٢) تهجير عدد كبير من زنوج أفريقيا إلى الأمريكتين.

---

٢ (أ) صنف الظواهر الآتية حسب طبيعتها الجغرافية ثم انسبها للقارة الموجودة بها :

الظاهرة	الطبيعة الجغرافية	القارة
مدغشقر	..... (١)	..... (٢) .....
الدكن	..... (٣)	..... (٤) .....
الراين	..... (٥)	..... (٦) .....

(ب) أجب عما يأتى :

(١) أى من المناطق الآتية يتركز فيها السكان ... ؟ مع ذكر السبب.

(١) المناطق الاستوائية. (٢) سيبيريا. (٣) سيدنى. (٤) دول البرزخ.

(٢) أكمل : العلم الذى يهتم بدراسة نمو وتوزيع وتركيب السكان هو علم .....
(٣) حدد : دولة أفريقية ذات رعاية طبية مرتفعة.

(جـ) دلل على صحة كل عبارة مما يأتى :
(١) يرتبط توزيع السكان فى قارة أوروبا بالتقدم الحضارى.
(٢) يؤثر مستوى الخدمات الصحية على معدلات الوفيات فى العالم.

ثانيا التاريـــخ

٣ (أ) اختر الإجابة الصحيحة مما بين القوسين :
(١) تحطم الأسطول المملوكى عام ١٥٠٩م فى معركة .....
(الريدانية - مرج دابق - ديو البحرية - جالديران)
(٢) لإخراج الفرنسيين من مصر تحالفت الدولة العثمانية عام ١٧٩٩م مع إنجلترا و .....
(روسيا - ألمانيا - النمسا - إيطاليا)
(٣) دعا الزعيم مصطفى كامل عام ١٨٩٩م إلى رفض اتفاقية الحكم الثنائى فى .....
(السودان - ليبيا - الجزائر - مراكش)
(٤) تم نفى سعد زغلول للمرة الثانية إلى جزيرة ..... (قبرص - مالطة - صقلية - سيشل)

(ب) اكتب كلمة (صواب) أمام العبارة الصحيحة أو كلمة (خطأ) أمام العبارة غير الصحيحة، مع ذكر السبب فى الحالتين:
(١) أبحرت الحملة الفرنسية سرًا نحو مصر من ميناء مرسيليا. ( )
(٢) أصبح لمصر مكانة عالية دوليًا بعد حروب محمد على فى الشام. ( )

(جـ) وضح العلاقة بين كل من : (١) حملة فريزر عام ١٨٠٧م، والمماليك.
(٢) شركة قناة السويس، وفشل الثورة العرابية.

---

٤ (أ) فى عهد أى من حكام مصر حدث ما يلى ... ؟
(١) تخفيض حجم الجيش وعطلت أعمال الترسانة البحرية.
(٢) إعادة نظام المراقبة الثنائية.
(٣) حاصرت الدبابات البريطانية قصر عابدين فى ٤ فبراير ١٩٤٢م .

(ب) اكتب ما تشير إليه كل عبارة من العبارات الآتية :
(١) إمارة مملوكية بادر العثمانيون بالاستيلاء عليها عام ١٥١٦م.
(٢) نظام اتبعه محمد على فى الاقتصاد المصرى للدخول فى سوق التجارة الدولية.
(٣) منظمة دولية انضمت مصر إلى عضويتها بعد معاهدة عام ١٩٣٦م.

(جـ) حدد كل عبارة مما يأتى (صادقة أو غير صادقة) مع ذكر السبب :
(١) تشابهت سياسة نابليون وكليبر تجاه المصريين.
(٢) كان لاغتيال "السير لى ستاك" عام ١٩٢٤م آثار سلبية على وزارة الشعب.

إجابـــات
أسئلة كتاب الشرح



أولًا الجغرافيا

الوحدة 1

الدرس الأول

تدريب ١

١ (١) أوروبا. (٢) المحيط الهادى.
(٣) البحر الأحمر. (٤) المحيط الهندى.
(٥) جبل طارق.

٢ (١) أفريقيا. (٢) القطبى الشمالى.
(٣) شبه جزيرة سيناء. (٤) شرق.

٣ (١) ، (٣) قارة آسيا. (٢) قارة أفريقيا.
(٤) قارة أوروبا.

٤ بسبب تعرج السواحل وكثرة الجزر بقارة أوروبا.

٥ حيث يوجد بها الكثير من الجزر القريبة من سواحلها مثل: جزر اليابان والفلبين.

٦ **يتمثل وجه الشبه فى أن كل منهما :**
- يطلان من جهة الغرب على المحيط الأطلنطى.
- يشرفان على البحر المتوسط.

تدريب ٢

١ (١) خليج المكسيك. (٢) الشمال.
(٣) الهادى. (٤) الشمالية.
(٥) أستراليا. (٦) أمريكا الجنوبية.

٢ (١) **خطأ** : ... المحيط القطبى الشمالى ...
(٢) : (٤) **صواب.** (٥) **خطأ** : ... وأمريكا الجنوبية.
(٦) **صواب.**

٣ حيث يحد قارة أستراليا المياه من جميع الاتجاهات ففى جهة :
- الشمال بحر آرافورا.
- الشرق المحيط الهادى.
- الجنوب والغرب المحيط الهندى.

٤ لأنها قارة متجمدة تقع أقصى جنوب الكرة الأرضية حول القطب الجنوبى ٩٠° جنوبًا.

أسئلة على الدرس الأول

١

(أ) (١) الاستواء. (٢) القطبى الشمالى.
(٣) الهندى . (٤) قزوين.
(٥) البنغال . (٦) بيرنج.
(٧) الفلبين . (٨) العربية.
(٩) اليابان. (١٠) أورال.
(١١) الملايو . (١٢) أفريقيا.

(ب) (١) الجدى. (٢) الأطلنطى.
(٣) الأحمر. (٤) المتوسط.
(٥) غينيا. (٦) جبل طارق.
(٧) باب المندب. (٨) موزمبيق.
(٩) مدغشقر. (١٠) القمر.
(١١) آسيا.

(جـ) (١) البحر الأسود.
(٢) الدائرة القطبية الشمالية.
(٣) ⑤ (٤) الأطلنطى.
(٥) ③ (٦) ②

(د) (١) السرطان. (٢) القطبى الشمالى.
(٣) الهادى. (٤) الأطلنطى.
(٥) المكسيك. (٦) بيرنج.
(٧) آسيا.

(هـ) (١) الاستواء. (٢) الجدى.
(٣) الأطلنطى. (٤) الهادى.
(٥) الكاريبى. (٦) ماجلان.

(و) (١) آرافورا. (٢) ⑤
(٣) ② (٤) ⑧
(٥) ⑥ (٦) مدار الجدى.

٢ (١) أفريقيا وأوروبا. (٢) بيرنج.
(٣) بحر آرافورا. (٤) أفريقيا وآسيا.
(٥) البحر المتوسط. (٦) أمريكا الجنوبية.

٣ (١) آسيا. (٢) الهادى.
(٣) أستراليا. (٤) الأحمر.
(٥) آسيا. (٦) الهندى.
(٧) بحرقزوين. (٨) جزر الفلبين.
(٩) أفريقيا. (١٠) أفريقيا.

(١١) موزمبيق. (١٢) جزيرة آيسلندا.
(١٣) البحر المتوسط. (١٤) الغربية.
(١٥) أمريكا الشمالية. (١٦) الشمالى.
(١٧) آسيا. (١٨) أنتاركتيكا.
(١٩) أوروبا. (٢٠) أستراليا.

٤ (١) **خطأ** : لأن قارات العالم القديم تشمل آسيا وأفريقيا وأوروبا بينما قارتى أستراليا وأنتاركتيكا من قارات العالم الجديد.
(٢) **خطأ** : لأن قارة آسيا تحاط بالمحيطات من ثلاث جهات عدا جهة الغرب حيث يحدها قارة أوروبا.
(٣) **صواب** : حيث يوجد بقارة آسيا بحر قزوين الذى يعد أكبر بحر مغلق فى العالم.
(٤) **خطأ** : لأن قارة أفريقيا يحدها من جهة الغرب المحيط الأطلنطى بينما المحيط الهندى يحدها من جهة الشرق.
(٥) **خطأ** : تقع قارتى أمريكا الشمالية وأمريكا الجنوبية إلى الشرق من المحيط الهادى بينما تقعان إلى الغرب من المحيط الأطلنطى.
(٦) **خطأ** : لأن خليج المكسيك والبحر الكاريبى يحدان قارة أمريكا الشمالية من الجنوب الشرقى.
(٧) **صواب** : لأن السواحل الشرقية لأكبر قارات العالم وهى قارة آسيا وأصغر قارات العالم وهى قارة أستراليا تطل على المحيط الهادى.
(٨) **خطأ** : لأن بحر آرافورا يفصل قارة أستراليا عن جزر إندونيسيا من الشمال.
(٩) **خطأ** : تتبع جزيرة تسمانى قارة أستراليا بينما تتبع جزيرة مدغشقر قارة أفريقيا.
(١٠) **خطأ** : لأن مدار الجدى يمر بقارات أستراليا وأفريقيا وأمريكا الجنوبية بينما مدار السرطان يمر بقارات آسيا وأفريقيا وأمريكا الشمالية.

٥ (١) الموقع الجغرافى. (٢) الدول الجزرية.
(٣) أمريكا الجنوبية. (٤) قارة أستراليا.
(٥) القارة القطبية الجنوبية (أنتاركتيكا).

٦ **أجب بالرجوع إلى المفكرة ص ١٥ ما النتائج.**

٧ **حيث يمر بقارة أفريقيا :**
- مدار السرطان شمال القارة.
- دائرة الاستواء وسط القارة.
- مدار الجدى جنوب القارة.

٨ **يتمثل وجه الشبه فى أن كل منهما :**
- تطل من جهة الشرق على المحيط الأطلنطى، ومن جهة الغرب على المحيط الهادى.
- تشرف على البحر الكاريبى.

٩ **أجب بالرجوع إلى المفكرة ص ٤ أهم الجداول والمقارنات.**

١٠ (١) الهادى. (٢) موقع الجزر التابعة لها.
(٣) آسيا. (٤) أنتاركتيكا.
(٥) بيرنج.
(٦) قلة خطوط الطول المارة بأطرافها الجنوبية.
(٧) أنتاركتيكا.

١١ (١) **صواب.** (٢) **صواب.**

١٢ بسبب كثرة الجزر التابعة لقارة أستراليا مقارنة بقارة أمريكا الجنوبية.

١٣ - نيوزيلندا بقارة أستراليا.
- كوبا بقارة أمريكا الشمالية.

١٤ (١) دولة البحرين - دولة جزر القمر.
(٢) أوروبا - أفريقيا - أنتاركتيكا.

١٥ (١) **حيث :**
- تقترب آسيا من أفريقيا عند مضيق باب المندب وتتصل بها عند شبه جزيرة سيناء.
- تقترب آسيا من أمريكا الشمالية عند مضيق بيرنج.
- تقترب آسيا من أستراليا عبر جزر إندونيسيا.
- تقترب آسيا من أوروبا عند مضيقى البسفور والدردنيل.

(٢) **حيث :**
- تعد قارة متجمدة معظم أيام السنة.
- تعد قارة غير مأهولة بالسكان.
- يمر بها جميع خطوط الطول.
- يحيط بها محيط واحد وهو المحيط القطبى الجنوبى.

امتحان على الدرس الأول

١

(أ) (١) القطبية الجنوبية. (٢) اليابان.
(٣) أستراليا. (٤) البريطانية.

(ب) (١) أوروبا وأفريقيا. (٢) أستراليا.

(جـ) (١) حيث تضم أفريقيا دول جزرية مثل : جزيرة مدغشقر وجزر القمر.
(٢) حيث تحدها المسطحات المائية من ثلاث اتجاهات من جهة الشمال المحيط القطبى الشمالى، الغرب المحيط الأطلنطى، الجنوب البحر المتوسط بينما من جهة الشرق يحدها اليابس حيث قارة آسيا.

٢
(أ) (١) جبال أورال. (٢) أمريكا الجنوبية.
(٣) المحيط الأطلنطى. (٤) أوروبا.
(ب) أجب بالرجوع إلى المفكرة ص ١٢ ما المقصود.

الدرس الثانى

تدريب ١

١ قارة آسيا (٢) ، (٣) ، (٤) ، (١٠) ، (١٢) ، (١٤) ، (١٦).
قارة أفريقيا (٥) ، (٧) ، (٩) ، (١٣) ، (١٧).
قارة أوروبا (١) ، (٦) ، (٨) ، (١١) ، (١٥) ، (١٨).

٢ (١) اليانجتسى. (٢) الجنوب الغربى.
(٣) السين.

٣ حيث تتجمد أنهار السهول الشمالية (أوب وينسى ولينا) فى فصل الشتاء لذلك تفقد أهميتها الاقتصادية.

٤ **العبارة صادقة** : حيث يوجد داخل قارة آسيا سهول ساحلية متفرقة مثل سواحل بحر قزوين.

٥ تنبع روافد نهر النيل من هضبة الحبشة «إثيوبيا» (الممتدة فى شرق القارة) وهضبة البحيرات الاستوائية (الممتدة فى وسط القارة).

تدريب ٢

١ قارة أمريكا الشمالية : (٤) ، (٦) ، (٧) ، (٩) ، (١٢).
قارة أمريكا الجنوبية : (٣) ، (٥) ، (١٠) ، (١١).
قارة أستراليا : (١) ، (٢) ، (٨).

٢ **العبارة صادقة** : لأن الأطراف الشمالية للقارة يغطيها الجليد و بالتالى تفقد السهول الفيضية بها أهميتها الاقتصادية بينما فى جنوب القارة توجد سهول نهر المسيسبى حيث الأراضى الزراعية.

٣ لأن السهول الساحلية فى أستراليا تتسع فى الغرب، بينما تضيق فى الشرق بسبب اقتراب جبال الحاجز الكبير من ساحل المحيط الهادى.

٤ **يتمثل وجه الشبه فى :**
- وجود جبال تمتد من الشمال إلى الجنوب فى غرب القارتين.
- تمتد السهول الفيضية فى وسط القارتين.
- تضيق السهول الساحلية فى غرب القارتين لاقتراب الجبال من الساحل.

أسئلة على الدرس الثانى

١
(أ) (١) القطبى الشمالى. (٢) الهيمالايا.
(٣) زاجروس. (٤) طوروس.
(٥) اليابان.
(٦) الدكن. (٧) التبت.
(٨) شبه الجزيرة العربية. (٩) شرق الصين.
(١٠) منشوريا. (١١) سيبيريا.
(١٢) ينسى. (١٣) دجلة والفرات.
(١٤) لينا. (١٥) أوب.
(١٦) السند.
(ب) (١) الأطلنطى. (٢) البحر الأحمر.
(٣) دراكنزبرج. (٤) أطلس.
(٥) كينيا. (٦) كلمنجارو.
(٧) البحيرات الاستوائية.
(٨) جنوب أفريقيا. (٩) الحبشة (إثيوبيا).
(١٠) بحر الرمال العظيم.
(١١) النيل. (١٢) الزمبيزى.
(١٣) النيجر. (١٤) الكونغو.
(جـ) (١) الأطلنطى. (٢) الأسود.
(٣) الشمال. (٤) البرانس.
(٥) الألب الدينارية. (٦) الميزيتا.
(٧) فرنسا الوسطى. (٨) الأوروبى العظيم.
(٩) الفولجا. (١٠) السين.
(١١) الراين.
(د) (١) هضبة المكسيك. (٢) ③
(٣) ⑥ (٤) ⑤

(٥) ④ (٦) ⑩
(٧) ⑧ (٨) سانت لورانس.
(٩) ②

هـ (١) الهادى. (٢) الأطلنطى.
(٣) الإنديز. (٤) بتاجونيا.
(٥) البرازيل. (٦) لابلاتا.
(٧) أورينوكو. (٨) الأمازون.

و (١) ⑥ (٢) الأسترالى الكبير.
(٣) ⑦ (٤) الغربية.
(٥) ① (٦) ④
(٧) تسمانيا.

٢ (١) الجبال – الهضاب – السهول.
(٢) ساحلية – فيضية – صحراوية.
(٣) أورانج – لمبوبو.

٣ (١) اليابان. (٢) تركيا.
(٣) زاجروس. (٤) آسيا.
(٥) الدكن. (٦) القطبى الشمالى.
(٧) جبال دراكنزبرج.
(٨) هضبة البحيرات الاستوائية.
(٩) مصر. (١٠) الصحراوية.
(١١) شبه جزيرة البلقان. (١٢) إسبانيا.
(١٣) الدانوب. (١٤) بحر قزوين.
(١٥) البرانس. (١٦) لبرادور.
(١٧) جيانا. (١٨) أمريكا الجنوبية .
(١٩) المحيط الأطلنطى. (٢٠) الحاجز الكبير.
(٢١) أوب. (٢٢) آسيا.

٤ (١) الخليج العربى.
(٢) (البحر العربى) المحيط الهندى.
(٣) بحر الشمال. (٤) المحيط الأطلنطى.
(٥) المحيط الأطلنطى. (٦) الخليج الأسترالى الكبير.

٥ (١) **خطأ** : لأن أنهار أوب وينسى ولينا تجرى فى سهول سيبيريا التى تقع شمال قارة آسيا.
(٢) **خطأ** : لأن قمة إفرست تقع فى سلسلة جبال الهيمالايا الموجودة بوسط قارة آسيا.
(٣) **صواب** : لأن جبال أطلس تقع أقصى شمال غرب أفريقيا وجبال البحر الأحمر تقع شمال شرق أفريقيا وجبل كلمنجارو يقع شرق أفريقيا.
(٤) **صواب** : لأن هضبة البحيرات الاستوائية تعد أحد المنابع لروافد نهر النيل.
(٥) **خطأ** : لأن سهول صحراء كلهارى تنتشر فى جنوب قارة أفريقيا.
(٦) **خطأ** : لأن سلاسل جبال الألب تمتد باتجاه عام من الغرب إلى الشرق.
(٧) **خطأ** : حيث تمتد السهول الساحلية على المحيط الأطلنطى والبحر البلطى وبحر الشمال فى الغرب والشمال الغربى، وفى الجنوب تمتد سواحل البحر المتوسط أما الشرق تفصلها حدود برية مع قارة آسيا.
(٨) **صواب** : لأن بالسهل الأوروبى العظيم يوجد مدن أوروبية رئيسية مثل باريس وبرلين.
(٩) **خطأ** : حيث توجد سلسلة جبال روكى فى غرب قارة أمريكا الشمالية بينما فى شرق القارة توجد سلاسل جبال الأبلاش.
(١٠) **خطأ** : حيث تمتد البحيرات العظمى فى الولايات المتحدة الأمريكية وكندا.
(١١) **خطأ** : لأن السهول الفيضية الوسطى بقاره أمريكا الشمالية تنتهى بسهول نهر المسيسبى.
(١٢) **خطأ** : لأن سهول نهر نلسن يقع فى شمال شرق أمريكا الشمالية.
(١٣) **خطأ**: لأن سلاسل جبال الإنديز تمتد غرب قارة أمريكا الجنوبية.
(١٤) **خطأ** : لأن نهرى مرى ودارلنج يجريان فى قارة أستراليا فى سهول متسعة.

٦ (١) قارة أفريقيا. (٢) حوض النهر.
(٣) السهل الأوروبى العظيم. (٤) هضبة بتاجونيا.

٧ (١) : (٤) ، (٧) **أجب بالرجوع إلى المفكرة ص ١٣ بم تفسر.**
(٥) بسبب اتساع وتعرج سواحلها وكثرة الجزر بها.
(٦) أجب بالرجوع إلى المفكرة ص ١٦ دلل.

٨ ترتب على ذلك ضيق السهول الساحلية الشرقية لأستراليا المطلة على المحيط الهادى.

٩ **أجب بالرجوع إلى المفكرة ص ١٦ دلل.**

١٠ **(١) أجب بالرجوع إلى المفكرة ص ٦ أهم الجداول والمقارنات.**
(٢) أجب بالرجوع إلى المفكرة ص ٧ أهم الجداول والمقارنات.
(٣) أجب بالرجوع إلى المفكرة ص ٦، ٨ أهم الجداول والمقارنات.

١١ أجب بالرجوع إلى المفكرة ص ١٨ ماذا يحدث.

١٢ (١) أجب بالرجوع إلى المفكرة ص ١٥ دلل.

(٢) حيث توجد بها :

- سهول ساحلية تمتد على طول سواحل البحرين المتوسط والأحمر والمحيطين الأطلنطى والهندى والتى تحيط بالقارة.
- سهول فيضية، مثل : سهول حوض نهر النيل، والنيجر، والكونغو.
- سهول صحراوية رملية التى تنشر فى الصحراء الكبرى، مثل : سهل كلنشو فى ليبيا وبحر الرمال العظيم فى مصر، وسهول صحراء كلهارى جنوب القارة.

(٣) حيث تشغل الهضاب مساحات واسعة بقارة أفريقيا والتى تمتد فى :

- شمال القارة : هضاب الصحراء الكبرى.
- وسط القارة : هضبة البحيرات الاستوائية.
- شرق القارة : هضبة الحبشة.
- جنوب القارة : هضبة جنوب أفريقيا.

(٤) حيث تكثر الهضاب شرق جبال الإنديز ومنها :

- هضبة جيانا شمال القارة.
- هضبة البرازيل شرق القارة.
- هضبة بتاجونيا جنوب القارة.

١٣ (١) البرانس. (٢) الغربية.
(٣) السند. (٤) الأمازون.
(٥) سهول منشوريا. (٦) الشمالى الشرقى.
(٧) الجنوب الشرقى. (٨) التبت والميزيتا.
(٩) تعدد روافده. (١٠) أمريكا الشمالية.
(١١) الإنديز. (١٢) آورال.

١٤ العبارة صادقة :

حيث تزيد الأهمية الاقتصادية للسهول الفيضية فى المناطق المعتدلة لقيام الزراعة، مثل سهول نهر النيل فى أفريقيا وسهول نهر المسيسبى فى أمريكا الشمالية، بينما تفقد أهميتها فى المناطق الباردة، مثل سهول سيبيريا فى آسيا والأطراف الشمالية للسهول الوسطى بقارة أمريكا الشمالية لصعوبة قيام الزراعة.

١٥ يترك للطالب حرية الإجابة فى ضوء :

لن ينحدر نهر النيل نحو مصر، ولن تصبح لهضبتى الحبشة والبحيرات الاستوائية أهمية بالنسبة لمصر.

١٦ يتمثل وجه الشبه فى :

- **الانحدار :** كلاهما ينحدر نحو جنوب القارة.
- **المصب :** كلاهما يصب فى خليج، **حيث :**
  - ♦ يصب نهر المسيسبى فى خليج المكسيك.
  - ♦ يصب نهرا مرى ودارلنج فى الخليج الأسترالى الكبير.

١٧ السهول الساحلية فى قارة أوروبا متسعة ومتعرجة مما ساعد على إنشاء الموانئ بها، بينما السهول الساحلية فى قارة أفريقيا ضيقة بصفة عامة بسبب اقتراب حافات الجبال والهضاب من الساحل ولكنها تتسع عند مصبات الأنهار.

امتحان على الدرس الثانى

١

(أ) (١) ⑥ (٢) ④ (٣) ⑤ (٤) ⑧

(ب)

	هضبة التبت	هضبة الحبشة (إثيوبيا)
الموقع	تقع وسط قارة آسيا.	تقع شرق قارة أفريقيا.
المميزات	أعلى هضاب العالم.	تعد أحد المنابع لروافد نهر النيل.

(جـ) (١) هضبة – قارة أوروبا.
(٢) جبل – قارة أفريقيا.
(٣) نهر – قارة آسيا.
(٤) نهر – قارة أفريقيا.

٢

(أ) (١) لابلاتا. (٢) الشرق.
(٣) البرازيل.

(ب) أجب بالرجوع إلى المفكرة ص ٨ قارن بين (السهول).

(جـ) يترك للطالب حرية الإجابة فى ضوء :

لكانت السهول الساحلية الغربية لقارة أمريكا الجنوبية المطلة على المحيط الهادى سهول متسعة.

الدرس الثالث

تدريب ١

١ – الإقليم الاستوائى وشبه الاستوائى : ① ، ②.
– الإقليم الموسمى : ③ ، ⑦ ، ⑩.
– الإقليم المعتدل شرق القارات (الصينى) : ④ ، ⑥ ، ⑪.
– الإقليم المدارى الحار (السودانى) : ⑤ ، ⑫.
– إقليم البحر المتوسط : ⑧ ، ⑨ ، ⑬.

٢ لأن بها حشائش تستغل كمراع طبيعية.

٣ **(١) حيث تتنوع نتيجة عدة عوامل مؤثرة أهمها :**
الموقع الفلكى – الموقع الجغرافى – التضاريس.
(٢) حيث :
– يقع الإقليم الصينى شرق القارات، بينما يقع إقليم البحر المتوسط غرب معظم القارات.
– الإقليم الصينى ممطر طوال العام وتزداد صيفًا، بينما إقليم البحر المتوسط ممطر شتاءً ويسود الجفاف صيفًا.
– تنمو فى إقليم المناخ الصينى غابات الإقليم الصينى ومن أهم أشجارها البلوط والصفصاف، بينما تنمو فى إقليم مناخ البحر المتوسط غابات البحر المتوسط ومن أهم أشجارها الزيتون.

٤ **أجب بالرجوع إلى كتاب الشرح ص ٦٣**

تدريب ٢

١ – إقليم التندرا : ① ، ⑤ ، ⑥.
– إقليم غرب أوروبا : ② ، ③.
– الإقليم المعتدل البارد شرق القارات (اللورانسى) : ④ ، ⑧ ، ⑨.
– الإقليم الجبلى ⑦.

٢ **(١)** لأن أشجارها تنفض أوراقها فى فصل الشتاء لشدة البرودة.
(٢) طبقًا لارتفاع السطح وكمية المطر.

٣ **العبارة صادقة :**
حيث يوجد فى قارة أمريكا الشمالية شمال كندا ويوجد فى قارة أمريكا الجنوبية فى بعض جزر المحيط المتجمد (القطبى) الجنوبى.

٤ تنمو الغابات المخروطية فى شمال اليابان وذلك لوقوعها ضمن إقليم المناخ المعتدل البارد شرق القارات (اللورانسى).

أسئلة على الدرس الثالث

١ **(١)** الاستوائى وشبه الاستوائى.
(٢) المدارى الحار (السودانى).
(٣) الموسمى. **(٤)** البحر المتوسط.
(٥) المعتدل شرق القارات (الصينى).
(٦) المعتدل البارد شرق القارات (اللورانسى).
(٧) التندرا. **(٨)** غرب أوروبا.
(٩) الجبلى.

٢ ① ، ④ الغابات الاستوائية – الاستوائى وشبه الاستوائى.
② ، ③ غابات الإقليم الصينى – المعتدل شرق القارات (الصينى).
⑤ الغابات الموسمية – الموسمى.
⑥ غابات البحر المتوسط – البحر المتوسط.
⑦ ، ⑨ الغابات المخروطية – المعتدل البارد شرق القارات (اللورانسى).
⑧ الغابات النفضية – غرب أوروبا.

٣ **(١)** آسيا. **(٢)** أفريقيا.
(٣) إقليم غرب أوروبا. **(٤)** المناخ اللورانسى.
(٥) الإقليم الجبلى. **(٦)** أوروبا.

٤ **(١)**، **(٣)** الاستوائى وشبه الاستوائى.
(٢) الإقليم الاستوائى وشبه الاستوائى.
(٤) أوروبا. **(٥)** الموسمى.
(٦) جزيرة مدغشقر. **(٧)** المدارى الحار والموسمى.
(٨) مناخ البحر المتوسط.
(٩) الزيتون.
(١٠) إقليم البحر المتوسط.
(١١) البحر المتوسط. **(١٢)** ممطرة طوال العام.
(١٣) الصينى. **(١٤)** الإقليم الصينى.
(١٥) المعتدل شرق القارات.
(١٦) الزان. **(١٧)** مناخ غرب أوروبا.
(١٨) سقوط المطر طوال العام.

(١٩) اللورانسى. (٢٠) إقليم التندرا.
(٢١) مناخ التندرا . (٢٢) أفريقيا وأستراليا.
(٢٣) أمريكا الشمالية. (٢٤) الإقليم الجبلى.
(٢٥) آسيا. (٢٦) الموقع الفلكى.

٥ (١) **خطأ** : لأن إقليم المناخ الاستوائى وشبه الاستوائى بأفريقيا يظهر فى حوض نهر الكونغو بينما يظهر الإقليم الاستوائى وشبه الاستوائى بحوض نهر الأمازون فى قارة أمريكا الجنوبية.

(٢) **خطأ** : لأن حشائش الساڤانا هى التى تنمو فى الإقليم المناخى المدارى الحار بينما تنمو حشائش الإستبس فى إقليم مناخ البحر المتوسط والإقليم المناخى الصينى.

(٣) **صواب** : لأن سواحل دول المغرب العربى تقع ضمن نطاق العروض المعتدلة (من ٣٠° : ٤٥° شمالاً وجنوبًا) وبالتالى تنتمى إلى إقليم مناخ البحر المتوسط.

(٤) **خطأ** : لأن إقليم المناخ الصينى يقع فى العروض المعتدلة شرق القارات بينما يقع إقليم مناخ البحر المتوسط فى العروض المعتدلة غرب معظم القارات.

(٥) **خطأ** : لأن إقليم مناخ غرب أوروبا يمتد بين دائرتى عرض ٤٥° : ٦٠° شمالاً وجنوبًا ولكن غرب القارات بينما يقع الإقليم (اللورانسى) بين دائرتى عرض ٤٥° : ٦٠° شمالاً وجنوبًا شرق القارات.

(٦) **صواب** : بسبب توافر الظروف الملائمة لنموها.

(٧) **خطأ** : لأن إقليم المناخ المعتدل البارد شرق القارات يوجد فى شرق قارة آسيا و شمال شرق قارة أمريكا الشمالية.

(٨) **صواب** : لأن أمطار الإقليم الصينى تسقط طوال العام وتزداد صيفا وأمطار الإقليم اللورانسى تسقط طوال العام وخاصة صيفًا.

(٩) **خطأ** : يسود إقليم المناخ الجبلى مناخ شديد البرودة وكثيرًا ما تغطى القمم الجبلية بالجليد طوال العام طبقًا لارتفاع السطح.

(١٠) **صواب** : حيث يمر دائرة الاستواء فى جنوبها فترتفع درجة الحرارة ثم تقل كلما اتجهنا شمالاً لاقترابنا من الدائرة القطبية الشمالية التى تقع فى شمالها.

٦ (١) إقليم مناخى. (٢) حشائش الساڤانا.
(٣) حشائش الإستبس.
(٤) القارة القطبية الجنوبية (أنتاركتيكا).
(٥) الإقليم الجبلى.

٧ (١) **أجب بالرجوع إلى المفكرة ص ١٣ بم تفسر.**
(٢) أجب بالرجوع إلى المفكرة ص ١٤ بم تفسر.
(٣) لأن جزر إندونيسيا تقع فى نطاق إقليم المناخ الاستوائى وشبه الاستوائى والذى يتميز بارتفاع درجة الحرارة وسقوط الأمطار طوال العام.
(٤) لأن الإقليم المناخى السودانى أمطاره تسقط صيفًا فقط لذلك أشجاره أقل كثافة وتشابكًا من أشجار الغابات الاستوائية التى تنمو فى الإقليم المناخى الاستوائى وشبه الاستوائى الذى يتميز بسقوط الأمطار طوال العام.
(٥) ، (٧) أجب بالرجوع إلى المفكرة ص ١٤ بم تفسر.
(٦) لأن جنوب غرب آسيا ينتمى للإقليم المناخى المدارى الحار وتنتمى جزيرة مدغشقر إلى الإقليم المناخى الموسمى واللذان يتشابهان فى الصيف الحار المطر والشتاء الجاف.
(٨) لأن ولاية كاليفورنيا تقع فى نطاق إقليم مناخ البحر المتوسط الذى يتميز بسقوط الأمطار شتاءً.
(٩) لأنها تستخدم كمراعٍ طبيعية.
(١٠) أجب بالرجوع إلى المفكرة ص ١٤ بم تفسر.

٨ **(١) أجب بالرجوع إلى المفكرة ص ١٥ ما النتائج.**
(٢) ترتب على ذلك تنوع الحياة النباتية طبقًا لارتفاع السطح وكمية المطر فى الإقليم المناخى الجبلى.

٩ **يترك للطالب حرية الإجابة فى ضوء :**
- سيكون مناخ شمال أوروبا حار جاف صيفًا دفئ ممطر شتاءً.
- ستنمو أشجار الزيتون بدلًا من الطحالب.

١٠ **(١) أجب بالرجوع إلى المفكرة ص ٩ أهم الجداول والمقارنات.**
(٢) أجب بالرجوع إلى المفكرة ص ١٠ ، ١١ أهم الجداول والمقارنات.

(٣)	شمال اليابان	الساحل الأوسط فى شيلى
الخصائص المناخية	* ينتمى إلى إقليم المناخ المعتدل البارد شرق القارات «اللورانسى» والذى **يتميز بأنه :** • معتدل صيفًا وبارد شتاءً. • أمطار تسقط طوال العام وخاصة صيفًا.	* ينتمى إلى إقليم مناخ البحر المتوسط والذى يتميز بأنه : حار جاف صيفًا ودفىء ممطر شتاءً.
الخصائص النباتية	* تنمو بها الغابات المخروطية ومن أهم أشجارها الصنوبر والشربين.	* تنمو بها غابات البحر المتوسط وهى أشجار دائمة الخضرة ومن أهمها الزيتون. * تنمو بالقرب من غابات البحر المتوسط حشائش الإستبس والتى تستغل كمراعٍ طبيعية.

١١

	إقليم مناخ البحر المتوسط	إقليم المناخ المعتدل شرق القارات (الصينى)
أوجه التشابه	* من الأقاليم المناخية المعتدلة الدفيئة. * يقعان فى العروض المعتدلة بين دائرتى عرض ٣٠° : ٤٥° شمالاً وجنوبًا. * **تنمو بهما :** • أشجار دائمة الخضرة. • حشائش الإستبس. * يتميزان بارتفاع درجة الحرارة صيفًا.	
أوجه الاختلاف	* يقع غرب معظم القارات.	* يقع فى شرق القارات.
	* يتميز الإقليم بأنه دفىء ممطر شتاءً يسوده الجفاف صيفًا.	* **يتميز الإقليم بـ :** • الحرارة المنخفضة شتاءً. • أمطار طوال العام وتزداد صيفًا ويتعرض لعواصف مدارية مثل التيفون.
	* تنتشر بالإقليم غابات البحر المتوسط ومن أهم أشجارها الزيتون.	* تنتشر بالإقليم غابات الإقليم الصينى ومن أهم أشجارها الصفصاف والبلوط.

١٢ (١) حيث أدى مرور دائرة الاستواء فى وسط القارة إلى تشابه الأقاليم المناخية والنباتية فى النصف الشمالى لأفريقيا مع النصف الجنوبى منها.

(٢) ينمو بإقليم مناخ البحر المتوسط حشائش الإستبس التى تستغل كمراعٍ طبيعية وتساهم فى تنمية الثروة الحيوانية.

١٣ (١) **حيث : تتشابه المنطقتان مناخيًا فى :**
انخفاض الحرارة شتاءً وسقوط الأمطار طوال العام والتى تزداد صيفًا.
تختلف نباتيًا فى :
– شرق الصين : تنمو بها غابات الإقليم الصينى وأهم أشجارها : الصفصاف والبلوط، بالإضافة إلى حشائش الإستبس.
– شمال شرق الصين : تنمو بها الغابات المخروطية ومن أهم أشجارها : الصنوبر والشربين.

(٢) حيث ينتمى الإقليم اللورانسى للأقاليم المناخية المعتدلة الباردة مما يجعله مناخ ملائم لنمو الغابات المخروطية ومناسب أن تعيش به الحيوانات ذات فراء كثيف مثل الدب القطبى.

١٤ (١) أفريقيا وأمريكا الجنوبية.
(٢) أفريقيا. (٣) مناخ البحر المتوسط.
(٤) لابلاتا. (٥) المعتدلة الدفيئة.
(٦) الموقع الفلكى. (٧) الإقليم اللورانسى.
(٨) الصينى واللورانسى.

١٥ (١) **العبارة غير صادقة :** لأن حشائش الساڤانا بأستراليا تنمو إلى الجنوب من الغابات الموسمية حيث تقل كمية الأمطار كلما ابتعدنا عن الغابات الموسمية.

(٢) **العبارة غير صادقة :** تندر الأمطار فى الأجزاء الداخلية والغربية من قارة أستراليا لأنها منطقة سهول صحراوية تقل بها موارد المياه لوقوعها بالإقليم المناخى الصحراوى الحار الذى يتميز بندرة الأمطار.

(٣) **العبارة صادقة :** حيث يقع حوض نهر سانت لورانس فى الإقليم المناخى اللورانسى الذى ينتشر به الغابات المخروطية وأهم أشجارها الصنوبر والشربين بينما حوض نهر الأمازون فهو يقع فى الإقليم المناخى الاستوائى وشبه الاستوائى الذى ينتشر فيه الغابات الاستوائية وأهم أشجارها الماهوجنى والمطاط.

١٦ (١) أدى ذلك إلى وقوع معظم مساحة القارة فى نطاق الأقاليم المناخية الحارة ووقوع الأطراف الشمالية والجنوبية فى نطاق الإقاليم المعتدلة الدفيئة.
(٢) ترتب على ذلك اختفاء بعض الأقاليم المناخية من القارتين حيث اختفى الإقليم اللورانسى من شرق أوروبا كما اختفى إقليم غرب أوروبا من غرب آسيا.

١٧ (١) بسبب امتداد القارة الفلكى بين دائرتى عرض ٣٠َ ٣٧° شمالاً و ٣٠َ ٣٤° جنوبًا ومرور دائرة الاستواء وسط القارة مما أدى إلى تشابه الأقاليم المناخية شمال القارة مع جنوبها.
(٢) لأن قارة أنتاركتيكا تقع فى أقصى جنوب الكرة الأرضية ويسود كل مساحتها إقليم مناخى واحد (إقليم التندرا).

١٨ (١) **يترك للطالب حرية الإجابة فى ضوء :**
سوف يسودها مناخ الإقليم المدارى الحار الذى يتميز بارتفاع درجة الحرارة وسقوط الأمطار صيفًا ويسود الجفاف شتاءً، وبالتالى نمو أشجار أقل كثافة وتشابكًا من أشجار الغابات الاستوائية، ونمو حشائش الساڤانا.
(٢) **يترك للطالب حرية الإجابة فى ضوء :**
سوف يظهر فى غرب قارة آسيا مناخ غرب أوروبا فيما بين دائرتى عرض ٤٥°: ٦٠° شمالاً.

١٩ **حيث** يسود كل منهما الإقليم المناخى المعتدل البارد شرق القارات (اللورانسى) والذى يتميز مناخه بـ :
- صيف معتدل وشتاء بارد.
- سقوط الأمطار طوال العام وخاصة صيفًا.

امتحان على الدرس الثالث

١

(أ) (١) ④ (٢) ② (٣) الجبلى. (٤) ③

(ب) (١) يترتب على ذلك نمو الطحالب.
(٢) **يترك للطالب حرية الإجابة فى ضوء :**
لمصر دور واضح فى مواجهة التغيرات المناخية حيث قامت باستضافة مؤتمر قمة المناخ للتأكيد على دورها فى مواجهة تلك الظاهرة البيئية الخطيرة، كما تشجع على الممارسات التى تحافظ على البيئة من التلوث.

(ج) **العبارة صادقة** : حيث تتشابه كلاهما تضاريسيًا فى أنهما سهول فيضية، ويختلفان نباتيًا حيث ينمو فى سهول سيبيريا الطحالب بينما ينمو فى حوض الكونغو الغابات الاستوائية ومن أهم أشجارها الماهوجنى والمطاط.

٢

(أ) (١) اللورانسى.
(٢) المدارى الحار والموسمى.
(٣) المعتدل شرق القارات.

(ب) تنمو الغابات النفضية بإقليم مناخ غرب أوروبا حيث تنفض أشجار تلك الغابات أوراقها شتاءً لشدة البرودة.

(ج) لأن الجنوب الشرقى لأستراليا يقع ضمن إقليم المناخ المعتدل شرق القارات (الصينى) الذى يتعرض أحيانًا لعواصف مدارية مثل عواصف التيفون، بينما الجنوب الغربى يقع ضمن إقليم مناخ البحر المتوسط.

الوحدة 2

الدرس الأول

تدريب ١

١ (١) صواب. (٢) صواب.
(٣) خطأ : ... قارة أفريقيا. (٤) صواب.

٢ حيث تعرض عدد كبير من زنوج أفريقيا للهجرات الإجبارية (القسرية) للأمريكتين ضمن تجارة العبيد التى كانت سائدة فى الماضى وذلك للعمل فى مزارع القطن وقصب السكر والتبغ التى أنشأها الأوروبيون فى الأمريكتين.

تدريب ٢

١ (١) شمال كندا وألاسكا.
(٢) العيون المنحرفة والشعر الأسود المسترسل.
(٣) جماعة التنجوس.

٢ لأن النسبة الكبرى من سكان الصين ودول شرق وجنوب شرق آسيا (أكثر دول العالم سكانًا) ينتمون إلى السلالة المغولية.

تدريب ٣

١ (١) مجموعة سكان حوض البحر المتوسط.
(٢) وسط وغرب أوروبا.
(٣) أوروبا.

٢ **أجب بالرجوع إلى كتاب الشرح ص ٨٤ (مميزاتها).**

تدريب ٤

١ **نتج عن ذلك :**
– عدم وجود دولة فى العالم يتكون شعبها من سلالة واحدة.
– ندرة وجود السلالات النقية فى الوقت الحاضر إلا فى بعض المجتمعات البدائية.

٢ (١) حيث تتمثل السلالة النقية بأمريكا الشمالية وأمريكا الجنوبية فى الهنود الحمر والإسكيمو وهم ينتمون إلى السلالة المغولية.
(٢) **حيث أصبحت الولايات المتحدة الأمريكية تضم :**
– **السلالة القوقازية :**
وهم السكان البيض القادمون من أوروبا.
– **السلالة الزنجية :**
وهم القادمون عن طريق الهجرة الإجبارية من أفريقيا.
إلى جانب وجود السلالة المغولية وهم الهنود الحمر الذين يمثلون السكان الأصليين.

أسئلة على الدرس الأول

١ (١) القوقازية. (٢) الزنجية.
(٣) المغولية.

٢ (١) السلالة الزنجية. (٢) (د)
(٣) الأمريكتين. (٤) أفريقيا.
(٥) آسيا. (٦) السلالة المغولية.
(٧) كوريا. (٨) جماعة التنجوس.
(٩) منغوليا. (١٠) القوقازية.
(١١) المجموعة النوردية الشمالية.
(١٢) المجموعة الألبية. (١٣) تونس.
(١٤) أستراليا. (١٥) الكونغو.
(١٦) جبال الإنديز.

٣ **(أ) القوقازية – الصفات : (١) ، (٦) ، (٨).**
(ب) المغولية – الصفات : (٣) ، (٥) ، (٩).
(جـ) الزنجية – الصفات : (٢) ، (٤) ، (٧).

٤ **(أ) أقسام السلالة الزنجية : (٣) ، (٤).**
(ب) أقسام السلالة المغولية : (١) ، (٦).
(جـ) أقسام السلالة القوقازية : (٢) ، (٥).

٥ **(١) ، (٢) ، (٦) ، (٨) السلالة المغولية.**
(٣) ، (٤) ، (٧) السلالة القوقازية.
(٥) السلالة الزنجية.

٦ **(١) : (٥) صواب.** **(٦) خطأ : ... القوقازية ...**
(٧) خطأ : ... المغولية. **(٨) خطأ : ... المغولية.**
(٩) صواب.
(١٠) خطأ : ... أسس ظاهرية (حسب الشكل الخارجى).

٧ **(١) ، (٣) أجب بالرجوع إلى المفكرة ص ٤٢ بم تفسر.**
(٢) للعمل فى مزارع القطن وقصب السكر والتبغ التى أنشأها الأوروبيون فى الأمريكتين.
(٤) ، (٥) أجب بالرجوع إلى المفكرة ص ٤٣ بم تفسر.

٨ **(١) أجب بالرجوع إلى المفكرة ص ٤٧ دلل.**
(٢) حيث يوجد :
– سكان غابات حوض الكونغو وصحراء كلهارى بأفريقيا وهم سلالة زنجية قصيرة القامة.
– الهنود الحمر وهم سلالة مغولية تعيش فى غابات وجبال أمريكا الجنوبية.
(٣) تضم الولايات المتحدة سلالات بشرية مختلفة حيث :
– السلالة الزنجية : وهم القادمون عن طريق الهجرات الإجبارية من أفريقيا إلى الأمريكتين للعمل فى مزارع القطن وقصب السكر والتبغ التى أنشأها الأوروبيون بالأمريكتين.
– السلالة القوقازية : وهم السكان البيض القادمون من أوروبا.

٩ **أجب بالرجوع إلى المفكرة ص ٣٩ أهم الجداول والمقارنات.**

١٠ **يترك للطالب حرية الإجابة فى ضوء :**
عبارة خطأ لأن تقسيم السلالات البشرية تم على أسس ظاهرية وليست جوهرية أى يتم حسب الشكل الخارجى فلا توجد سلالة أكثر ذكاءً من سلالة أخرى أو أكثر منها قدرة على العمل والإبداع.

١١ يترك للطالب حرية الإجابة فى ضوء :
لـم يؤثر الإنسـان فـى البيئات المختلفة ولـم يتأثر بها وبالتالى لـم تظهر اختلافات فى الصفات الوراثية بين البشر ونشأت السلالات البشرية.

١٢ أوجه التشابه بينهما كلاهما :
- ينتميان للسلالة المغولية.
- يمثلان السكان الأصليين للأمريكتين.
- من السلالات النقية الموجودة فى الوقت الحاضر.

١٣ (١) **صـواب** : لأن الأوروبيـين قاموا بجلب الزنوج من أفريقيا إلى الأمريكتين عبر المحيط الأطلنطى فيما عرف بالهجرات الإجبارية القسرية.
(٢) **صواب** : حيث تُعد السـلالتين الرئيستين فى قارة أفريقيا وأستراليا هما الزنجية والقوقازية.
(٣) **صواب** : حيث ينتمى كل من سـكان شمال البحر المتوسط والعرب إلى السلالة القوقازية.
(٤) **خطـأ** : لأن السـلالة الزنجية والمغوليـة هى التى تنتشر بجزيرة مدغشقر.
(٥) **صـواب** : حيث تقع إندونيسـيا ضمن دول جنوب شرق آسيا التى تنتشر بها السلالة المغولية.

١٤ حيث أنشـأ الأوروبيون مزارع القطن وقصب السـكر والتبـغ فى الأمريكتـين مما أدى إلى تعرض عدد كبير من زنـوج أفريقيـا للهجرات الإجباريـة ضمن تجارة العبيد للعمل بتلك المزارع.

١٥ (١) ، (٤) **سلالة زنجية.**
(٢) ، (٥) **سلالة قوقازية.**
(٣) ، (٦) **سلالة مغولية.**

امتحان على الدرس الأول

١
(أ) (١) ② (٢) ③ (٣) ①
(ب) (١) السلالة القوقازية.
(٢) صحراء كلهارى.
(جـ) (١) **صـواب** : حيـث يسـود كل منهمـا إقليـم منـاخ التندرا، ويوجد بهما السلالة المغولية.
(٢) **صواب** : حيث توجد مجموعة سكان حوض البحر المتوسـط فى جنوب أوروبا، و المجموعة الألبية فى غرب ووسط أوروبا، والمجموعة النوردية الشمالية فى شمال أوروبا.
(د) **يترك للطالب حرية الإجابة فى ضوء :**
سـوف تصبح كل السـلالات فى العالم نقية وسيصبح العالم مقسم إلى ثلاث سلالات بشرية فقط (قوقازية – مغولية – زنجية).

٢
(أ) (١) السلالة البشرية. (٢) السلالة المغولية.
(ب) (١) ، (٢) سلالة زنجية. (٣) سلالة مغولية.
(جـ) (١) **أجب بالرجوع إلى المفكرة ص ٤٧ دلل.**
(٢) حيـث المناطق الاسـتوائية فى قارة آسـيا يعيش بها السـلالة المغولية التى تتميز بالعيون المنحرفة والشـعر الأسـود المسترسل والبشـرة الصفراء، أمـا المناطق الاسـتوائية فى قـارة أفريقيا يعيش بمعظمهـا السـلالة الزنجيـة التى تتميز بالشـعر الأجعد والأنف العريض والبشرة الداكنة والشفاه الغليظة.
(د) أدى ذلـك إلـى أن الإنسـان بـدأ يتأثر بهـذه البيئات ويؤثر فيها فظهرت اختلافات فى الصفات الوراثية بين البشر التى تميز كل سلالة عن الأخرى ومن هنا نشأت السلالات البشرية.

الدرس الثانى

تدريب ١

١ (١) : (٤) ، (٧) ، (٨)، (١١) ، (١٢) ، (١٤)، (١٦) **يتركز بها السكان.**
(٥) ، (٦) ، (٩) ، (١٠) ، (١٣) ، (١٥) **يقل بها السكان.**

٢ حيث : يقل السـكان فى بعض المناطق الجبلية الوعرة
مثـل : جبـال البحر الأحمـر بأفريقيا فـى حين يتركز السـكان فى المناطق مرتفعة السطح فى الدول المدارية لاعتدال المناخ مثل أوغندا وكينيا فى أفريقيا.

٣ أجب بالرجوع إلى كتاب الشرح ص ٩٤

٤ حيث يقل السكان فى المناطق الاستوائية بسبب نمو الغابات الكثيفة والبيئة الطبيعية القاسية حيث تنتشر الأمراض.

تدريب ٢

١ (١) ، (٧) ، (٩) ، (١١) ، (١٤) ، (١٥) **يقل السكان بها.**
(٢) : (٦) ، (٨) ، (١٠) ، (١٢) ، (١٣) ، (١٦)
يتركز السكان بها.

٢ (١) بسبب وجود الأقاليم الزراعية (سهول المسيسبى).
(٢) بسبب وجود الغابات الاستوائية.
(٣) بسبب وجود المدن الكبرى، مثل سيدنى والمناطق الصناعية الكبرى.

أسئلة على الدرس الثانى

١

(أ) (١) جزر اليابان.
(٢) سهول وادى النيل فى مصر.
(٣) بريطانيا.
(٤) دول البرزخ (هندوراس وكوستاريكا).
(٥) هضبة بتاجونيا. (٦) غرب أستراليا.

(ب) (١) ⑤ (٢) ④
(٣) ② (٤) ③
(٥) ①

٢ (١) المدن الكبرى. (٢) سيبيريا.
(٣) أوروبا. (٤) لندن – باريس.

٣ (١) الهند والصين. (٢) يانجتسى.
(٣) الطابع المناخى. (٤) آسيا.
(٥) أوغندا. (٦) سهول نهر الكونغو.
(٧) الشمالية.
(٨) الولايات المتحدة الأمريكية.
(٩) الموارد الاقتصادية. (١٠) مونتريال.
(١١) البرازيل. (١٢) جويانا.
(١٣) الأورينوكو. (١٤) الأمازون.
(١٥) الشرقية. (١٦) شمال أستراليا.
(١٧) المدن الكبرى.

٤ (١) **خطأ** : تُعد قارة آسيا أكبر قارات العالم سكانًا حيث يسكنها نحو ٦٠ ٪ من سكان العالم ويوجد بها أكبر دولتين فى العالم من حيث السكان هما (الصين والهند).
(٢) **صواب** : حيث يتركز السكان فى الجزر ذات التربة الجيدة مثل جزيرة جاوة وجزر اليابان والفلبين.
(٣) **خطأ** : حيث يقل السكان فى شمال آسيا بسبب برودة الجو ويقلون فى الوسط بسبب وعورة السطح.
(٤) **صواب** : حيث أدت الزيادة السكانية فى معظم دول قارة آسيا الى حدوث هجرات غير شرعية منها تتجه فى معظمها إلى الدول المتقدمة مثل دول أوروبا.
(٥) **صواب** : حيث يتركز السكان فى المناطق مرتفعة السطح فى الدول المدارية مثل أوغندا وكينيا لاعتدال المناخ، ويقل عدد السكان فى المناطق الاستوائية بسبب كثافة الغابات وانتشار الأمراض.
(٦) **خطأ** : لأن السبب الأساسى وراء تركز السكان بمدينة لندن أنها تعد من المدن الصناعية الضخمة.
(٧) **صواب** : يتركز السكان بدرجة أقل فى دول شرق أوروبا حيث تعد أقل فى درجة تقدمها عن دول غرب ووسط أوروبا.
(٨) **خطأ** : حيث يقل عدد السكان فى دولتى فنلندا والنرويج بسبب شدة البرودة.
(٩) **خطأ** : حيث يرجع تركز سكان المكسيك بالمدن الرئيسية إلى وفرة فرص العمل ووفرة الخدمات والمناطق الصناعية.
(١٠) **خطأ** : حيث يتركز السكان بقارة أمريكا الجنوبية فى سهول البمباس بالأرجنتين لأنها سهول فيضية.

٥ (١) أستراليا. (٢) أفريقيا.
(٣) هندوراس. (٤) أستراليا.

٦ (١) : (٤) ، (٧) **أجب بالرجوع إلى المفكرة ص ٤٣ بم تفسر.**
(٥) بسبب زيادة السكان فى معظم دول قارة آسيا.
(٦) **بسبب وجود :**
– السهول الفيضية الخصبة (حيث سهول وادى النيل).
– السهول الساحلية المعتدلة الخصبة، (حيث سواحل البحر المتوسط).

(٨) : (١١) **أجب بالرجوع إلى المفكرة ص ٤٤ بم تفسر.**
(١٢) بسبب وجود المدن الكبرى.
(١٣) – **يتركز السكان فى الجنوب الشرقى :**
لوجود الأراضى الزراعية الخصبة وسهول نهرى مرى ودارلنج.
– **يقل السكان فى الداخل :** لسيادة الظروف الصحراوية.

٧ (١) **أجب بالرجوع إلى المفكرة ص ٤٦ ما النتائج.**
(٢) ترتب على ذلك أنها أصبحت خالية من السكان لأنها قارة متجمدة.

٨ **أجب بالرجوع إلى المفكرة ص ٣٨ ما المقصود.**

٩ (١) **حيث :**
– يتركز سكان قارة آسيا عند السهول الفيضية مثل سهول نهر الجانج فى الهند وسهول نهر اليانجتسى فى الصين.
– يقل سكان قارة آسيا فى المناطق الجبلية والهضبية فى وسط القارة لوعورة السطح، وكذلك فى المناطق الصحراوية مثل شبه الجزيرة العربية.
(٢) حيث يتركز السكان فى الساحل الشمالى الشرقى للولايات المتحدة الأمريكية ومنطقة البحيرات العظمى بسبب وجود الموارد الاقتصادية الضخمة.
(٣) **أجب بالرجوع إلى المفكرة ص ٤٨ ما العلاقة.**

١٠ **حيث يقل عدد السكان بقارة أوروبا فى :**
– المناطق الشمالية بسبب شدة البرودة مثل فنلندا والنرويج.
– المناطق الجبلية الوعرة مثل جبال الألب.

١١ (١) ﺏ رقم ② (٢) وجود المدن الكبرى.
(٣) خصوبة التربة. (٤) حوضى الكونغو والأمازون.

١٢ (١) **صواب.** (٢) **خطأ :** ... شرق وجنوب ...
(٣) **صواب.**

١٣ (١) لأن هذه المنطقة استوائية تتسم بانتشار الغابات الكثيفة والبيئة الطبيعية القاسية وانتشار الأمراض، كما فى حوض نهر الكونغو.
(٢) لأن أوغندا وكينيا من الدول الواقعة عند دائرة الاستواء مرتفعة السطح والتى تتميز باعتدال المناخ ولذلك يتركز السكان بهما.

١٤ **أصبح هناك تركز سكانى فى :**
– الساحل الشمالى الشرقى ومنطقة البحيرات العظمى لوجود الموارد الاقتصادية الضخمة.
– ولايات الوسط لوجود الأقاليم الزراعية.

١٥ حيث يتركز السكان فى السهول الساحلية بشرق أستراليا فيوجد بها المدن الكبرى مثل سيدنى والمناطق الصناعية الكبرى.

١٦ لم تتحقق قاعدة تركز السكان فى السهول الفيضية لنهرى الأمازون والكونغو بسبب وقوعهما فى المنطقة الاستوائية ووجود الغابات الاستوائية، وكذلك سهول سيبيريا بسبب وقوعها ضمن المناطق الشمالية القطبية شديدة البرودة.

امتحان على الدرس الثانى

١
(أ) (١) المسيسبى. (٢) سهول سيبيريا.
(٣) جبال الإنديز.
(ب) (١) شمال أستراليا. (٢) أمريكا الجنوبية
(جـ) يرتبط توزيع السكان بالتطور الصناعى حيث تزيد الكثافة السكانية فى المناطق الصناعية والمدن الكبرى مثل لندن وباريس وسيدنى ونيويورك بسبب وفرة فرص العمل ووفرة الخدمات.
(د) **يتمثل وجه الشبه فى :**
يقل بهما السكان بسبب شدة برودة الجو.

٢
(أ) (١) **صواب.**
(٢) **خطأ :** ... وجود الموارد الاقتصادية والمدن الكبرى.
(ب) (١) **سهول لابلاتا :** يتركز بها السكان لأنها من السهول الفيضية.
(٢) **غرب أستراليا :** يقل بها السكان بسبب سيادة الظروف الصحراوية.

(ج) (١) حيث :
- يسكن غابات حوض الكونغو وصحراء كلهارى بأفريقيا سلالة زنجية قصيرة القامة لم تختلط بغيرها من السلالات.
- يسكن صحارى التندرا الباردة شمال كندا الإسكيمو وهى سلالة مغولية نقية.
- تعيش فى غابات وجبال أمريكا الجنوبية الهنود الحمر وهم سلالة مغولية نقية.

وجميع الأماكن السابقة يقل بها التركز السكانى.

(٢) حيث :
- يقل السكان فى شمال القارة لانخفاض الحرارة وتكون الجليد وتجمد الأنهار فى سهول سيبيريا.
- يقل السكان جنوب غرب القارة حيث المناخ الصحراوى وندرة الأمطار فى شبه الجزيرة العربية.
- يقل السكان فى وسط القارة لانخفاض الحرارة على الجبال وهضبة التبت.
- يزداد السكان فى المناطق المعتدلة مثل جنوب القارة خاصة الصين.

الدرس الثالث

تدريب ١

١ (١) أوروبا وأفريقيا. (٢) أوروبا.
(٣) أفريقيا.

٢ (١) ديموجرافيا. (٢) الزيادة الطبيعية.
(٣) فئة صغار السن. (٤) أمريكا الجنوبية.

٣ (١) بسبب الرعاية الصحية والاهتمام بصحة الأطفال.
(٢) بسبب زيادة عدد المواليد وقلة عدد الوفيات نسبيًا.
(٣) بسبب تحمل الدول النامية ميزانية ضخمة من أجل توفير الغذاء والملبس والرعاية الصحية والتعليم، وغيرها من الخدمات.
(٤) بسبب قلة مستوى الخدمات فى المجالات الصحية وانتشار الأمراض ومستوى التغذية.

٤ أجب بالرجوع إلى كتاب الشرح ص ١١٤

تدريب ٢

١ (١) خطأ : ... الأردن والإمارات ومصر.
(٢) صواب. (٣) خطأ : ... الفائقة.

٢ أجب بالرجوع إلى كتاب الشرح ص ١١٧

تدريب ٣

١ (١) ، (١٠) دول ذات اقتصاد زراعى منخفض.
(٢) ، (٤) ، (٧) ، (١١) ، (١٢) دول ذات دخل اقتصادى أقل من المتوسط.
(٣) ، (٨) دول ذات دخل اقتصادى مرتفع.
(٥) ، (٦) ، (٩) ، (١٣) دول ذات دخل اقتصادى فوق المتوسط.

٢ العبارة غير صادقة :
حيث يعمل سكان الدول النامية بجانب الزراعة بالصيد وقطع الغابات والرعى.

٣ أجب بالرجوع إلى كتاب الشرح ص ١١٨

أسئلة على الدرس الثالث

١ (١) ⑥ (٢) ④ (٣) ⑦
(٤) ① - ⑧ (٥) أمريكا الشمالية.
(٦) ⑨ (٧) ⑤

٢ (١) أستراليا وآسيا. (٢) أفريقيا.
(٣) أفريقيا. (٤) أوروبا.
(٥) انخفاض معدلات الزيادة الطبيعية.
(٦) أوروبا. (٧) غرب أوروبا.
(٨) روسيا. (٩) إثيوبيا.
(١٠) زيادة فئة كبار السن. (١١) نيبال.
(١٢) المرتفع. (١٣) تركيا.
(١٤) أقل من المتوسط. (١٥) الكونغو.
(١٦) باكستان. (١٧) أستراليا.

٣ (١) خطأ : ... الوفيات. (٢) صواب. (٣) صواب.
(٤) خطأ : ... الفائقة. (٥) خطأ : ... مرتفعة.
(٦) صواب. (٧) صواب. (٨) صواب.

٤ (١) أفريقيا. (٢) أوروبا.
(٣) أقل من المتوسط. (٤) المرتفع.
(٥) أوكرانيا.

٥ أجب بالرجوع إلى المفكرة ص ٣٨ ما المقصود.

٦ (١) ، (٢) أجب بالرجوع إلى المفكرة ص ٤٤ بم تفسر.
(٣) : (٥) أجب بالرجوع إلى المفكرة ص ٤٥ بم تفسر.

(٦) بسبب انتشار بعض العادات والتقاليد السلبية فى بعض دول العالم، مثل تفضيل الزواج المبكر للإناث.

(٧) : (٩) أجب بالرجوع إلى المفكرة ص ٤٥ بم تفسر.

٧ أجب بالرجوع إلى المفكرة ص ٤٦ ما النتائج.

٨ (١) يترك للطالب حرية الإجابة فى ضوء :

سيؤدى ذلك إلى انخفاض معدل الزيادة الطبيعية فى قارة أفريقيا وارتفاع نصيب الفرد من الدخل القومى.

(٢) يترك للطالب حرية الإجابة فى ضوء :

سيؤدى ذلك إلى :

- التأثير فى معدلات الزيادة الطبيعية بقارة أوروبا ولن يحدث ثبات لعدد السكان.
- انخفض نصيب الفرد من الدخل القومى.

(٣) يترك للطالب حرية الإجابة فى ضوء :

ستكون مصر من الدول ذات الدخل الاقتصادى المرتفع وبالتالى ارتفاع مستويات معيشة سكانها.

(٤) أجب بالرجوع إلى المفكرة ص ٤٩ ماذا يحدث.

(٥) يترك للطالب حرية الإجابة فى ضوء :

سيؤدى ذلك إلى زيادة فرص العمل، وزيادة نصيب الفرد من الدخل القومى.

٩ (١)، (٢) أجب بالرجوع إلى المفكرة ص ٤٨ دلل.

(٣) أجب بالرجوع إلى المفكرة ص ٣٧ أهم المخططات.

١٠ (١) أدى انتشار العادات والتقاليد السلبية فى قارة أفريقيا مثل الزواج المبكر للإناث والرغبة فى إنجاب أكبر عدد من الأبناء إلى ارتفاع معدلات المواليد بها.

(٢) تنخفض معدلات الزيادة الطبيعية فى الدول المتقدمة نتيجة لقلة عدد المواليد وعدد الوفيات معًا.

(٣) يرتفع الدخل الاقتصادى فى الدول التى تعتمد على النشاط الصناعى.

(٤) هناك بعض العادات والتقاليد التى تؤثر فى معدل التعليم خاصة الإناث ومن هذه العادات :

- حرمان المرأة من التعليم فى بعض المناطق حفاظًا عليها أو بسبب المعتقدات الخاطئة.
- تفضيل الزواج المبكر للإناث.

١١ العبارة صادقة : حيث تزداد معدلات الوفيات فى الدول التى تقل فيها الرعاية الصحية وتنتشر فيها الأمراض بينما تقل معدلات الوفيات فى الدول التى تراعى بها مستويات الوقاية الصحية.

١٢ (١) يترك للطالب حرية الإجابة فى ضوء :

- يجب العمل على تقليل معدل المواليد من خلال

القضاء على :

- ♦ الأمية.
- ♦ بعض العادات والتقاليد السلبية مثل الرغبة فى إنجاب أكبر عدد من الأبناء والزواج المبكر للإناث.
- زيادة النشاط الصناعى المتطور.
- الاعتماد على طرق الزراعة الحديثة التى لا تحتاج إلى أيد عاملة كثيرة.

(٢) يترك للطالب حرية الإجابة فى ضوء :

- الاعتماد على الصناعة كمصدر أساسى للدخل القومى وتطويرها.
- عدم تصدير المواد الخام سواء زراعية أو حيوانية أو معدنية والاستفادة منها فى التصنيع.
- فتح أسواق للمنتجات المصرية فى الدول الأخرى.

١٣ (١) (ج)

(٢) التأثير السلبى يتمثل فى تحمل هذه الدول ميزانية ضخمة من أجل توفير الغذاء والملبس والرعاية الصحية والتعليم وغيرها من الخدمات بسبب ارتفاع نسبة فئة صغار السن.

١٤ الكويت والسعودية.

١٥ بسبب زيادة نسبة صغار السن بها.

١٦ تزداد الوفيات فى قارة أوروبا بسبب زيادة عدد كبار السن، أما فى أفريقيا تزداد الوفيات بسبب قلة الرعاية الصحية وانتشار الأمراض بها.

١٧ حيث إن من أسباب ارتفاع معدل المواليد فى قارة أفريقيا الاعتماد على الزراعة البدائية والرعى حيث تتطلب أيدى عاملة وفيرة.

١٨ العبارة صادقة :

حيث تُعد البحرين والإمارات وقطر من دول الخليج العربى التى تعتمد على استخراج البترول وتصديره للخارج وتصنيع مشتقاته.

امتحان على الدرس الثالث

١

(أ) (١) الأردن. (٢) المنخفض.
(٣) أفريقيا.

(ب) **صواب** : لأن فئة صغار السن وكبار السن فئات غير منتجة.

(جـ) (١) **أجب بالرجوع إلى المفكرة ص ٤٨ دلل.**
(٢) ، (٣) **أجب بالرجوع إلى المفكرة ص ٤٥ بم تفسر.**

(د) **يترك للطالب حرية الإجابة فى ضوء :**
سيؤدى ذلك إلى انخفاض نسبة الأمية بين الإناث فى أفريقيا وزيادة فرص العمل للمرأة وانخفاض معدل الزواج المبكر للإناث وبالتالى سينخفض معدل المواليد.

٢

(أ) (١) هايتى . (٢) فئة كبار السن.

(ب) أدى ذلك إلى ارتفاع نسبة المتعلمين فى مصر إلى نحو ٦٥ ٪ وانخفاض نسبة الأمية.

(جـ) ارتبط ارتفاع معدلات الوفيات بقارة أوروبا بزيادة فئة كبار السن وذلك نتيجة لتقدم أوروبا فى مجالات الخدمة الصحية والتعليمية.

ثانيًا التاريخ

الوحدة 3

الدرس الأول

تدريب ١

١ (١) **خطأ** : حيث بدأ صدام الدولة العثمانية فى الشرق بالدولة الصفوية ثم اتجهوا إلى دولة المماليك.

(٢) **صواب** : حيث أدى انتصار السلطان سليم الأول على المماليك فى معركة الريدانية إلى تحول مصر الى ولاية عثمانية.

(٣) **خطأ** : حيث كان عدم الاستقرار الداخلى للمماليك والنزاع المستمر على السلطة من أسباب هزيمة المماليك أمام العثمانيين.

٢ (١) حيث تعرضت الدولة المملوكية لأزمات مالية وتدهور اقتصادى نتيجة لاكتشاف طريق رأس الرجاء الصالح عام ١٤٩٨م.

(٢) حيث أدرك السلطان سليم الأول خطورة التوسع والصدام مع دول أوروبا لتفوقهم حضاريًا وعسكريًا على العثمانيين لذلك اتجه فى توسعاته إلى الشرق.

٣ (١) ترتب على ذلك خروج السلطان الغورى من مصر إلى الشام لملاقاة العثمانيين فحدثت معركة مرج دابق أغسطس ١٥١٦م.

(٢) **أجب بالرجوع إلى كتاب الشرح ص ١٣٤**

(٣) **أجب بالرجوع إلى كتاب الشرح ص ١٣٥**

تدريب ٢

١ (١) **العبارة صادقة** : حيث استمر حكم العثمانيين لمصر نحو أربعة قرون متتالية كان خلالها حكمًا جامدًا تحولت فيه مصر إلى ولاية معزولة بعيدة عن المؤثرات الحضارية الحديثة فى أوروبا.

(٢) **العبارة صادقة بسبب :**
- قصر مدة حكم الوالى التى تتراوح ما بين سنة وثلاث سنوات.
- زيادة سلطة الديوان والحامية العثمانية.

(٣) **العبارة غير صادقة :**
حيث تدهورت الصناعة بمصر فى عصر العثمانيين بسبب :
- تدهور الزراعة.
- إرسال أمهر الحرفيين والصناع المصريين إلى الآستانة عاصمة الدولة العثمانية.

لذلك أصبحت الصناعات يدوية بسيطة وكانت جميعها رديئة.

(٤) **العبارة صادقة : حيث :**
① **فئة الحكام : تكونت من :**
- الأتراك (العثمانيين). - المماليك.

② **فئة المحكومين، انقسمت إلى :**
- طبقة وسطى (محدودة) : تكونت من المشايخ وعلماء الأزهر ورجال الدين وكبار التجار.
- طبقة دنيا (أكثرية) : تكونت من الفلاحين وصغار الحرفيين وعامة الناس.

٢ **حيث :**
- اهتزت مكانة الأزهر العلمية فى ذلك الوقت ولم يعد هناك اهتمام بالعلوم العقلية والرياضية والطبيعية واقتصر الاهتمام على العلوم الشرعية.
- تدهورت الحياة الأدبية.
- انتشر الجهل والدجل والشعوذة والخرافات.

٣ بسبب انحياز نائبه محمد بك أبو الدهب للسلطان العثمانى الذى اتفق معه ضد على بك الكبير.

٤ (١) أدى تطبيق نظام الالتزام خلال الحكم العثمانى لمصر إلى تدهور أحوال المجتمع الريفى بوجه عام بسبب معاناة الفلاح من كثرة الضرائب المفروضة على الأراضى الزراعية وتعسف وظلم الملتزمين فى جمعها.

(٢) تدهورت التجارة الخارجية فى مصر أثناء الحكم العثمانى لعدة أسباب منها منح الدولة العثمانية الامتيازات الأجنبية للدول الأوروبية.

٥ نظام طبقه العثمانيون يتم فيه تكليف الفلاح بزراعة الأراضى وليس له حق التصرف فيها.

أسئلة على الدرس الأول

١ (١) ديو البحرية. (٢) التجارة الخارجية.
(٣) إمارة ذى القادر. (٤) الريدانية.
(٥) القاهرة. (٦) الريدانية.
(٧) العثمانية. (٨) ظاهر العمر.
(٩) الحجاز. (١٠) على بك الكبير.
(١١) انحياز محمد بك أبو الدهب للسلطان العثمانى.
(١٢) تدهور الزراعة. (١٣) كبار التجار.

٢ (١) إمارة ذى القادر. (٢) المماليك.
(٣) الالتزام. (٤) الشرعية.
(٥) الأستانة.

٣ (١) **خطأ** : حيث تعرضت مصر إلى أزمات مالية وتدهور اقتصادى بسبب اكتشاف طريق رأس الرجاء الصالح عام ١٤٩٨م.

(٢) **صواب** : حيث كان المماليك فى صراع ونزاع مستمر على السلطة.

(٣) **صواب** : لأن السلطان سليم الأول أدرك خطورة التوسع والصدام مع دول أوروبا بسبب تفوقها حضاريًا وعسكريًا على العثمانيين.

(٤) **خطأ** : انتهى الصدام بين الدولتين الصفوية والعثمانية بهزيمة الدولة الصفوية ودخول العثمانيين عاصمتهم تبريز.

(٥) **صواب** : حيث اتجه السلطان العثمانى سليم الأول بجيشه إلى الدولة المملوكية فبادر بالاستيلاء على إمارة ذى القادر المملوكية الواقعة على الحدود بين الدولتين.

(٦) **خطأ** : لأن الدولة العثمانية سيطرت على العالم العربى من الاتجاهين الآسيوى والأفريقى.

(٧) **خطأ** : كانت مصر أثناء حكم المماليك دولة مستقلة ولكن بعد استيلاء العثمانيين عليها أصبحت ولاية عثمانية.

(٨) **خطأ** : تم تطبيق حق الانتفاع عقب سيطرة الدولة العثمانية على مصر بينما تم تطبيق نظام الالتزام مع ضعف الدولة العثمانية فى منتصف القرن الـ ١٧م.

(٩) **صواب** : لأن العثمانيين قاموا بإرسال أمهر الحرفيين والصناع المصريين إلى الآستانة عاصمة الدولة العثمانية، لذلك أصبحت الصناعات يدوية بسيطة وكانت جميعها رديئة.

٤ (١) دولة المماليك. (٢) حق الانتفاع.

٥ (١)، (٤) السلطان العثمانى سليم الأول.
(٢) على بك الكبير. (٣) السلطان الغورى.

٦ ① معركة جالديران (١٥١٤م).
② معركة مرج دابق (١٥١٦م).
③ معركة الريدانية (١٥١٧م).
④ حركة على بك الكبير الاستقلالية بمصر (١٧٦٨م).

٧ (١) : (٥) **أجب بالرجوع إلى المفكرة ص ٦١ بم تفسر.**
(٦) : (١٢) **أجب بالرجوع إلى المفكرة ص ٦٢ بم تفسر.**

٨ (١) **أجب بالرجوع إلى المفكرة ص ٦٧ ما النتائج.**
(٢) ترتب على ذلك تحطيم الأسطول المملوكى وتدهور الأحوال الاقتصادية لدولة المماليك.
(٣) **أدى ذلك إلى** اتجاه السلطان سليم الأول فى توسعاته نحو الشرق فكان الصدام العسكرى مع **كل من :**
- الدولة الصفوية وهزيمتها ودخول العثمانيين العاصمة تبريز.
- الدولة المملوكية واستيلاء العثمانيين على الشام ومصر.

(٤) ترتب على ذلك انتصار العثمانيين على المماليك وانتهاء دولتهم وأصبحت مصر والشام تحت سيطرة الدولة العثمانية.
(٥)، (٦) **أجب بالرجوع إلى المفكرة ص ٦٧ ما النتائج.**
(٧) أدى ذلك إلى افتقاد الأمن وتدهور التجارة الداخلية فى مصر أثناء الحكم العثمانى.
(٨) ترتب على ذلك أن اتسمت الحياة الفكرية والثقافية بالجمود والتخلف **مما أدى إلى :**
- اهتزاز مكانة الأزهر العلمية فى ذلك الوقت ولم يُعد هناك اهتمام بالعلوم العقلية والرياضية والطبيعية ولكن كان هناك اهتمام بالعلوم الشرعية.
- تدهور الحياة الأدبية.
- انتشار الجهل والدجل والشعوذة والخرافات.

٩ (١) **يترك للطالب حرية الإجابة فى ضوء :**
لاستمر حكم المماليك لمصر ولم تتحول مصر إلى ولاية عثمانية.
(٢) **أجب بالرجوع إلى المفكرة ص ٧٤ ماذا يحدث.**

١٠ - **أوجه الشبه :**
قامت بهما الدولة العثمانية ضد الدولة المملوكية وانتصر فيهما السلطان العثمانى سليم الأول.
- **أوجه الاختلاف :**
♦ معركة مرج دابق حدثت بالشام وكان قائد المماليك السلطان الغورى وأصبحت بعدها الشام تحت الحكم العثمانى.
♦ معركة الريدانية حدثت بمصر وكان قائد المماليك طومان باى وانتهت فيها دولة المماليك نهائيًا وأصبحت مصر ولاية عثمانية.

١١ (١) حيث كان تنازع المماليك المستمر فيما بينهم على السلطة سببًا فى اضطراب الأمن وكثرة الفتن والثورات الداخلية وبالتالى ضعف قوتهم العسكرية.
(٢) **حيث عانى الفلاح من :**
- كثرة الضرائب المفروضة على الأراضى الزراعية وتعسف وظلم الملتزمين فى جمعها.
- عدم اهتمام الطبقة الحاكمة بتنظيم الرى وإقامة السدود وحفر الترع.

١٢ **يترك للطالب حرية الإجابة فى ضوء :**
- أصبحت الصناعات فى مصر يدوية بسيطة وجميعها رديئة.
- كان ذلك سببًا من أسباب تدهور الصناعة بمصر فى العصر العثمانى.

١٣ (١) الكشوف الجغرافية. (٢) مصر.
(٣) ديو البحرية. (٤) دفاعية.
(٥) الوالى. (٦) الصناعية.

١٤ أرادت الدولة العثمانية جمع أكبر قدر من الأموال والضرائب من الفلاحين فطبقت ذلك النظام لضعفها فى منتصف القرن الـ ١٧م.

١٥ عندما تولى على بك الكبير منصب شيخ البلد وأمسك بزمام الأمور فى مصر أعلن استقلاله بها مستغلًا ضعف الدولة العثمانية، ولكن نتيجة انحياز نائبه محمد بك أبو الدهب للسلطان العثمانى فشلت حركته فأصبح محمد بك أبو الدهب شيخًا للبلد وعادت مصر ولاية عثمانية.

١٦ (١) **حيث انقسم المجتمع المصرى أثناء الحكم العثمانى إلى فئتين هما :**
- فئة الحكام (الأتراك - المماليك) وكان لهم كافة السلطات فى شئون الحكم والإدارة والجيش.
- فئة المحكومين التى انقسمت إلى طبقة وسطى محدودة ومنها المشايخ، وطبقة دنيا (أكثرية) وهم الفلاحين وصغار الحرفيين وعامة الناس وقد عانت من الفقر والظلم وتفشى الأمراض والأوبئة.

(٢) حيث منحت الدولة العثمانية الامتيازات الأجنبية للتجار الأجانب (الأوروبيين) لتشجيعهم على الاستثمار والإقامة فى مصر.

١٧ (١) ④ (٢) ③ (٣) ②

امتحان على الدرس الأول

١

(أ) (١) الكشوف الجغرافية.
(٢) السلطان سليم الأول. (٣) الفلاحين.

(ب) (١) ترتب على ذلك تحول مصر إلى ولاية معزولة بعيدة تمامًا عن المؤثرات الحضارية الحديثة فى أوروبا.

(٢) أجب بالرجوع إلى المفكرة ص ٥٦ أهم الجداول والمقارنات.

(جـ) أجب بالرجوع إلى المفكرة ص ٥٦ أهم الجداول والمقارنات.

٢

(أ) (١) السلطان الغورى. (٢) العلوم الشرعية.

(ب) أجب بالرجوع إلى المفكرة ص ٦٢ بم تفسر.

(جـ) حيث أدرك السلطان سليم الأول أن الصدام مع الدول الأوروبية فى ذلك الوقت محفوف بالمخاطر لتفوقها حضاريًا وعسكريًا على العثمانيين ومن هنا كان التوجه نحو الشرق لتحقيق السيطرة على المنطقة.

(د) أجب بالرجوع إلى المفكرة ص ٧٤ ماذا يحدث.

الدرس الثانى

تدريب ١

١ (١) المصريين. (٢) أبى قير البحرية.
(٣) الصعيد.

٢ (١) **حيث أرسلت فرنسا حملة على مصر لاحتلالها لـ :**
- تعويض فرنسا عن فقدان مستعمراتها بإنشاء مستعمرة فرنسية فى الشرق تكون قاعدتها مصر.
- قطع الطريق بين إنجلترا ومستعمراتها فى الهند.

(٢) حيث قام نابليون بإحضار مطبعتين إحداهما فرنسية والأخرى عربية وذلك لطبع المنشورات للأهالى.

(٣) حيث اصطحب نابليون بونابرت مجموعة من العلماء فى مختلف العلوم لدراسة أحوال مصر من جميع النواحى، وكيفية استغلال مواردها.

(٤) حيث ظهرت الآثار السلبية عندما هزم المماليك فى شبراخيت وإمبابة لاعتمادهم على الفروسية بينما استخدم الفرنسيون المدافع والمعدات الحديثة.

(٥) حيث فرض نابليون الضرائب الفادحة على المصريين (لتعويض خسائرهم فى معركة أبى قير البحرية) مما ساهم فى قيام ثورة القاهرة الأولى.

٣ **أجب بالرجوع إلى كتاب الشرح ص ١٥٠**

٤ **أجب بالرجوع إلى كتاب الشرح ص ١٤٩**

تدريب ٢

١ (١) العريش. (٢) رودس.

٢ حيث قام نابليون بإعداد حملة فى مارس ١٧٩٩م لرغبته فى القضاء على الجيش العثمانى القادم من جهة الشام (الحملة البرية) قبل أن يصل إلى مصر.

٣ **العبارة غير صادقة :** حيث كانت نتائج المعركة هزيمة القوات العثمانية أمام قوات الحملة الفرنسية.

٤ كانت مذبحة يافا البشرية سببًا فى استبسال أهالى عكا فى الدفاع عن مدينتهم مما أدى إلى فشل نابليون دخول عكا وبالتالى فشل الحملة الفرنسية على الشام.

تدريب ٣

١ (١) الحكومة البريطانية. (٢) العلمى.
(٣) إنشاء المحاجر الصحية.

٢ (١) اتفاقية العريش. (٢) سليمان الحلبى.
(٣) جلاء. (٤) نابليون بونابرت.

٣ (١) تزعم ثورة القاهرة الثانية مارس ١٨٠٠م.
(٢) تولى قيادة الحملة الفرنسية بعد مقتل كليبر.

٤ (١) **لأن الأخطار كانت تهدد الحملة من كل جانب حيث :**
- تناقص عدد جنود الجيش الفرنسى بسبب المعارك والحروب الداخلية والخارجية.
- إرسال الدولة العثمانية لحملة جديدة إلى العريش ودمياط.
- عودة المماليك للمقاومة.
- تجدد ثورات المصريين فى الشرقية وامتدادها إلى وسط الدلتا وغربها.

(٢) بسبب إرسال إنجلترا أسطولًا حربيًا إلى أبى قير لإخراج الحملة الفرنسية من مصر وانضم إليه الجيش العثمانى فلم تستطع القوات الفرنسية المقاومة واستسلمت وغادرت مصر فى سبتمبر ١٨٠١م.

(٣) أجب بالرجوع إلى كتاب الشرح ص ١٥٦

٥ أجب بالرجوع إلى كتاب الشرح ص ١٥٥

٦ أجب بالرجوع إلى كتاب الشرح ص ١٥٦

أسئلة على الدرس الثانى

١ (١) تدهور أوضاع مصر الداخلية.
(٢) دخول نابليون الإسكندرية.
(٣) القاهرة. (٤) البحيرة.
(٥) الصعيد. (٦) ، (٧) إمبابة.
(٨) أبى قير البحرية.
(٩) حصار الإنجليز لسواحل مصر الشمالية.
(١٠) ثورة القاهرة الأولى.
(١١) إنجلترا وروسيا.
(١٢) الهجوم خيرًا من الدفاع.
(١٣) يافا. (١٤) عكا.
(١٥) أبى قير البرية. (١٦) نابليون.
(١٧) كليبر. (١٨) كليبر.
(١٩) عمر مكرم. (٢٠) كليبر.
(٢١) موقع مصر الجغرافى والاستراتيچى.
(٢٢) التعرف على التاريخ المصرى القديم.

٢ (١) طولون. (٢) شبراخيت.
(٣) أبو قير. (٤) القاهرة.
(٥) بولاق.

٣ (١) **صواب** : حيث بدء التنافس الاستعمارى بين إنجلترا و فرنسا فى أواخر القرن السابع عشر الميلادى واستمر طوال القرن الثامن عشر الميلادى وتعد الحملة الفرنسية على مصر والشام جزءًا من هذا التنافس.
(٢) **صواب** : حيث قام بذلك لدراسة أحوال مصر من جميع النواحى وكيفية استغلال مواردها.
(٣) **خطأ** : لأن قوات الحملة الفرنسية عندما وصلت إلى الإسكندرية واجهها أهلها بزعامة حاكمها السيد (محمد كُريم).
(٤) **خطأ** : حيث اعتمد المماليك على الفروسية فى مواجهة القوات الفرنسية، بينما استخدم الفرنسيون المدافع والمعدات الحديثة.
(٥) **صواب** : حيث أدت معركة أبى قير البحرية إلى توقف حركة التجارة الخارجية لمصر.
(٦) **صواب** : حيث أدى طول الوادى إلى إنهاك قوة الفرنسيين أثناء حرب المناوشات والمعارك المتفرقة التى اتبعها أهالى الصعيد.
(٧) **صواب** : لأن الأخطار كانت تهدد الحملة من كل جانب منها تناقص عدد جنود الجيش الفرنسى وإرسال الدولة العثمانية لحملة جديدة إلى العريش ودمياط لذلك قام كليبر بعقد اتفاقية العريش ١٨٠٠م.
(٨) **خطأ** : حيث فشلت الحملة الفرنسية فى إنشاء مستعمرة فرنسية فى الشرق تكون قاعدتها مصر.
(٩) **خطأ** : حيث أرسلت إنجلترا أسطولًا حربيًا إلى أبى قير ١٨٠١م أثناء قيادة مينو لإخراج الحملة الفرنسية من مصر.
(١٠) **صواب** : حيث قام علماء الحملة بعدد من الأعمال تتمثل فى دراسة شق قناة تربط بين البحر الأحمر والبحر المتوسط وإنشاء المجمع العلمى المصرى وتأليف كتاب وصف مصر واكتشاف حجر رشيد الذى ترتب عليه التعرف على التاريخ المصرى القديم.
(١١) **صواب** : حيث ظهر ذلك واضحًا بعد خروج الحملة الفرنسية من مصر عندما تمسك المصريون بحقهم فى الحرية وفى اختيار حاكمهم.
(١٢) **خطأ** : حيث تركت الحملة الفرنسية نتائج بعيدة المدى بسبب اصطحاب نابليون مجموعة من العلماء فى مختلف المجالات.

٤ (١) الهند. (٢) ثورة القاهرة الأولى.
(٣) مينو.

٥ (١) القنصل الفرنسى بمصر. (٢) محمد كُريم.
(٣) أحمد باشا الجزار. (٤) كليبر.

٦ **(١) أجب بالرجوع إلى المفكرة ص ٥٨ أهم الجداول والمقارنات (الأسباب).**
(٢) : (٦) أجب بالرجوع إلى المفكرة ص ٦٣ بم تفسر.
(٧) ، (٨) أجب بالرجوع إلى المفكرة ص ٦٤ بم تفسر.

٧ (١) أجب بالرجوع إلى المفكرة ص ٥٦ أهم الجداول والمقارنات (النتائج).

(٢) ، (٣) أجب بالرجوع إلى المفكرة ص ٥٧ أهم الجداول والمقارنات (النتائج).

(٤) أجب بالرجوع إلى المفكرة ص ٦٨ ما النتائج.

(٥) أدى ذلك إلى تفاوض كليبر مع الدولة العثمانية فيما عرف بـ «اتفاقية العريش».

(٦) أجب بالرجوع إلى المفكرة ص ٥٨ أهم الجداول والمقارنات (النتائج).

٨ (١) حيث أخفقت قوات الحملة الفرنسية فى إخضاع أهالى الصعيد الذين اتبعوا حرب المناوشات والمعارك المتفرقة التى أنهكت قوة الفرنسيين نظرًا لطول الوادى، وهذا أدى إلى تعاظم الشعور الوطنى والوعى القومى تجاه الاحتلال الفرنسى.

(٢) – **المرة الأولى** : عندما تحالفت إنجلترا وروسيا والدولة العثمانية لإخراج الفرنسيين من مصر فقرر نابليون الخروج للشام لمواجهة العثمانيين مارس ١٧٩٩م.

– **المرة الثانية** : عندما تحالفت الدول الأوروبية ضد فرنسا فقرر نابليون العودة إلى فرنسا سرًا.

(٣)، (٥)، (٦) أجب بالرجوع إلى المفكرة ص ٦٩ دلل.

(٤) ، (٨) أجب بالرجوع إلى المفكرة ص ٧٠ دلل.

(٧) حيث قام نابليون بإنشاء الديوان العام ودواوين الأقاليم وديوان القاهرة بهدف تدريب الأعيان والعلماء المصريين على نظام مجالس الشورى من حيث الاستشارة وتلقى الآراء فيما يعود على الأهالى بالنفع العام فى المجالات المختلفة.

(٩) حيث توقفت حركة التجارة الخارجية لمصر بعد معركة أبى قير البحرية فى حين قام الفرنسيون بعد ذلك بفتح أسواقًا لمصر فى بلاد البحر الأحمر ودارفور فى السودان والحبشة وبلاد شمال أفريقيا.

٩ أجب بالرجوع إلى المفكرة ص ٥٧ أهم الجداول والمقارنات.

١٠ (١) **يترك للطالب حرية الإجابة فى ضوء :**

لن يقوم المماليك بالفرار جنوبًا للدفاع عن القاهرة ولن يرابطوا عند إمبابة وبالتالى لن يتم حدوث معركة إمبابة وتراجع الفرنسيين إلى الإسكندرية.

(٢) **يترك للطالب حرية الإجابة فى ضوء :**

الأسطول الإنجليزى لم يحاصر شواطئ مصر الشمالية وبالتالى :

– سيطرت فرنسا على سواحل البحر المتوسط.

– عدم توقف حركة التجارة الخارجية لمصر.

– سهولة حصول الحملة الفرنسية على إمدادات فرنسا لها.

(٣) أجب بالرجوع إلى المفكرة ص ٧٤ ماذا يحدث.

١١ (١) **يترك للطالب حرية الإجابة فى ضوء :**

– كان الهدف من ذلك دراسة أحوال مصر من جميع النواحى، وكيفية استغلال مواردها.

– قيام علماء الحملة بأعمال هامة فى مصر **منها :**

- دراسة شق قناة تربط بين البحرين الأحمر والمتوسط.
- إنشاء المجمع العلمى المصرى.
- تأليف كتاب وصف مصر.
- اكتشاف حجر رشيد ١٧٩٩م.

(٢) **يترك للطالب حرية الإجابة فى ضوء :**

استبسال أهالى عكا فى الدفاع عن مدينتهم بقيادة أحمد باشا الجزار كان سببًا فى فشل دخول الحملة الفرنسية إلى المدينة.

(٣) **يترك للطالب حرية الإجابة فى ضوء :**

إن ذلك كان بهدف تدريب الأعيان والعلماء المصريين على نظام مجالس الشورى من حيث الاستشارة وتلقى الآراء فيما يعود على الأهالى بالنفع العام فى مختلف المجالات.

١٢ (١) ، (٣) أجب بالرجوع إلى المفكرة ص ٧٤ ما العلاقة.

(٢) أيقظت الحملة الفرنسية الروح القومية لدى المصريين وظهر ذلك واضحًا بعد خروج الحملة الفرنسية من مصر عندما تمسك المصريين بحقهم فى الحرية وفى اختيار حاكمهم.

١٣ ① مجىء الحملة الفرنسية على مصر.
② معركة أبى قير البحرية. ③ مذبحة يافا البشرية.
④ اتفاقية العريش. ⑤ ثورة القاهرة الثانية.

١٤ (١) إمبابة. (٢) ثورة القاهرة الأولى.
(٣) بعد فشل اتفاقية العريش. (٤) الدواوين.

١٥ لأنه بعد انتصار الفرنسيين فى معركة إمبابة على المماليك فر مراد بك إلى الصعيد وفر إبراهيم بك ومعه الوالى العثمانى إلى الشام فخلت القاهرة من أية قوة للدفاع عنها.

١٦

أسباب توقف التجارة الخارجية لمصر فى أواخر القرن الـ ١٥م	أسباب توقف التجارة الخارجية لمصر بعد مجىء الحملة الفرنسية ١٧٩٨م
اكتشاف طريق رأس الرجاء الصالح الذى تحولت إليه التجارة بين الشرق والغرب بعيدًا عن مصر	حصار الأسطول الإنجليزى لشواطئ مصر الشمالية بعد معركة أبى قير البحرية

١٧ نتج عن معركة أبى قير البحرية تدمير الأسطول الفرنسى وحصار الأسطول الإنجليزى لسواحل مصر وحرمان الحملة من إمدادات فرنسا لها وذلك ظهر فى تناقص أعداد الجنود فكان ذلك من أهم الأسباب التى أدت إلى اتجاه كليبر لعقد اتفاقية العريش لإخراج الحملة الفرنسية بجنودها من مصر على نفقة الدولة العثمانية.

١٨ (١) الصعيد. (٢) ⑥ (٣) ①

امتحان على الدرس الثانى

١ (أ) (١) صواب. (٢) خطأ : ... الشام.
(٣) خطأ : ... مدى ضعف ...
(٤) صواب.

(ب) أجب بالرجوع إلى المفكرة ص ٥٣ ما المقصود.

(جـ)

موقف نابليون من الأزهر الشريف عند دخول القاهرة يوليو ١٧٩٨م	موقف نابليون من الأزهر الشريف أثناء ثورة القاهرة الأولى فى أكتوبر ١٧٩٨م
قام بتأمين علماء ومشايخ الجامع الأزهر على الأرواح والأموال	دخل الفرنسيون الجامع الأزهر بخيولهم مما أثار الشعور الدينى لدى المصريين

(د) يترك للطالب حرية الإجابة فى ضوء :
- يعد ذلك مخالفة لما وعد به نابليون (احترام العهود).
- ما قام به نابليون فى حامية يافا أدى إلى استبسال أهالى عكا فى الدفاع عن مدينتهم.

٢ (أ) (١) شبراخيت. (٢) الفرسان.
(٣) معركة أبى قير البحرية.
(٤) أحمد باشا الجزار.

(ب) (١) أجب بالرجوع إلى المفكرة ص ٦٨ ما النتائج.
(٢) ترتب على ذلك مغادرة نابليون (قائد الحملة الفرنسية على مصر) سرًا إلى فرنسا تاركًا أمر قيادة الحملة إلى نائبه كليبر.

(جـ) (١) حيث من أسباب فشل دخول نابليون إلى عكا مساعدة الأسطول البريطانى وإمداده لعكا بالمؤن والذخائر وبالتالى فشلت الحملة الفرنسية على الشام.
(٢) حيث قامت الحملة الفرنسية بفتح أسواق لمصر فى دارفور فى السودان والحبشة وبلاد شمال أفريقيا مما كان له أثر كبير على دعم العلاقات بين مصر وأفريقيا.

الدرس الثالث

تدريب ١

١ (١) **العبارة غير صادقة** : حيث كان الصراع بين المماليك والعثمانيين وإنجلترا رغبة فى استئثار كل منهم فى السيطرة وبسط النفوذ على مصر.
(٢) **العبارة صادقة** : حيث كانت هذه أول مرة يعزل فيها الوالى ويعين آخر بإرادة الشعب وشروطه.

٢ (١) حيث قام الشعب المصرى بالعديد من الثورات ضد الولاة العثمانيين وزعماء المماليك كان أهمها ثورة الشعب المصرى فى مارس ١٨٠٤م.
(٢) حيث اجتمع زعماء الشعب من العلماء ونقباء الطوائف فى ١٣ مايو ١٨٠٥م فى دار المحكمة (بيت القاضى) وقرروا عزل خورشيد باشا (الوالى العثمانى)، وتعيين محمد على بدلًا منه بعد أن أخذوا عليه العهود والمواثيق بأن يحكم بالعدل وألا يبرم (يصدر) أمرًا إلا بمشورتهم.

٣ (١) ترتب على ذلك كسب محمد على لعطف الشعب وثقة زعمائه الذين نظروا إليه كرجل عادل يكره الظلم.
(٢) ترتب على ذلك :
- عزل خورشيد باشا.
- تعيين محمد على واليًا على حكم مصر.

٤ لأن محمد على قام بما يلى :
- جاهر بالانضمام إلى العلماء والمشايخ.
- اختلط بالأهالى الساخطين.
- تعهد للعلماء بأن يبذل قصارى جهده لرفع الضريبة عن الناس.
- اقترح تعيين خورشيد باشا واليًا على مصر والذى تم تعيينه من قبل السلطان العثمانى.

٥ أجب بالرجوع إلى كتاب الشرح ص ١٦٨

تدريب ٢

١ (١) فريزر. (٢) عمر مكرم.

٢ (١) لكى تطمئن على مصالحها الاقتصادية فى المنطقة.
(٢) لأن محمد على انتهز فرصة انقسام القيادات الشعبية فيما بينها حول تقدير ومكانة عمر مكرم بين الناس وقام بـ :
- خلع عمر مكرم من نقابة الأشراف.
- نفى عمر مكرم إلى دمياط عام ١٨٠٩م.

(٣) أجب بالرجوع إلى كتاب الشرح ص ١٧١

٣ (١) ترتب على ذلك انفراد محمد على بالحكم دون وصاية أو رقابة شعبية.
(٢) ترتب على ذلك تخلص محمد على من خطر المماليك وانفراده التام بحكم مصر.

٤ (١) **حيث تمثلت التحديات داخل مصر فى :**
- الزعامة الشعبية. - المماليك.

(٢) حيث قام محمد على بـ :
- حرمانهم من تولى المناصب الرفيعة فى الدولة مثل مشيخة البلد.
- مطاردتهم فى كل مكان.
- تدبير مذبحة القلعة فى مارس ١٨١١م.

٥ كان فشل إنجلترا فى محاولة نقل محمد على ١٨٠٦م إلى ولاية سالونيك ووقوف الزعامة الشعبية بجواره سببًا فى مجىء الحملة الإنجليزية على مصر ١٨٠٧م لخلع محمد على من الحكم وتولية محمد بك الألفى.

أسئلة على الدرس الثالث

١ (١) الصراع على السلطة.
(٢) فرض الضرائب. (٣) ارتفاع مكانته.
(٤) سالونيك. (٥) المماليك.
(٦) رضوخ السلطان العثمانى للزعامة الشعبية عام ١٨٠٦م.
(٧) رشيد والحماد. (٨) دمياط.
(٩) حرمانهم من مشيخة البلد.
(١٠) القضاء على الزعامة الشعبية.

٢ (١) الدولة العثمانية. (٢) خورشيد باشا.
(٣) والى.

٣ (١) **خطأ** : حيث شهدت مصر حالة من الفوضى والاضطرابات بسبب الصراعات بين المماليك والعثمانيين وإنجلترا رغبة فى استئثار كل منهم فى السيطرة وبسط نفوذه على مصر.
(٢) **صواب** : حيث كانت ترغب إنجلترا فى السيطرة على مصر وبسط نفوذها عليها.
(٣) **صواب** : لأن سياسته خلال ثورة ١٨٠٤م أدت إلى كسب عطف الشعب المصرى وثقة زعمائه فيه واختياره حاكم على مصر عام ١٨٠٥م.
(٤) **صواب** : حيث أدى قرار زعماء الشعب إلى قيام السلطان العثمانى بإصدار فرمان ١٨٠٥م بعزل خورشيد باشا وتعيين محمد على حاكم على مصر.
(٥) **صواب** : لأن إنجلترا لم تقبل بتولية محمد على حكم مصر (اختيار الشعب) وسعت إلى خلعه وتولية محمد بك الألفى (حليفها المملوكى) لكى تطمئن على مصالحها فى المنطقة.
(٦) **خطأ** : فشلت هذه المحاولة بسبب وقوف الزعامة الشعبية بجانب محمد على مما ترتب عليه رضوخ السلطان العثمانى وتخليه عن فكرة نقله وقام بتثبيته على مصر.
(٧) **خطأ** : حيث اتخذ محمد على عدة أساليب للتخلص من المماليك ومنها : حرمانهم من تولى المناصب الرفيعة فى الدولة مثل مشيخة البلد ومطاردتهم فى كل مكان وتدبير مذبحة القلعة فى مارس ١٨١١م.

٤ (١) دار المحكمة «بيت القاضى».
(٢) فرمان. (٣) عمر مكرم.

٥ (١) **أجب بالرجوع إلى المفكرة ص ٦٤ بم تفسر.**
(٢) **لأن محمد على أثناء ثورة الشعب المصرى مارس ١٨٠٤م قام بما يلى :**
- جاهر بالانضمام إلى العلماء والمشايخ.
- اختلط بالأهالى الساخطين.
- تعهد للعلماء بأن يبذل قصارى جهده لرفع الضريبة عن الناس.

لذلك نظر الشعب إليه كرجل عادل يكره الظلم واختاروه لتولى حكم مصر عام ١٨٠٥م.
(٣) لأنها كانت أول مرة فى تاريخ مصر الحديث التى يُعزل فيها الوالى ويُعين آخر بإرادة الشعب وشروطه.
(٤)، (٥) **أجب بالرجوع إلى المفكرة ص ٦٥ بم تفسر.**
(٦) **أجب بالرجوع إلى المفكرة ص ٥٨ أهم الجداول والمقارنات (الأسباب).**
(٧) ، (٨) **أجب بالرجوع إلى المفكرة ص ٦٥ بم تفسر.**

٦ (١) **ترتب على ذلك أن قرروا :**
- عزل خورشيد باشا الوالى العثمانى.
- تعيين محمد على واليًا على مصر، بعد أن أخذوا عليه العهود والمواثيق بأن يحكم بالعدل وألا يبرم أمرًا إلا بمشورتهم.

(٢) **أجب بالرجوع إلى المفكرة ص ٥٨ أهم الجداول والمقارنات (النتائج).**
(٣) **أدى ذلك إلى انتهاز محمد على الفرصة وقام بـ :**
- خلع عمر مكرم من نقابة الأشراف.
- إبعاد عمر مكرم (نفيه) إلى دمياط ١٨٠٩م.

٧ **أجب بالرجوع إلى المفكرة ص ٧٤ ماذا يحدث.**

٨ **يترك للطالب حرية الإجابة فى ضوء :**
إنه بالرغم من تخلص محمد على من المماليك ساعده على الانفراد بحكم مصر إلا أنه عمل يتنافى مع القيم الإنسانية والأخلاقية وجميع ما جاءت به الأديان السماوية.

٩ (١) **حيث :**
- حاولت بريطانيا إقناع السلطان العثمانى بعزل محمد على وتولية محمد بك الألفى (تابعها المملوكى) أو أى والٍ عثمانى آخر فاستجاب السلطان وأصدر فرمان ١٨٠٦م بنقل محمد على واليًا على سالونيك ولكنه لم ينفذ الفرمان بسبب وقوف الزعامة الشعبية بجانبه **(طرق سلمية)**.
- أرسلت بريطانيا حملة عسكرية بقيادة فريزر عام ١٨٠٧م لخلع محمد على وتولية محمد بك الألفى الحكم لكنها فشلت **(طرق عسكرية)**.

(٢) **أجب بالرجوع إلى المفكرة ص ٧٠ دلل.**
(٣) حيث تخلى السلطان العثمانى عن فكرة نقل محمد على من ولاية مصر وقام بتثبيته عليها وذلك لوقوف الزعامة الشعبية بجانب محمد على.

١٠ (١) الزعامة الشعبية.
(٢) إدراكه لتغير ميزان القوى بمصر.
(٣) محاولة نقل محمد على ١٨٠٦م.
(٤) ثورة الشعب المصرى ١٨٠٤م.

١١ (١) **خطأ** : لم تسير العلاقات البريطانية العثمانية على وتيرة واحدة فكانت ما بين تعاون وخلاف.
(٢) **صواب** : حيث قرر زعماء الشعب عزل خورشيد وتعيين محمد على واليًا على مصر بعد أن أخذوا عليه العهود والمواثيق بأن يحكم بالعدل وألا يبرم أمرًا إلا بمشورتهم.

١٢ **حيث استطاعت الزعامة الشعبية أن :**
- تعزل خورشيد وتعين محمد على بإرادتها وشروطها ووافق السلطان العثمانى وأصدر فرمان بذلك فى ٩ يوليو ١٨٠٥م.
- تقف بجانب محمد على عند محاولة نقله إلى ولاية سالونيك فى عام ١٨٠٦م مما أدى إلى رضوخ السلطان العثمانى وتخليه عن فكرة نقل محمد على من ولاية مصر وتثبيته عليها.

١٣ **يترك للطالب حرية الإجابة فى ضوء :**
لم تستقر أحوال مصر واستمر المصريون فى الثورة ضد خورشيد ولن يتمكن محمد على من الوصول إلى الحكم.

امتحان على الدرس الثالث

١ (أ) (١) الإنجليز. (٢) نقابة الأشراف.
(٣) المصريين. (٤) المماليك.

(ب) (١) **أجب بالرجوع إلى المفكرة ص ٦٥ بم تفسر.**
(٢) لكى تطمئن على مصالحها الاقتصادية فى المنطقة.

(ج) **يتمثل وجه الشبه فى قيام كل منهما بارتكاب مذبحة بشرية، حيث :**
- قام نابليون بإعدام جميع أفراد حامية يافا رغم تأمينه لهم على أرواحهم.
- قام محمد على بمذبحة القلعة وتخلص من المماليك حتى ينفرد بحكم مصر.

٢ (أ) ① خروج الحملة الفرنسية من مصر (١٨٠١م).
② تولية محمد على حكم مصر (١٨٠٥م).
③ حملة فريزر (١٨٠٧م).
④ نفى عمر مكرم إلى دمياط (١٨٠٩م).

(ب) **العبارة صادقة :** حيث اجتمع زعماء الشعب من العلماء ونقباء الطوائف فى ١٣ مايو ١٨٠٥م بدار المحكمة وقرروا عزل خورشيد باشا وتعيين محمد على واليًا على مصر.

(ج) (١) **يترك للطالب حرية الإجابة فى ضوء :**
لن يكتسب محمد على عطف الشعب المصرى وثقة زعمائه ولن ينظروا إليه كرجل عادل يكره الظلم وبالتالى لن يتمكن من الوصول لحكم مصر.

(٢) **يترك للطالب حرية الإجابة فى ضوء :**
لن يستطيع محمد على :
- التخلص من الزعامة الشعبية.
- الانفراد بالحكم.
- نفى عمر مكرم إلى دمياط ١٨٠٩م.

الدرس الرابع

تدريب ١

١ (١) **صواب.** (٢) **صواب.** (٣) **صواب.**
(٤) **خطأ :** تدهورت طبقة التجار ولم تؤدى ...
(٥) **خطأ :** ... نفوذ المماليك ...

٢ (١) نظام الالتزام. (٢) القناطر الخيرية.
(٣) البدو.

٣ (١) **حيث قام بـ :**
- إدخال أساليب حديثة وغلات زراعية حديثة.
- إنشاء مدرسة للزراعة واستقدام الخبراء الزراعيين من الخارج.

(٢) **حيث قام بـ :**
- جمع الصبية للعمل فى مصانع الدولة بأجور رمزية فأصبحت بمثابة مدارس صناعية.
- الاستعانة بالخبرات الأجنبية وإرسال بعثات للخارج وترجمة الكتب الخاصة بمختلف الصناعات.

(٣) **حيث قام بـ :**
- إمداد الصناع بالمواد الخام اللازمة للصناعة.
- شراء المنتجات الصناعية منهم بالثمن الذى تحدده الحكومة.

(٤) **أجب بالرجوع إلى كتاب الشرح ص ١٨٠**

٤ بسبب ازدهار الزراعة والصناعة والاستقرار الداخلى للبلاد.

تدريب ٢

١ (١) **العبارة غير صادقة :** لأن محمد على اهتم بالتعليم والثقافة لحاجته إلى فنيين ومتخصصين فى مختلف الفروع لسد حاجة الجيش والأسطول بجانب حاجته لموظفين لسد حاجة المصالح الحكومية وتحسين الجانب الإدارى للدولة.

(٢) **العبارة غير صادقة :** حيث قام فى البداية بتجنيد السودانيين ثم اتجه بعد ذلك إلى تجنيد المصريين الذين أثبتوا كفاءتهم فى الانتظام فى التدريب وإطاعة الأوامر العسكرية وميادين القتال الخارجية.

(٣) **العبارة صادقة :** حيث أنشأ محمد على القلاع فى الإسكندرية ورشيد ودمياط للدفاع عن البلاد.

(٤) **العبارة صادقة، حيث قام بـ :**
- تقسيم مصر إداريًا إلى سبع مديريات، وعلى رأس هذا النظام الإدارى حكومة مركزية فى القاهرة تصدر منها جميع الأوامر واجبة التنفيذ.
- إنشاء عدة مجالس و دواوين.
- إصدار لائحة جديدة عام ١٨٣٧م لإعادة تنظيم الإدارة إلى سبعة دواوين وحدد اختصاصاتها.

٢ (١) بولاق. (٢) الثقافية.
(٣) بولاق.

٣ أدى ذلك إلى اهتمامه بالتعليم والثقافة.

٤ حيث اهتم بالتصنيع الحربى فأنشأ ترسانة فى القلعة لتصنيع الأسلحة.

تدريب ٣

١ (١) الشام. (٢) الخرطوم.
(٣) تثبيت حكمه بمصر.

٢ (١) **العبارة خطأ** : لأن محمد على سعى إلى الانفصال عن الدولة العثمانية والاستقلال بمصر لذلك مرت العلاقة بينه وبين السلطان العثمانى بمرحلتين مرحلة اتفاق ومرحلة خلاف وصدام.
(٢) **العبارة صحيحة** : حيث قام محمد على بحروب اليونان بأوامر من السلطان العثمانى للقضاء على ثوار اليونان فى المورة الذين طالبوا بالاستقلال عن الدولة العثمانية.
(٣) **العبارة صحيحة، حيث** :
- ضم شبه الجزيرة العربية وامتد نفوذه فى بلاد الشام بقارة آسيا.
- ضم السودان إلى جانب مصر بقارة أفريقيا.
- ضم جزيرة كريت التابعة لقارة أوروبا.

٣ **إيجابيًا** :
- ضم محمد على جزيرة كريت لولاية مصر.
- علو مكانة مصر دوليًا نتيجة تفاوض الدول الأوروبية مع محمد على مباشرًا لإنهاء الحرب.

سلبيًا :
- هزيمة الجيش وتحطيم الأسطول المصرى فى معركة نقارين البحرية.
- توتر العلاقة بين محمد على والسلطان العثمانى.

٤ **يترك للطالب حرية الإجابة فى ضوء** :
- لم يمتد النفوذ المصرى إلى جنوب السودان.
- لم يتم إنشاء مدينة الخرطوم ولم يتم اتخاذها كعاصمة.
- لم يتم اكتشاف منابع نهر النيل.

أسئلة على الدرس الرابع

١ (١) زيادة حجم الصادرات المصرية.
(٢) الاهتمام بالرى والتعليم المتخصص.
(٣) طوائف الحرف. (٤) التجار.
(٥) الموظفين والفنيين. (٦) أسوان.
(٧) الإسكندرية. (٨) عسكرية وثقافية.
(٩) الحكومة المركزية.
(١٠) تحديد عمل دواوين الحكومة.
(١١) اليونان.
(١٢) استجابة لأوامر السلطان العثمانى.
(١٣) حروبه باليونان. (١٤) الشام.
(١٥) السودان.

٢ (١) البحر الأحمر.
(٢) مجلس المشورة - الديوان العالى.
(٣) السودان. (٤) نقارين.
(٥) كريت.

٣ (١) : (٣) **صواب.**
(٤) **خطأ** : ... ظهور طبقة عمال الصناعة وتدهور طبقة التجار.
(٥) **صواب.** (٦) **خطأ** : اهتم ...
(٧) ، (٨) **صواب.** (٩) **خطأ** : ... بالقاهرة.
(١٠) : (١٣) **صواب.**

٤ (١) نظام الاحتكار. (٢) المصريين.
(٣) معاهدة لندن الدولية.

٥ (١) على مبارك. (٢) بولاق.
(٣) شبه الجزيرة العربية.

٦ **(١) أجب بالرجوع إلى المفكرة ص ٦٥ بم تفسر.**
(٢) لأن محمد على قام بـ :
- إلغاء نظام الالتزام وتوزيع مساحات من الأراضى على الفلاحين.
- إدخال أساليب حديثة وغلات زراعية جديدة.
- تحسين طرق الرى فحفر ترعة المحمودية.
- إنشاء العديد من القناطر على النيل وأهمها القناطر الخيرية.
- إنشاء مدرسة للزراعة واستقدام الخبراء الزراعيين من الخارج.

(٣) ، (٤) أجب بالرجوع إلى المفكرة ص ٦٥ بم تفسر.
(٥) : (٧) ، (١٠) أجب بالرجوع إلى المفكرة ص ٦٦ بم تفسر.
(٨)، (٩) أجب بالرجوع إلى المفكرة ص ٦٠ أهم الجداول والمقارنات (الأسباب).

٧ (١) ترتب على ذلك أن أصبحت المصانع مدارس صناعية للصبية فى عهده.

(٢) : (٥) أجب بالرجوع إلى المفكرة ص ٦٠ أهم الجداول والمقارنات (النتائج).

٨ (١) **يترك للطالب حرية الإجابة فى ضوء :**
لاستمر تدهور الزراعة بمصر طوال عهد محمد على وبالتالى لم تزدهر الصناعة ولم تنشط التجارة الداخلية أو الخارجية.

(٢) **أجب بالرجوع إلى المفكرة ص ٧٤ ماذا يحدث.**

٩ (١) **أجب بالرجوع إلى المفكرة ص ٧١ دلل.**

(٢) حيث قام بتحسين طرق الرى فقام بحفر ترعة المحمودية وإنشاء العديد من القناطر على النيل، أهمها القناطر الخيرية.

(٣) : (٥) **أجب بالرجوع إلى المفكرة ص ٧٢ دلل.**

(٦) **حيث :**
- انتهى نفوذ المماليك كهيئة حاكمة.
- تضاءل نفوذ علماء الأزهر والقيادات الشعبية.
- تدهورت طبقة التجار.

(٧) ، (٨) **أجب بالرجوع إلى المفكرة ص ٧٣ دلل.**

(٩) **حيث :**
- قام ببناء أسطول فى البحرين الأحمر والمتوسط.
- اهتم بالتصنيع الحربى فأنشأ ترسانة فى القلعة لتصنيع الأسلحة.
- أنشأ القلاع فى الإسكندرية ورشيد ودمياط للدفاع عن البلاد.

(١٠) **حيث كانت أسباب حروب الشام :**
- توتر العلاقات بين السلطان العثمانى ومحمد على بعد تفاوضه مع الدول الأوروبية لتأمين انسحاب الجيش المصرى من المورة.
- تصميم (محمد على) على الانفصال عن الدولة العثمانية والاستقلال بمصر.

١٠ (١) **يترك للطالب حرية الإجابة فى ضوء :**
كان الاحتكار هو الدعامة الأساسية لبناء الاقتصاد المصرى وبناء مصر الحديثة فى عهد محمد على وذلك لضمان منافسة غيره من الدول.

(٢) **يترك للطالب حرية الإجابة فى ضوء :**
- إدراك محمد على أن بناء القوة العسكرية يُعد الدعامة الأساسية لتحقيق أهدافه فى بناء الدولة الحديثة.
- كانت كل مشروعاته العمرانية والتعليمية بهدف سد حاجات الجيش وبناء القوة العسكرية.

١١ (١) **أجب بالرجوع إلى المفكرة ص ٥٩ أهم الجداول والمقارنات (الشروط).**

(٢) اضطر محمد على إلى قبول شروط المعاهدة.

١٢ (١) زيادة الموارد المالية.
(٢) إقامة مصانع حكومية. (٣) الشمال.
(٤) تمركز الحركة الوهابية فى قلب شبه الجزيرة العربية.
(٥) سياسية.
(٦) تكوين إمبراطورية ممتدة فى آسيا وأفريقيا.

١٣ (١) **صواب :** لأن محمد على قام باستقدام الخبراء الزراعيين من الخارج كما استعان بالخبرات الأجنبية فى تطوير وتحديث الإنتاج الصناعى، والبيع للتجار الأجانب فى مصر.

(٢) **صواب :** حيث أصدر محمد على لائحة جديدة عام ١٨٣٧م لإعادة تنظيم الإدارة المصرية إلى سبعة دواوين (وزارات) وحدد اختصاصاتها.

(٣) **خطأ :** كانت حروب اليونان هى نقطة التحول حيث أدى تفاوض الدول الأوروبية مع محمد على مباشرة لإنهاء الحرب إلى توتر العلاقات بين محمد على والسلطان العثمانى.

١٤ أدى ذلك إلى :
- إعادة بلاد الشام وشبه الجزيرة العربية للسلطان العثمانى وبالتالى خسارة مكاسب محمد على الخارجية وإعلان خضوعه للسلطان العثمانى.
- تثبيت محمد على فى حكم مصر.

١٥ (١) **حيث قام بـ :**
- تأمين الطرق البرية والبحرية.
- تطهير البحر الأحمر من القرصنة.
- عمل على استقرار البدو بعد أن كانوا يغيرون على الطرق التجارية.

(٢) **حيث استعان به السلطان العثمانى للقضاء على :**
- الحركة الوهابية التى تهدد نفوذ الدولة العثمانية فى شبه الجزيرة العربية.
- ثوار اليونان فى المورة الذين طالبوا بالاستقلال عن الدولة العثمانية.

امتحان على الدرس الرابع

١ (أ) (١) تحديد نوع الغلات وثمن شرائها.
(٢) البدو. (٣) الفرنسية.

(ب) (١) حيث تفاوضت الدول الأوروبية مع محمد على مباشرة لإنهاء الحرب دون الرجوع للسلطان العثمانى.

(٢) **حيث تضمنت معاهدة لندن :**
- إعادة بلاد الشام وشبه الجزيرة العربية إلى السلطان العثمانى.
- تثبيت محمد على فى حكم مصر.
- إعلان خضوع محمد على للسلطان العثمانى.

(جـ) **العبارة غير صادقة :** كانت المماليك أثناء العصر العثمانى من فئة الحكام بجانب الأتراك وكان لها كامل السلطات ولكن فى عهد محمد على تخلص منهم وانتهى نفوذهم كهيئة حاكمة وحل محلها أسرة محمد على.

(د) قام محمد على بالقضاء على الحركة الوهابية التى تهدد نفوذ الدولة العثمانية فى شبه الجزيرة العربية بأوامر من السلطان العثمانى.

٢ (أ) ① تولية محمد على حكم مصر (١٨٠٥م).
② ضم محمد على للسودان (١٨٢٠م : ١٨٢٢م).
③ معركة نفارين (١٨٢٧م).
④ إصدار محمد على لائحة إدارية جديدة (١٨٣٧م).

(ب) (١) **أجب بالرجوع إلى المفكرة ص ٧٢ دلل.**

(٢) **يترك للطالب حرية الإجابة فى ضوء :**
- سيتم التقليل من الواردات.
- سيصبح الميزان التجارى فى صالح مصر.
- سوف تنافس المصنوعات المحلية المصنوعات الأجنبية.

(جـ) **أجب بالرجوع إلى المفكرة ص ٦٦ بم تفسر.**

(د) **أجب بالرجوع إلى المفكرة ص ٦٠ أهم الجداول والمقارنات (النتائج).**

الوحدة 4

الدرس الأول

تدريب ١

١ (١) **خطأ :** حيث جعل سعيد باشا مدة الخدمة العسكرية سنة واحدة إجبارية للجميع.

(٢) **صواب :** حيث تأرجحوا بين إبداء مظاهر الميل لكل من فرنسا، وبريطانيا، والدولة العثمانية وكان ذلك على حساب مصر واستقلالها.

٢ (١) الإسكندرية. (٢) البريطانية.
(٣) تطوير وسائل النقل.

٣ ترتب على ذلك تأسيس شركة عامة لحفر قناة السويس واستثمارها لمدة ٩٩ سنة ابتداءً من تاريخ فتح القناة للملاحة.

٤ كان إصدار سعيد باشا «اللائحة السعيدية» فى أغسطس ١٨٥٨م سببًا فى تحسن أحوال الفلاح المصرى حيث أصبح له الحق فى توريث الأرض الزراعية.

٥ (١) **أجب بالرجوع إلى كتاب الشرح ص ١٩٩**

(٢) حيث شجع البعثات الأجنبية فى مصر على فتح مدارس لها بالقاهرة والإسكندرية وألغى ديوان المدارس.

(٣) **حيث كانت لصالح الشركة الأجنبية، فكان من أهم شروطها :**
- تنازل الحكومة المصرية للشركة مجانًا عن جميع الأراضى المملوكة لها والمطلوبة لإنشاء القناة المالحة وترعة المياه العذبة.
- للشركة الحق فى فرض ما تشاء من رسوم على السفن التى تمر فى القناة المالحة أو الترعة العذبة.
- يكون أربعة أخماس (٨٠ ٪) العمال من المصريين.
- تحصل مصر على ١٥ ٪ من صافى الأرباح مقابل الأراضى والامتيازات الممنوحة للشركة.

تدريب ٢

١ - **المجال الزراعى :** زادت مساحة الأراضى الزراعية.
- **المجال الصناعى :**
توسع فى إنشاء مصانع السكر بالوجه القبلى.
- **التعليم والنهضة العلمية :** أعاد فتح ديوان المدارس.
- **الجيش والبحرية :**
اهتم بتنظيم الجيش وتسليحه ومضاعفة قوته.
- **الأعمال العمرانية :** أنشأ دار الأوبرا المصرية.
- **وسائل الاتصال :**
مد الخطوط التلغرافية بين مختلف محافظات مصر.

٢ (١) بعثة كيف. (٢) المحاكم القنصلية.
(٣) نوبار باشا.

٣ أدى ذلك إلى تدخل الحكومتين البريطانية والفرنسية وقيامهما بالضغط على السلطان العثمانى فأصدر فرمانًا بخلع الخديو إسماعيل وتولية ابنه توفيق الحكم فى يونيه ١٨٧٩م.

٤ **أجب بالرجوع إلى كتاب الشرح ص ٢٠٦**

٥ لأن تولى إدارته مندوبون أجانب تنتدبهم الدول الدائنة لتسلم المبالغ المخصصة للديون من المصالح المختلفة والإشراف على تسديد الديون لأصحابها.

٦ **(١) حيث :**
- أسس مجلس شورى النواب عام ١٨٦٦م الذى يُعد بداية تاريخ المؤسسات النيابية فى مصر الحديثة.
- أدخل نظام الوزارة المسئولة عام ١٨٧٨م.
- وضع أول دستور فى مصر والذى عُرف باللائحة الأساسية بهدف إقامة حياة دستورية سليمة.

(٢) حيث اعتمد سعيد باشا على رؤوس الأموال الأجنبية وحدث أول قرض فى عهده واندفع فى الاستدانات واتبع الخديو إسماعيل خلال فترة حكمه نفس تلك السياسة للوفاء بالتزاماته ومشروعاته.

(٣) حيث وجه الخديو إسماعيل عدة حملات حربية إلى الأقاليم الاستوائية فى أفريقيا لمنع تجارة الرقيق.

أسئلة على الدرس الأول

١ (١) عباس باشا الأول.
(٢) القاهرة والإسكندرية.
(٣) سعيد. (٤) سعيد باشا.
(٥) سعيد. (٦) الإسماعيلية.
(٧) سعيد باشا. (٨) الخديو إسماعيل.
(٩) قصب السكر. (١٠) إسماعيل.
(١١) الخديو إسماعيل. (١٢) الخديو إسماعيل.
(١٣) الخديو إسماعيل. (١٤) المحاكم المختلطة.
(١٥) بريطانيا. (١٦) بعثة كيف.
(١٧) صندوق الدين. (١٨) المراقبة الثنائية.
(١٩) ، (٢٠) لجنة التحقيق العليا الأوروبية.
(٢١) الوزارة المختلطة. (٢٢) ضغط الوطنيين.
(٢٣) انهيار الاستقلال السياسى.

٢ (١) عباس باشا الأول.
(٢) جميع الأراضى المملوكة لها.
(٣) الخديو إسماعيل.

٣ **(١) صواب.** **(٢) صواب.** **(٣) صواب.**
(٤) خطأ : ... كانت مجحفة لمصر.
(٥) صواب. **(٦) صواب.**
(٧) خطأ : ... الخديو إسماعيل ...
(٨) خطأ : شملت ... كل المدن المصرية.
(٩) صواب. **(١٠) صواب.**
(١١) خطأ : ... على نهج سعيد باشا ...
(١٢) صواب. **(١٣) صواب.** **(١٤) صواب.**

٤ (١) اللائحة السعيدية. (٢) المحاكم القنصلية.
(٣) المحاكم المختلطة.

٥ (١) سعيد باشا. (٢) فردیناند دیلیسبس.
(٣) الخديو إسماعيل. (٤) الخديو إسماعيل.
(٥) توفيق.

٦ (١)، (٣) سعيد باشا. (٢) عباس باشا الأول.
(٤) : (٦) الخديو إسماعيل.

٧ **(١) أجب بالرجوع إلى المفكرة ص ٨٨ بم تفسر.**
(٢) لأن سعيد باشا أصدر اللائحة السعيدية التى بموجبها أصبح للفلاح الحق فى توريث الأرض الزراعية.
(٣) أجب بالرجوع إلى المفكرة ص ٩٨ دلل.
(٤) من أجل الوفاء بالتزاماته ومشروعاته.
(٥) ، (٨) ، (٩) أجب بالرجوع إلى المفكرة ص ٨٨ بم تفسر.
(٦) لأنه :
- أعاد نشاط الكثير من المصانع.
- توسع فى إنشاء مصانع السكر بالوجه القبلى.

(٧) بسبب اعتماده فى علاقته بالسلطان العثمانى على تقديم المال والهدايا من أجل الحصول على الفرمانات التى يوسع بها نطاق حكمه.
(١٠) تشجيعًا لهم على الإقامة والتجارة فى مصر.
(١١) ، (١٢) أجب بالرجوع إلى المفكرة ص ٨٩ بم تفسر.

٨ (١) أدى ذلك إلى ظهور بدايات الأزمة المالية فى مصر وعقد أول القروض من أحد البنوك البريطانية عام ١٨٦٢م والاستدانة من المرابين مقابل سندات على حساب الخزانة المصرية.

(٢) ، (٥) **أجب بالرجوع إلى المفكرة ص ٩٣ ما النتائج.**

(٣) ترتب على ذلك إنشاء صندوق الدين الذى تولى إدارته مندوبون أجانب تنتدبهم الدول الدائنة.

(٤) ترتب على ذلك تعيين مراقبين أجنبيين على المالية المصرية أحدهما بريطانى لمراقبة الإيرادات والآخر فرنسى لمراقبة المصروفات وعرف ذلك بنظام (المراقبة الثنائية).

٩ (١) **أجب بالرجوع إلى المفكرة ص ٩٨ دلل.**

(٢) **أجب بالرجوع إلى المفكرة ص ٨٤ أهم الجداول والمقارنات.**

(٣) حيث توسع فى إنشاء مصانع السكر بالوجه القبلى ومد الخطوط التلغرافية بين مختلف محافظات مصر وأنشأ مصلحة بريد مصرية لها مكاتب فى الإسكندرية والقاهرة والأقاليم.

(٤) ، (٥) **أجب بالرجوع إلى المفكرة ص ٩٩ دلل.**

(٦) **أجب بالرجوع إلى المفكرة ص ٧٧ أهم المخططات.**

(٧) **حيث تنازل الخديو إسماعيل عن :**

- سلطته المطلقة لوزارة مسئولة عن الحكم فى البلاد.
- أطيانه وأطيان عائلته ووضعها تحت الرقابة الدولية مقابل مخصصات مالية تُصرف لهم.

١٠ (١)

اللائحة السعيدية فى عهد سعيد	اللائحة الأساسية فى عهد إسماعيل
بموجبها أصبح للفلاح الحق فى توريث الأرض الزراعية.	تعد أول دستور فى مصر وتهدف إلى إقامة حياة دستورية سليمة.

(٢) ، (٣) **أجب بالرجوع إلى المفكرة ص ٨٥ أهم الجداول والمقارنات.**

١١ (١) **يترك للطالب حرية الإجابة فى ضوء :**

جاءت سياسة سعيد باشا الزراعية فى صالح الفلاح المصرى والزراعة بمصر **حيث تم :**

- إصدار اللائحة السعيدية التى أعطت للفلاح الحق فى توريث الأرض الزراعية.
- تطهير ترعة المحمودية لتفى حاجة الرى والزراعة.

(٢) **يترك للطالب حرية الإجابة فى ضوء :**

أنه كان بداية تاريخ المؤسسات النيابية فى مصر الحديثة.

(٣) **يترك للطالب حرية الإجابة فى ضوء :**

كان تصرف صحيح جاء استجابة للانتقادات التى وجهتها الحركة الوطنية للوزارة المختلطة، إلا أن هذا الإقصاء جاء متأخرًا بعد زيادة التدخل الأجنبى وظهر ذلك عندما تدخلت الحكومتين البريطانية والفرنسية للضغط على السلطان العثمانى لإصدار فرمان بعزل الخديو إسماعيل وتولية ابنه توفيق.

١٢ (١) منح امتياز تأسيس شركة عامة لحفر قناة السويس واستثمارها لمدة ٩٩ سنة ابتداءً من تاريخ فتح القناة للملاحة.

(٢) **يترك للطالب حرية الإجابة فى ضوء :**

الإنفاق ببذخ على احتفالات افتتاح قناة السويس أدى إلى ازدياد حدة الأزمة المالية فى مصر.

١٣ (١) سعيد باشا. (٢) المصالح الاقتصادية.

(٣) التعليم والثقافة.

(٤) أحد أسباب الأزمة المالية.

(٥) سعيد. (٦) الاهتمام بمشروعات الرى.

(٧) السلطة التنفيذية فى مصر.

١٤ (١) حيث قام سعيد بإلغاء ديوان المدارس وفى نفس الوقت شجع البعثات الأجنبية فى مصر على فتح مدارس لها بالقاهرة والإسكندرية.

(٢) حيث يعتبر عهد الخديو إسماعيل من أزهى الفترات وأكثرها تقدمًا وعمرانًا فى تاريخ مصر الحديث وفى نفس الوقت من أخطر الفترات التى تعرضت لها مصر من تدخل أجنبى فى شئونها بسبب الأخطاء التى أدت إلى تدهور أحوالها المالية وما تبعه من انهيار استقلالها السياسى.

١٥

	مشروع قناة السويس قديمًا	مشروع قناة السويس الجديدة
التمويل	* كان التمويل من الشركات الأجنبية.	* كان التمويل من أفراد الشعب المصرى والشركات الوطنية.
النتائج	* ازدياد التدخل الأجنبى فى مصر.	* ازدهار الاقتصاد المصرى.

١٦ تمثل وجه النقد فى :
كانت رئاسة القضاة فى المحاكم المختلطة للأجانب مما أدى إلى تدخلهم فى سلطة القضاء التشريعى المصرى وانحيازها للأجانب.

١٧ يترك للطالب حرية الإجابة فى ضوء :
- البُعد عن سياسة الاقتراض والإسراف.
- البُعد عن سياسة تقديم المال والهدايا التى اتبعها مع السلطان العثمانى.
- تعيين مراقبة وطنية بدلًا من المراقبة الثنائية الأجنبية.

١٨ يترك للطالب حرية الإجابة فى ضوء :
- لمصر الحق فى فرض ما تشاء من رسوم على السفن التى تمر فى القناة.
- تحصل مصر على نسبة أكبر من صافى الأرباح مقابل الأراضى والامتيازات الممنوحة للشركة.
- تقليل مدة الاستثمار فلا تزيد عن عشر سنوات.

امتحان على الدرس الأول

١ (أ) (١) سعيد باشا. (٢) الخديو إسماعيل.
(٣) صندوق الدين.

(ب) (١) لأن بها وزيران أجنبيان أحدهما بريطانى للمالية والآخر فرنسى للأشغال.
(٢) أجب بالرجوع إلى المفكرة ص ٨٩ بم تفسر.

(جـ)

وسيلة محمد على فى توسيع استقلاله عن الدولة العثمانية	وسيلة الخديو إسماعيل فى توسيع استقلاله عن الدولة العثمانية
اعتمد فى ذلك على المواجهة العسكرية ضد السلطان العثمانى التى انتهت بعقد معاهدة لندن عام ١٨٤٠م.	اعتمد فى ذلك على تقديم المال والهدايا للسلطان العثمانى فحصل على عدة فرمانات لتوسيع نطاق حكمه.

٢ (أ) (١) **صواب** : لأن القضاة الأجانب تولوا رئاسة المحاكم المختلطة مما أدى إلى تدخلهم فى سلطة القضاء التشريعى المصرى وانحيازهم للأجانب.
(٢) **خطأ** : حيث خضعت مالية مصر فى عهد الخديو إسماعيل للأجانب **من خلال** :
- إنشاء إدارة للمراقبة المالية.
- صندوق الدين.
- المراقبة الثنائية (أحدهما بريطانى لمراقبة الإيرادات، والآخر فرنسى لمراقبة المصروفات).

(٣) **صواب** : لأن سعيد باشا اهتم بالجيش فجعل مدة الخدمة العسكرية سنة إجبارية للجميع كما فتح باب الترقى أمام الضباط المصريين بينما فى عهد عباس باشا الأول قام بخفض حجم الجيش.

(ب) **العبارة صادقة** : حيث قام محمد على بتحسين طرق الرى فقام بحفر ترعة المحمودية وإنشاء العديد من القناطر على النيل أهمها القناطر الخيرية كما قام الخديو إسماعيل بحفر العديد من الترع أهمها ترعة الإبراهيمية وإنشاء قناطر على النيل.

(جـ) أجب بالرجوع إلى المفكرة ص ٩٣ ما النتائج.

(د) (١) وجه الخديو إسماعيل عدة حملات حربية إلى الأقاليم الاستوائية بقارة أفريقيا لمنع تجارة الرقيق والتوسع فى الجنوب والسيطرة على مياه النيل.
(٢) أقام الخديو إسماعيل العديد من الحفلات لافتتاح القناة ودعا إليها ملوك أوروبا وأنفق ببذخ على هذه الاحتفالات مما أدى إلى زيادة حدة الأزمة المالية.

الدرس الثانى

تدريب ١

١ (١)، (٢) **أجب بالرجوع إلى كتاب الشرح ص ٢١٨**
(٣) **حيث :**
- أسند الخديو الوزارة إلى شريف باشا بعد عزل رياض باشا.
- تم تشكيل مجلس النواب فى ديسمبر ١٨٨١م.

(٤) حيث أرسلتا المذكرة المشتركة الأولى وأيدتا فيها رغبتهما الصريحة فى حل مجلس النواب وتأييدهما التام لموقف الخديو ومساندته ضد الحركة الوطنية.

٢ ترتب على ذلك إرسال بريطانيا وفرنسا قطعًا من أسطولهما إلى الإسكندرية كما أرسلتا المذكرة المشتركة الثانية التى طالبت بإقالة وزارة البارودى وإبعاد عرابى وزملائه خارج البلاد.

٣ (١) رياض باشا. (٢) محمود سامى البارودى.
(٣) شريف باشا.

٤ أجب بالرجوع إلى كتاب الشرح ص ٢١٩

٥

اللائحة الأساسية فى عهد وزارة شريف	اللائحة الأساسية فى عهد وزارة البارودى
* لم تتضمن : حق مجلس النواب فى مناقشة الميزانية وإقرارها.	* تضمنت : • حق مجلس النواب فى مناقشة الميزانية وإقرارها. • مبدأ مسئولية الوزارة أمام مجلس النواب.

تدريب ٢

١ (١) **صواب** : حيث قامت المحكمة العسكرية الإنجليزية بإصدار حكم بنفى زعماء الثورة العرابية إلى جزيرة سيلان بالهند.

(٢) **خطأ** : حيث نزلت القوات البريطانية شواطئ مدينة الإسكندرية ورغم دفاع الأهالى والجنود المصريين عن المدينة تم احتلالها وانسحب العرابيون إلى كفر الدوار.

(٣) **خطأ** : حيث قامت إدارة شركة القناة «ديليسبس» بالتواطؤ مع الإنجليز وسمحت لهم بالمرور فاجتاحت السفن البريطانية دون مراعاة لوضعها بالنسبة للملاحة الدولية.

٢ (١) راغب باشا. (٢) ديليسبس.

٣ حيث نتج عن الخلاف الذى حدث بالإسكندرية بين أحد المصريين وأحد الرعايا الأجانب وقوع ضحايا من الجانبين فدعا ممثلوا الدول العظمى إلى مؤتمر الآستانة للنظر فى المسألة المصرية.

٤ عقد عرابى مجلسًا عسكريًا للنظر فى أمر قناة السويس وأجمع ذلك المجلس على ضرورة تعطيل الملاحة فى القناة وفقًا للاتفاقيات الدولية.

٥ (١) **ترتب على ذلك** :
- اجتماع قناصل الدول الأجنبية بالإسكندرية.
- سفر الخديو توفيق إلى الإسكندرية بحجة تهدئة الأوضاع.

(٢) **ترتب على ذلك** :
- إصدار الخديو أمر بعزل عرابى من وزارة الحربية فى يوليو ١٨٨٢م وتحذير المصريين من الانضمام إليه.
- إظهار عرابى بمظهر العاصى لأوامر الخديو إلا أن الأمة ازدادت تماسكًا.

(٣) ترتب على ذلك انسحاب القوات البريطانية من كفر الدوار إلى الإسكندرية وتحركها إلى منطقة قناة السويس واجتياحهم لها.

٦ (١) حيث صمد الضابط محمد عبيد بقواته أمام القوات البريطانية وقاتلهم قتالاً شديدًا إلى أن استشهد هو ومعظم رجاله.

(٢) **حيث** :
- عدم تكافؤ القوة العسكرية بين قوات الاحتلال البريطانى والقوات المصرية.
- تواطؤ إدارة شركة قناة السويس مع الجيش الإنجليزى.
- ميل بعض عناصر القوات المصرية للخديو والبريطانيين.
- عدم إدراك قيادة الثورة العرابية لأهمية التعبئة الشعبية لمساندة القوات المصرية فى معاركها.

أسئلة على الدرس الثانى

١ (١) دورهم فى عزل أبيه. (٢) البارودى.
(٣) رياض. (٤) إقالة ناظر الجهادية.
(٥) النواب.
(٦) رفضهما للحياة النيابية فى مصر.
(٧) : (٩) البارودى. (١٠) راغب.
(١١) ضرب بريطانيا مدينة الإسكندرية.
(١٢) كفر الدوار. (١٣) الاتفاقيات الدولية.
(١٤) التل الكبير. (١٥) عبد الله النديم.
(١٦) منشور السلطان بعصيان عرابى.
(١٧) التعبئة الشعبية.

٢ (١) **صواب**. (٢) **خطأ** : رفض ...
(٣) **خطأ** : تعددت أسباب الثورة العرابية فيما بين الجوانب السياسية والاقتصادية والعسكرية.
(٤) **صواب**.
(٥) **خطأ** : ... فى مظاهرة عابدين.
(٦) **صواب**.
(٧) **خطأ** : فشلت إنجلترا وفرنسا فى تحقيق ...
(٨) **صواب**.

٣ (١) احتلال.
(٢) معركة التل الكبير. (٣) جزيرة سيلان.

٤ (١) عثمان رفقى. (٢) شريف باشا.
(٣) محمود سامى البارودى.
(٤) أحمد عرابى. (٥) الخديو توفيق.

٥ (١) لأنه أدرك مدى قوة وتسلط النفوذ الأجنبى فى مصر وخاصة بعد عزل أبيه الخديو إسماعيل.
(٢) : (٤) أجب بالرجوع إلى المفكرة ص ٨٦ أهم الجداول والمقارنات.
(٥) ، (٦) أجب بالرجوع إلى المفكرة ص ٩٠ بم تفسر.

٦ **(١) : (٣) أجب بالرجوع إلى المفكرة ص ٩٣ ما النتائج.**
(٤) : (٦) أجب بالرجوع إلى المفكرة ص ٩٤ ما النتائج.
(٧) ، (٨) أجب بالرجوع إلى المفكرة ص ٩٥ ما النتائج.

٧ **(١)، (٣) أجب بالرجوع إلى المفكرة ص ١٠٢ ماذا يحدث.**
(٢) يترك للطالب حرية الإجابة فى ضوء :
لن تستطع القوات البريطانية دخول الإسماعيلية وبالتالى لم تتقدم بريطانيا نحو القصاصين والتل الكبير والقاهرة.

٨ (١) حيث أعاد نظام المراقبة الثنائية ورفض اللائحة الأساسية لمجلس النواب ووضع نفسه تحت حماية إنجلترا وفرنسا بإسناد الوزارة إلى رياض باشا.
(٢) حيث استجاب الخديو توفيق لمطلبهم فعزل عثمان رفقى وعين محمود سامى البارودى بدلًا منه ناظرًا للجهادية.

٩ **يترك للطالب حرية الإجابة فى ضوء :**
- كان ذلك سببًا فى تسرب روح الهزيمة واليأس مما أدى إلى تسهيل تقدم القوات البريطانية نحو القاهرة ودخولها.
- عدم إدراك قيادة الثورة العرابية (عرابى) لأهمية التعبئة الشعبية لمساندة القوات المصرية فى معاركها.

١٠ **(١)، (٢) أجب بالرجوع إلى المفكرة ص ١٠١ ما العلاقة.**
(٣) من عوامل اندلاع الثورة العرابية اضطهاد عثمان رفقى باشا ناظر الجهادية (وزير الحربية) للضباط المصريين وعدم ترقيهم.

١١ (١)

نتائج معركة كفر الدوار	نتائج معركة التل الكبير
* تمكن العرابيون من صد هجمات القوات البريطانية. * انسحاب القوات البريطانية من كفر الدوار إلى الإسكندرية وتحركهم إلى منطقة قناة السويس.	* هزيمة الجيش المصرى على الرغم من البطولات والمقاومة الباسلة للعرابيين. * اتجاه القوات البريطانية إلى القاهرة لاحتلالها.

(٢) أجب بالرجوع إلى المفكرة ص ٨٦ أهم الجداول والمقارنات (محتواها).

١٢ ① حادثة قصر النيل (يناير ١٨٨١م).
② المذكرة المشتركة الأولى (يناير ١٨٨٢م).
③ تشكيل وزارة البارودى (فبراير ١٨٨٢م).
④ دخول البريطانيين القاهرة (سبتمبر ١٨٨٢م).
⑤ محاكمة زعماء الثورة العرابية (ديسمبر ١٨٨٢م).

١٣ (١) حرمانهم من حقوقهم. (٢) مظاهرة عابدين.
(٣) مناقشة الميزانية وإقرارها.
(٤) إرسال المذكرة المشتركة الثانية.
(٥) فشل الإنجليز فى دخول القاهرة من غرب الدلتا.
(٦) الروح المعنوية للجنود. (٧) راغب.
(٨) اعتمدوا على عهود إدارة القناة.

١٤ بهدف وقف مقاومة المصريين ضد الإنجليز لإفشال الثورة العرابية.

امتحان على الدرس الثانى

١ **(أ)** (١) سعيد باشا. (٢) رياض.
(٣) فرنسا. (٤) التل الكبير.

(ب) كان إصدار السلطان العثمانى منشورًا بإعلان عصيان عرابى سببًا فى إضعاف الروح المعنوية للمقاتلين المصريين بالتل الكبير وكان ذلك أحد أسباب هزيمتهم وفشل الثورة العرابية.

(جـ) الأثر الناتج عن عزل عرابى من وزارة الحربية أن الأمة المصرية ازدادت تماسكًا وصممت على مقاومة المعتدين بينما فرمان السلطان العثمانى بعصيان عرابى أدى إلى إضعاف الروح المعنوية للمقاتلين المصريين.

٢ (أ) (١) مظاهرة عابدين. (٢) وزارة البارودى.

(ب) (١) حيث اجتاحت السفن البريطانية القناة دون مراعاة لوضعها بالنسبة للملاحة الدولية.

(٢) **حيث :**

- **فى نهاية حكم الخديو إسماعيل :** وجهت الحركة الوطنية الانتقادات للوزارة المختلطة مما أدى إلى قيام إسماعيل بإقصاء الوزيرين الأجنبيين عن الوزارة وإصدار مرسوم فى أبريل ١٨٧٩م بتسوية الديون طبقًا لما قررته اللائحة الوطنية.
- **فى بداية حكم الخديو توفيق :** ظهر تأثير الحركة الوطنية بعد حادثة قصر النيل وكذلك عند تنفيذه لمطالب مظاهرة عابدين.

(٣) **حيث استغلت بريطانيا بعض الأحداث مثل :**

- المعركة التى دارت بين الرعايا الأجانب والمصريين فى الإسكندرية ونتج عنها قتلى من الجانبين واجتماع قناصل الدول الأجنبية بالإسكندرية.
- بقاء البلاد بدون وزارة لمدة أسبوعين.
- عقد ممثلوا الدول العظمى مؤتمر بالآستانة وقرروا عدم تدخل الدول منفردة فى المسألة المصرية وانتهزت إنجلترا الفرصة لاحتلال مصر.

(ج) **ترتب على ذلك :**

- إثارة الجدل بين شريف والنواب فقامت بريطانيا وفرنسا بإرسال المذكرة المشتركة الأولى.
- استقالة شريف باشا لإصرار مجلس النواب على مناقشة الميزانية.

الدرس الثالث

تدريب ١

١ (١) **خطأ :** ... ضابط إنجليزى.

(٢) **صواب.** (٣) **صواب.**

٢ (١) المعتمد البريطانى. (٢) القطن.

(٣) كبار ملاك الأراضى.

٣ قامت سلطات الاحتلال البريطانى بإلغاء مجلس النواب الذى انتخب عام ١٨٨١م، وإنشاء مجالس صورية لا سلطة لها تتمثل فى مجلس شورى القوانين والجمعية العمومية، ثم أنشئت الجمعية التشريعية.

٤ **حيث تمثلت الحجج فى :**

- حماية الخديو وتدعيم سلطته.
- تأمين حياة الأجانب ومصالحهم.
- القضاء على الثورة العرابية.

٥ **العبارة غير صادقة :**

حيث قام الاحتلال بمحاربة الصناعة المصرية بتسويق المنتجات البريطانية والأجنبية فى السوق المصرية.

تدريب ٢

١ (١) حيث اهتم بالجانب الثقافى فأسس جريدة اللواء عام ١٩٠٠م ودعا إلى إنشاء الجامعة المصرية والتى أنشئت عام ١٩٠٨م (جامعة القاهرة حاليًا).

(٢) حيث تخلت فرنسا عن مساندة مصطفى كامل بعقدها الاتفاق الودى مع إنجلترا عام ١٩٠٤م.

(٣) حيث نجح محمد فريد - بتأييد من الرأى العام - فى إجبار الحكومة المصرية على دعوة مجلس شورى القوانين والجمعية العمومية لمناقشة طلب شركة قناة السويس فى مد الامتياز أربعين عامًا أخرى مما أدى إلى رفض الحكومة المصرية طلب الشركة.

٢ (١) حيث استغل مصطفى كامل حادثة دنشواى عام ١٩٠٦م فى التنديد بالاحتلال البريطانى وسياسته القمعية مما أدى إلى استقالة اللورد كرومر.

(٢) حيث طالب محمد فريد بإنشاء نقابات للعمال كما دعا إلى إنشاء مدارس الشعب الليلية لتعليم العمال مجانًا.

٣ من أجل تحقيق الاستقلال وإقامة حكومة دستورية.

٤ **أدى ذلك إلى :**

- تعريف الرأى العام الأوروبى والقوى الدولية وفى مقدمتها فرنسا بحق مصر فى الاستقلال ورفضها الاحتلال وسياسته.
- التنديد بالاحتلال البريطانى وسياسته القمعية بعد حادثة دنشواى ١٩٠٦م.

٥ **العبارة صادقة** : حيث أدت موالاة الخديو عباس حلمى الثانى للاحتلال إلى اتجاه محمد فريد للجهاد ضد الاحتلال البريطانى والخديو فى وقت واحد والمطالبة بالجلاء والدستور.

أسئلة على الدرس الثالث

١ (١) حماية عرش الخديو.
(٢) دعم مصالحها الاقتصادية.
(٣) الأعيان. (٤) النسيجية.
(٥) إيقاظ وعى المصريين. (٦) حادثة دنشواى.
(٧) الاتفاق مع الإنجليز.
(٨) الإنجليز وعباس حلمى الثانى.
(٩) الضغط الشعبى.

٢ (١) ... فى يد المعتمد البريطانى.
(٢) ... ضابط إنجليزى.
(٣) ... تهدف إلى خدمة المصالح البريطانية.
(٤) ... محمد فريد ...

٣ (١) القطن.
(٢) طبقة كبار مُلاك الأراضى الزراعية والأعيان.
(٣) الاتفاق الودى. (٤) حادثة دنشواى.

٤ (١) ، (٢) مصطفى كامل. (٣) محمد فريد.
(٤) الخديو عباس حلمى الثانى.

٥ (١) لأن سلطات الاحتلال البريطانى ألغت مجلس النواب الذى انتخب عام ١٨٨١م وأنشأت مجالس صورية لا سلطة لها (مجلس شورى القوانين والجمعية العمومية ثم أنشئت الجمعية التشريعية).
(٢) لأن سلطات الاحتلال البريطانى جعلت التعليم بمصروفات مرتفعة وحصره فى فئة قليلة بهدف تخريج مجموعة من الموظفين للعمل فى الإدارات والمصالح الحكومية.
(٣) لتعريف الرأى العام الأوروبى والقوى الدولية وفى مقدمتها فرنسا بحق مصر فى الاستقلال ورفضها للاحتلال وسياساته.
(٤) **أجب بالرجوع إلى المفكرة ص ٩٠ بم تفسر.**
(٥) لتعليم العمال والفقراء مجانًا.

٦ (١) ، (٢) **أجب بالرجوع إلى المفكرة ص ٩٥ ما النتائج.**
(٣) **أجب بالرجوع إلى المفكرة ص ٩٦ ما النتائج.**

٧ (١) ، (٣) **أجب بالرجوع إلى المفكرة ص ١٠٠ دلل.**
(٢) حيث أنشأ الإنجليز جيشًا مصريًا لا يتجاوز عدده ستة آلاف جندى يتولى قيادته ضابط إنجليزى وانحصرت مهمته فى إقرار الأمن وحفظ النظام.
(٤) **حيث :**
- أصبحت السلطة الفعلية فى يد المعتمد البريطانى.
- ألغت سلطات الاحتلال مجلس النواب وأنشأت مجالس صورية.
- أنشأ الإنجليز جيشًا مصريًا لا يتجاوز عدده ستة آلاف جندى يتولى قيادته ضابط إنجليزى.

(٥) حيث تخلت فرنسا عن مساندة مصطفى كامل بعقدها الاتفاق الودى مع إنجلترا عام ١٩٠٤م والذى نص على انفراد إنجلترا بحكم مصر مقابل انفراد فرنسا بحكم مراكش.

٨ **أجب بالرجوع إلى المفكرة ص ٧٨ أهم المخططات.**

٩ (١) **تتمثل فى :**
- مطالبته بإنشاء مجلس نيابى له سلطات واسعة.
- نجاحه بتأييد من الرأى العام فى إجبار الحكومة المصرية على دعوة مجلس شورى القوانين والجمعية العمومية لمناقشة طلب شركة قناة السويس فى مد الامتياز أربعين عامًا أخرى مما أدى إلى رفض الحكومة المصرية طلب الشركة.

(٢) **يترك للطالب حرية الإجابة فى ضوء :**
لم يتجه محمد فريد إلى الجهاد ضد الاحتلال البريطانى والخديو عباس حلمى الثانى فى وقت واحد، ويظل الخديو مسانداً للحركة الوطنية ضد الاحتلال البريطانى.

١٠ (١) إضعاف المقاومة.
(٢) الخديو عباس حلمى الثانى.

١١ (١) يرجع السبب إلى أن الاحتلال البريطانى جعل التعليم بمصروفات مرتفعة وحصره فى فئة قليلة وبذلك اقتصر التعليم على الأغنياء.
(٢) يرجع السبب إلى تخلى فرنسا عن مساندة مصطفى كامل فى كفاحه ضد الإنجليز وذلك بعد عقد فرنسا الاتفاق الودى مع إنجلترا عام ١٩٠٤م.

١٢ ترتب على ذلك ظهور طبقة من كبار ملاك الأراضى الزراعية والأعيان استفادت من هذه السياسة وارتبط نموها الاقتصادى باستمرار بقاء الاحتلال.

١٣ (١) **العبارة صادقة** : حيث إنه فى الوقت الذى حرص فيه الاحتلال البريطانى على إهمال التعليم وحصره فى فئة قليلة لخدمة مصالح الاحتلال جاء مصطفى كامل واهتم فى كفاحه بإنشاء الجامعة المصرية مما يزيد من الوعى فى مواجهة الاحتلال.

(٢) **العبارة غير صادقة** : حيث تحول الخديو عباس حلمى الثانى (السلطة الشرعية) عن تأييد الحركة الوطنية إلى موالاة الاحتلال (السلطة الفعلية).

(٣) **العبارة صادقة** : حيث نجح محمد فريد بتأييد من الرأى العام فى إجبار الحكومة المصرية على دعوة مجلس شورى القوانين والجمعية العمومية لمناقشة طلب شركة قناة السويس فى مد الامتياز أربعين عام أخرى وأدى ذلك إلى رفض الحكومة المصرية طلب الشركة.

(٤) **العبارة صادقة** : حيث دعا محمد فريد إلى إنشاء مدارس الشعب الليلية وجعل التعليم إلزامى وبالمجان للمرحلة الابتدائية.

امتحان على الدرس الثالث

١ (أ) (١) الحكومة المصرية. (٢) الحزب الوطنى.
(٣) تأسيس الصحف الوطنية.
(٤) مصطفى كامل. (٥) القطن.

(ب) أجب بالرجوع إلى المفكرة ص ٧٩ ما المقصود.

(جـ) يترك للطالب حرية الإجابة فى ضوء :
كانت سياسة ضارة بالاقتصاد المصرى حيث عملت بريطانيا على فرض سياسة اقتصادية تخدم مصالحها فتوسعت فى زراعة القطن لتوفير المادة الخام اللازمة للمصانع البريطانية كما حاربت الصناعة المصرية بتسويق المنتجات البريطانية والأجنبية فى الأسواق المصرية.

٢ (أ) (١) ، (٣) عباس حلمى الثانى.
(٢) الخديو توفيق.

(ب) حيث طالب الوطنيين فى مظاهرة عابدين بزيادة عدد الجيش إلى ١٨ ألف جندى ولكن عندما احتلت إنجلترا مصر قامت بإنشاء جيشًا مصريًا لا يتجاوز عدده ستة آلاف جندى ويتولى قيادته ضابط إنجليزى وانحصرت مهمة هذا الجيش فى إقرار الأمن وحفظ النظام.

(جـ) كلاهما اهتما بالتعليم حيث :
- مصطفى كامل دعا إلى إنشاء الجامعة المصرية والتى أنشئت عام ١٩٠٨م.
- محمد فريد : دعا إلى إنشاء مدارس الشعب الليلية لتعليم العمال والفقراء مجانًا، كما دعا إلى جعل التعليم إلزاميًا وبالمجان فى المرحلة الابتدائية.

الدرس الرابع

تدريب ١

١ (١) **صواب** : لأن سلطات الاحتلال البريطانى رفضت وقامت بالقبض على سعد زغلول وزملائه ونفيهم إلى جزيرة مالطة فى مارس ١٩١٩م وكان سببًا فى إشعال ثورة ١٩١٩م.

(٢) **خطأ** : حيث اندلعت ثورة ١٩١٩م فى القاهرة وامتدت إلى كافة المدن والأقاليم.

٢ (١) حيث أعلن الرئيس الأمريكى ولسن أثناء الحرب العالمية الأولى حق الشعب فى تقرير مصيره ولكن بعد انتهاء الحرب اعترف بالحماية البريطانية على مصر.

(٢) حيث شارك فى ثورة ١٩١٩م جميع فئات وعناصر الشعب المصرى مما يؤكد على الوحدة الوطنية بين أبناء الأمة المصرية.

٣ **أجب بالرجوع إلى كتاب الشرح ص ٢٤٨**

٤ حيث كانت الإجراءات العنيفة التى اتخذتها سلطات الاحتلال البريطانى أثناء الحرب العالمية الأولى (١٩١٤م-١٩١٨م)، وإعلان الرئيس الأمريكى ولسن (خلال تلك الحرب) المبادئ الأربعة عشر ومنها حق الشعوب فى تقرير مصيرها من أهم العوامل التى ساهمت فى قيام ثورة ١٩١٩م.

٥ **أجب بالرجوع إلى كتاب الشرح ص ٢٤٧**

تدريب ٢

١ (١) عبدالخالق ثروت. (٢) سعد زغلول.
(٣) زيور باشا.

٢ (١) **العبارة صادقة** : حيث ترتب على نفى سعد زغلول للمرة الثانية تجدد ثورة المصريين ومقاطعة الشعب البضائع الإنجليزية مما اضطر الحكومة البريطانية للإفراج عن سعد زغلول.
(٢) **العبارة غير صادقة** : حيث فشلت المفاوضات بينهما ولم تصل إلى نتيجة مما أدى إلى استقالة عدلى يكن من الوزارة.
(٣) **العبارة غير صادقة** : لأن رغم تعدد تلك الأحزاب إلا أنها لم تؤد لإثراء الحياة النيابية حيث كانت أداة للقصر الملكى ولبريطانيا لتحقيق مصالحهما دون النظر لمصالح الشعب المصرى.
(٤) **العبارة صادقة** : حيث ترتب على تصريح ٢٨ فبراير ١٩٢٢م إعلان السلطان فؤاد نفسه ملكًا على مصر وإعادة وزارة الخارجية المصرية وتشكيل وزارة عبدالخالق ثروت باشا لجنة من ثلاثين عضوًا لإعداد الدستور الذى عُرف بدستور ١٩٢٣م.

٣ (١) لإقناع الشعب المصرى بقبول الحماية البريطانية.
(٢) أجب بالرجوع إلى كتاب الشرح ص ٢٥٠

٤ **ترتب على ذلك :**
- معارضة الشعب المصرى لدستور ١٩٣٠م وقيامهم بالعديد من المظاهرات للمطالبة بإلغاء الدستور.
- اضطرار الملك فؤاد إلى الرضوخ لمطالب الأمة وإعادة دستور ١٩٢٣م.

٥ ، ٦ **أجب بالرجوع إلى كتاب الشرح ص ٢٥٠**

تدريب ٣

١ (١) مصطفى النحاس. (٢) الملك فاروق.

٢ بسبب إصرار بريطانيا على أن تعلن مصر الحرب على دول المحور أثناء الحرب العالمية الثانية وهو ما كانت ترفضه الحكومة المصرية (لاتباع سياسة تجنب مصر ويلات الحرب).

٣ حيث رفض جنود الشرطة المصرية التسليم لقوات الاحتلال البريطانى عندما حاصروا مبنى المحافظة بالإسماعيلية لنزع السلاح منهم مما أدى إلى وقوع الصدام بينهم فى ٢٥ يناير ١٩٥٢م واستشهد الكثير من المصريين.

٤ (١) حيث نصت معاهدة ١٩٣٦م على استمرار إدارة السودان وفقًا لاتفاقية الحكم الثنائى يناير ١٨٩٩م مع عودة القوات المصرية إلى السودان.
(٢) وقعت حادث ٤ فبراير ١٩٤٢م بسبب مماطلة الملك فاروق فى الاستجابة لمطلب بريطانيا بتشكيل حكومة جديدة برئاسة مصطفى النحاس حيث قامت بريطانيا بتقديم إنذار للملك وتهديده بخلعه عن العرش مما أدى إلى قبول الإنذار وتكليف مصطفى النحاس بالوزارة.

٥ (١) ترتب على ذلك اضطرار بريطانيا إلى عقد معاهدة مع مصر وهى معاهدة ١٩٣٦م.
(٢) أجب بالرجوع إلى كتاب الشرح ص ٢٥٣
(٣) ترتب على ذلك :
- إطلاق الحرية للشعب للنضال المسلح ضد القوات البريطانية فى القناة فقامت جماعات الفدائيين بمهاجمة المعسكرات البريطانية.
- عمدت الحكومة المصرية إلى زيادة عدد جنود الشرطة لمساعدة الفدائيين.

أسئلة على الدرس الرابع

١ (١) امتلاك الإنجليز للسلطة الفعلية.
(٢) السير ونجت.
(٣) اعتقال أعضاء الوفد المصرى.
(٤) مقاطعة الشعب للجنة ملنر.
(٥) تغيير لقب حاكم مصر. (٦) سيشل.
(٧) إصدار تصريح ٢٨ فبراير ١٩٢٢م.
(٨) عبدالخالق ثروت. (٩) سلطان.
(١٠) وجود سلطات واسعة للملك.
(١١) زيور باشا.
(١٢) إسماعيل صدقى. (١٣) دستور ١٩٣٠م.

(١٤) ظهور بوادر حرب عالمية جديدة.
(١٥) مقتل السير لى ستاك. (١٦) معاهدة ١٩٣٦م.

٢ (١) فؤاد الأول. (٢) مونترو.
(٣) مجلس الأمن. (٤) الجمعية التشريعية.

٣ (١) **خطأ** : ... بريطانيا ...
(٢) **خطأ** : ... سعد زغلول ... (٣) **صواب.**
(٤) **خطأ** : ... مع كيرزون ... (٥) : (٧) **صواب.**
(٨) **خطأ** : أعطى دستور ١٩٣٠م للملك المزيد من السلطات.
(٩) **صواب.**
(١٠) **خطأ** : غيرت معاهدة ١٩٣٦م ...
(١١) : (١٤) **صواب.**

٤ (١) الرئيس الأمريكى ولسن.
(٢) ملنر. (٣) السلطان فؤاد الأول.
(٤) ، (٥) مصطفى النحاس.

٥ **أجب بالرجوع إلى المفكرة ص ٧٩ ما المقصود.**

٦ (١) ، (٣) ، (٤) **أجب بالرجوع إلى المفكرة ص ٩١ بم تفسر.**
(٢) **أجب بالرجوع إلى المفكرة ص ٨٦ أهم الجداول والمقارنات (الأسباب).**
(٥) : (٧) **أجب بالرجوع إلى المفكرة ص ٩٢ بم تفسر.**

٧ (١) **أدى ذلك إلى أن :**
- أصبح الوفد المصرى برئاسة سعد زغلول يمثل الأمة.
- رفض سلطات الاحتلال البريطانى مطالب الوفد وقيامها بالقبض على سعد زغلول وزملائه ونفيهم إلى جزيرة مالطة وبالتالى إشعال ثورة ١٩١٩م.

(٢) ، (٣) **أجب بالرجوع إلى المفكرة ص ٩٦ ما النتائج.**
(٤) : (٦) **أجب بالرجوع إلى المفكرة ص ٩٧ ما النتائج.**

٨ (١) **يترك للطالب حرية الإجابة فى ضوء :**
لكان ذلك اعتراف من الشعب المصرى بتنازله عن توكيلاته للوفد المصرى، وقبوله الحماية البريطانية.
(٢) **أجب بالرجوع إلى المفكرة ص ١٠٢ ماذا يحدث.**

(٣) **يترك للطالب حرية الإجابة فى ضوء :**
- لم يخرج الشعب فى مظاهرة للمطالبة بإلغاء دستور ١٩٣٠م.
- استمر العمل بدستور ١٩٣٠م ليكون الدستور الساري لمصر.
- أصبح للملك فؤاد الأول مزيدًا من السلطات.
- إهدار سلطة الأمة وحقوقها فى مواضع كثيرة.

(٤) **يترك للطالب حرية الإجابة فى ضوء :**
- لن ينتهى احتلال مصر عسكريًا.
- لن تستطيع مصر عقد المعاهدات السياسية مع الدول الأجنبية.
- لن تنضم مصر إلى عضوية عصبة الأمم.
- لن يعود الجيش المصرى للسودان.
- لن يتم إلغاء الامتيازات الأجنبية.

٩ (١) **يترك للطالب حرية الإجابة فى ضوء :**
- **مزايا الدستور** : كان خطوة فى تقرير مبدأ الأمة مصدر السلطات وكان نهاية للحكم المطلق وأقر مبدأ المساواة بين جميع المصريين فى الحقوق والواجبات واحترام الحريات العامة.
- **عيوب الدستور** : أعطى الملك سلطات واسعة إزاء السلطتين التشريعية والتنفيذية فكان من حقه حل البرلمان والدعوة لانتخابات جديدة.

(٢) **يترك للطالب حرية الإجابة فى ضوء :**
كان إلغاء مصطفى النحاس لمعاهدة ١٩٣٦م سببًا فى إطلاق الحرية للشعب للنضال المسلح ضد القوات البريطانية فى القناة مما أدى إلى مهاجمة الفدائيين للمعسكرات البريطانية وأدى ذلك إلى زيادة روح المقاومة لدى المصريين.

(٣) **يترك للطالب حرية الإجابة فى ضوء :**
تمسك رجال الشرطة بالقيام بدورهم فى حماية منشآت الدولة.

(٤) **يترك للطالب حرية الإجابة فى ضوء :**
إنه تصرف حكيم لأن هدف الحكومة المصرية كان تجنيب البلاد ويلات الحرب.

١٠

أسباب إنذار اللورد اللنبى للحكومة المصرية ٢٢ نوفمبر عام ١٩٢٤م	أسباب الإنذار البريطانى للحكومة المصرية ٤ فبراير عام ١٩٤٢م
اغتيال السير لى ستاك القائد العام للجيش المصرى والحاكم العام للسودان.	مماطلة الملك فاروق على الطلب البريطانى بتشكيل حكومة جديدة برئاسة مصطفى النحاس باشا.

١١ (١) حيث اتخذت بريطانيا إجراءات عنيفة ضد المصريين أثناء الحرب العالمية الأولى مثل فرض الأحكام العرفية وفرض الرقابة على الصحف والمطبوعات.

(٢)، (٥) أجب بالرجوع إلى المفكرة ص ١٠١ دلل.

(٣) حيث تجددت ثورة المصريين وقاطع الشعب المصرى البضائع الإنجليزية مما اضطرت الحكومة البريطانية الإفراج عن سعد زغلول.

(٤) حيث رفض الشعب المصرى التفاوض مع لجنة ملنر لأن التفاوض معها يعنى التنازل عن الوكالة التى أعطاها للوفد المصرى.

(٦) حيث بعد اغتيال السير لى ستاك القائد العام للجيش المصرى والحاكم العام للسودان وجهت بريطانيا إنذارًا للحكومة المصرية برئاسة سعد زغلول طالبته بسحب الجيش المصرى من السودان مما أدى إلى استقالة وزارة سعد زغلول احتجاجًا على التدخل الأجنبى.

(٧) أجب بالرجوع إلى المفكرة ص ٨٧ أهم الجداول والمقارنات (المزايا).

١٢ **(١) تتمثل الأحداث فى :**

- إصدار بريطانيا تصريح ٢٨ فبراير ١٩٢٢م.
- حادث ٤ فبراير ١٩٤٢م حيث قامت بريطانيا بتوجيه إنذار للملك فاروق ومحاصرة قصر عابدين بالدبابات والتهديد بخلع الملك فاروق عن العرش.

(٢) أجب بالرجوع إلى المفكرة ص ٩٦ ، ٩٧ ما النتائج.

١٣ (١) ثورة ١٩١٩م.

(٢) كان مشاركة المرأة فى ثورة ١٩١٩م دليلًا على أنها ثورة شاملة جمعت كل فئات الشعب المصرى مما يؤكد على حدوث تطور فى المجتمع المصرى.

١٤ (١) حيث نتج عن اغتيال السير لى ستاك تقديم المندوب السامى البريطانى اللورد اللنبى إنذارًا للحكومة المصرية طلب فيها عدة مطالب منها سحب الجيش المصرى من السودان وقد رفضت وزارة سعد زغلول مطالبهم وقامت بتقديم استقالتها.

(٢) لأنها بالرغم من تعددها لم تؤد إلى إثراء الحياة النيابية حيث كانت الأحزاب السياسية أداة للقصر الملكى ولبريطانيا دون النظر لمصالح الشعب المصرى.

١٥ (١) شق وحدة الصف المصرى.

(٢) المقاومة السلبية للشعب المصرى.

(٣) إعادة العمل باتفاقية الحكم الثنائى.

١٦ **العبارة غير صادقة :**

لأنه أثناء الحرب العالمية الأولى أعلنت إنجلترا الحماية البريطانية على مصر مما يعنى إنهاء التبعية للسيادة العثمانية.

١٧ **يترك للطالب حرية الإجابة فى ضوء :**

قامت وزارة إسماعيل صدقى بإلغاء دستور ١٩٢٣م ووضع دستور ١٩٣٠م الذى أعطى الملك مزيدًا من السلطات وأهدر سلطة الأمة وحقوقها فى مواضع كثيرة.

١٨ (١) - ادعاء إنجلترا وحلفائها بأنها تحارب من أجل حرية الشعوب واستقلالها.

- إعلان الرئيس الأمريكى ولسن المبادئ الأربعة عشر ومنها حق الشعوب فى تقرير مصيرها.

(٢) حيث كانت :

- **المرة الأولى** : عندما سارعت جميع طوائف الشعب بجمع التوكيلات وإعطائها للوفد ليصبح ممثلًا للأمة.

- **المرة الثانية** : عندما شارك جميع فئات وعناصر الشعب المصرى أثناء ثورة ١٩١٩م مما يؤكد على الوحدة الوطنية بين أبناء الأمة المصرية.
- **المرة الثالثة** : عندما رفض الشعب التفاوض مع لجنة ملنر وقاطعها.

(٣) حيث تمثل ذلك فى :

- انضمام مصر لعضوية عصبة الأمم.
- حرية مصر فى عقد المعاهدات السياسية مع الدول الأجنبية بشرط ألا تتعارض مع المعاهدة.

امتحان على الدرس الرابع

١ **(أ) (١) صواب.**

(٢) خطأ : ... فؤاد الأول ...

(٣) صواب.

(ب) أجب بالرجوع إلى المفكرة ص ٨٧ أهم الجداول والمقارنات.

(جـ) حيث إنه :

- كان خطوة نحو تقرير مبدأ الأمة مصدر السلطات.
- وضع نهاية للحكم المطلق.
- قرر مبدأ المساواة بين جميع المصريين فى الحقوق والواجبات واحترام الحريات العامة.

(د) (١) ترتب على ذلك :

- استقالة وزارة سعد زغلول (لرفضه مطالب الإنذار البريطانى).
- تأليف وزارة زيور باشا والتى قبلت المطالب البريطانية.

(٢) ترتب على ذلك التأكيد على الوحدة الوطنية بين أبناء الشعب المصرى.

٢ **(أ) (١) الملك فؤاد الأول.**

(٢) ، (٣) الملك فاروق.

(ب) لتقديم مطالب الشعب لسلطات الاحتلال والسماح لهم بالسفر إلى مؤتمر الصلح بباريس سعيًا إلى استقلال مصر استقلالًا تامًا.

(جـ) (١) مصطفى النحاس.

(٢) أجب بالرجوع إلى المفكرة ص ٩٨ ما النتائج.

(د) يُعد إعلان الرئيس الأمريكى ولسن المبادئ الأربعة عشر ومنها حق الشعوب فى تقرير مصيرها من أهم عوامل قيام ثورة ١٩١٩م فى مصر.



إجابات
أسئلة كتاب المراجعة



١ إجابات المراجعة الشهرية

تقييمات الأسبوع الأول

المجموعة الأولى

(١) أجب بالرجوع إلى المفكرة ص ٦١ بم تفسر.
(٢) أجب بالرجوع إلى المفكرة ص ٥٦ أهم الجداول والمقارنات.
(٣) أجب بالرجوع إلى المفكرة ص ٧٤ ماذا يحدث.
(٤) حيث عانى الفلاح من :
- كثرة الضرائب المفروضة على الأراضى الزراعية وتعسف وظلم الملتزمين فى جمعها.
- عدم اهتمام الطبقة الحاكمة بتنظيم الرى وإقامة السدود وحفر الترع.

(٥) ترتب على ذلك أن اتسمت الحياة الفكرية والثقافية بالجمود والتخلف **مما أدى إلى :**
- اهتزاز مكانة الأزهر العلمية فى ذلك الوقت ولم يعد هناك اهتمام بالعلوم العقلية والرياضية والطبيعية ولكن كان هناك اهتمام بالعلوم الشرعية.
- تدهور الحياة الأدبية.
- انتشار الجهل والدجل والشعوذة والخرافات.

المجموعة الثانية

(١) حيث أدرك السلطان سليم الأول خطورة التوسع والصدام مع دول أوروبا بسبب تفوقها حضاريًا وعسكريًا على العثمانيين لذلك اتجه العثمانيون للتوسع نحو الشرق.

(٢) ترتب على ذلك أن الصناعات أصبحت يدوية بسيطة وكانت جميعها رديئة.

(٣) أجب بالرجوع إلى المفكرة ص ٦٢ بم تفسر.

(٤) **صواب : حيث** تدهورت التجارة الخارجية أثناء العصر العثمانى **بسبب :**
- تحول الطريق التجارى بين الشرق والغرب إلى طريق رأس الرجاء الصالح.
- منح الدولة العثمانية الامتيازات الأجنبية للدول الأوروبية.

(٥) يترك للطالب حرية الإجابة فى ضوء :
حيث انقسم المجتمع المصرى إلى :
- **فئة الحكام :** والتى تتمثل فى الأتراك والمماليك وكان لها كافة السلطات فى شئون الحكم والإدارة والجيش.
- **فئة المحكومين انقسمت إلى :**
  - طبقة وسطى تتكون من المشايخ وعلماء الأزهر ورجال الدين وكبار التجار.
  - طبقة دنيا تتكون من الفلاحين وصغار الحرفيين وعامة الناس.

المجموعة الثالثة

(١) أجب بالرجوع إلى المفكرة ص ٦٧ ما النتائج.
(٢) العبارة غير صادقة :
حيث تدهورت التجارة الداخلية فى مصر أثناء العصر العثمانى **بسبب :**
- تدهور الزراعة والصناعة. - افتقاد الأمن.
- إهمال الطرق البرية، والإغارات المتلاحقة لبدو الصحراء عليها.

(٣) أجب بالرجوع إلى المفكرة ص ٦٢ بم تفسر.
(٤) أجب بالرجوع إلى المفكرة ص ٦٩ دلل.
(٥) أجب بالرجوع إلى المفكرة ص ٥٣ ما المقصود.

تقييمات الأسبوع الثانى

المجموعة الأولى

(١) **العبارة صحيحة :** حيث يوجد فى قارة آسيا العديد من الجزر القريبة من سواحلها مثل جزر : اليابان، والفلبين، وإندونيسيا.

(٢) أجب بالرجوع إلى المفكرة ص ٤ أهم الجداول والمقارنات (الموقع الجغرافى).
(٣) أجب بالرجوع إلى المفكرة ص ١٢ ما المقصود.
(٤) حيث يحيط بها الماء من ثلاث جهات وهى :
- **شمالًا :** المحيط القطبى الشمالى.
- **جنوبًا :** البحر المتوسط.
- **غربًا :** المحيط الأطلنطى.

ماعدا الجهة الشرقية يحدها قارة آسيا.

(٥) أجب بالرجوع إلى المفكرة ص ١٥ ما النتائج.

المجموعة الثانية

(١) **العبارة غير صادقة :** حيث يحد قارة آسيا المحيطات من جميع الجهات ماعدا الجهة الغربية يحدها قارة أوروبا والبحر المتوسط والبحر الأحمر.

(٢) **أجب بالرجوع إلى المفكرة ص ١٢ ما المقصود.**

(٣) **يترك للطالب حرية الإجابة فى ضوء :**

لن يتم إنشاء الموانئ.

(٤) **يتمثل وجه الشبه فى أن كل منهما :**

- تطل من جهة الشرق على المحيط الأطلنطى، ومن جهة الغرب على المحيط الهادى.
- تشرف على البحر الكاريبى.

(٥) **حيث يمر بـ :** جنوب قارة آسيا، وشمال أفريقيا، وجنوب أمريكا الشمالية.

المجموعة الثالثة

(١) لأنها قارة متجمدة تقع أقصى جنوب الكرة الأرضية حول القطب الجنوبى ٩٠° جنوبًا.

(٢) حيث يمر بشمالها دائرة الاستواء وفى وسطها مدار الجدى.

(٣) **يترك للطالب حرية الإجابة فى ضوء :**

حيث يوجد بعض الدول الجزرية فى قارة أفريقيا مثل : جزيرة مدغشقر، وجزر القمر.

(٤) بحر آرافورا.

(٥) **أشباه الجزر بقارة آسيا :**

- شبه الجزيرة العربية.
- شبه جزيرة الملايو.

تقييمات الأسبوع الثالث

المجموعة الأولى

(١) **أجب بالرجوع إلى المفكرة ص ٥٣ ما المقصود.**

(٢) **خطأ :** حيث كان هناك مقاومة من أبناء الصعيد وأخفقت القوات الفرنسية فى إخضاعهم بسبب اتباعهم حرب المناوشات والمعارك المتفرقة التى أنهكت قوة الفرنسيين.

(٣) **أجب بالرجوع إلى المفكرة ص ٥٧ أهم الجداول والمقارنات.**

(٤) **أجب بالرجوع إلى المفكرة ص ٥٨ أهم الجداول والمقارنات (الأسباب).**

(٥) حيث من أسباب فشل دخول نابليون إلى عكا مساعدة الأسطول البريطانى وإمداده لعكا بالمؤن والذخائر مما أدى إلى فشل الحملة الفرنسية على الشام.

المجموعة الثانية

(١) **أجب بالرجوع إلى المفكرة ص ٧٤ ما العلاقة.**

(٢) **أجب بالرجوع إلى المفكرة ص ٦٤ بم تفسر.**

(٣) **أجب بالرجوع إلى المفكرة ص ٥٧ أهم الجداول والمقارنات (النتائج).**

(٤) **يترك للطالب حرية الإجابة فى ضوء :**

تعرضت الحملة الفرنسية لعديد من المخاطر خلال قيادة كليبر لها **تمثلت فى :**

- تناقص عدد جنود الجيش الفرنسى بسبب المعارك والحروب الداخلية والخارجية.
- إرسال الدولة العثمانية لحملة جديدة إلى العريش ودمياط.
- عودة المماليك للمقاومة.
- تجدد ثورات المصريين فى الشرقية وامتدادها إلى وسط الدلتا وغربها.

(٥) **العبارة صادقة، حيث قاموا بـ :**

- تفتيش البيوت بحثًا عن الأموال.
- هدم أبواب الحارات لمطاردة عناصر المقاومة.
- هدم كثير من المبانى والآثار والمساجد بحجة تحصين القاهرة.

المجموعة الثالثة

(١) **أجب بالرجوع إلى المفكرة ص ٦٣ بم تفسر.**

(٢) حيث أحضر معه مطبعتين إحداهما عربية وذلك لطبع المنشورات للأهالى.

(٣) **أجب بالرجوع إلى المفكرة ص ٦٨ ما النتائج.**

(٤) **أجب بالرجوع إلى المفكرة ص ٥٣ ما المقصود.**

(٥) حيث أثرت الحملة الفرنسية على مصر فى نمو الروح القومية لدى المصريين وظهر ذلك واضحًا بعد خروج الحملة الفرنسية من مصر عندما تمسك المصريون بحقهم فى الحرية وفى اختيار حاكمهم.

تقييمات الأسبوع الرابع

المجموعة الأولى

(١) **العبارة غير صادقة : حيث توجد الجبال فى القارة فى :**

- أقصى شمال غرب القارة (جبال أطلس).
- شمال شرق القارة (جبال البحر الأحمر).
- شرق القارة (جبل كينيا وكلمنجارو).

(٢) **أجب بالرجوع إلى المفكرة ص ١٢ ما المقصود.**

(٣) **أجب بالرجوع إلى المفكرة ص ١٣ بم تفسر.**
(٤) – **السند** : البحر العربى (المحيط الهندى).
– **النيجر** : خليج غينيا.
– **الدانوب** : البحر الأسود.
– **نلسن** : خليج هدسن.
– **الأمازون** : المحيط الأطلنطى.
– **دارلنج** : الخليج الأسترالى الكبير.
(٥) حيث تتجمد أنهار السهول الشمالية (أوب وينسى ولينا) فى فصل الشتاء لذلك تفقد أهميتها الاقتصادية.

المجموعة الثانية

(١) **يتمثل وجه الشبه بينهما فى أن :**
السهول الساحلية تضيق فى شرق أستراليا بسبب اقتراب جبال الحاجز الكبير من ساحل المحيط الهادى، كما تضيق السهول الساحلية فى غرب أمريكا الجنوبية بسبب اقتراب جبال الإنديز من ساحل المحيط الهادى.
(٢) **أجب بالرجوع إلى المفكرة ص ١٣ بم تفسر.**
(٣) حيث تنبع روافد نهر النيل من هضبتى البحيرات الاستوائية وهضبة الحبشة (إثيوبيا).
(٤) **أجب بالرجوع إلى المفكرة ص ١٨ ماذا يحدث.**
(٥) لبرادور.

المجموعة الثالثة

(١) **العبارة صحيحة** : حيث يوجد بقارة آسيا سواحل داخلية مثل سواحل بحر قزوين.
(٢) **أجب بالرجوع إلى المفكرة ص ١٧ ما العلاقة.**
(٣) **يترك للطالب حرية الإجابة فى ضوء حيث :**
– يوجد به المدن الأوروبية الرئيسية مثل : باريس وبرلين.
– يتكون معظمه من رواسب طينية تمثل تربة جيدة صالحة للزراعة كونتها الأنهار.
(٤) ترتب على ذلك ضيق السهول الساحلية شرق قارة أستراليا.
(٥) **أجب بالرجوع إلى المفكرة ص ٦، ٨ أهم الجداول والمقارنات (السهول).**

تقييمات الأسبوع الخامس

المجموعة الأولى

(١) **أجب بالرجوع إلى المفكرة ص ٦٤ بم تفسر.**
(٢) **أجب بالرجوع إلى المفكرة ص ٧٠ دلل.**
(٣) كان فشل إنجلترا فى محاولة نقل محمد على وفقًا لفرمان ١٨٠٦م إلى ولاية سالونيك ووقوف الزعامة الشعبية بجواره سببًا فى مجىء الحملة الإنجليزية على مصر ١٨٠٧م لخلع محمد على من الحكم وتولية محمد بك الألفى.
(٤) **أجب بالرجوع إلى المفكرة ص ٥٩ أهم الجداول والمقارنات (النتائج).**
(٥) **أجب بالرجوع إلى المفكرة ص ٥٣ ما المقصود.**

المجموعة الثانية

(١) **العبارة صادقة** : حيث أخذت الزعامة الشعبية على (محمد على) العهود والمواثيق أن يحكم بالعدل وألا يبرم أمرًا إلا بمشورتهم.
(٢) دمياط.
(٣) **أجب بالرجوع إلى المفكرة ص ٥٨ أهم الجداول والمقارنات (الأهداف).**
(٤) **أجب بالرجوع إلى المفكرة ص ٧١ دلل.**
(٥) أدى ذلك إلى كسبه عطف الشعب وثقة زعمائه الذين نظروا إليه كرجل عادل يكره الظلم.

المجموعة الثالثة

(١) حيث ساعد محمد على فى التخلص من عمر مكرم انقسام القيادات الشعبية فيما بينها حول تقدير ومكانة عمر مكرم بين الناس حيث أخذ منافسوه يدسون له عند محمد على الذى انتهز هذه الفرصة لنفيه إلى دمياط عام ١٨٠٩م وخلعه من نقابة الأشراف.
(٢) **أجب بالرجوع إلى المفكرة ص ٦٥ بم تفسر.**
(٣) **أصدر فرمانًا فى ٩ يوليو ١٨٠٥م تضمن :**
– عزل خورشيد باشا.
– تعيين محمد على واليًا على حكم مصر.
(٤) **العبارة صادقة** : حيث قام الشعب المصرى بالعديد من الثورات ضد الولاة العثمانيين وزعماء المماليك كان أهمها ثورة الشعب المصرى فى مارس ١٨٠٤م.
(٥) **يترك للطالب حرية الإجابة فى ضوء :**
بالرغم من تخلص محمد على من المماليك ساعده على الانفراد بحكم مصر إلا أنه عمل يتنافى مع القيم الإنسانية والأخلاقية وجميع ما جاءت به الأديان السماوية.

اختباران على الشهر الأول

اختبار ١

١ (أ) (١) الهيمالايا. (٢) لبرادور. (٣) ②

(ب) (١) أجب بالرجوع إلى المفكرة ص ١٦ دلل.

(٢) حيث توجد فى قارة أفريقيا جزيرة مدغشقر وجزر القمر.

(٣) أجب بالرجوع إلى المفكرة ص ١٦ دلل.

(جـ) حيث تنبع من هضبة إثيوبيا روافد نهر النيل والذى يعد أساس قيام النشاط الزراعى لبعض دول قارة أفريقيا مثل مصر.

---

٢ (أ) (١) الهندى. (٢) الميزيتا.

(ب) (١) بسبب تعرج السواحل وكثرة الجزر بها.

(٢) أجب بالرجوع إلى المفكرة ص ١٣ بم تفسر.

(جـ) (١) العبارة صادقة : حيث تمر دائرة الاستواء بقارة آسيا وأفريقيا وأمريكا الجنوبية.

(٢) العبارة صادقة : حيث تقترب جبال أطلس من السهل الساحلى فى شمال غرب قارة أفريقيا.

(د) حيث يجرى بهما أنهار هامة مثل :

- نهر أورانج ولمبوبو فى هضبة جنوب أفريقيا.
- نهر السين فى هضبة فرنسا الوسطى.

---

٣ (أ) (١) **خطأ** : حيث اتخذ محمد على عدة أساليب للتخلص من المماليك منها : حرمانهم من تولى المناصب الرفيعة فى الدولة مثل مشيخة البلد ومطاردتهم فى كل مكان ودبر لهم مذبحة القلعة.

(٢) صواب : بسبب اكتشاف طريق رأس الرجاء الصالح عام ١٤٩٨م وتحطيم الأسطول المملوكى فى معركة ديو البحرية عام ١٥٠٩م.

(ب) (١) أدى ذلك إلى فشل حركة على بك الكبير وإعادة مصر ولاية عثمانية تحت حكم شيخ البلد محمد بك أبو الدهب.

(٢) أجب بالرجوع إلى المفكرة ص ٥٧ أهم الجداول والمقارنات (النتائج).

(جـ) أجب بالرجوع إلى المفكرة ص ٥٧ أهم الجداول والمقارنات.

٤ (أ) (١) السلطان سليم الأول. (٢) فريزر.
(٣) أحمد باشا الجزار. (٤) محمد كُريم.

(ب) (١) حيث وضعوا مشاريع لفتح أسواق لمصر فى بلاد البحر الأحمر وفى دارفور فى السودان والحبشة وبلاد شمال أفريقيا.

(٢) حيث شهدت فترة من الفوضى والاضطرابات والصراعات بين المماليك والعثمانيين وإنجلترا رغبة منهم فى السيطرة وبسط النفوذ على مصر.

(جـ) يترك للطالب حرية الإجابة فى ضوء :

- أصبحت الصناعات فى مصر يدوية بسيطة وجميعها رديئة.
- كان ذلك سببًا من أسباب تدهور الصناعة بمصر فى العصر العثمانى.

(د) أجب بالرجوع إلى المفكرة ص ٦٣ بم تفسر.

اختبار ٢

١ (أ) (١) مدار السرطان. (٢) إثيوبيا.
(٣) دراكنزبرج.

(ب) (١) هضبة التبت. (٢) الموقع الجغرافى.
(٣) القارة القطبية الجنوبية (أنتاركتيكا).

(جـ) (١) لأن السهول الساحلية فى أستراليا تتسع فى الغرب وتضيق فى الشرق بسبب اقتراب جبال الحاجز الكبير من المحيط الهادى.

(٢) أجب بالرجوع إلى المفكرة ص ١٣ بم تفسر.

(د) يتمثل أوجه الاختلاف فى : أن نهر المسيسبى يوجد فى قارة أمريكا الشمالية ويصب فى خليج المكسيك، بينما نهر النيجر يوجد فى قارة أفريقيا ويصب فى خليج غينيا.

---

٢ (أ) (١) يقع فى قارة أمريكا الجنوبية، ويصب فى المحيط الأطلنطى.

(٢) يقع فى قارة أمريكا الشمالية، ويصب فى خليج سانت لورانس.

(ب) (١) أجب بالرجوع إلى المفكرة ص ٦ أهم الجداول والمقارنات (السهول).

(٢) حيث تضم العديد من الجزر القريبة من سواحلها مثل جزر : اليابان، والفلبين وإندونيسيا.

(٣) أجب بالرجوع إلى المفكرة ص ١٣ بم تفسر.

(جـ)

	آسيا	أمريكا الشمالية
دوائر العرض الرئيسية المارة بها	* الدائرة القطبية الشمالية. * مدار السرطان. * دائرة الاستواء.	* الدائرة القطبية الشمالية. * مدار السرطان.
أهم جبالها	أجب بالرجوع إلى المفكرة ص ٥، ٧ أهم الجداول والمقارنات.	

٣ (أ) (١) العريش. (٢) خورشيد باشا.

(ب) (١) ترتب على ذلك :

- اهتزاز مكانة الأزهر العلمية فى ذلك الوقت ولم يعد هناك اهتمام بالعلوم العقلية والرياضية والطبيعية ولكن كان هناك اهتمام بالعلوم الشرعية.
- تدهور الحياة الأدبية.
- انتشار الجهل والدجل والشعوذة والخرافات.

(٢) أجب بالرجوع إلى المفكرة ص ٥٦ أهم الجداول والمقارنات (النتائج).

(٣) أجب بالرجوع إلى المفكرة ص ٥٨ أهم الجداول والمقارنات (النتائج).

(جـ) يترك للطالب حرية الإجابة فى ضوء :

إن ذلك كان بهدف تدريب الأعيان والعلماء المصريين على نظام مجالس الشورى من حيث الاستشارة وتلقى الآراء فيما يعود على الأهالى بالنفع العام فى مختلف المجالات.

(د) الدولة المملوكية – الدولة الصفوية – الدولة العثمانية.

٤ (أ) (١) كبار التجار. (٢) رودس.
(٣) الصعيد. (٤) سالونيك.

(ب) (١) العبارة غير صادقة، حيث :

- اصطحب نابليون مجموعة من العلماء فى مختلف العلوم والفنون.
- عمل نابليون على تطوير نظم الحكم والإدارة.
- اهتم الفرنسيون بوضع مشروعات إصلاحية فى المجالات الاقتصادية والاجتماعية.

(٢) العبارة صادقة : حيث اجتمع زعماء الشعب من العلماء ونقباء الطوائف فى ١٣ مايو ١٨٠٥م بدار المحكمة «بيت القاضى» وقرروا عزل خورشيد باشا من ولاية مصر وتولية محمد على بدلًا منه فكانت هذه أول مرة يُعزل فيها الوالى ويعين آخر بإرادة الشعب وشروطه.

(جـ) – أوجه الشبه :

قامت بهما الدولة العثمانية ضد الدولة المملوكية وانتصر فيهما السلطان العثمانى سليم الأول.

– أوجه الاختلاف :

- معركة مرج دابق حدثت بالشام وكان قائد المماليك السلطان الغورى وأصبحت بعدها الشام تحت الحكم العثمانى.
- معركة الريدانية حدثت بمصر وكان قائد المماليك طومان باى وانتهت فيها دولة المماليك نهائيًا وأصبحت مصر ولاية عثمانية.

تقييمات الأسبوع السادس

المجموعة الأولى

(١) أجب بالرجوع إلى المفكرة ص ١٦ دلل.

(٢) أجب بالرجوع إلى المفكرة ص ١٤ بم تفسر.

(٣) ① الغابات الاستوائية – الإقليم الاستوائى وشبه الاستوائى.
② غابات البحر المتوسط – إقليم البحر المتوسط.
③ غابات الإقليم الصينى – الإقليم المعتدل شرق القارات (الصينى).
④ الغابات المخروطية – الإقليم المعتدل البارد شرق القارات (اللورانسى).

(٤) ترتب على ذلك تنوع الحياة النباتية طبقًا لارتفاع السطح وكمية المطر فى الإقليم المناخى الجبلى.

(٥) أجب بالرجوع إلى المفكرة ص ١٢ ما المقصود.

المجموعة الثانية

(١) يترك للطالب حرية الإجابة فى ضوء :

سوف يظهر بها إقليم المناخ الاستوائى وشبه الاستوائى وتنمو بها غابات استوائية أشجارها كثيفة ومتشابكة وأهمها : الماهوجنى والمطاط.

(٢) أجب بالرجوع إلى المفكرة ص ١٦ دلل.
(٣) خطأ : حيث تنمو حشائش الساڤانا ضمن إقليم مناخ المدارى الحار والموسمى بينما تنمو حشائش الإستبس ضمن إقليم مناخ البحر المتوسط.
(٤) أجب بالرجوع إلى المفكرة ص ١٧ بم تفسر.
(٥) يترك للطالب حرية الإجابة فى ضوء :
حيث تستغل حشائش البرارى فى أمريكا الشمالية كمراعٍ طبيعية.

المجموعة الثالثة

(١)

	إقليم مناخ غرب أوروبا	إقليم مناخ التندرا
الخصائص النباتية	تنمو به غابات نفضية، وأهم أشجارها «الزان»	طحالب تنمو سريعًا فى فصل ذوبان الجليد
الموقع الفلكى	أجب بالرجوع إلى المفكرة ص ١١ أهم الجداول والمقارنات	أجب بالرجوع إلى المفكرة ص ١٢ أهم الجداول والمقارنات

(٢) أجب بالرجوع إلى المفكرة ص ١٤ بم تفسر.
(٣) أجب بالرجوع إلى المفكرة ص ١٥ ما النتائج.
(٤) ينمو بإقليم مناخ البحر المتوسط حشائش الإستبس التى تستغل كمراعٍ طبيعية وتساهم فى تنمية الثروة الحيوانية.
(٥) – الموقع الفلكى. – الموقع الجغرافى.
– التضاريس.

تقييمات الأسبوع السابع

المجموعة الأولى

(١) أجب بالرجوع إلى المفكرة ص ٥٣ ما المقصود.
(٢) أجب بالرجوع إلى المفكرة ص ٦٥ بم تفسر.
(٣) أدى ذلك إلى اهتمامه بالتعليم والثقافة.
(٤) أجب بالرجوع إلى المفكرة ص ٧٢ دلل.
(٥) أجب بالرجوع إلى المفكرة ص ٦٠ أهم الجداول والمقارنات.

المجموعة الثانية

(١) حيث اهتم بالتصنيع الحربى فأنشأ ترسانة فى القلعة لتصنيع الأسلحة.
(٢) أجب بالرجوع إلى المفكرة ص ٦٦ بم تفسر.
(٣) يترك للطالب حرية الإجابة فى ضوء :
– لم يمتد النفوذ المصرى إلى جنوب السودان.
– لم يتم إنشاء مدينة الخرطوم ولم يتم اتخاذها كعاصمة.
– لم يتم اكتشاف منابع نهر النيل.
(٤) أجب بالرجوع إلى المفكرة ص ٥٩ أهم الجداول والمقارنات (الشروط).
(٥) لأن محمد على قام بـ :
– إلغاء نظام الالتزام وتوزيع مساحات من الأراضى على الفلاحين.
– إدخال أساليب حديثة وغلات زراعية جديدة.
– تحسين طرق الرى فحفر ترعة المحمودية.
– إنشاء العديد من القناطر على النيل وأهمها القناطر الخيرية.
– إنشاء مدرسة للزراعة واستقدام الخبراء الزراعيين من الخارج.
– تزويد الفلاحين بكل ما يلزم الزراعة.

المجموعة الثالثة

(١) أجب بالرجوع إلى المفكرة ص ٦٦ بم تفسر.
(٢) اليونان.
(٣) يترك للطالب حرية الإجابة فى ضوء :
كان الاحتكار هو الدعامة الأساسية لبناء الاقتصاد المصرى وبناء مصر الحديثة فى عهد محمد على وذلك لضمان منافسة غيره من الدول.
(٤) العبارة صادقة، حيث قام محمد على بـ :
– جمع الصبية للعمل فى مصانع الدولة بأجور رمزية فأصبحت بمثابة مدارس صناعية.
– الاستعانة بالخبرات الأجنبية وإرسال بعثات للخارج وترجمة الكتب الخاصة بمختلف الصناعات.
(٥) قام محمد على بالقضاء على الحركة الوهابية التى تهدد نفوذ الدولة العثمانية فى شبه الجزيرة العربية بأوامر من السلطان العثمانى.

تقييمات الأسبوع الثامن

المجموعة الأولى

(١) أجب بالرجوع إلى المفكرة ص ٤٢ بم تفسر.
(٢) أجب بالرجوع إلى المفكرة ص ٣٨ ما المقصود.

(٣) – **سيبيريا** : السلالة المغولية.
– **اليابان** : السلالة المغولية.
– **مصر** : السلالة القوقازية.
– **المناطق الاستوائية بأفريقيا** : الزنجية.

(٤) **حيث يضم سكان الولايات المتحدة الأمريكية :**
– **السلالة القوقازية** : وهم السكان البيض القادمون من أوروبا.
– **السلالة الزنجية** : وهم القادمون عن طريق الهجرة الإجبارية من أفريقيا.

(٥) **يترك للطالب حرية الإجابة فى ضوء :**
عبارة خطأ لأن تقسيم السلالات البشرية يتم على أسس ظاهرية وليست جوهرية أى يتم حسب الشكل الخارجى فلا توجد سلالة أكثر ذكاءً من سلالة أخرى أو أكثر منها قدرة على العمل والإبداع.

المجموعة الثانية

(١) **أجب بالرجوع إلى المفكرة ص ٣٩ أهم الجداول والمقارنات (المميزات).**

(٢) بسبب انصهار السلالات واختلاط الصفات الطبيعية التى تميز كل سلالة عن الأخرى.

(٣) حيث تعرض عدد كبير من زنوج أفريقيا للهجرات الإجبارية ضمن تجارة العبيد التى كانت سائدة فى الماضى وذلك للعمل فى مزارع القطن وقصب السكر والتبغ التى أنشأها الأوروبيين فى الأمريكتين.

(٤) **أجب بالرجوع إلى المفكرة ص ٣٩ أهم الجداول والمقارنات (المميزات، أماكن الانتشار).**

(٥) **العبارة غير صادقة :**
حيث تعد الإسكيمو من نماذج السلالات النقية التى تعيش فى صحارى التندرا الباردة شمال كندا.

المجموعة الثالثة

(١) **يترك للطالب حرية الإجابة فى ضوء :**
سوف تصبح كل السلالات فى العالم نقية وسيصبح العالم مقسم إلى ثلاث سلالات بشرية فقط (قوقازية – مغولية – زنجية).

(٢) **صواب** : فالأغلبية العربية من السلالة القوقازية ولكن مع حدوث الفتوحات والهجرات على مر التاريخ حدث اختلاط مع السلالات الأخرى.

(٣) حيث تعرض الزنوج فى أفريقيا للهجرات القسرية إلى الأمريكتين للعمل فى مزارع القطن وقصب السكر التى أنشأها الأوروبيون فى الأمريكتين.

(٤) – **الأقزام** : السلالة الزنجية.
– **المجموعة الألبية** : السلالة القوقازية.
– **الهنود الحمر** : السلالة المغولية.
– **البانتو** : السلالة الزنجية.

(٥) لأن سكان المناطق الاستوائية فى قارة آسيا ينتمون إلى السلالة المغولية بينما السكان فى قارة أفريقيا ينتمون إلى السلالة الزنجية.

تقييمات الأسبوع التاسع

المجموعة الأولى

(١) حيث جعل مدة الخدمة العسكرية سنة واحدة إجبارية للجميع.

(٢) **أجب بالرجوع إلى المفكرة ص ٨٨ بم تفسر.**

(٣) **يترك للطالب حرية الإجابة فى ضوء :**
– لمصر الحق فى فرض ما تشاء من رسوم على السفن التى تمر فى القناة.
– تحصل مصر على نسبة أكبر من صافى الأرباح مقابل الأراضى والامتيازات الممنوحة للشركة.

(٤) **العبارة صادقة** : حيث كان من أهداف الحملات منع تجارة الرقيق فى هذه المناطق.

(٥) **حيث اقترحت :**
– إنشاء إدارة للمراقبة المالية يرأسها موظف إنجليزى.
– ألا يعقد الخديو قرضًا ما لم توافق عليه إدارة الرقابة المالية.

المجموعة الثانية

(١)

	اللائحة السعيدية	اللائحة الأساسية
الحاكم الذى أصدرها	سعيد باشا	الخديو إسماعيل
الهدف من إصدارها	بموجبها أصبح للفلاح حق توريث الأرض الزراعية	تُعد أول دستور وضع فى مصر وتهدف إلى إقامة حياة دستورية سليمة

(٢) حيث أقام الخديو إسماعيل العديد من الحفلات لافتتاح قناة السويس ودعا إليها ملوك أوروبا، وأنفق ببذخ على هذه الاحتفالات فكان هذا أحد أسباب زيادة الأزمة المالية فى عهد الخديو إسماعيل.

(٣) عباس باشا الأول.
(٤) **أجب بالرجوع إلى المفكرة ص ٩٣ ما النتائج.**
(٥) **أجب بالرجوع إلى المفكرة ص ٨٠ أهم الجداول والمقارنات.**

المجموعة الثالثة

(١) **أجب بالرجوع إلى المفكرة ص ٨٥ أهم الجداول والمقارنات (اختصاصها).**
(٢) **أجب بالرجوع إلى المفكرة ص ٧٧ أهم المخططات.**
(٣) **أجب بالرجوع إلى المفكرة ص ٨٩ بم تفسر.**
(٤) **العبارة صحيحة** : حيث ألغى ديوان المدارس.
(٥) **أجب بالرجوع إلى المفكرة ص ٩٨ دلل.**

اختباران على الشهر الثانى

اختبار ١

١ **(أ)** (١) الهنود الحمر (السلالة المغولية).
(٢) ① (٣) ④
(ب) (١) **أجب بالرجوع إلى المفكرة ص ١٣ بم تفسر.**
(٢) **أجب بالرجوع إلى المفكرة ص ١٤ بم تفسر.**
(٣) **أجب بالرجوع إلى المفكرة ص ٤٢ بم تفسر.**
(جـ)

	شمال اليابان	الساحل الأوسط فى شيلى
الخصائص المناخية	* ينتمى إلى إقليم المناخ المعتدل البارد شرق القارات «اللورانسى» والذى **يتميز بأنه :** • معتدل صيفًا وبارد شتاءً. • أمطار تسقط طوال العام وخاصة صيفًا.	* ينتمى إلى إقليم مناخ البحر المتوسط والذى **يتميز بأنه :** حار جاف صيفًا ودفىء ممطر شتاءً.
الخصائص النباتية	* تنمو بها الغابات المخروطية ومن أهم أشجارها الصنوبر والشربين.	* تنمو بها غابات البحر المتوسط وهى أشجار دائمة الخضرة ومن أهمها الزيتون. * تنمو بالقرب من غابات البحر المتوسط حشائش الإستبس والتى تستغل كمراعٍ طبيعية.

٢ **(أ)** (١) آسيا. (٢) إقليم غرب أوروبا.
(ب) (١) السلالة الزنجية : البشرة الداكنة، الأنف العريض، الشعر الأجعد، الشفاه الغليظة.
(٢) السلالة القوقازية : البشرة البيضاء الوردية، الشعر المتموج، الشفاه الرفيعة.
(جـ) (١) **العبارة غير صحيحة** : حيث تسقط أمطار غزيرة صيفًا ويسود الجفاف شتاءً فى جزيرة مدغشقر لأنها تقع ضمن الإقليم الموسمى.
(٢) **العبارة صحيحة**: حيث يضم شعبها سلالات مختلفة :
– **السلالة المغولية** : وهم الهنود الحمر الذين يمثلون السكان الأصليين.
– **السلالة القوقازية** : وهم السكان البيض القادمون من أوروبا.
– **السلالة الزنجية** : وهم القادمون عن طريق الهجرة الإجبارية من أفريقيا.

٣ **(أ)** (١) ... السودان. (٢) ... البريطانية.
(ب) (١) أدى ذلك إلى زيادة التدخل الأجنبى فى شئون مصر.
(٢) ترتب على ذلك أن أصبحت المصانع بمثابة مدارس صناعية للصبية فى عهده.
(جـ) (١) **أجب بالرجوع إلى المفكرة ص ١٠١ ما العلاقة.**
(٢) كانت أحكام المحاكم القنصلية لا تستؤنف إلا فى الخارج مما كان سببًا فى ازدياد التدخل الأجنبى فى مصر.
(د) (١) **أجب بالرجوع إلى المفكرة ص ٦٠ أهم الجداول والمقارنات (النتائج).**
(٢) ترتب على ذلك تعيين مراقبين أجنبيين على المالية المصرية أحدهما بريطانى لمراقبة الإيرادات والآخر فرنسى لمراقبة المصروفات وعرف ذلك بنظام المراقبة الثنائية.

٤ **(أ)** ① حروب محمد على فى شبه الجزيرة العربية ١٨١١م.
② معركة نفارين ١٨٢٧م.
③ عقد الامتياز الأول لقناة السويس ١٨٥٤م.
④ تشكيل الوزارة المختلطة ١٨٧٨م.
(ب) (١) **أجب بالرجوع إلى المفكرة ص ٦٦ بم تفسر.**
(٢) **أجب بالرجوع إلى المفكرة ص ٨٩ بم تفسر.**
(٣) **أجب بالرجوع إلى المفكرة ص ٦٥ بم تفسر.**
(جـ) (١) بدأ فى إنشاء أول خط حديدى بين القاهرة والإسكندرية عام ١٨٥٢م.
(٢) أنشأ دار الكتب.
(٣) ساهم فى استمرار النهضة التعليمية بعد عودته من أوروبا.

اختبار ٢

١ (أ) (١) المحيط القطبى الشمالى.
(٢) البحر المتوسط. (٣) السلالة المغولية.
(ب) (١) **العبارة غير صادقة** : حيث ينمو فى سهول سيبيريا الطحالب بينما ينمو فى حوض الكونغو الغابات الاستوائية ومن أهم أشجارها الماهوجنى والمطاط.
(٢) **العبارة صادقة** : حيث يوجد فى قارة أمريكا الشمالية مجموعة الإسكيمو، وفى قارة أمريكا الجنوبية الهنود الحمر وينتمى كلاهما إلى السلالة المغولية.
(جـ) (١) ترتب على ذلك نمو الطحالب سريعًا فى فصل ذوبان الجليد.
(٢) **أجب بالرجوع إلى المفكرة ص ٤٦ ما النتائج.**
(د) **يترك للطالب حرية الإجابة فى ضوء :**
ستسقط الأمطار طوال العام وخاصة فى الصيف كما ستنمو الغابات المخروطية والتى من أهم أشجارها الصنوبر والشربين.

٢ (أ) (١) التنجوس. (٢) الموسمى.
(ب)

	إقليم مناخ البحر المتوسط	إقليم المناخ المعتدل شرق القارات (الصينى)
أوجه التشابه	* من الأقاليم المناخية المعتدلة الدفيئة. * يقعان فى العروض المعتدلة بين دائرتى عرض ٣٠° ، ٤٥° شمالاً وجنوبًا. * **تنمو بهما** : • أشجار دائمة الخضرة. • حشائش الإستبس. * يتميزان بارتفاع درجة الحرارة صيفًا.	
أوجه الاختلاف	* يقع غرب معظم القارات.	* يقع فى شرق القارات.
	* يتميز الإقليم بأنه دفىء ممطر شتاءً يسوده الجفاف صيفًا.	* **يتميز الإقليم بـ :** • الحرارة المنخفضة شتاءً. • أمطار طوال العام وتزداد صيفًا ويتعرض لعواصف مدارية مثل التيفون.
	* تنتشر بالإقليم غابات البحر المتوسط ومن أهم أشجارها الزيتون.	* تنتشر بالإقليم غابات الإقليم الصينى ومن أهم أشجارها الصفصاف والبلوط.

(جـ) (١) للعمل فى مزارع القطن وقصب السكر والتبغ التى أنشأها الأوروبيون فى الأمريكتين.
(٢) **أجب بالرجوع إلى المفكرة ص ٤٣ بم تفسر.**
(٣) **أجب بالرجوع إلى المفكرة ص ١٤ بم تفسر.**
(د) (١) السلالة المغولية. (٢) السلالة الزنجية.
(٣) السلالة القوقازية.

٣ (أ) (١) لجنة التحقيق العليا الأوروبية.
(٢) استجابة لأوامر السلطان.
(ب) (١) **أجب بالرجوع إلى المفكرة ص ٧٤ ماذا يحدث.**
(٢) **يترك للطالب حرية الإجابة فى ضوء :**
لم تتدخل الحكومتان البريطانية والفرنسية وتقوما بالضغط على السلطان العثمانى لعزل الخديو إسماعيل وتولية ابنه توفيق.
(جـ) (١) **أجب بالرجوع إلى المفكرة ص ٩٨ دلل.**
(٢) **أجب بالرجوع إلى المفكرة ص ٧٢ دلل.**

٤ (أ) (١) الامتيازات الأجنبية. (٢) المحاكم القنصلية.
(٣) نظام الاحتكار.
(٤) صحيفة الوقائع المصرية.
(ب) (١) **أجب بالرجوع إلى المفكرة ص ٦٦ بم تفسر.**
(٢) **أجب بالرجوع إلى المفكرة ص ٨٨ بم تفسر.**
(٣) لأن تولى إدارته مندوبون أجانب تنتدبهم الدول الدائنة لتسلم المبالغ المخصصة للديون من المصالح المختلفة والإشراف على تسديد الديون لأصحابها.
(جـ) **أجب بالرجوع إلى المفكرة ص ٨٨ بم تفسر.**

تقييمات الأسبوع العاشر

المجموعة الأولى

(١) **أجب بالرجوع إلى المفكرة ص ٣٨ ما المقصود.**
(٢) **حيث**
– يتركز السكان فى :
♦ السهول الفيضية الخصبة مثل سهول وادى النيل فى مصر والسودان.
♦ السهول الساحلية المعتدلة الخصبة مثل سواحل البحر المتوسط فى مصر ودول المغرب العربى.
♦ المناطق مرتفعة السطح فى الدول المدارية مثل أوغندا وكينيا.

– يقل السكان فى :

♦ النطاقات الصحراوية الفقيرة مثل الصحراء الكبرى.

♦ بعض المناطق الجبلية الوعرة مثل جبال البحر الأحمر.

(٣) أجب بالرجوع إلى المفكرة ص ٤٤ بم تفسر.

(٤) أجب بالرجوع إلى المفكرة ص ٤٨ ما العلاقة.

(٥) خطأ : حيث يقل السكان فى المناطق الشمالية لقارة آسيا بسبب برودة الجو بينما يقل السكان فى وسط القارة لوعورة السطح.

المجموعة الثانية

(١) أجب بالرجوع إلى المفكرة ص ٤٦ ما النتائج.

(٢) أجب بالرجوع إلى المفكرة ص ٤٤ بم تفسر.

(٣) حيث يتركز السكان فى كلاهما بسبب وجود المدن الكبرى.

(٤) أجب بالرجوع إلى المفكرة ص ٤٧ دلل.

(٥) يترك للطالب حرية الإجابة فى ضوء :

حيث تعد السهول الساحلية مناطق تركز سكان **وذلك بسبب :** – المناخ المعتدل. – النشاط السياحى.

المجموعة الثالثة

(١) ① بسبب وجود المدن والمناطق الصناعية الضخمة والسهول الزراعية الخصبة.

② بسبب وجود السهول الفيضية الخصبة.

③ بسبب وجود المدن الكبرى.

(٢) أجب بالرجوع إلى المفكرة ص ٤٦ ما النتائج.

(٣) أدت خصوبة التربة وجودتها فى جزيرة جاوة إلى تركز السكان بها حتى أصبحت أكثر مناطق العالم ازدحامًا بالسكان.

(٤)

	سهول سيبيريا	سهول البمباس
القارة المنتمية إليها	آسيا	أمريكا الجنوبية
توزيع السكان	يقل فيها السكان لبرودة الجو	يتركز فيها السكان حيث السهول الفيضية

(٥) العبارة صادقة :

حيث يقل عدد السكان فى سهول الأمازون الاستوائية بسبب وجود الغابات الاستوائية وانتشار الأمراض والطبيعة القاسية.

تقييمات الأسبوع الحادى عشر

المجموعة الأولى

(١) حيث كانت اللائحة الأساسية فى عهد وزارة شريف باشا لم تتضمن حق مجلس النواب فى مناقشة الميزانية وإقرارها بينما فى عهد وزارة البارودى نصت على حق مجلس النواب فى مناقشة الميزانية وإقرارها.

(٢) أجب بالرجوع إلى المفكرة ص ٧٨ ما المقصود.

(٣) عقد عرابى مجلسًا عسكريًا للنظر فى أمر قناة السويس وأجمع ذلك المجلس على ضرورة تعطيل الملاحة فى القناة للاتفاقيات الدولية.

(٤) حيث تمثلت العوامل الداخلية لفشل الثورة العرابية فى :

– عدم تكافؤ القوة العسكرية بين قوات الاحتلال البريطانى والقوات المصرية.

– ميل بعض عناصر القوات المصرية للخديو والبريطانيين.

– عدم إدراك قيادة الثورة العرابية (عرابى) لأهمية التعبئة الشعبية لمساندة القوات المصرية فى معاركها.

(٥) العبارة صادقة حيث :

– أعاد نظام المراقبة الثنائية.

– رفض اللائحة الأساسية لمجلس النواب.

– وضع نفسه تحت حماية إنجلترا وفرنسا بإسناد الوزارة إلى رياض باشا.

المجموعة الثانية

(١) حيث أثرت المؤثرات الفكرية الغربية فى نمو الوعى القومى وتطورت إلى المطالبة بالدستور والحكم النيابى مما كان سببًا فى قيام الثورة العرابية.

(٢) خطأ : حيث ظهر الدعم الشعبى لأول مرة للعرابيين فى مظاهرة عابدين حيث خرج أحمد عرابى على رأس الجيش ومعه الآلاف من الوطنيين فى مظاهرة وطنية أبرزت مدى مؤازرة الشعب لعرابى وزملائه.

(٣) أجب بالرجوع إلى المفكرة ص ٩٤ ما النتائج.

(٤) أجب بالرجوع إلى المفكرة ص ٨٦ أهم الجداول والمقارنات (سببها).

(٥) العبارة صادقة : حيث أصدرت المحكمة العسكرية حكمها بالنفى المؤبد لزعماء الثورة العرابية لأحد مستعمراتها البريطانية بالهند وهى جزيرة سيلان.

المجموعة الثالثة

(١) **يترك للطالب حرية الإجابة فى ضوء :**
سوف يؤدى ذلك إلى :
- ازدياد التوتر بين الخديو والعرابيين.
- استمرار حكومة رياض باشا المستبدة.
- عدم تشكيل مجلس النواب على النسق الأوروبى.
- عدم زيادة الجيش إلى ١٨ ألف جندى.

(٢) حيث نتج عن الخلاف الذى حدث بالإسكندرية بين المصريين والأجانب وقوع ضحايا من الجانبين فدعا ممثلوا الدول العظمى إلى مؤتمر الآستانة للنظر فى المسألة المصرية.

(٣) حيث اجتاحت السفن البريطانية القناة دون مراعاة لوضعها بالنسبة للملاحة الدولية.

(٤)

نتائج معركة كفر الدوار	نتائج معركة التل الكبير
* تمكن العرابيون من صد هجمات القوات البريطانية. * انسحاب القوات البريطانية من كفر الدوار إلى الإسكندرية وتحركهم إلى منطقة قناة السويس.	* هزيمة الجيش المصرى على الرغم من البطولات والمقاومة الباسلة للعرابيين. * اتجاه القوات البريطانية إلى القاهرة لاحتلالها.

(٥) **أجب بالرجوع إلى المفكرة ص ٨٦ أهم الجداول والمقارنات (سببها).**

تقييمات الأسبوع الثانى عشر

المجموعة الأولى

(١) **أجب بالرجوع إلى المفكرة ص ٣٨ ما المقصود.**
(٢) **أجب بالرجوع إلى المفكرة ص ٤٥ بم تفسر.**
(٣) **العبارة صادقة :**
- تقل معدلات الوفيات فى الدول التى تراعى بها مستويات الوقاية الصحية وحماية البيئة من التلوث.
- تزداد معدلات الوفيات فى الدول التى تقل فيها الرعاية الصحية وتنتشر فيها الأمراض.

(٤) يرتفع الدخل الاقتصادى فى الدول التى تعتمد على النشاط الصناعى.

(٥) - دول ذات رعاية طبية فائقة مثل روسيا ومعظم دول أوروبا ودول أمريكا الشمالية.
- دول ذات رعاية طبية مرتفعة مثل مصر والأردن والإمارات.
- دول ذات رعاية طبية منخفضة مثل النيجر وإثيوبيا ونيبال.

المجموعة الثانية

(١) **أجب بالرجوع إلى المفكرة ص ٤٦ ما النتائج.**
(٢) **يترك للطالب حرية الإجابة فى ضوء :**
لم تصبح دول الخليج العربى من دول ذات الدخل الاقتصادى المرتفع.
(٣) حيث ترتفع نسبة الأمية فوق سن ١٥ سنة فى الدول النامية وتنخفض بنسبة كبيرة فى الدول المتقدمة.
(٤) **أجب بالرجوع إلى المفكرة ص ٤٤ بم تفسر.**
(٥) باكستان.

المجموعة الثالثة

(١) **تتمثل فى :** الهند ومصر والمغرب وأوكرانيا والبرازيل وهايتى.
(٢) **يترك للطالب حرية الإجابة فى ضوء :**
- يجب العمل على تقليل معدل المواليد من خلال **القضاء على :**
  - ♦ الأمية.
  - ♦ بعض العادات والتقاليد السلبية مثل الرغبة فى إنجاب أكبر عدد من الأبناء والزواج المبكر للإناث.
- نشر برامج تنظيم الأسرة.

(٣) **أجب بالرجوع إلى المفكرة ص ٣٨ ما المقصود.**
(٤) **العبارة صحيحة :** حيث تتمثل فى حرمان المرأة من التعليم فى بعض المناطق حفاظًا عليها أو بسبب المعتقدات الخطأ وتفضيل الزواج المبكر للإناث.
(٥) **أجب بالرجوع إلى المفكرة ص ٤٥ بم تفسر.**

تقييمات الأسبوع الثالث عشر

المجموعة الأولى

(١) قامت سلطات الاحتلال البريطانى بإلغاء مجلس النواب الذى انتخب عام ١٨٨١م، وإنشاء مجالس صورية لا سلطة لها تتمثل فى مجلس شورى القوانين والجمعية العمومية، ثم أنشئت الجمعية التشريعية.
(٢) **أجب بالرجوع إلى المفكرة ص ٩٥ ما النتائج.**
(٣) **العبارة صادقة :** حيث تحول الخديو عباس حلمى الثانى عن مؤازرة (تأييد) الحركة الوطنية إلى موالاة الاحتلال لذلك اتجه محمد فريد إلى الجهاد ضد الاحتلال البريطانى والخديو فى وقت واحد والمطالبة بالجلاء والدستور.
(٤) **أجب بالرجوع إلى المفكرة ص ١٠٠ دلل.**
(٥) **يترك للطالب حرية الإجابة فى ضوء :**
عدم الوثوق فى الدول الأوروبية حيث تخلت فرنسا عن مساندة مصطفى كامل بعقدها الاتفاق الودى مع إنجلترا.

المجموعة الثانية

(١) حيث :
- طالب محمد فريد بإنشاء نقابات للعمال المصريين.
- دعا لإنشاء مدارس الشعب الليلية لتعليم العمال مجانًا.

(٢) أجب بالرجوع إلى المفكرة ص ١٠٠ دلل.

(٣) أجب بالرجوع إلى المفكرة ص ٧٨ أهم المخططات.

(٤) صواب : حيث تخلت فرنسا عن مساندة مصطفى كامل بعقدها الاتفاق الودى مع إنجلترا عام ١٩٠٤م.

(٥) يترك للطالب حرية الإجابة فى ضوء :
كانت ستوافق الحكومة المصرية على مد الامتياز لمدة أربعين عامًا أخرى إضافة إلى ٩٩ عامًا هى مدة الامتياز مما يصعب على مصر فكرة استعادتها.

المجموعة الثالثة

(١) أجب بالرجوع إلى المفكرة ص ٧٩ ما المقصود.

(٢) لتعليم العمال والفقراء مجانًا.

(٣) العبارة غير صحيحة : أصبحت السلطة الفعلية فى يد المعتمد البريطانى (ممثل سلطة الاحتلال فى مصر).

(٤) أجب بالرجوع إلى المفكرة ص ٩٥ ما النتائج.

(٥) أجب بالرجوع إلى المفكرة ص ٧٨ أهم المخططات.

تقييمات الأسبوع الرابع عشر

المجموعة الأولى

(١) أجب بالرجوع إلى المفكرة ص ٨٦ أهم الجداول والمقارنات (العوامل - الأسباب).

(٢) أجب بالرجوع إلى المفكرة ص ٩٦ ما النتائج.

(٣) العبارة خطأ : حيث اندلعت الثورة فى القاهرة وامتدت إلى كافة المدن والأقاليم.

(٤) أجب بالرجوع إلى المفكرة ص ٧٩ ما المقصود.

(٥) أهم نصوصه :
- الاعتراف بمصر دولة مستقلة ذات سيادة.
- إنهاء الحماية البريطانية على مصر.
- إلغاء الأحكام العرفية.

المجموعة الثانية

(١) حيث أعلن الرئيس الأمريكى ولسن أثناء الحرب العالمية الأولى حق الشعب فى تقرير مصيره وبعد انتهاء الحرب اعترف بالحماية البريطانية على مصر.

(٢) تغيير لقب حاكم مصر.

(٣) يترك للطالب حرية الإجابة فى ضوء :
لكان ذلك اعتراف من الشعب المصرى بتنازله عن توكيلاته للوفد المصرى وقبوله الحماية البريطانية.

(٤) أدى ذلك إلى :
تجدد ثورة المصريين ومقاطعة الشعب المصرى البضائع الإنجليزية مما اضطر الحكومة البريطانية للإفراج عن سعد زغلول.

(٥) أجب بالرجوع إلى المفكرة ص ٨٧ أهم الجداول والمقارنات (المزايا).

المجموعة الثالثة

(١) حيث :
- رفض الشعب المصرى التفاوض مع لجنة ملنر وقاطعها.
- قاطع الشعب المصرى البضائع الإنجليزية أثناء فشل مفاوضات عدلى - كيرزون.

(٢) أجب بالرجوع إلى المفكرة ص ٨٧ أهم الجداول والمقارنات (العيوب).

(٣) حيث كانت الإجراءات العنيفة التى اتخذتها سلطات الاحتلال البريطانى أثناء الحرب العالمية الأولى (١٩١٤م - ١٩١٨م) وإعلان الرئيس الأمريكى ولسن (خلال تلك الحرب) المبادئ الأربعة عشر ومنها حق الشعوب فى تقرير مصيرها مما كان سببًا فى قيام ثورة ١٩١٩م.

(٤) العبارة صادقة : حيث شارك فى الثورة جميع فئات وعناصر الشعب المصرى مما يؤكد على الوحدة الوطنية بين أبناء الأمة المصرية.

(٥) أجب بالرجوع إلى المفكرة ص ٩١ بم تفسر.

تقييمات الأسبوع الخامس عشر

المجموعة الأولى

(١) أجب بالرجوع إلى المفكرة ص ٨٧ أهم الجداول والمقارنات (العيوب).

(٢) أجب بالرجوع إلى المفكرة ص ٩٧ ما النتائج.

(٣) أجب بالرجوع إلى المفكرة ص ١٠١ دلل.

(٤) من أسباب حادثة ٤ فبراير ١٩٤٢م مماطلة الملك فاروق فى الاستجابة لمطلب بريطانيا بتشكيل حكومة جديدة برئاسة مصطفى النحاس باشا لذلك استجاب الملك فاروق للإنذار البريطانى وشكل مصطفى النحاس الوزارة.

(٥) يترك للطالب حرية الإجابة فى ضوء :
كان إلغاء مصطفى النحاس لمعاهدة ١٩٣٦م سببًا فى إطلاق الحرية للشعب للنضال المسلح ضد القوات البريطانية فى القناة مما أدى إلى مهاجمة الفدائيين للمعسكرات البريطانية وأدى ذلك إلى زيادة روح المقاومة لدى المصريين.

المجموعة الثانية

(١) يترك للطالب حرية الإجابة فى ضوء :

- لم يخرج الشعب فى مظاهرة للمطالبة بإلغاء دستور ١٩٣٠م.
- استمر العمل بدستور ١٩٣٠م ليكون الدستور الساري لمصر.
- أصبح للملك فؤاد الأول مزيدًا من السلطات.
- إهدار سلطة الأمة وحقوقها فى مواضع كثيرة.

(٢) أجب بالرجوع إلى المفكرة ص ١٠١ دلل.

(٣) حيث نصت معاهدة ١٩٣٦م على استمرار إدارة السودان وفقًا لاتفاقية الحكم الثنائى يناير ١٨٩٩م مع عودة القوات المصرية إلى السودان.

(٤) **العبارة غير صادقة** : حيث تعددت الأحزاب فى مصر منذ صدور دستور ١٩٢٣م ولكن تعددها لم يؤد لإثراء الحياة النيابية لأنها كانت أداة للقصر الملكى ولبريطانيا لتحقيق مصالحهما دون النظر لمصالح الشعب المصرى.

(٥) أجب بالرجوع إلى المفكرة ص ٩٢ بم تفسر.

المجموعة الثالثة

(١) حيث رفض جنود الشرطة المصرية التسليم لقوات الاحتلال البريطانى عندما حاصروا مبنى المحافظة بالإسماعيلية لنزع السلاح منهم مما أدى إلى وقوع الصدام بينهم فى ٢٥ يناير ١٩٥٢م واستشهد الكثير من المصريين.

(٢) أجب بالرجوع إلى المفكرة ص ٩٧ ما النتائج.

(٣) - جلاء القوات البريطانية عن القاهرة وجميع الجبهات الأخرى، عدا منطقة قناة السويس.
- وضع مصر وموانيها ومطاراتها وطرق مواصلاتها تحت تصرف بريطانيا فى حالة الحرب.
- مساعدة بريطانيا لمصر للانضمام لعصبة الأمم.
- أن تسرى المعاهدة لمدة عشرين عام.
- تعهد الحكومة المصرية ببناء الثكنات والمعسكرات والطرق والكبارى اللازمة للقوات البريطانية وصيانتها.
- استمرار إدارة السودان وفقًا لاتفاقية الحكم الثنائى يناير ١٨٩٩م مع عودة القوات المصرية إلى السودان.

(٤) **خطأ** : لم يتخذ مجلس الأمن قرارًا فى القضية وتركها معلقة.

(٥) أجب بالرجوع إلى المفكرة ص ٩٧ ما النتائج.

اختباران على الشهر الثالث

اختبار ١

١ **(أ)** (١) البرازيل. (٢) أفريقيا. (٣) المكسيك.

(ب) (١) أجب بالرجوع إلى المفكرة ص ٤٣ بم تفسر.

(٢) ، (٣) أجب بالرجوع إلى المفكرة ص ٤٥ بم تفسر.

(جـ) يترك للطالب حرية الإجابة فى ضوء :

توجد بعض العادات والتقاليد التى تؤثر فى معدل تعليم الإناث مثل حرمانها من التعليم للحفاظ عليها أو بسبب المعتقدات الخطأ، وتفضيل الزواج المبكر للإناث وبالتالى انخفاض نسبة المتعلمين من الإناث.

---

٢ **(أ)** (١) أوروبا. (٢) هندوراس.

(ب) (١) تنخفض معدلات الزيادة الطبيعية فى الدول المتقدمة نتيجة لقلة عدد المواليد وعدد الوفيات معًا.

(٢) حيث يوجد بقارة أفريقيا أقل نصيب للفرد من الدخل القومى بسبب سيادة النشاط الزراعى فى معظم دول أفريقيا.

(جـ) (١) أجب بالرجوع إلى المفكرة ص ٤٦ ما النتائج.

(٢) ترتب على ذلك قلة التركز السكانى فى غرب أستراليا.

(د) أجب بالرجوع إلى المفكرة ص ٣٨ ما المقصود.

---

٣ **(أ)** (١) البارودى. (٢) عبدالخالق ثروت.

(ب) يترك للطالب حرية الإجابة فى ضوء :

لم يتجه محمد فريد إلى الجهاد ضد الاحتلال البريطانى والخديو عباس حلمى الثانى فى وقت واحد، وظل الخديو مسانداً للحركة الوطنية ضد الاحتلال البريطانى.

(جـ) (١) أجب بالرجوع إلى المفكرة ص ٨٧ أهم الجداول والمقارنات (المزايا).

(٢) أجب بالرجوع إلى المفكرة ص ١٠١ دلل.

(د) أجب بالرجوع إلى المفكرة ص ٧٩ ما المقصود.

---

٤ **(أ)** ① الاحتلال البريطانى لمصر ١٨٨٢م.
② إصدار جريدة اللواء ١٩٠٠م.
③ نفى سعد زغلول إلى جزيرة مالطة ١٩١٩م.
④ حريق القاهرة ١٩٥٢م.

(ب) (١) **أجب بالرجوع إلى المفكرة ص ٩٠ بم تفسر.**
(٢) من أجل تحقيق الاستقلال وإقامة حكومة دستورية.
(٣) **أجب بالرجوع إلى المفكرة ص ٩٣ بم تفسر.**

(جـ)

أسباب إنذار اللورد اللنبى للحكومة المصرية ٢٢ نوفمبر عام ١٩٢٤م	أسباب الإنذار البريطانى للحكومة المصرية ٤ فبراير عام ١٩٤٢م
اغتيال السير لى ستاك القائد العام للجيش المصرى والحاكم العام للسودان.	مماطلة الملك فاروق فى الاستجابة لمطلب بريطانيا بتشكيل حكومة جديدة برئاسة مصطفى النحاس باشا.

اختبار ٢

١ (أ) (١) نيويورك. (٢) جزر اليابان.
(٣) أستراليا.
(ب) (١) **العبارة غير صادقة :** حيث يقل عدد السكان فى المناطق الشمالية لقارة أوروبا مثل فنلندا والنرويج بسبب شدة البرودة.
(٢) **العبارة صادقة :**
حيث كلما زاد عدد الأطباء بالنسبة للسكان فى دولة ما دل ذلك على زيادة الرعاية الطبية بها.
(جـ) (١) **أجب بالرجوع إلى المفكرة ص ٤٦ ما النتائج.**
(٢) **يترك للطالب حرية الإجابة فى ضوء :**
يمكن النهوض بالخدمات التعليمية من خلال :
- التوسع فى إنشاء المدارس والجامعات والمدارس المهنية من خلال توفير الأموال والمستثمرين اللازمين لذلك.
- استخدام الأساليب الحديثة فى التعليم من تطوير للمناهج وطرق التدريس وغيرها.

٢ (أ) (١) غرب أوروبا. (٢) اليانجتسى.
(ب) (١) **غرب أستراليا :** يقل بها السكان بسبب سيادة الظروف الصحراوية.
(٢) **سهول البمباس :** يتركز بها السكان لأنها من مناطق السهول الفيضية.
(جـ) (١) الحروب والكوارث الطبيعية (كالجفاف والزلازل) تؤدى إلى زيادة معدلات الوفيات فى العالم.
(٢) يقل السكان فى المناطق الجبلية الوعرة مثل جبال الألب.

٣ (أ) **خطأ : حيث كان ضمن أسباب الثورة :**
- ازدياد التدخل الأجنبى فى شئون مصر.
- المؤثرات الفكرية الغربية التى أدت إلى نمو الوعى القومى وتطورت إلى المطالبة بالدستور والحكم النيابى.
- سوء أحوال مصر الاقتصادية فى عهد وزارة رياض باشا.

(ب) (١) **أجب بالرجوع إلى المفكرة ص ٩٢ بم تفسر.**
(٢) لأن سلطات الاحتلال البريطانى ألغت مجلس النواب الذى انتخب عام ١٨٨١م وأنشأت مجالس صورية لا سلطة لها (مجلس شورى القوانين والجمعية العمومية ثم أنشئت الجمعية التشريعية).
(٣) **أجب بالرجوع إلى المفكرة ص ٩٠ بم تفسر.**
(جـ) **الآثار الناتجة عن :**
- (تصريح ٢٨ فبراير ١٩٢٢م).
أجب بالرجوع إلى المفكرة ص ٩٦ ما النتائج.
- (حادثة ٤ فبراير ١٩٤٢م).
أجب بالرجوع إلى المفكرة ص ٩٧ ما النتائج.

٤ (أ) (١) الضابط محمد عبيد. (٢) الخديو توفيق.
(٣) مصطفى كامل. (٤) مصطفى النحاس.
(ب) (١) حيث نجح محمد فريد - بتأييد من الرأى العام - فى إجبار الحكومة المصرية على دعوة مجلس شورى القوانين والجمعية العمومية لمناقشة طلب شركة قناة السويس فى مد الامتياز أربعين عامًا أخرى مما أدى إلى رفض الحكومة المصرية طلب الشركة.
(٢) حيث تخلت فرنسا عن مساندة مصطفى كامل (الحركة الوطنية) بعقدها الاتفاق الودى مع إنجلترا عام ١٩٠٤م والذى نص على انفراد إنجلترا بحكم مصر مقابل انفراد فرنسا بحكم مراكش.
(جـ) قامت إدارة شركة القناة «ديليسبس» بالتواصل مع الإنجليز وسمحت للسفن البريطانية باجتياز قناة السويس دون مراعاة لوضعها بالنسبة للملاحة الدولية مما كان سببًا فى تسهيل احتلال الإنجليز لمصر عام ١٨٨٢م.

٢ إجابات أسئلة عامة وامتحانات على الوحدات

أسئلة عامة على الوحدة الأولى

١

① (١) ② (٢) ④
(٣) ⑥ (٤) ①
(٥) ⑧ (٦) ⑦
(٧) ⑤ (٨) ③

② (١) السرطان. (٢) القطبى الشمالى.
(٣) الهادى. (٤) قزوين.
(٥) الهيمالايا. (٦) الدكن.
(٧) شبه الجزيرة العربية. (٨) منشوريا.
(٩) شرق الصين. (١٠) سيبيريا.
(١١) يانجتسى. (١٢) السند.
(١٣) الإقليم الاستوائى وشبه الاستوائى.
(١٤) الإقليم المعتدل البارد شرق القارات (اللورانسى).

③ (١) الاستواء. (٢) الهندى.
(٣) الأطلنطى. (٤) جبل طارق.
(٥) موزمبيق. (٦) آسيا.
(٧) أوروبا. (٨) أطلس.
(٩) دراكنزبرج. (١٠) البحر الأحمر.
(١١) البحيرات الاستوائية. (١٢) أورانج.
(١٣) الكونغو. (١٤) الإقليم الموسمى.

④ (١) القطبية الشمالية. (٢) الأطلنطى.
(٣) قزوين. (٤) البلطى.
(٥) آيسلندا. (٦) أورال.
(٧) الألب. (٨) البرانس.
(٩) فرنسا الوسطى. (١٠) الميزيتا.
(١١) الفولجا. (١٢) الراين.
(١٣) الدانوب. (١٤) الأوروبى العظيم.
(١٥) غرب أوروبا.

⑤ (١) الأطلنطى. (٢) الهادى.
(٣) القطبى الشمالى. (٤) روكى.
(٥) لبرادور. (٦) المكسيك.
(٧) هدسن. (٨) المكسيك.
(٩) المسيسبى.
(١٠) إقليم البحر المتوسط.

⑥ (١) ③ (٢) ⑤
(٣) ⑪ (٤) ②
(٥) ① (٦) ④
(٧) ⑨ (٨) جبال الإنديز.
(٩) ⑬ (١٠) أورينوكو.

⑦ (١) القطبى الشمالى. (٢) الأطلنطى.
(٣) الهادى. (٤) بيرنج.
(٥) الأبلاش. (٦) جيانا.
(٧) لابلاتا. (٨) سانت لورانس.
(٩) إقليم التندرا. (١٠) الإقليم الجبلى.

⑧ (١) الهادى. (٢) آرافورا.
(٣) كاربنتاريا. (٤) الأسترالى الكبير.
(٥) الحاجز الكبير. (٦) الغربية.
(٧) دارلنج. (٨) مُرى.
(٩) تسمانيا. (١٠) إقليم البحر المتوسط.
(١١) الإقليم المعتدل شرق القارات (الصينى).

٢ أجب بالرجوع إلى المفكرة :

– الموقع الفلكى والموقع الجغرافى ص ٤
– أهم مظاهر السطح ص ٥ : ٨
– الأقاليم المناخية التى تظهر بها ص ٩ : ١١

٣

(١) أوروبا. (٢) آسيا.
(٣) أورال. (٤) مدغشقر.
(٥) القطبى الشمالى. (٦) تسمانيا.
(٧) آرافورا. (٨) آسيا وأوروبا.
(٩) إڤرست. (١٠) طوروس.
(١١) جبل كلمنجارو. (١٢) مصب نهر لمبوبو.
(١٣) الحبشة. (١٤) ليبيا.
(١٥) أورانج ولمبوبو. (١٦) الفولجا.
(١٧) الأبلاش. (١٨) أمريكا الشمالية.
(١٩) أورينوكو.
(٢٠) الخليج الأسترالى الكبير.
(٢١) الإنديز. (٢٢) أوروبا.
(٢٣) الاستوائى وشبه الاستوائى.
(٢٤) الكونغو. (٢٥) الأمازون.
(٢٦) الحارة. (٢٧) الموسمية.
(٢٨) الصيف.
(٢٩) المدارى الحار والموسمى.

(٣٠) البحر المتوسط. (٣١) الصينى.
(٣٢) الصفصاف. (٣٣) دائمة الخضرة.
(٣٤) الصينى. (٣٥) شرق أوروبا.
(٣٦) الصنوبر. (٣٧) التندرا.
(٣٨) إقليم التندرا. (٣٩) آسيا.
(٤٠) الشربين.

٤ (١) **صواب.**
(٢) **خطأ** : ... مضيق باب المندب.
(٣) **خطأ** : ... البحر الكاريبى.
(٤) **صواب.** (٥) **خطأ** : ... المحيط الهادى.
(٦) **صواب.** (٧) **خطأ** : ... نهر اليانجتسى.
(٨) **صواب.** (٩) **صواب.**
(١٠) **خطأ** : ... من الشرق إلى الغرب.
(١١) **خطأ** : ... هضبة البرازيل ...
(١٢) **خطأ** : ... نهر الأمازون ...
(١٣) **صواب.** (١٤) **خطأ** ... الساڤانا ...
(١٥) **خطأ** : تنمو حشائش الإستبس ...
(١٦) **خطأ** : ... بسقوط الأمطار طوال العام ...
(١٧) **صواب.** (١٨) **صواب.** (١٩) **صواب.**
(٢٠) **خطأ** : ... كلما اتجهنا شمالًا. (٢١) **صواب.**

٥ (١) الماء – اليابس (القارات).
(٢) آسيا – الهادى. (٣) أستراليا.
(٤) المحيط الأطلنطى. (٥) الأطلنطى.
(٦) اليابان. (٧) أطلس.
(٨) الجنوب الشرقى. (٩) الألب.
(١٠) الميزيتا. (١١) الأطلنطى.
(١٢) روكى. (١٣) لبرادور.
(١٤) الإنديز. (١٥) بتاجونيا.
(١٦) الموسمى. (١٧) مناخ البحر المتوسط.
(١٨) كاليفورنيا. (١٩) الإستبس.
(٢٠) المعتدل البارد شرق القارات (اللورانسى).

٦ (١) أستراليا. (٢) الموقع الجغرافى.
(٣) بحر قزوين. (٤) دول جزرية.
(٥) أمريكا الجنوبية. (٦) حوض النهر.
(٧) إقليم مناخى. (٨) حشائش الساڤانا.
(٩) إقليم البحر المتوسط.
(١٠) الإقليم المعتدل شرق القارات (الصينى).

(١١) الغابات النفضية. (١٢) الإقليم الجبلى.
(١٣) أنتاركتيكا.

٧ (١) بسبب تعرج السواحل وكثرة الجزر.
(٢) : (٦) **أجب بالرجوع إلى المفكرة ص١٣ بم تفسر.**
(٧) لأن جزيرة مدغشقر تقع فى نطاق إقليم المناخ الموسمى والذى يتميز بسقوط أمطار غزيرة صيفًا، مما يساعد على نمو الغابات الموسمية.
(٨) لأن المنطقتان تقعان فى نطاق إقليم مناخ البحر المتوسط الذى يتسم بالحرارة المرتفعة والجفاف صيفًا والدفء وسقوط الأمطار شتاءً.
(٩) : (١١) **أجب بالرجوع إلى المفكرة ص١٤ بم تفسر.**

٨ (١) ، (٣) **أجب بالرجوع إلى المفكرة ص ١٥ ما النتائج.**
(٢) ترتب على ذلك ضيق السهول الساحلية بقارة أفريقيا.

٩ (١) **يترك للطالب حرية الإجابة فى ضوء :**
سيؤدى ذلك إلى اتساع السهول الساحلية المطلة على المحيط الهادى فى أمريكا الجنوبية.
(٢) **يترك للطالب حرية الإجابة فى ضوء :**
سوف يظهر بها إقليم المناخ الاستوائى وشبه الاستوائى الذى يتميز بحرارة مرتفعة طوال العام وسقوط أمطار طوال العام وتنمو بها الغابات الاستوائية.
(٣) **يترك للطالب حرية الإجابة فى ضوء :**
ستسقط الأمطار طوال العام وخاصة فى الصيف كما ستنمو الغابات المخروطية.
(٤) **يترك للطالب حرية الإجابة فى ضوء :**
سوف تتميز بالاتساع والتعرج وبالتالى ستزيد الموانئ فى قارة أفريقيا.

١٠ **أجب بالرجوع إلى المفكرة ص١٢ ما المقصود.**

١١ (١)، (٣)، (٥)، (٧) **أجب بالرجوع إلى المفكرة ص ١٦ دلل.**
(٢) حيث تنبع روافد نهر النيل من هضبتى البحيرات الاستوائية والحبشة.
(٤) حيث تطل كل من قارة آسيا وأوروبا وأفريقيا بسواحل على البحر المتوسط.
(٦) **حيث إنها :**
– تمتد من سواحل المحيط القطبى الشمالى شمالًا إلى خليج المكسيك جنوبًا.
– تتسع بوسط أمريكا الشمالية إلى الشرق من جبال روكى.

- يغطى الجليد أطرافها الشمالية.
- يوجد بها البحيرات العظمى فى كندا والولايات المتحدة الأمريكية.

(٨) أجب بالرجوع إلى المفكرة ص ١٧ دلل.

١٢ **(١) أجب بالرجوع إلى المفكرة ص ٥ : ٨ أهم الجداول والمقارنات.**

(٢) أجب بالرجوع إلى المفكرة ص ٦ ، ٨ أهم الجداول والمقارنات.

(٣)	نهر الدانوب	نهر أورينوكو
القارة التى يقع بها	* أوروبا.	* أمريكا الجنوبية.
المصب الذى يصب فيه	* البحر الأسود.	* البحر الكاريبى ومنه إلى المحيط الأطلنطى.

(٤) أجب بالرجوع إلى المفكرة ص ٩ أهم الجداول والمقارنات.

(٥) أجب بالرجوع إلى المفكرة ص ١٠ أهم الجداول والمقارنات.

(٦)	جزر إندونيسيا	شمال اليابان
الإقليم المناخى	* الاستوائى وشبه الاستوائى.	* المعتدل البارد شرق القارات (اللورانسى).
موسم سقوط المطر	* طوال العام.	* طوال العام خاصة فى الصيف.
أهم الأشجار	* الماهوجنى والمطاط.	* الصنوبر والشربين.

(٧) أجب بالرجوع إلى المفكرة ص ١١ أهم الجداول والمقارنات.

(٨) أجب بالرجوع إلى المفكرة ص ١٢ أهم الجداول والمقارنات.

(٩)	قارة آسيا	قارة أفريقيا
الهضبتين	* التبت. * الدكن.	* الحبشة (إثيوبيا). * البحيرات الاستوائية.
المناطق التى يوجد بها الإقليم الاستوائى وشبه الاستوائى	* جزر إندونيسيا.	* حوض الكونغو.

(١٠)	جنوب شرق أفريقيا	جنوب غرب آسيا
الخصائص النباتية	**تنمو بها:** * غابات الإقليم الصينى ومن أهم أشجارها: الصفصاف والبلوط. * حشائش الإستبس.	**تنمو بها:** * حشائش الساڤانا. * أشجار أقل كثافة وتشابكًا من أشجار الغابات الاستوائية.

١٣

① (١) (البحر العربى) المحيط الهندى.
(٢) الخليج العربى.
(٣) ، (٥) المحيط القطبى الشمالى.
(٤) المحيط الأطلنطى. (٦) بحر قزوين.
(٧) الخليج الأسترالى الكبير.
(٨) بحر الشمال. (٩) خليج غينيا.
(١٠) المحيط الأطلنطى. (١١) خليج المكسيك.
(١٢) خليج سانت لورانس.
(١٣) البحر المتوسط.

② (١) ، (٩) ، (١٤) ، (٢٠) ، (٢٦) ، (٢٩) قارة أفريقيا.
(٢) ، (١٠) ، (١٦) ، (١٧) ، (١٩) ، (٢٢) ، (٢٥) ، (٢٧) قارة آسيا.
(٣) ، (٦) ، (٢١) ، (٢٨) قارة أمريكا الشمالية.
(٤) ، (٧) ، (١٢) ، (١٨) قارة أوروبا.
(٥) ، (٨) ، (١٥) ، (٢٣) ، (٢٤) قارة أمريكا الجنوبية.
(١١) ، (١٣) قارة أستراليا.

③ (١) ، (٨) الغابات الاستوائية – الإقليم المناخى الاستوائى وشبه الاستوائى.
(٢) ، (٩) غابات الإقليم الصينى – الإقليم المناخى المعتدل شرق القارات (الصينى).
(٣) ، (٥) الغابات المخروطية – الإقليم المناخى المعتدل البارد شرق القارات (اللورانسى).
(٤) غابات البحر المتوسط – إقليم مناخ البحر المتوسط.
(٦) الغابات النفضية – إقليم مناخ غرب أوروبا.
(٧) الغابات الموسمية – الإقليم المناخى الموسمى.

④ (١) **النبات الطبيعى** : طحالب تنمو سريعًا فى فصل ذوبان الجليد.

(٢) **النبات الطبيعى :**
- غابات موسمية.
- حشائش الساڤانا.

⑤ (١) **الهيمالايا** : لأنها جبال والباقى هضاب.
(٢) **الميزيتا** : لأنها من هضاب قارة أوروبا، أما الباقى فمن هضاب قارة آسيا.
(٣) **لابلاتا** : لأنه من أنهار قارة أمريكا الجنوبية، أما الباقى فمن أنهار قارة آسيا.
(٤) **الكونغو** : لأنه من أنهار قارة أفريقيا، أما الباقى فمن أنهار قارة أوروبا.

⑥	إقليم مناخ البحر المتوسط	إقليم المناخ الصينى
أوجه الشبه	* ينتمى كلاهما إلى الأقاليم المناخية المعتدلة الدفيئة الواقعة بين دائرتى عرض ٣٠° ، ٤٥° شمالًا وجنوبًا. * حرارة مرتفعة صيفًا. * أشجار الغابات بهما دائمة الخضرة. * تنمو بهما حشائش الإستبس.	
أوجه الاختلاف	* يوجد غرب معظم القارات. * تسقط الأمطار شتاءً ويسود الجفاف صيفًا. * تنمو به أشجار الزيتون.	* يوجد شرق معظم القارات. * تسقط الأمطار طوال العام وتزداد صيفًا. * تنمو به أشجار البلوط والصفصاف. * تتعرض أحيانًا لعواصف مدارية مثل عواصف التيفون.

⑦ (١) يفصل آسيا عن أفريقيا البحر الأحمر.
(٢) أدى ذلك إلى تدرج أطوال حشائش الساڤانا.

⑧ (١) **تتمثل تلك العوامل فى :**
- الموقع الفلكى.
- الموقع الجغرافى.
- التضاريس.

(٢) أدى ذلك إلى نمو الطحالب.
(٣) **يترك للطالب حرية الإجابة فى ضوء :**
- عدم التخلص من المخلفات بطريقة الحرق.
- الاعتماد على الطاقة الشمسية وطاقة الرياح لتوليد الكهرباء بدلًا من استخدام الطاقة الحفرية التى تلوث البيئة.

امتحان على الوحدة الأولى

١

(أ) (١) السهل الأوروبى العظيم.
(٢) الكونغو. (٣) غرب أوروبا.

(ب) **خطأ** : حيث يمر خط جرينتش بثلاث قارات فقط وهى قارة أوروبا وقارة أفريقيا وقارة أنتاركتيكا.

(جـ) (١) حيث تحاط قارة أوروبا بالمياه من ثلاث جهات فيحدها من جهة الشمال المحيط القطبى الشمالى، ومن جهة الغرب المحيط الأطلنطى، ومن جهة الجنوب البحر المتوسط.
(٢) **أجب بالرجوع إلى المفكرة ص ١٧ دلل.**

(د) **تتمثل أوجه الشبه فى :**
- المصب فيصب كلاهما فى المحيط الأطلنطى.
- يسودها الإقليم المناخى الاستوائى وشبه الاستوائى الذى يتميز بحرارة مرتفعة طوال العام وسقوط أمطار طوال العام.
- تنمو بهما غابات استوائية ومن أهم أشجارها الماهوجنى والمطاط.

٢

(أ) (١) إقليم غرب أوروبا.
(٢) المحيط الهادى. (٣) ينسى.

(ب) (١) جبال طوروس فى تركيا وجبال زاجروس فى العراق وإيران.
(٢) يفصل آسيا عن أوروبا جبال أورال، ويفصل آسيا عن أفريقيا البحر الأحمر.

(جـ) (١) بسبب ارتفاع السطح وكمية المطر.
(٢) **أجب بالرجوع إلى المفكرة ص ١٣ بم تفسر.**

(د) (١) - الإقليم المناخى : الإقليم الموسمى.
- موسم سقوط المطر : الصيف.
(٢) - الإقليم المناخى : الإقليم المعتدل البارد شرق القارات (اللورانسى).
- موسم سقوط المطر : طوال العام وخاصة صيفًا.

أسئلة عامة على الوحدة الثانية

١ ① (١) الزنجية. (٢) القوقازية.
(٣) المغولية.
② (١) جزر اليابان.
(٢) سهول وادى النيل فى مصر وجمهورية السودان.
(٣) سهول نهر يانجتسى فى الصين.
(٤) السهل الأوروبى العظيم.
(٥) سواحل دولة جنوب أفريقيا.
(٦) سهول نهرى مرى ودارلنج.
(٧) صحراء كلهارى.
(٨) سهول الأمازون الاستوائية.
(٩) دول البرزخ (هندوراس وكوستاريكا).
(١٠) هضبة بتاجونيا.
③ (١) البرازيل. (٢) جنوب أفريقيا.
(٣) مصر. (٤) أستراليا.

٢ **أجب بالرجوع إلى المفكرة ص ٣٩ : ٤١ أهم الجداول والمقارنات.**

٣ (١) الزنجية. (٢) السلالة الزنجية.
(٣) سيبيريا. (٤) الشعر المسترسل.
(٥) السلالة المغولية. (٦) السلالة القوقازية.
(٧) المجموعة الألبية. (٨) شمال أوروبا.
(٩) العرب. (١٠) الإسكيمو.
(١١) اليانجتسى. (١٢) الأمازون.
(١٣) المناطق الاستوائية. (١٤) الشمالية.
(١٥) الولايات المتحدة الأمريكية.
(١٦) مونتريال. (١٧) شمال أستراليا.
(١٨) السواحل الشرقية.
(١٩) أفريقيا. (٢٠) أوروبا.
(٢١) غرب أوروبا. (٢٢) المرتفعة.
(٢٣) النيجر. (٢٤) أستراليا.
(٢٥) دول غرب أوروبا. (٢٦) المرتفع.
(٢٧) الصناعة. (٢٨) تركيا.
(٢٩) الهند. (٣٠) الكونغو.
(٣١) أستراليا.

٤ (١) **خطأ** : ... الزنجية ... (٢) **صواب.**
(٣) **صواب.** (٤) **خطأ** : ... المغولية.
(٥) **خطأ** : ... القوقازية ... (٦) **خطأ** : ... قارة آسيا.
(٧) **صواب.** (٨) **صواب.**
(٩) **خطأ** : ... على أسس ظاهرية. (١٠) **صواب.**
(١١) **خطأ** : ... قارة آسيا ...
(١٢) **خطأ** : ... الصين والهند. (١٣) **صواب.**
(١٤) **خطأ** : ... لندن وباريس. (١٥) : (١٧) **صواب.**
(١٨) **خطأ** : تنخفض ... وترتفع ...
(١٩) **خطأ** : ... المتقدمة.
(٢٠) **خطأ** : روسيا ... (٢١) **صواب.**
(٢٢) **خطأ** : ... الصناعة والخدمات. (٢٣) **صواب.**
(٢٤) **صواب.**

٥ (١) الزنجية. (٢) المتقدمة.
(٣) المغولية. (٤) جاوة.
(٥) لوجود المناطق الصحراوية.
(٦) مرى ودارلنج. (٧) أوروبا.
(٨) الزراعى. (٩) أوكرانيا.

٦ (١) السلالة البشرية. (٢) السلالة الزنجية.
(٣) السلالة القوقازية. (٤) السلالة القوقازية.
(٥) مجموعة سكان حوض البحر المتوسط.
(٦) الديموجرافيا. (٧) فئة صغار السن.
(٨) فئة كبار السن. (٩) قوة العمل.

٧ (١) ، (٣) **أجب بالرجوع إلى المفكرة ص ٤٢ بم تفسر.**
(٢) للعمل فى مزارع القطن وقصب السكر والتبغ التى أنشأها الأوروبيون فى الأمريكتين.
(٤) بسبب انصهار السلالات واختلاط الصفات الطبيعية التى تميز كل سلالة عن الأخرى.
(٥) : (٨) **أجب بالرجوع إلى المفكرة ص ٤٣ بم تفسر.**
(٩) بسبب سيادة الظروف الصحراوية.
(١٠) : (١٣)، (١٥) : (٢٠) **أجب بالرجوع إلى المفكرة ص ٤٤ بم تفسر.**
(١٤) بسبب وجود الغابات الاستوائية.
(٢١) ، (٢٢) ، (٢٤) **أجب بالرجوع إلى المفكرة ص ٤٥ بم تفسر.**
(٢٣) بسبب انتشار بعض العادات والتقاليد السلبية،
مثل : - حرمان المرأة من التعليم حفاظًا عليها أو بسبب المعتقدات الخطأ.
- تفضيل الزواج المبكر للإناث.

٨ (١) ، (٢) **أجب بالرجوع إلى المفكرة ص ٤٦ ما النتائج.**
(٣) ترتب على ذلك قلة التركز السكانى فى غرب أستراليا.
(٤) : (٦) **أجب بالرجوع إلى المفكرة ص ٤٦ ما النتائج.**

(٧) **ترتب على ذلك :** – قلة معدلات الوفيات.
– ارتفاع نسبة كبار السن.

(٨) ترتب على ذلك أن أصبحت دول الخليج العربى من الدول ذات الدخل الاقتصادى المرتفع.

٩ (١) **يترك للطالب حرية الإجابة فى ضوء :**
لانتشرت السلالات النقية فى العالم وأصبح العالم مقسم إلى ثلاث سلالات بشرية فقط (قوقازية – مغولية – زنجية).

(٢) **يترك للطالب حرية الإجابة فى ضوء :**
لن تظهر مشكلات مثل :
– نقص الغذاء.
– قلة نصيب الفرد من الدخل القومى.
– انخفاض مستوى المعيشة.
– وجود هجرات غير شرعية.

(٣) **يترك للطالب حرية الإجابة فى ضوء :**
سيؤدى ذلك إلى :
– انخفاض معدل الزيادة الطبيعية بأفريقيا (إذا صاحبه انخفاض فى معدل الوفيات).
– ارتفاع نصيب الفرد من الدخل القومى.

(٤) **يترك للطالب حرية الإجابة فى ضوء :**
سيؤدى ذلك إلى وصول معدلات الزيادة الطبيعية إلى الصفر وبالتالى ثبات عدد السكان.

(٥) **يترك للطالب حرية الإجابة فى ضوء :**
سيؤدى ذلك إلى :
– ارتفاع مستوى المعيشة.
– زيادة فرص العمل.
– زيادة نصيب الفرد من الدخل القومى.

(٦) **يترك للطالب حرية الإجابة فى ضوء :**
سيؤدى ذلك إلى عدم تحمل الدول النامية ميزانية ضخمة من أجل توفير الغذاء والملبس والرعاية الصحية والتعليم وغيرها من الخدمات وبالتالى ارتفاع نصيب الفرد من الدخل القومى وارتفاع مستوى المعيشة.

(٧) **يترك للطالب حرية الإجابة فى ضوء :**
سيؤدى ذلك إلى أن تصبح مصر من الدول ذات الدخل الاقتصادى المرتفع التى يتمتع سكانها بمستوى معيشة مرتفعة.

(٨) **يترك للطالب حرية الإجابة فى ضوء :**
سيؤدى ذلك إلى :
– تحول دول أفريقيا إلى دول ذات دخل اقتصادى مرتفع.
– ارتفاع نصيب الأفراد فى هذه الدول من الدخل القومى.

١٠ أجب بالرجوع إلى المفكرة ص ٣٨ ما المقصود.

١١ (١) : (٤) **أجب بالرجوع إلى المفكرة ص ٤٧ دلل.**
(٥) حيث يتمثل تلك العامل المؤثر فى المدن الكبرى وذلك لوجود فرص العمل، ووفرة الخدمات والمناطق الصناعية.
(٦)، (٨) **أجب بالرجوع إلى المفكرة ص ٤٨ دلل.**
(٧) حيث ترتفع نسبة المتعلمين فى الدول المتقدمة إلى أكثر من ٩٥ ٪ مثل روسيا واليابان وأستراليا ودول أمريكا الشمالية ودول أوروبا.

١٢ (١) **أجب بالرجوع إلى المفكرة ص ٣٩ أهم الجداول والمقارنات (المميزات، أماكن الانتشار).**
(٢) **أجب بالرجوع إلى المفكرة ص ٤٠ أهم الجداول والمقارنات.**
(٣) **أجب بالرجوع إلى المفكرة ص ٤١ أهم الجداول والمقارنات.**
(٤) **أجب بالرجوع إلى المفكرة ص ٤٢ أهم الجداول والمقارنات.**

١٣ ① (١) **يترك للطالب حرية الإجابة فى ضوء :**
أن تقسيم السلالات أمر ظاهرى وليس جوهرى فيتم التقسيم حسب الشكل الخارجى فلا توجد سلالة أكثر ذكاء من سلالة أخرى أو أكثر منها قدرة على العمل والإبداع.

(٢) **يترك للطالب حرية الإجابة فى ضوء :**
أن ارتفاع نسبة صغار السن يُحمل الدول النامية ميزانية ضخمة من أجل توفير الغذاء والملبس والرعاية الصحية والتعليم وغيرها من الخدمات مما يؤثر بالسلب على التنمية بها.

(٣) **يترك للطالب حرية الإجابة فى ضوء :**
قيام مصر بنشر الوعى بأهمية تعليم المرأة وتحقيق مبدأ تكافؤ الفرص فى التعليم بين الرجل والمرأة، مما ساعد على رفع معدل التنمية والتقدم.

(٤) يترك للطالب حرية الإجابة فى ضوء :
توجد بعض العادات والتقاليد التى تؤثر فى معدل تعليم الإناث مثل حرمانها من التعليم للحفاظ عليها أو بسبب المعتقدات الخطأ، وتفضيل الزواج المبكر للإناث وبالتالى انخفاض نسبة المتعلمين من الإناث.

(٥) يترك للطالب حرية الإجابة فى ضوء :
قيام مصر بتقليل نسبة الأمية عن طريق إنشاء فصول خاصة لمحو الأمية بالمدارس وغيرها مما سيساعد فى رفع المستوى التعليمى بها.

② (١) تقل معدلات الوفيات فى الدول التى ترتفع فيها مستوى الرعاية الصحية، وتزداد فى الدول التى تقل فيها مستوى الرعاية الصحية.

(٢) يتركز السكان فى المدن الكبرى **بسبب :**
- وفرة فرص العمل.
- وفرة الخدمات والمناطق الصناعية.

(٣) كلما زاد عدد الأطباء بالنسبة للسكان فى دولة ما دل ذلك على زيادة الرعاية الطبية بها.

(٤) الدول ذات الدخل الاقتصادى المرتفع تعتمد على النشاط الصناعى مثل دول غرب أوروبا ودول أمريكا الشمالية ودول الخليج العربى بآسيا.

③ (١) القوقازية. (٢) المغولية. (٣) الزنجية.

④ (١) ، (٤) : (٧) مناطق يتركز بها السكان.
(٢) ، (٣) ، (٨) : (١٠) مناطق يقل بها السكان.

⑤ (١) ، (٤) يتركز بها السكان لأنها سهول فيضية خصبة.
(٢) ، (٥) يقل بها السكان بسبب شدة برودة الجو.
(٣) يقل بها السكان لسيادة الظروف الصحراوية.
(٦) يتركز بها السكان لأنها جزيرة ذات تربة جيدة.
(٧) يقل بها السكان بسبب نمو الغابات الكثيفة والبيئة الطبيعية القاسية حيث تنتشر الأمراض.

⑥ (١) دولة ذات دخل اقتصادى فوق المتوسط.
(٢) ، (٤) ، (٥) دول ذات دخل اقتصادى أقل من المتوسط.
(٣) ، (٦) دول ذات دخل اقتصادى مرتفع.
(٧) دول ذات اقتصاد زراعى منخفض.

⑦ (١) دولة ذات رعاية طبية فائقة.
(٢) ، (٤) دول ذات رعاية طبية مرتفعة.
(٣) دولة ذات رعاية طبية منخفضة.

⑧ (١) - **جنوب أفريقيا** : الدخل الاقتصادى فوق المتوسط.
- **الكونغو** : الاقتصاد الزراعى المنخفض.

(٢) - **جنوب أفريقيا** : التصنيع والتنمية الاقتصادية والأنشطة الأخرى.
- **الكونغو** : الزراعة.

(٣) يترك الطالب حرية الإجابة فى ضوء :
- الاهتمام بالصناعة وإقامة مراكز لتمويل المشروعات الصناعية.
- الحد من تصدير المواد الخام.
- الاهتمام بالسياحة وعمل قرى ومنتجعات سياحية لجذب السياح لمصر.
- عمل مؤتمرات وندوات لطرح حلول لمعالجة المشكلات الاقتصادية.

⑨ (١) فى السواحل الشرقية وجنوب شرق القارة.
(٢) بسبب شدة البرودة.

(٣) يترك للطالب حرية الإجابة فى ضوء :
- العمل على وجود توازن بين الموارد الاقتصادية وعدد السكان.
- توفير فرص عمل.
- البحث عن مصادر جديدة للدخل القومى ورفع مستوى المعيشة.

⑩ (١) حيث يتركز السكان فى المناطق ذات المناخ المعتدل (مثل سواحل البحر المتوسط فى مصر ودول المغرب العربى) ويقلوا فى المناطق الاستوائية الحارة (مثل سهول الأمازون) والمناطق الصحراوية مثل وسط وغرب أستراليا والمناطق الشمالية فى آسيا وأوروبا بسبب برودة الجو.

(٢) أدى انتشار بعض العادات والتقاليد السلبية مثل الزواج المبكر والرغبة فى إنجاب أكبر عدد من الأبناء إلى ارتفاع معدلات المواليد فى قارة أفريقيا بشكل كبير.

⑪ (١) - الساحل الشمالى الشرقى.
- ولايات الوسط (سهول المسيسبى).
- منطقة البحيرات العظمى.

(٢) أجب بالرجوع إلى المفكرة ص ٤٦ ما النتائج.
(٣) يترك للطالب حرية الإجابة فى ضوء :
- يمكن النهوض بالخدمات الصحية من خلال :
♦ إنشاء المستشفيات المتخصصة وتجهيزها بأحدث الأجهزة من خلال توفير الأموال والمستثمرين اللازمين لذلك.
♦ زيادة عدد الأطباء والذى يعد مؤشرًا على ارتفاع معدل الرعاية الطبية.
- يمكن النهوض بالخدمات التعليمية من خلال :
♦ التوسع فى إنشاء المدارس والجامعات والمدارس المهنية من خلال توفير الأموال والمستثمرين اللازمين لذلك.
♦ استخدام الأساليب الحديثة فى التعليم من تطوير للمناهج وطرق التدريس وغيرها.
⑫ الشكل رقم (٢) يمثل النسب الصحيحة، حيث :
- السلالة القوقازية : ٥٠ ٪
- السلالة المغولية : ٤٠ ٪
- السلالة الزنجية : ١٠ ٪

١٤ ① (١) آسيا.
(٢) - يتركز سكان قارة آسيا فى السهول الفيضية مثل سهول نهر الجانج بالهند.
- يقل السكان بالمناطق الصحراوية مثل شبه الجزيرة العربية، وبالمناطق الجبلية والهضبية بوسط القارة لوعورة السطح.
② (١) أمريكا الجنوبية.
(٢) أجب بالرجوع إلى المفكرة ص ٤٤ بم تفسر.
③ (١) أستراليا (الأوقيانوسية) - أوروبا.
(٢) بسبب اعتماد معظم دول أفريقيا على الزراعة وبالتالى فهى من الدول ذات الاقتصاد الزراعى المنخفض.
(٣) حيث تعتمد دول الخليج العربى على استخراج البترول وتصديره للخارج وتصنيع مشتقاته.

امتحان على الوحدة الثانية

١
(أ) (١) قارة أمريكا الجنوبية.
(٢) السلالة القوقازية.
(٣) سهول نهرى مرى ودارلنج.
(ب) خطأ : حيث تُعد دول الخليج العربى من الدول ذات الدخل الاقتصادى المرتفع لاعتمادها على استخراج البترول وتصديره للخارج وتصنيع مشتقاته.
(جـ) (١) حيث توجد السلالة النقية الإسكيمو فى شمال كندا والهنود الحمر فى الولايات المتحدة الأمريكية.
(٢) حيث تزداد الوفيات فى أوروبا بسبب زيادة عدد كبار السن، أما فى أفريقيا تزداد الوفيات بسبب قلة الرعاية الصحية وانتشار الأمراض.
(٣) حيث يتركز السكان فى دول شرق أوروبا بدرجة أقل وذلك لأنها أقل فى درجة تقدمها عن دول غرب ووسط أوروبا.
(د) تؤدى الكوارث الطبيعية (كالجفاف والزلازل) إلى زيادة معدلات الوفيات فى العالم.

٢
(أ) (١) تركيا. (٢) بتاجونيا.
(٣) السلالة القوقازية.
(ب) (١) أجب بالرجوع إلى المفكرة ص ٤٥ بم تفسر.
(٢) أدى ذلك إلى أن الإنسان بدأ يتأثر بهذه البيئات ويؤثر فيها فظهرت اختلافات فى الصفات الوراثية بين البشر التى تميز كل سلالة عن الأخرى ومن هنا نشأت السلالات البشرية.
(٣) يترك للطالب حرية الإجابة فى ضوء :
- سن القوانين التى تحرم الزواج المبكر للإناث.
- نشر الوعى بأهمية تعليم المرأة.
(جـ) (١) للعمل فى مزارع القطن وقصب السكر والتبغ التى أنشأها الأوروبيون فى الأمريكتين.
(٢) أجب بالرجوع إلى المفكرة ص ٤٤ بم تفسر.

امتحان على الجغرافيا

١
(أ) (١) إقليم البحر المتوسط. (٢) مدينة سيدنى.
(٣) الحاجز الكبير.
(ب) (١) نهر. (٢) جزيرة.
(٣) أوروبا. (٤) أفريقيا.
(جـ) (١) أجب بالرجوع إلى المفكرة ص ١٤ بم تفسر.
(٢) بسبب وجود المدن الكبرى.
(٣) لأنها تحمل هذه الدول ميزانية ضخمة لتوفير الغذاء والملبس والرعاية الصحية والتعليم وغيرها من الخدمات.

(د) حيث أن كلًا منهما يحدهما شرقًا المحيط الأطلنطى وغربًا المحيط الهادى.

٢

(أ) (١) الراين. (٢) الهادى. (٣) آسيا.

(ب) **خطأ** : يعتبر المحيط الأطلنطى حدًا طبيعيًا لأربع قارات حيث يحد أفريقيا وأوروبا من جهة الغرب وأمريكا الشمالية وأمريكا الجنوبية من جهة الشرق.

(جـ) (١) أدى ذلك إلى تركز السكان فى الساحل الشمالى الشرقى للولايات المتحدة الأمريكية.

(٢) ترتب على ذلك فقدان هذه الأنهار أهميتها الاقتصادية شتاءً.

(د) (١) ينمو بإقليم البحر المتوسط حشائش الإستبس والتى تستغل كمراعى طبيعية.

(٢) أدت زيادة عدد السكان فى قارة آسيا إلى حدوث هجرات غير شرعية من آسيا إلى دول قارة أوروبا.

أسئلة عامة على الوحدة الثالثة

١ (أ) (١) العثمانيون ضد الصفويين.

(٢) العثمانيون ضد المماليك.

(٣) - انتصار العثمانيين ودخولهم القاهرة.

- انتهاء دولة المماليك وأصبحت مصر ولاية عثمانية.

(٤) الفرنسيون ضد المماليك.

(٥) هزيمة المماليك وفرارهم جنوبًا للدفاع عن القاهرة ورابطوا عند إمبابة.

(٦) **هزيمة المماليك وفرار كل من :**

- مراد بك إلى الصعيد.

- إبراهيم بك ومعه الوالى العثمانى إلى الشام.

(٧) الأسطول الإنجليزى بقيادة نلسون ضد أسطول الحملة الفرنسية.

(٨) - تحطيم وإغراق الأسطول الفرنسى.

- حصار الأسطول الإنجليزى لشواطئ مصر الشمالية.

(٩) قوات الحملة الفرنسية بقيادة نابليون ضد قوات الأسطول العثمانى.

(١٠) هزيمة القوات العثمانية.

(ب) (١) تبريز. (٢) الآستانة.
(٣) الإسكندرية. (٤) يافا.
(٥) عكا. (٦) دمياط.
(٧) أسوان. (٨) الإسكندرية.
(٩) الخرطوم.

٢ (١) الحجاز. (٢) الكشوف الجغرافية.
(٣) ديو البحرية. (٤) الريدانية.
(٥) على بك الكبير. (٦) كبار التجار.
(٧) طولون. (٨) محمد كريم.
(٩) الصعيد. (١٠) إمبابة.
(١١) توقف حركة التجارة الخارجية لمصر.
(١٢) الصعيد. (١٣) ثورة القاهرة الأولى.
(١٤) العريش. (١٥) معركة أبى قير البرية.
(١٦) كليبر. (١٧) الاجتماعى.
(١٨) الدواوين.
(١٩) ثورة الشعب المصرى ١٨٠٤م.
(٢٠) خورشيد باشا. (٢١) المماليك.
(٢٢) المصريين. (٢٣) دمياط.
(٢٤) القضاء على الزعامة الشعبية.
(٢٥) الاهتمام بالرى والتعليم الزراعى.
(٢٦) البدو. (٢٧) رفاعة الطهطاوى.
(٢٨) عسكرية وثقافية. (٢٩) كريت.

٣ (١) **صواب.** (٢) **خطأ** : ... المملوكى ...
(٣) **صواب.** (٤) **خطأ** : نجح العثمانيون ...
(٥) **صواب.** (٦) **خطأ** : ... بالجمود والتخلف.
(٧) **صواب.**
(٨) **خطأ** : انهزم المماليك أمام الفرنسيين ...
(٩) **صواب.** (١٠) **خطأ** : اضطربت ...
(١١) **صواب.** (١٢) **خطأ** : صعبت ...
(١٣) **صواب.** (١٤) **خطأ** : رفضت ...
(١٥) **صواب.** (١٦) **صواب.** (١٧) **صواب.**
(١٨) **خطأ** : ... عزل محمد على ... (١٩) **صواب.**
(٢٠) **خطأ** : ... حرمان المماليك ...
(٢١) **خطأ** : ... نظام الاحتكار.
(٢٢) **صواب.** (٢٣) **خطأ** : تدهورت طبقة ...
(٢٤) **صواب.** (٢٥) **صواب.**
(٢٦) **صواب.** (٢٧) **خطأ** : ... حروب اليونان ...
(٢٨) **صواب.**

٤ (١) السلطان الغورى. (٢) محمد بك أبو الدهب.
(٣) محمد كريم. (٤) الأزهر الشريف.
(٥) العريش. (٦) روسيا.
(٧) وصف مصر. (٨) الحملة الفرنسية.
(٩) فريزر. (١٠) الزعامة الشعبية.
(١١) المحمودية. (١٢) أسوان.
(١٣) الوقائع المصرية. (١٤) الديوان العالى.
(١٥) شبه الجزيرة العربية.

٥ (١) طريق رأس الرجاء الصالح.
(٢) معركة جالديران. (٣) إمارة ذى القادر.
(٤) معركة الريدانية. (٥) نظام الالتزام.
(٦) العلوم الشرعية. (٧) معركة شبراخيت.
(٨) جلاء. (٩) دار المحكمة.
(١٠) القوة العسكرية. (١١) معركة نقارين.
(١٢) معاهدة لندن الدولية.

٦ (١) السلطان العثمانى سليم الأول.
(٢) الشيخ ظاهر العمر.
(٣) نلسون. (٤) نابليون بونابرت.
(٥) أحمد باشا الجزار. (٦) عمر مكرم.
(٧) : (٩) محمد على.

٧ (١) ، (٣) **أجب بالرجوع إلى المفكرة ص ٦١ بم تفسر.**
(٢) بسبب انتصار العثمانيين فى معركة الريدانية عام ١٥١٧م ودخولهم القاهرة مما ترتب عليه انتهاء دولة المماليك بمصر.
(٤) : (٧) **أجب بالرجوع إلى المفكرة ص ٦٢ بم تفسر.**
(٨) **أجب بالرجوع إلى المفكرة ص ٥٨ أهم الجداول والمقارنات (الأسباب).**
(٩) : (١٣) **أجب بالرجوع إلى المفكرة ص ٦٣ بم تفسر.**
(١٤) : (١٩) **أجب بالرجوع إلى المفكرة ص ٦٤ بم تفسر.**
(٢٠) بسبب قيام بريطانيا بإقناع السلطان العثمانى بضرورة عزل محمد على وإسناد ولاية مصر إلى محمد بك الألفى أو أى والٍ عثمانى آخر لتطمئن على مصالحها الاقتصاديةً فى المنطقة.
(٢١) **أجب بالرجوع إلى المفكرة ص ٥٨ أهم الجداول والمقارنات (الأسباب).**
(٢٢) ، (٢٤) ، (٢٥) **أجب بالرجوع إلى المفكرة ص ٦٥ بم تفسر.**

(٢٣) **لأن محمد على قام بـ :**
- إلغاء نظام الالتزام وتوزيع مساحات من الأراضى على الفلاحين.
- اتباع سياسة زراعية تهدف إلى توفير أكبر قدر من الدخل من الإنتاج الزراعى.
- تحسين طرق الرى، وحفر ترعة المحمودية، وإنشاء العديد من القناطر على النيل وأهمها القناطر الخيرية.

(٢٦) ، (٣٠) ، (٣١) **أجب بالرجوع إلى المفكرة ص ٦٦ بم تفسر.**
(٢٧) : (٢٩) **أجب بالرجوع إلى المفكرة ص ٦٠ أهم الجداول والمقارنات (الأسباب).**

٨ (١) ، (٢) **أجب بالرجوع إلى المفكرة ص ٦٧ ما النتائج.**
(٣) ، (٤) **أجب بالرجوع إلى المفكرة ص ٥٦ أهم الجداول والمقارنات (النتائج).**
(٥) ترتب على ذلك فشل حركة على بك الكبير الاستقلالية عن الدولة العثمانية وعودة مصر ولاية عثمانية تحت حكم شيخ البلد محمد بك أبو الدهب.
(٦) **ترتب على ذلك** أن اتسمت الحياة الفكرية والثقافية بالجمود والتخلف **مما أدى إلى :**
- اهتزاز مكانة الأزهر العلمية فى ذلك الوقت ولم يعد هناك اهتمام بالعلوم العقلية والرياضية والطبيعية ولكن كان هناك اهتمام بالعلوم الشرعية.
- تدهور الحياة الأدبية.
- انتشار الجهل والدجل والشعوذة والخرافات.

(٧) **أجب بالرجوع إلى المفكرة ص ٦٧ ما النتائج.**
(٨) **أجب بالرجوع إلى المفكرة ص ٥٦ أهم الجداول والمقارنات (النتائج).**
(٩) **أجب بالرجوع إلى المفكرة ص ٥٧ أهم الجداول والمقارنات (النتائج).**
(١٠) **ترتب على ذلك :**
- إخفاق القوات الفرنسية فى إخضاع أهالى الصعيد.
- تعاظم الشعور الوطنى ونمو الوعى القومى تجاه الاحتلال الفرنسى.

(١١) ، (١٣) **أجب بالرجوع إلى المفكرة ص ٥٧ أهم الجداول والمقارنات (النتائج).**
(١٢) **أجب بالرجوع إلى المفكرة ص ٦٨ ما النتائج.**

(١٤) أجب بالرجوع إلى المفكرة ص ٥٨ أهم الجداول والمقارنات (النتائج).

(١٥) ترتب على ذلك :

انتهاز محمد على الفرصة وقيامه بـ :

- خلع عمر مكرم من نقابة الأشراف.
- إبعاد عمر مكرم إلى دمياط ١٨٠٩م.

(١٦) ترتب على ذلك اهتمام محمد على بالتعليم والثقافة حيث أنشأ العديد من المدارس الحديثة مثل المهندسخانة - الطب - الزراعة وغيرها وإرسال البعثات العلمية إلى أوروبا.

(١٧) : (٢٠) أجب بالرجوع إلى المفكرة ص ٦٠ أهم الجداول والمقارنات (النتائج).

(٢١) أجب بالرجوع إلى المفكرة ص ٦٨ ما النتائج.

٩ (١) يترك للطالب حرية الإجابة فى ضوء :

- لم تتعرض الدولة المملوكية لأزمات مالية وتدهور اقتصادى.
- لم تتدهور التجارة الخارجية لمصر أثناء العصر العثمانى.

(٢) يترك للطالب حرية الإجابة فى ضوء :

بقاء الشام تحت حكم المماليك وبالتالى لم يتجه العثمانيون نحو مصر.

(٣) أجب بالرجوع إلى المفكرة ص ٧٤ ماذا يحدث.

(٤) يترك للطالب حرية الإجابة فى ضوء :

- لم يحاصر الأسطول الإنجليزى شواطئ مصر الشمالية وبالتالى سيطرة فرنسا على سواحل البحر المتوسط فى مصر.
- عدم توقف حركة التجارة الخارجية لمصر.
- عدم حرمان الحملة من إمدادات فرنسا لها.

(٥) يترك للطالب حرية الإجابة فى ضوء :

سيؤدى ذلك إلى سيطرة الحملة الفرنسية على الشام.

(٦) ، (١٠) أجب بالرجوع إلى المفكرة ص ٧٤ ماذا يحدث.

(٧) يترك للطالب حرية الإجابة فى ضوء :

لم يتم التعرف على التاريخ المصرى القديم.

(٨) يترك للطالب حرية الإجابة فى ضوء :

- سيتم خلع محمد على من الحكم.
- ستنجح بريطانيا فى احتلال مصر.
- تولية محمد بك الألفى حكم مصر.

(٩) يترك للطالب حرية الإجابة فى ضوء :

- لم يمتد النفوذ المصرى إلى جنوب السودان.
- لم يتم إنشاء مدينة الخرطوم (العاصمة).
- لم يتم اكتشاف منابع النيل.

١٠ (١) يترك للطالب حرية الإجابة فى ضوء :

تدهور الزراعة فى مصر وتدهور أحوال المجتمع الريفى بوجه عام نتيجة :

- كثرة الضرائب المفروضة على الأراضى الزراعية وتعسف وظلم الملتزمين فى جمع الضرائب.
- إهمال الطبقة الحاكمة لتنظيم الرى وإقامة السدود وحفر الترع.

(٢) يترك للطالب حرية الإجابة فى ضوء :

- أصبحت الصناعات فى مصر يدوية بسيطة وجميعها رديئة.
- كان ذلك سببًا من أسباب تدهور الصناعة فى مصر فى العصر العثمانى.

(٣) يترك للطالب حرية الإجابة فى ضوء :

إن ذلك كان بهدف تدريب الأعيان والعلماء المصريين على نظام مجالس الشورى من حيث الاستشارة وتلقى الآراء فيما يعود على الأهالى بالنفع العام فى مختلف المجالات.

(٤) يترك للطالب حرية الإجابة فى ضوء :

- يعد ذلك مخالفة لما وعدهم به.
- ما قام به نابليون أدى لنتيجة عكسية حيث استبسل أهالى عكا فى الدفاع عن مدينتهم مما أدى لفشل حملة نابليون على الشام.

(٥) يترك للطالب حرية الإجابة فى ضوء :

أن ذلك يعد حدثًا مهمًا فى تاريخ مصر الحديث أن يشترك المصريين فى اختيار حاكمهم بإرادتهم وبشروطهم.

(٦) يترك للطالب حرية الإجابة فى ضوء :

أراد محمد على أن ينفرد بحكم مصر دون وصاية أو رقابة شعبية لذا قرر أن يتخلص من الزعامة الشعبية الممثلة فى عمر مكرم وقام بخلعه من نقابة الأشراف، ونفاه إلى دمياط ١٨٠٩م.

(٧) يترك للطالب حرية الإجابة فى ضوء :

- حرص محمد على منذ بداية حكمه على التخلص من المماليك بعدة طرق وفى النهاية دبر مذبحة القلعة عام ١٨١١م.
- تخلص محمد على من المماليك ساعده على الانفراد التام بحكم مصر.

(٨) **يترك للطالب حرية الإجابة فى ضوء :**
- تنظيم محمد على مجالات الاقتصاد المصرى (الزراعة، والصناعة، والتجارة) على أساس الاحتكار لكى يضمن الدخول والمنافسة فى سوق التجارة الدولية.
- كانت كل مشروعاته العمرانية والتعليمية بهدف سد حاجات الجيش وبناء القوة العسكرية.

١١ (١) أجب بالرجوع إلى المفكرة ص ٧٤ ما العلاقة.
(٢) حيث اهتم الفرنسيون بوضع مشروعات للإصلاح فى مجال التجارة من خلال فتح أسواق لمصر فى بلاد البحر الأحمر ودارفور فى السودان والحبشة وبلاد شمال أفريقيا.
(٣) كان فشل إنجلترا فى محاولة نقل محمد على عام ١٨٠٦م لوقوف الزعامة الشعبية بجواره ضد فرمان نقله سببًا فى إرسال إنجلترا لحملة فريزر عام ١٨٠٧م لتنفيذ نفس الهدف.
(٤) أدت حروب اليونان إلى علو مكانة مصر دوليًا نتيجة تفاوض الدول الأوروبية مع محمد على لإنهاء الحرب دون الرجوع إلى السلطان العثمانى.
(٥) كانت مذبحة يافا سببًا فى مقاومة واستبسال أهالى عكا فى الدفاع عن مدينتهم أمام القوات الفرنسية مما أدى إلى فشل نابليون فى دخول عكا.

١٢ أجب بالرجوع إلى المفكرة ص ٥٣ ما المقصود.

١٣ (١) حيث تمثلت هذه العوامل فى :
- عدم الاستقرار الداخلى للمماليك.
- النزاع المستمر بين المماليك على السلطة فيما بينهم.

(٢) حيث تمثلت عوامل الضعف فى :
- قصر مدة حكم الوالى التى تتراوح ما بين سنة إلى ثلاث سنوات.
- زيادة سلطة الديوان والحامية العثمانية.

(٣) حيث أصبحت الصناعات يدوية وبسيطة وكانت جميعها رديئة.
(٤) ، (٦) أجب بالرجوع إلى المفكرة ص ٦٩ دلل.
(٥) حيث يعد مجىء الحملة الفرنسية على مصر جزء من التنافس الاستعمارى بين إنجلترا وفرنسا.

(٧) حيث رفضت إنجلترا نص اتفاقية العريش بخروج الفرنسيين على نفقة الدولة العثمانية وطالبت بخروجهم كأسرى حرب فرفض كليبر.
(٨) أجب بالرجوع إلى المفكرة ص ٧٠ دلل.
(٩) حيث استجاب السلطان العثمانى للزعامة الشعبية أكثر من مرة :
- **المرة الأولى** : عندما أصدر فرمانًا فى ٩ يوليو ١٨٠٥م تضمن عزل خورشيد باشا وتعيين محمد على واليًا على مصر.
- **المرة الثانية** : عندما تخلى السلطان العثمانى عن فكرة نقل محمد على من ولاية مصر وقام بتثبيته عليها عام ١٨٠٦م.

(١٠) - **سلميًا** : حاولت بريطانيا إقناع السلطان العثمانى بعزل محمد على وتولية محمد بك الألفى (تابعها المملوكى) أو أى والٍ عثمانى آخر فاستجاب السلطان وأصدر فرمان عام ١٨٠٦م يتضمن نقل محمد على واليًا على سالونيك ولكنه لم ينفذ الفرمان بسبب وقوف الزعامة الشعبية بجانبه.
- **عسكريًا** : أرسلت بريطانيا حملة عسكرية بقيادة فريزر عام ١٨٠٧م لخلع محمد على وتولية محمد بك الألفى الحكم لكنها فشلت.

(١١) أجب بالرجوع إلى المفكرة ص ٧١ دلل.
(١٣) حيث قام بـ :
- إمداد الصناع بالمواد الخام اللازمة للصناعة.
- شراء المنتجات الصناعية منهم بالثمن الذى تحدده الحكومة.

(١٢)، (١٤)، (١٥) أجب بالرجوع إلى المفكرة ص ٧٢ دلل.
(١٦) أجب بالرجوع إلى المفكرة ص ٧٣ دلل.
(١٧) حيث أدركت الدول الأوروبية أن محمد على أصبح يمثل خطرًا على التوازن الدولى نتيجة لانتصاراته على السلطان العثمانى فدخلت فى مفاوضات مع السلطان العثمانى لفرض ما تراه من شروط على (محمد على) انتهت بعقد معاهدة لندن ١٨٤٠م.

١٤ (١) أجب بالرجوع إلى المفكرة ص ٥٦ أهم الجداول والمقارنات.
(٢) ، (٣) أجب بالرجوع إلى المفكرة ص ٥٧ أهم الجداول والمقارنات.

(٤) أجب بالرجوع إلى المفكرة ص ٥٨ أهم الجداول والمقارنات (الأسباب).
(٥) أجب بالرجوع إلى المفكرة ص ٥٩ أهم الجداول والمقارنات.

١٥ (١) ① معركة شبراخيت.
② تولية كليبر قيادة الحملة الفرنسية.
③ مذبحة القلعة. ④ معاهدة لندن.
(٢) ① معركة إمبابة (يوليو ١٧٩٨م).
② معركة أبى قير البحرية (أغسطس ١٧٩٨م).
③ جلاء الفرنسيين عن مصر (سبتمبر ١٨٠١م).
④ تولية محمد على حكم مصر (مايو ١٨٠٥م).
(٣) ① إعدام محمد كُريم.
② عودة نابليون لفرنسا.
③ تولية مينو قيادة الحملة الفرنسية.
④ نفى عمر مكرم إلى دمياط.
(٤) ① معركة الريدانية (يناير ١٥١٧م).
② ثورة القاهرة الأولى (أكتوبر ١٧٩٨م).
③ الحملة الفرنسية على الشام (مارس ١٧٩٩م).
④ حملة فريزر على مصر (مارس ١٨٠٧م).
⑤ حروب محمد على بشبه الجزيرة العربية (١٨١١م).
⑥ حروب محمد على فى بلاد اليونان (١٨٢١م).

١٦

① (١) القضاء على الحركة الوهابية التى تهدد نفوذ الدولة العثمانية بشبه الجزيرة العربية.
(٢) قلب شبه الجزيرة العربية (نجد).
② (١) فريزر. (٢) رشيد.
③ (١) طريق رأس الرجاء الصالح.
(٢) أجب بالرجوع إلى المفكرة ص ٦٧ ما النتائج.

١٧

① أجب بالرجوع إلى المفكرة ص ٥٣ : ٥٥ من هو.
② (١) أجب بالرجوع إلى المفكرة ص ٥٢ أهم المخططات.
(٢) أعلن على بك الكبير استقلاله بحكم مصر عن الدولة العثمانية وصار الحاكم الفعلى لها عام ١٧٦٨م **وقام بـ :**
– التحالف مع الشيخ ظاهر العمر حاكم جنوب الشام.
– إخضاع الحجاز لنفوذه.
– إرسال نائبه محمد بك أبو الدهب لغزو الشام واستطاع دخول دمشق.
مصيرها : فشلت بسبب انحياز نائبه محمد بك أبو الدهب إلى السلطان العثمانى واتفاقه معه ضد على بك الكبير.
③ (١) أجب بالرجوع إلى المفكرة ص ٥٨ أهم الجداول والمقارنات (الأسباب).
(٢) أجب بالرجوع إلى المفكرة ص ٧٠ دلل.
(٣) يترك للطالب حرية الإجابة فى ضوء :
– لم يتم إنشاء المجمع العلمى المصرى.
– لم يقم العلماء بدراسة شق قناة تربط بين البحر الأحمر والبحر المتوسط.
– لم يتم تأليف كتاب وصف مصر.
④ (١) أثناء ثورة الشعب المصرى فى مارس ١٨٠٤م قام بما يلى :
– جاهر بالانضمام إلى العلماء والمشايخ.
– اختلط بالأهالى الساخطين.
– تعهد للعلماء بأن يبذل قصارى جهده لرفع الضريبة عن الناس.
– اقترح تعيين خورشيد باشا واليًا على مصر.
(٢) أجب بالرجوع إلى المفكرة ص ٧١ دلل.
(٣) متروك للطالب.
⑤ – أثر نابليون بونابرت فى النظام الإدارى عن طريق :
إنشاء الديوان العام ودواوين الأقاليم وديوان القاهرة، بهدف تدريب الأعيان والعلماء المصريين على نظام مجالس الشورى من حيث الاستشارة وتلقى الآراء فيما يعود على الأهالى بالنفع العام فى المجالات المختلفة.
– أثر محمد على فى النظام الإدارى عن طريق :
- تقسيم مصر إداريًا إلى سبع مديريات، وعلى رأس هذا النظام الإدارى حكومة مركزية فى القاهرة، وتصدر منها جميع الأوامر واجبة التنفيذ.
- إنشاء عدة مجالس ودواوين، ومنها : مجلس المشورة، الديوان العالى.
- إصدار لائحة جديدة عام ١٨٣٧م لإعادة تنظيم الإدارة إلى سبعة دواوين (وزارات) وحدد اختصاصاتها.

امتحان على الوحدة الثالثة

١

(أ) (١) أسوان. (٢) ديو البحرية.
(٣) رضوخ السلطان العثمانى للزعامة الشعبية.

(ب) (١) – حيث نجح الأسطول الإنجليزى فى هزيمة أسطول الحملة الفرنسية فى معركة أبى قير البحرية.
– تحالفت مع الدولة العثمانية وروسيا لإخراج الفرنسيين من مصر بالقوة العسكرية.
– رفضت إنجلترا اتفاقية العريش وطالبت باستسلام الجيش الفرنسى كأسرى حرب.
– أرسلت إنجلترا أسطولاً فى فبراير ١٨٠١م لإخراج الحملة الفرنسية من مصر.
(٢) أجب بالرجوع إلى المفكرة ص ٦٤ بم تفسر.

(جـ) (١) محمد على.
(٢) أجب بالرجوع إلى المفكرة ص ٧٣ دلل.

(د) ① معركة مرج دابق (أغسطس ١٥١٦م).
② معركة أبى قير البحرية (أغسطس ١٧٩٨م).
③ إعدام محمد كُريم (سبتمبر ١٧٩٨م).
④ حملة فريزر (مارس ١٨٠٧م).
⑤ مذبحة القلعة (مارس ١٨١١م).

٢

(أ) (١) **صواب** : حيث تم إنشاء المطبعة الأميرية فى بولاق (منشآت ثقافية) وترسانة بحرية لصناعة السفن (منشآت عسكرية).
(٢) **خطأ** : حيث مثلت فئة الحكام (حكام الأقاليم) خلال عهد الدولة العثمانية وانتهى نفوذهم كهيئة حاكمة خلال عهد محمد على وحل مكانها أسرة محمد على وبعض العناصر التركية.

(ب) (١) **أجب بالرجوع إلى المفكرة ص ٦١ بم تفسر.**
(٢) أجب بالرجوع إلى المفكرة ص ٦٥ بم تفسر.
(٣) أجب بالرجوع إلى المفكرة ص ٥٣ ما المقصود.

(جـ) **(١) أجب بالرجوع إلى المفكرة ص ٧٤ ما العلاقة.**
(٢) حيث فشلت حركة على بك الكبير بسبب انحياز نائبه محمد بك أبو الدهب للسلطان العثمانى واتفق معه ضد على بك الكبير.

أسئلة عامة على الوحدة الرابعة

١ (أ) (١) شريف باشا.
(٢) محمود سامى البارودى.
(٣) راغب باشا. (٤) عدلى يكن.
(٥) عبدالخالق ثروت. (٦) سعد زغلول.
(٧) زيور باشا. (٨) إسماعيل صدقى.
(٩) مصطفى النحاس.

(ب) (١) عباس باشا الأول. (٢) سعيد باشا.
(٣) نوبار باشا. (٤) سعد زغلول.

٢ (١) عباس الأول. (٢) السويس.
(٣) سعيد باشا. (٤) ، (٥) سعيد.
(٦) الإسماعيلية. (٧) ، (٨) إسماعيل.
(٩) مجلس شورى النواب.
(١٠) كييف. (١١) الخديو إسماعيل.
(١٢)، (١٣) لجنة التحقيق العليا الأوروبية.
(١٤) النهضة العلمية. (١٥) توفيق.
(١٦) محمود سامى البارودى.
(١٧) راغب باشا. (١٨) التل الكبير.
(١٩) سيلان. (٢٠) حادثة دنشواى.
(٢١) محمد فريد. (٢٢) عدلى يكن.
(٢٣) باريس. (٢٤) مالطة.
(٢٥) ، (٢٦) تصريح ٢٨ فبراير ١٩٢٢م.
(٢٧) زيور باشا. (٢٨) وضع دستور ١٩٣٠م.
(٢٩) مصطفى النحاس.

٣ (١) **صواب.**
(٢) **خطأ** : شرع عباس باشا الأول ...
(٣) **خطأ** : ... مجحفة (ظالمة) لمصر.
(٤) **صواب.** (٥) **خطأ** : ... الخديو إسماعيل ...
(٦) : (٨) **صواب.**
(٩) **خطأ** : ... نوبار باشا.
(١٠) **خطأ** : ... المحاكم المختلطة ...
(١١) : (١٥) **صواب.**
(١٦) **خطأ** : تعد حادثة قصر النيل منتصف يناير ١٨٨١م ...
(١٧) **خطأ** : ... مدينة القصاصين ...
(١٨) **صواب.** (١٩) **صواب.** (٢٠) **صواب.**
(٢١) **خطأ** : ... محمد فريد ... (٢٢) **صواب.**
(٢٣) **صواب.** (٢٤) **صواب.**

(٢٥) **خطأ** : ... الحرب العالمية الأولى.
(٢٦) **صواب.** (٢٧) **خطأ** : أيد ...
(٢٨) : (٣١) **صواب.**
(٣٢) **خطأ** : ... إلغاء الامتيازات الأجنبية.
(٣٣) **خطأ** : غيرت معاهدة ١٩٣٦م ...

٤ (١) سعيد باشا. (٢) المحمودية.
(٣) إسماعيل. (٤) المحاكم القنصلية.
(٥) توفيق. (٦) عثمان رفقى.
(٧) محمود سامى البارودى.
(٨) كفر الدوار. (٩) مجلس النواب.
(١٠) محمد فريد. (١١) دستور ١٩٢٣م.
(١٢) السير لى ستاك. (١٣) مصطفى النحاس.

٥ (١) اللائحة السعيدية.
(٢) المحاكم المختلطة. (٣) صندوق الدين.
(٤) الثورة العرابية. (٥) احتلال.
(٦) طبقة الأعيان. (٧) الحماية البريطانية.
(٨) عصبة الأمم. (٩) مجلس الأمن.

٦ (١) ، (٢) سعيد باشا.
(٣) : (٨) الخديو إسماعيل.
(٩) عثمان رفقى. (١٠) شريف باشا.
(١١) محمود سامى البارودى.
(١٢) أحمد عرابى. (١٣) السلطان العثمانى.
(١٤) محمد عبيد.
(١٥) ، (١٦) مصطفى كامل.
(١٧) محمد فريد. (١٨) اللورد ملنر.
(١٩) كيرزون.
(٢٠) سعد زغلول. (٢١) إسماعيل صدقى.
(٢٢) ، (٢٣) مصطفى النحاس.

٧ (١) بسبب إصدار سعيد باشا اللائحة السعيدية فى أغسطس ١٨٥٨م، والتى بموجبها أصبح للفلاح الحق فى توريث الأرض الزراعية.
(٢) **أجب بالرجوع إلى المفكرة ص ٩٨ دلل.**
(٣)، (٥) **أجب بالرجوع إلى المفكرة ص ٨٨ بم تفسر.**
(٤) حيث اعتمد الخديو إسماعيل فى علاقته بالسلطان العثمانى على تقديم المال والهدايا من أجل الحصول على الفرمانات التى يوسع بها نطاق حكمه.
(٦) : (٩) **أجب بالرجوع إلى المفكرة ص ٨٩ بم تفسر.**

(١٠) **لتقديم مطالب الجيش والأمة للخديو توفيق، وهى :**
- إسقاط حكومة رياض باشا المستبدة.
- تشكيل مجلس النواب على النسق الأوروبى.
- زيادة عدد الجيش إلى ١٨ ألف جندى.

(١١) **أجب بالرجوع إلى المفكرة ص ٨٦ أهم الجداول والمقارنات (الأسباب).**
(١٢) لكى يتجنب الاصطدام بالدول الأوروبية.
(١٣) ، (١٤) **أجب بالرجوع إلى المفكرة ص ٨٦ أهم الجداول والمقارنات (سببها).**
(١٥) **بسبب :**
- عدم تكافؤ القوة العسكرية بين قوات الاحتلال البريطانى والقوات المصرية.
- إصدار السلطان العثمانى منشورًا بإعلان عصيان عرابى مما أضعف الروح المعنوية للمقاتلين.

(١٦) لأن بريطانيا كانت تستعد لضرب الإسكندرية بالقنابل تمهيدًا لاحتلال مصر وهو ما تم بالفعل فى سبتمبر ١٨٨٢م.
(١٧) ، (١٨) **أجب بالرجوع إلى المفكرة ص ٩٠ بم تفسر.**
(١٩) لأن الاحتلال البريطانى جعل التعليم بمصروفات مرتفعة وحصره فى فئة قليلة وذلك بهدف تخريج مجموعة من الموظفين للعمل فى الإدارات والمصالح الحكومية.
(٢٠) **أجب بالرجوع إلى المفكرة ص ٨٦ أهم الجداول والمقارنات (الأسباب).**
(٢١) لإقناع الشعب المصرى بقبول الحماية البريطانية.
(٢٢) ، (٢٣) **أجب بالرجوع إلى المفكرة ص ٩١ بم تفسر.**
(٢٤) ، (٢٥) **أجب بالرجوع إلى المفكرة ص ٩٢ بم تفسر.**

٨ (١) **أجب بالرجوع إلى المفكرة ص ٩٣ ما النتائج.**
(٢) **ترتب على ذلك :**
- زيادة مساحة الأراضى الزراعية.
- حفر العديد من الترع أهمها ترعة الإبراهيمية.
- أنشئت قناطر على النيل.

(٣) ، (٤) **أجب بالرجوع إلى المفكرة ص ٩٣ ما النتائج.**
(٥) ترتب على ذلك تدخل حكومة كل من بريطانيا وفرنسا وقيامهما بالضغط على السلطان العثمانى فأصدر فرمان بعزل الخديو إسماعيل وتولية ابنه توفيق فى يونيه ١٨٧٩م.
(٦) ، (٨) **أجب بالرجوع إلى المفكرة ص ٩٣ ما النتائج.**

(٧) أجب بالرجوع إلى المفكرة ص ٩٤ ما النتائج.
(٩) ، (١٠) ، (١٢) أجب بالرجوع إلى المفكرة ص ٩٥ ما النتائج.
(١١) ترتب على ذلك :
- انفراد إنجلترا بحكم مصر وانفراد فرنسا بحكم مراكش.
- تخلى فرنسا عن مساندة مصطفى كامل فى كفاحه ضد الإنجليز.

(١٣) ، (١٤) أجب بالرجوع إلى المفكرة ص ٩٦ ما النتائج.
(١٥) ، (١٦) أجب بالرجوع إلى المفكرة ص ٩٧ ما النتائج.
(١٧) ترتب على ذلك معارضة الشعب لهذا الدستور وقام بالعديد من المظاهرات للمطالبة بإلغاء دستور ١٩٣٠م مما اضطر الملك فؤاد الأول إلى الرضوخ لمطالب الأمة وإعادة دستور ١٩٢٣م.
(١٨) أجب بالرجوع إلى المفكرة ص ٩٧ ما النتائج.
(١٩) أجب بالرجوع إلى المفكرة ص ٩٨ ما النتائج.

٩ **(١) يترك للطالب حرية الإجابة فى ضوء :**
- لأصبح لديهم كفاءة فى حكم البلاد واستطاعوا مواجهة الموجة الغربية وعدم انفلات زمام الأمور من أيديهم.
- لحافظوا على قوة مصر واستقلالها.

(٢) أجب بالرجوع إلى المفكرة ص ١٠٢ ماذا يحدث.
(٣) يترك للطالب حرية الإجابة فى ضوء :
- استمرار حكومة رياض باشا المستبدة.
- عدم تشكيل مجلس النواب على النسق الأوروبى.
- عدم زيادة الجيش إلى ١٨ ألف جندى.

(٤) أجب بالرجوع إلى المفكرة ص ١٠٢ ماذا يحدث.
(٥) يترك للطالب حرية الإجابة فى ضوء :
- لم تضعف الروح المعنوية للمقاتلين المصريين.
- لاستطاع أحمد عرابى الانتصار فى معركة التل الكبير.
- لم تتقدم القوات البريطانية إلى القاهرة واحتلال مصر.
- نجاح الثورة العرابية.

(٦) يترك للطالب حرية الإجابة فى ضوء :
كانت ستوافق الحكومة المصرية على مد الامتياز لمدة أربعين عامًا أخرى إضافة إلى ٩٩ عامًا هى مدة الامتياز مما يصعب على مصر فكرة استعادتها.

(٧) يترك للطالب حرية الإجابة فى ضوء :
- لكان ذلك اعتراف من الشعب المصرى بتنازله عن توكيلاته للوفد المصرى وقبوله الحماية البريطانية على مصر.
- عدم تفاوض اللجنة مع الوفد المصرى.

(٨) أجب بالرجوع إلى المفكرة ص ١٠٢ ماذا يحدث.
(٩) يترك للطالب حرية الإجابة فى ضوء :
- عدم تقديم «اللورد اللنبى» المندوب السامى البريطانى إنذارًا للحكومة المصرية ويطلب منها سحب الجيش المصرى من السودان.
- عدم استقالة وزارة سعد زغلول.

(١٠) يترك للطالب حرية الإجابة فى ضوء :
- استمر دستور ١٩٣٠م هو الدستور السارى لمصر.
- أصبح للملك فؤاد الأول مزيد من السلطات.
- إهدار سلطة الأمة وحقوقها فى مواضع كثيرة.

(١١) يترك للطالب حرية الإجابة فى ضوء :
لم يرضخ الملك فاروق لمطلب بريطانيا بتشكيل حكومة جديدة برئاسة مصطفى النحاس باشا.
(١٢) يترك للطالب حرية الإجابة فى ضوء :
- لم يقم الشعب بالنضال المسلح ضد القوات البريطانية فى القناة وبذلك لم تهاجم جماعات الفدائيين المعسكرات البريطانية.
- لن تقوم الحكومة بزيادة عدد جنود الشرطة لمساعدة الفدائيين.

١٠ **(١) أدت معاهدة ١٩٣٦م إلى إلغاء الامتيازات الأجنبية وفقًا لمؤتمر مونترو عام ١٩٣٧م.**
(٢) حيث نتج عن الخلاف الذى حدث بالإسكندرية بين المصريين والأجانب وقوع قتلى من الجانبين فدعا ممثلوا الدول العظمى إلى مؤتمر الآستانة للنظر فى المسألة المصرية.

١١ **(١) يترك للطالب حرية الإجابة فى ضوء :**
جاءت هذه الشروط ظالمة لمصر وللمصريين فقد كانت فى معظمها فى صالح الشركة الأجنبية **من حيث :**
- الأراضى التى استحوذت عليها شركة قناة السويس مجانًا لإنشاء القناة وترعة للمياه العذبة.

- الرسوم التى فرضتها شركة القناة على السفن دون الرجوع لمصر.
- عدد العمالة المصرية الكبير بدون أجر.
- قلة نسبة الأرباح التى تحصل عليها مصر.

(٢) يترك للطالب حرية الإجابة فى ضوء :
سوف يزيد عدد السفن المارة بالقناة وبالتالى سوف يزيد الدخل القومى المصرى وتوفير عملة صعبة.

(٣) يترك للطالب حرية الإجابة فى ضوء :
قيام الخديو إسماعيل بعدة حملات حربية إلى الأقاليم الاستوائية فى أفريقيا بهدف منع تجارة الرقيق فى إطار دور مصر الحضارى فى أفريقيا واهتمامها بشئون القارة.

(٤) يترك للطالب حرية الإجابة فى ضوء :
- يعد ذلك انتهاكًا للقوانين الدولية بشأن حيادية القناة فى الملاحة الدولية.
- هذا التواطؤ من جانب ديليسبس ساعد على هزيمة العرابيين واحتلال بريطانيا لمصر وبالتالى فشل الثورة العرابية.

(٥) يترك للطالب حرية الإجابة فى ضوء :
هذا المنشور أضعف الروح المعنوية للمقاتلين المصريين وكان ذلك من أسباب هزيمة الجيش فى موقعة التل الكبير واحتلال إنجلترا لمصر وفشل الثورة العرابية.

(٦) يترك للطالب حرية الإجابة فى ضوء :
عملت بريطانيا على فرض سياسة اقتصادية تخدم مصالحها فتوسعت فى زراعة القطن لتوفير المادة الخام اللازمة للمصانع البريطانية كما حاربت الصناعة المصرية بتسويق منتجاتها فى الأسواق المصرية.

(٧) يترك للطالب حرية الإجابة فى ضوء :
رفض الشعب المصرى التفاوض مع لجنة ملنر وقاطعها لأن التفاوض يعنى التنازل عن الوكالة التى أعطاها للوفد المصرى.

(٨) يترك للطالب حرية الإجابة فى ضوء :
- مميزات دستور ١٩٢٣م مثل أنه كان خطوة فى تقرير مبدأ الأمة مصدر السلطات وكان نهاية للحكم المطلق وأقر مبدأ المساواة بين جميع المصريين فى الحقوق والواجبات واحترام الحريات العامة.
- عيوب دستور ١٩٣٠م والتى رفضها المصريين مثل إعطاء الملك مزيد من السلطات وإهدار سلطة الأمة وحقوقها فى مواضع كثيرة.

(٩) يترك للطالب حرية الإجابة فى ضوء :
كانت بعض البنود فى صالح مصر ومنحتها بعض من الاستقلال ولكنها لم تخلى من العيوب التى أدت فى النهاية إلى إعلان مصطفى النحاس إلغائها فى أكتوبر ١٩٥١م.

---

١٢ (١) ، (٢) أجب بالرجوع إلى المفكرة ص ٧٩ ما المقصود.
(٣) أجب بالرجوع إلى المفكرة ص ٧٨ ما المقصود.

---

١٣ (١) حيث :
- اهتم بتطهير ترعة المحمودية لتفى بحاجة الرى والزراعة.
- اهتم بإصلاح أحوال الفلاحين بإصدار اللائحة السعيدية فى أغسطس ١٨٥٨م والتى بموجبها أصبح للفلاح الحق فى توريث الأرض الزراعية.

(٢) : (٤) أجب بالرجوع إلى المفكرة ص ٩٩ دلل.

(٥) حيث :
- أعاد نظام المراقبة الثنائية.
- رفض اللائحة الأساسية «الدستور» لمجلس النواب.
- وضع نفسه تحت حماية إنجلترا وفرنسا بإسناد الوزارة إلى رياض باشا.

(٦) حيث استجاب الخديو توفيق لمطلبهم وعزل عثمان رفقى وعين محمود سامى البارودى بدلًا منه ناظرًا للجهادية.

(٧) حيث فشلت الحملة الإنجليزية (حملة فريزر) التى أرسلتها بريطانيا عام ١٨٠٧م لاحتلال مصر، بينما استطاعت احتلال مصر عام ١٨٨٢م.

(٨) حيث ألغت سلطات الاحتلال مجلس النواب الذى انتخب عام ١٨٨١م، وأنشأت مجالس صورية لا سلطة لها تمثلت فى مجلس شورى القوانين والجمعية العمومية ثم أنشأت الجمعية التشريعية.

(٩) أجب بالرجوع إلى المفكرة ص ١٠٠ دلل.

(١٠) حيث اعترف الرئيس الأمريكى ولسن بالحماية البريطانية على مصر وهذا يتناقض مع إعلانه لمبدأ حق الشعوب فى تقرير مصيرها.

(١١) أجب بالرجوع إلى المفكرة ص ١٠٠ دلل.

(١٢) حيث دعا إلى :
- إنشاء مدارس الشعب الليلية لتعليم العمال والفقراء مجانًا.
- جعل التعليم إلزاميًا وبالمجان فى المرحلة الابتدائية.

(١٣) أجب بالرجوع إلى المفكرة ص ١٠١ دلل.

١٤ (١)

أحوال الفلاح المصرى فى عصر العثمانيين منتصف القرن الـ ١٧م	أحوال الفلاح المصرى فى عهد سعيد باشا ١٨٥٨م
* تدهور أحوال المجتمع الريفى بشكل عام بسبب معاناة الفلاح من : • كثرة الضرائب المفروضة على الأراضى الزراعية وتعسف وظلم الملتزمين فى جمعها. • إهمال الحكام لتنظيم الرى، وإقامة السدود، وحفر الترع.	* اهتم بأحوال الفلاحين حيث أصدر فى أغسطس ١٨٥٨م اللائحة السعيدية والتى بموجبها أصبح للفلاح الحق فى توريث الأرض الزراعية. * اهتم بتطهير ترعة المحمودية لتفى بحاجة الرى والزراعة.

(٢) ، (٣) أجب بالرجوع إلى المفكرة ص ٨٦ أهم الجداول والمقارنات.

(٤)

ظروف حادث ٤ فبراير ١٩٤٢م	ظروف حادث ٢٥ يناير ١٩٥٢م
قيام الملك فاروق بالمماطلة فى تنفيذ مطلب بريطانيا بتشكيل حكومة جديدة برئاسة مصطفى النحاس باشا.	قيام القوات البريطانية بحصار مبنى المحافظة بالإسماعيلية لنزع سلاح جنود الشرطة فرفضت جنود الشرطة المصرية التسليم لقوات الاحتلال فوقع الصدام بين قوات الاحتلال وعناصر الشرطة المصرية.

١٥ (١) ① المذكرة المشتركة الأولى (١٨٨٢م).
② نفى سعد زغلول إلى جزيرة مالطة (١٩١٩م).
③ مفاوضات عدلى - كيرزون (١٩٢١م).
④ حريق القاهرة (١٩٥٢م).

(٢) ① افتتاح قناة السويس للملاحة الدولية (١٨٦٩م).
② الثورة العرابية (١٨٨١م).
③ الاحتلال البريطانى لمصر (١٨٨٢م).
④ حادثة دنشواى (١٩٠٦م).

(٣) ① تولية محمد على ولاية مصر (١٨٠٥م).
② إصدار منشور عصيان عرابى (١٨٨٢م).
③ إصدار جريدة اللواء (١٩٠٠م).
④ قيام الحرب العالمية الثانية (١٩٣٩م).

(٤) ① تأسيس مجلس شورى النواب (١٨٦٦م).
② تأييد الشعب للجيش فى ميدان عابدين (١٨٨١م).
③ المذكرة المشتركة الثانية (١٨٨٢م).
④ الاتفاق الودى بين إنجلترا وفرنسا (١٩٠٤م).

(٥) ① اكتشاف حجر رشيد (١٧٩٩م).
② حملة فريزر على مصر (١٨٠٧م).
③ معاهدة لندن الدولية (١٨٤٠م).
④ احتلال القوات البريطانية مدينة القاهرة (١٨٨٢م).

١٦

① (١) : (٣) أجب بالرجوع إلى المفكرة ص ٧٩ من هو.
(٤) : (٦) أجب بالرجوع إلى المفكرة ص ٧٦ أهم المخططات.
(٧) : (٩) أجب بالرجوع إلى المفكرة ص ٨٠ من هو.
(١٠) : (١٢) أجب بالرجوع إلى المفكرة ص ٨١ من هو.
(١٣) أجب بالرجوع إلى المفكرة ص ٨٢ من هو.

② (١) الخديو عباس حلمى الثانى.
(٢) الملك فاروق. (٣) الملك فؤاد الأول.
(٤) الخديو إسماعيل.

③ (١) استغل مصطفى كامل حادثة دنشواى عام ١٩٠٦م فى التنديد بالاحتلال البريطانى وسياسته القمعية مما أدى إلى استقالة اللورد كرومر.
(٢) أجب بالرجوع إلى المفكرة ص ٧٧ أهم المخططات.
(٣) أجب بالرجوع إلى المفكرة ص ٨٧ أهم الجداول والمقارنات (المزايا والعيوب).
(٤) نصوص معاهدة ١٩٣٦م :
(١) جلاء القوات البريطانية عن القاهرة وجميع الجهات الأخرى، عدا منطقة قناة السويس.
(٢) وضع موانيها ومطاراتها وطرق مواصلاتها تحت تصرف بريطانيا فى حالة الحرب.

(٣) تعهد الحكومة المصرية ببناء الثكنات والمعسكرات والطرق والكبارى اللازمة للقوات البريطانية وصيانتها.

(٤) مساعدة بريطانيا لمصر للانضمام لعصبة الأمم.

(٥) استمرار إدارة السودان وفقًا لاتفاقية الحكم الثنائى يناير ١٨٩٩م، مع عودة القوات المصرية إلى السودان.

(٦) تسرى المعاهدة لمدة عشرين عامًا.

④ (١) أصبح للفلاح الحق فى توريث الأرض الزراعية.

(٢) أجب بالرجوع إلى المفكرة ص ٨٤ أهم الجداول والمقارنات.

⑤ (١) **يترك للطالب حرية الإجابة فى ضوء :**

- الحد من الإنفاق على مظاهر الترف.
- الحد من الاستدانة من الدول الأجنبية حفاظًا على كيان الدولة.
- عمل احتياطى نقدى تستفيد به الدولة.

(٢) حيث كان يرأس المحاكم المختلطة قضاة أجانب مما أدى إلى تدخلهم فى سلطة القضاء التشريعى المصرى وانحيازهم للأجانب.

⑥ (١) **أجب بالرجوع إلى المفكرة ص ٨٦ أهم الجداول والمقارنات (الأسباب).**

(٢) أجب بالرجوع إلى المفكرة ص ٩٢ بم تفسر.

⑦ (١) **أجب بالرجوع إلى المفكرة ص ٨٨ بم تفسر.**

(٢) أجب بالرجوع إلى المفكرة ص ٨٤ أهم الجداول والمقارنات.

(٣) (١) **يترك للطالب حرية الإجابة فى ضوء :**

أنه كان بداية تاريخ المؤسسات النيابية فى مصر الحديثة.

(٢) **يترك للطالب حرية الإجابة فى ضوء :**

أن مجلس الأمن لم يتخذ قرارًا فى قضية استقلال مصر وتركها معلقة.

⑧ (١) **أجب بالرجوع إلى المفكرة ص ٧٨ أهم المخططات.**

(٢) ظل محمد فريد يجاهد لتحقيق مطالبه **حيث :**

- طالب بإنشاء مجلس نيابى له سلطات واسعة.
- نجح بتأييد من الرأى العام فى إجبار الحكومة المصرية على دعوة مجلس شورى القوانين والجمعية العمومية لمناقشة طلب شركة قناة السويس فى مد الامتياز أربعين عامًا أخرى مما أدى إلى رفض الحكومة طلب الشركة.

(٣) يترك للطالب حرية الإجابة فى ضوء :

إن تعدد الأحزاب لم يؤد لإثراء الحياة النيابية لأنها كانت أداة للقصر الملكى والاحتلال البريطانى لتحقيق مصالحهما دون النظر لمصالح الشعب المصرى.

⑨ (١) **أجب بالرجوع إلى المفكرة ص ٩٦ ما النتائج.**

(٢) بسبب تخوف بريطانيا من قيام ثورة جديدة (فى هذا الوقت الذى ستخوض فيه بريطانيا حرب عالمية جديدة).

(٣) مصطفى النحاس باشا.

(٤) أجب بالرجوع إلى المفكرة ص ٨٧ أهم الجداول والمقارنات (العيوب).

⑩ (١) وقعت حادثة ٤ فبراير ١٩٤٢م بسبب مماطلة الملك فاروق فى الاستجابة لمطلب بريطانيا فى تعيين حكومة برئاسة مصطفى النحاس حيث قامت بريطانيا بتقديم إنذار للملك وتهديده بخلعه عن العرش مما أدى إلى قبول الملك الإنذار وتكليف مصطفى النحاس بالوزارة.

(٢) حيث كانت الإجراءات العنيفة التى اتخذتها سلطات الاحتلال البريطانى فى مصر أثناء الحرب العالمية الأولى (١٩١٤م : ١٩١٨م)، وإعلان الرئيس الأمريكى ولسن (خلال تلك الحرب) المبادئ الأربعة عشر ومنها حق الشعوب فى تقرير مصيرها والتى كانت من أهم العوامل التى ساهمت فى قيام ثورة ١٩١٩م.

⑪ (١) كفر الدوار. (٢) التل الكبير.

امتحان على الوحدة الرابعة

١

(أ) (١) رياض باشا. (٢) القصاصين.
(٣) التشريعية.

(ب) (١) **حيث :**

- **السلطة الفعلية** : تمثلت فى المعتمد البريطانى.
- **سلطة الخديو** : انحصرت فى التصديق على قرارات سلطات الاحتلال.

(٢) أجب بالرجوع إلى المفكرة ص ٩٩ دلل.

(جـ) (١) تم وضع موانئ ومطارات وطرق مواصلات مصر تحت تصرف بريطانيا فى حالة الحرب.

(٢) أجب بالرجوع إلى المفكرة ص٩٥ ما النتائج.

(د) يترك للطالب حرية الإجابة فى ضوء :
قيام الخديو إسماعيل بعدة حملات حربية إلى الأقاليم الاستوائية فى أفريقيا بهدف منع تجارة الرقيق فى إطار دور مصر الحضارى فى أفريقيا.

٢

(أ) (١) سيشل. (٢) مونترو.
(٣) رياض باشا.

(ب) (١) أجب بالرجوع إلى المفكرة ص ٨٣ أهم الجداول والمقارنات.

(٢) أجب بالرجوع إلى المفكرة ص ١٠١ دلل.

(جـ) (١) توقف حركة النهضة التى قام بها محمد على فى عهد عباس باشا الأول حيث :
- أغلقت معظم المدارس.
- أغلقت معظم المصانع.
- تم تخفيض حجم الجيش.
- عُطلت أعمال الترسانة البحرية.

(٢) حيث يعد من أسباب ثورة ١٩١٩م :
- الإجراءات العنيفة التى اتخذتها سلطات الاحتلال البريطانى أثناء الحرب العالمية الأولى (١٩١٤م - ١٩١٨م).
- ادعاء إنجلترا وحلفائها بأنها تحارب من أجل حرية الشعوب واستقلالها.
- إعلان الرئيس الأمريكى ولسن المبادئ الأربعة عشر ومنها حق الشعوب فى تقرير مصيرها.

وكان ذلك أثناء الحرب العالمية الأولى.

امتحان على التاريخ

١

(أ) صواب : حيث تكون الحكام قبل مجىء الحملة الفرنسية لمصر من الأتراك والمماليك، أما بعد تولية محمد على حكم مصر انتهى نفوذ المماليك كهيئة حاكمة وحل محلها أسرة محمد على وبعض العناصر التركية.

(ب) (١) أجب بالرجوع إلى المفكرة ص ٧٠ دلل.

(٢) أجب بالرجوع إلى المفكرة ص ١٠١ دلل.

(٣) يترك للطالب حرية الإجابة فى ضوء :
- تحديث وتدريب الجيش المصرى باستمرار للدفاع عن البلاد.
- عدم الوثوق بالوعود الأجنبية.
- أهمية التعبئة الشعبية لمساندة القوات المصرية فى معاركها.

(جـ) أجب بالرجوع إلى المفكرة ص٨٥ أهم الجداول والمقارنات (مساوئها).

(د) كانت مساعدة الأسطول الإنجليزى لأهالى عكا وإمدادهم بالمؤن والذخائر ومقاومتهم تحت قيادة أحمد باشا الجزار سببًا فى فشل نابليون دخول عكا وبالتالى فشل الحملة الفرنسية على الشام.

٢

(أ) (١) رياض باشا. (٢) مصطفى النحاس.
(٣) شريف باشا.

(ب) (١) معاهدة ١٩٣٦م.
(٢) الكشوف الجغرافية.
(٣) البارودى.

(جـ) يتمثل وجه الشبه فى :
- إنشاء المدارس.
- الاهتمام بالثقافة حيث أنشأ محمد على المطبعة الأميرية ببولاق لطبع الكتب اللازمة للمدارس وطبع الكتب الأدبية والفنية، أما الخديو إسماعيل أنشأ دار الكتب.

(د) قام محمد على أثناء ثورة الشعب المصرى مارس ١٨٠٤م بما يلى :
- جاهر بالانضمام إلى العلماء والمشايخ.
- اختلط بالأهالى الساخطين.
- تعهد للعلماء بأن يبذل قصارى جهده لرفع الضريبة عن الناس.

لذلك نظر الشعب إليه كرجل عادل يكره الظلم واختاروه لتولى حكم مصر عام ١٨٠٥م.

٣ إجابات امتحانات نهاية الفصل الدراسى

١ محافظة القاهرة

١

(أ) (١) مدار السرطان. (٢) التبت.
(٣) الهندى.
(٤) الاستوائى وشبه الاستوائى.
(٥) حرارة مرتفعة طوال العام وأمطار تسقط طوال العام.

(ب) (١) حيث تعرضوا للهجرات الإجبارية ضمن تجارة العبيد التى كانت سائدة فى الماضى للعمل فى مزارع القطن وقصب السكر والتبغ التى أنشأها الأوروبيون فى الأمريكتين.
(٢) أجب بالرجوع إلى المفكرة ص ٤٦ ما النتائج.
(٣) أجب بالرجوع إلى المفكرة ص ٤٤ بم تفسر.

(جـ) (١) أمريكا الشمالية. (٢) الجبلى.
(٣) آسيا. (٤) المغولية.

٢

(أ) (١) **خطأ** : لأن جبال الإنديز تمتد فى غرب أمريكا الجنوبية.
(٢) **خطأ** : لأن الغابات النفضية هى التى تنفض أوراقها فى فصل الشتاء لشدة البرودة.
(٣) **خطأ** : حيث توجد سهول نهر نلسن فى الشمال الشرقى لأمريكا الشمالية.
(٤) **صواب** : لكثرة عدد الأطباء بالنسبة لعدد السكان.

(ب) (١) أدى ذلك إلى ضيق السهول الساحلية لقارة أفريقيا.
(٢) أجب بالرجوع إلى المفكرة ص ٤٦ ما النتائج.

(جـ) (١) أجب بالرجوع إلى المفكرة ص ١٦ دلل.
(٢) أجب بالرجوع إلى المفكرة ص ١٧ دلل.

٣

(أ) (١) تبريز. (٢) رودس.
(٣) البارودى. (٤) تصريح ٢٨ فبراير ١٩٢٢م.

(ب) العبارة صادقة : حيث تمثلت الحجج فى :
- حماية الخديو وتدعيم سلطته.
- تأمين حياة الأجانب ومصالحهم.
- القضاء على الثورة العرابية.

(جـ) (١) لأن إدارة شركة قناة السويس الممثلة فى ديليسبس أكدت حيادية القناة فى حين سمحت للسفن البريطانية الدخول من ناحية قناة السويس دون مراعاة للاتفاقيات الدولية مما أدى لهزيمة العرابيين واحتلال بريطانيا لمصر وفشل الثورة العرابية.
(٢) أجب بالرجوع إلى المفكرة ص ٩٠ بم تفسر.

٤

(أ) (١) **خطأ** : حيث شهدت مصر حالة من الفوضى والاضطرابات والصراعات بين المماليك والعثمانيين وإنجلترا عقب خروج الحملة الفرنسية.
(٢) **صواب** : حيث إن الزعامة الشعبية تمسكت بمحمد على وعارضوا نقله إلى سالونيك فقام السلطان العثمانى بتثبيت محمد على فى حكم مصر.
(٣) **صواب** : حيث كانت معظم الشروط ظالمة للمصريين ومنها أن الحكومة المصرية تتنازل مجانًا عن جميع الأراضى اللازمة لحفر قناة السويس وترعة المياه العذبة ويكون أربعة أخماس العمال مصريين.

(ب) (١) أدى ذلك لانتصار العثمانيين على المماليك وانتهاء دولتهم وأصبحت مصر والشام تحت سيطرة الدولة العثمانية.
(٢) أدى ذلك إلى :
- تنازل إسماعيل عن سلطته المطلقة لوزارة مسئولة عن الحكم فى البلاد.
- تنازل إسماعيل عن أطيانه وأطيان عائلته ووضعها تحت الرقابة الدولية مقابل مخصصات مالية تصرف لهم.

(٣) أجب بالرجوع إلى المفكرة ص ٩٧ ما النتائج.

(جـ) (١) - بالنسبة لفرنسا : تم إغراق وتحطيم أسطولها وقطعت إنجلترا الصلة بين فرنسا والحملة فى مصر وقضت على آمال فرنسا فى السيطرة على سواحل البحر المتوسط.
- **بالنسبة لمصر** : توقفت حركة التجارة الخارجية بسبب حصار إنجلترا لشواطئ مصر الشمالية.

(٢) حيث تفاوض محمد على مع الدول الأوروبية مباشرة لإنهاء الحرب دون الرجوع للسلطان العثمانى عام ١٨٢٨م.

٢ محافظة الجيزة

١

(أ) (١) أجب بالرجوع إلى المفكرة ص ١٦ دلل.

(٢) لأن زيادة السكان فى آسيا تسببت فى :

- نقص الغذاء.
- قلة نصيب الفرد من الدخل القومى.
- انخفاض مستوى المعيشة.
- وجود هجرات غير شرعية تتجه معظمها إلى الدول المتقدمة مثل دول أوروبا.

(٣) لأن السلالات البشرية أصلها واحد ولكن يتم تقسيمها على أسس ظاهرية (حسب الشكل الخارجى) وليست جوهرية.

(٤) لأن الكوارث الطبيعية (كالجفاف والزلازل) تؤدى إلى زيادة معدلات الوفيات فى العالم.

(ب) (١) القوقازية.

(٢) كلما زاد عدد الأطباء بالنسبة للسكان فى دولة ما دل ذلك على زيادة الرعاية الطبية.

(جـ) (١) أجب بالرجوع إلى المفكرة ص ١٨ ماذا يحدث.

(٢) حيث تنخفض الكثافة السكانية فى المناطق الاستوائية الأمثلة : حوض نهر الكونغو وحوض نهر الأمازون.

٢

(أ) (١) أجب بالرجوع إلى المفكرة ص ٥٤ من هو.

(٢) أجب بالرجوع إلى المفكرة ص ٨٠ من هو.

(٣) أجب بالرجوع إلى المفكرة ص ٨١ من هو.

(ب) (١) قاد المفاوضات مع الإنجليز والتى انتهت بالتوقيع على المعاهدة فى أغسطس ١٩٣٦م.

(٢) أجب بالرجوع إلى المفكرة ص ٨٧ أهم الجداول والمقارنات (المزايا).

(٣) أجب بالرجوع إلى المفكرة ص ٩٨ ما النتائج.

(جـ) (١) أجب بالرجوع إلى المفكرة ص ٦٩ دلل.

(٢) أجب بالرجوع إلى المفكرة ص ٧٢ دلل.

٣

(أ) (١) ديو البحرية. (٢) محمد كريم.
(٣) فريزر. (٤) الخديو.

(ب) العبارة صحيحة :

حيث أصدر اللائحة السعيدية التى بموجبها أصبح للفلاح الحق فى توريث الأرض الزراعية.

(جـ) (١) أجب بالرجوع إلى المفكرة ص ٦٨ ما النتائج.

(٢) ترتب على ذلك :

- زيادة مساحة الأراضى الزراعية.
- حفر العديد من الترع مثل ترعة الإبراهيمية.
- إنشاء قناطر على النيل.

٤

(أ) (١) الألب الدينارية. (٢) السهل الأوروبى العظيم.
(٣) غرب أوروبا. (٤) الفولجا.

(ب) صواب : حيث تعيش بها الحيوانات آكلة العشب والحيوانات آكلة اللحوم.

(جـ) (١) أجب بالرجوع إلى المفكرة ص ١٢ ما المقصود.

(٢) إجراء دورى يتم كل خمس أو عشر سنوات لمعرفة عدد السكان.

٣ محافظة الإسكندرية

١

(أ) (١) مدار الجدى. (٢) الأمازون.
(٣) بتاجونيا.

(ب) أفريقيا وأستراليا.

(جـ) خطأ : يتركز السكان فى لندن وباريس لأنها من المدن الصناعية الضخمة.

(د) (١) أجب بالرجوع إلى المفكرة ص ١٣ بم تفسر.

(٢) أجب بالرجوع إلى المفكرة ص ٤٢ بم تفسر.

٢

(أ) (١) ، (٢) أجب بالرجوع إلى المفكرة ص ٤٦ ما النتائج.

(٣) ترتب على ذلك ضيق السهول الساحلية فى شرق أستراليا.

(ب) (١) **أجب بالرجوع إلى المفكرة ص ١٢ ما المقصود.**
(٢) أجب بالرجوع إلى المفكرة ص ٣٨ ما المقصود.

(جـ) (١) طوال العام. (٢) الشتاء.
(٣) طوال العام. (٤) المغولية.
(٥) القوقازية. (٦) الزنجية.

٣

(أ) (١) جالديران. (٢) أبى قير البحرية.
(٣) خورشيد باشا. (٤) معاهدة ١٩٣٦م.

(ب) **خطأ** : لأن المماليك انتهى نفوذهم كهيئة حاكمة فى عهد محمد على وحل محلها أسرة محمد على وبعض العناصر التركية.

(جـ) (١) أجب بالرجوع إلى المفكرة ص ٩٣ ما النتائج.
(٢) أجب بالرجوع إلى المفكرة ص ٦٠ أهم الجداول والمقارنات (النتائج).

٤

(أ) (١) محمد على. (٢) سعيد باشا.
(٣) عباس حلمى الثانى. (٤) الملك فاروق.

(ب) (١) أجب بالرجوع إلى المفكرة ص ٧٤ ما العلاقة.
(٢) أقام الخديو إسماعيل العديد من الحفلات لافتتاح القناة ودعا ملوك أوروبا وأنفق ببذخ على الاحتفالات مما أدى إلى ازدياد حدة الأزمة المالية.

(جـ) (١) يترك للطالب حرية الإجابة فى ضوء :
- لم تتأثر الروح المعنوية للمصريين.
- لم ينهزم العرابيين بمعركة التل الكبير ولم تحتل إنجلترا مصر.
- لن تفشل الثورة العرابية.

(٢) يترك للطالب حرية الإجابة فى ضوء :
رفض الشعب التفاوض مع لجنة ملنر مما يعنى التنازل عن الوكالة التى أعطاها الشعب للوفد المصرى.

٤ محافظة القليوبية

١

(أ) (١) المحيط الهندى. (٢) البحيرات الاستوائية.
(٣) النيجر.
(٤) الإقليم المعتدل شرق القارات (الصينى).

(ب) (١) ، (٤) السلالة الزنجية.
(٢) السلالة المغولية. (٣) السلالة القوقازية.

(جـ) (١) – **الإقليم الاستوائى وشبه الاستوائى** : حرارة مرتفعة وأمطار طوال العام وغابات استوائية كثيفة ومتشابكة وأشجارها الماهوجنى والمطاط.
– **الإقليم الموسمى** : حرارة مرتفعة صيفًا ومطر غزير فى الصيف ويسود الجفاف شتاءً غابات موسمية وأشجارها جوز الهند وتنمو بها حشائش الساڤانا.
(٢) أجب بالرجوع إلى المفكرة ص ٤٥ بم تفسر.

٢

(أ) (١) السهل الذى يمتد فى قارة أوروبا من المحيط الأطلنطى غربًا إلى جبال الأورال شرقًا.
(٢) ، (٣) أجب بالرجوع إلى المفكرة ص ٣٨ ما المقصود.

(ب) (١) **صواب** : حيث يمر بجنوبها دائرة الاستواء فترتفع درجة الحرارة ثم تقل كلما اتجهنا شمالًا لاقترابنا من الدائرة القطبية الشمالية التى تقع شمالها.
(٢) **صواب** : حيث تتركز معظم الدول ذات الدخل الاقتصادى الزراعى المنخفض فى قارة أفريقيا.

(جـ) (١) أجب بالرجوع إلى المفكرة ص ٤٧ دلل.
(٢) أجب بالرجوع إلى المفكرة ص ٨،٦ أهم الجداول والمقارنات.

٣

(أ) (١) ذى القادر. (٢) سعيد.
(٣) الجامعة المصرية. (٤) زيور باشا.
(٥) الصعيد.

(ب) (١) **صواب** : اقتصادية لاكتشاف منابع نهر النيل وعسكرية لتجنيد السودانيين.
(٢) **صواب** : لأن بريطانيا قامت بإرسال الحملة لاحتلال مصر وعزل محمد على (هو اختيار المصريين) لتعيين تابعها المملوكى محمد بك الألفى لتطمئن على مصالحها الاقتصادية فى المنطقة.

(جـ) بإلغاء مصطفى النحاس معاهدة ١٩٣٦م وإطلاق الحرية للنضال المسلح هاجم الفدائيون معسكرات الإنجليز فى منطقة القناة وعمدت الحكومة إلى زيادة عدد جنود الشرطة لمساعدة الفدائيين وحاصر البريطانيون مبنى محافظة الإسماعيلية ورفض الجنود المصريين التسليم لقوات الاحتلال مما أدى إلى الصدام بينهما واستشهد الكثير منهم، وفى اليوم التالى وقع حريق القاهرة فكان إيذانًا بنهاية النظام الملكى وقيام ثورة يوليو ١٩٥٢م.

٤

(أ) (١) أدى ذلك إلى تطبيق نظام الالتزام مما أثقل الفلاح بالضرائب وتعسف وظلم الملتزمين وعدم اهتمام الطبقة الحاكمة بمشروعات الرى مما أدى إلى تدهور الزراعة وتدهور أحوال المجتمع الريفى بوجه عام.

(٢) أدى ذلك إلى حصوله على فرمانات يوسع بها نطاق حكمه وجعل وراثة العرش فى أبنائه وازدياد الأزمة المالية.

(٣) ترتب على ذلك أن اضطر ملنر للتفاوض مع الوفد المصرى وانتهت بمشروع معاهدة رفضها الشعب المصرى.

(٤) ترتب على ذلك وضع خطة إصلاحية فى الزراعة والصناعة والتجارة والصحة والقضاء من أجل تحويل مصر إلى مستعمرة فرنسية كبرى.

(ب) (١) **حيث :**

- حدثت معركة بين الرعايا الأجانب والمصريين فى الإسكندرية نتج عنها قتلى من الجانبين واجتماع قناصل الدول الأجنبية فى الإسكندرية.
- بقاء البلاد بدون وزارة لمدة أسبوعين.
- عقد ممثلو الدول العظمى مؤتمر الآستانة وقرروا عدم تدخل الدول منفردة فى المسألة المصرية وانتهزت إنجلترا الفرصة لاحتلال مصر.

(٢) أجب بالرجوع إلى المفكرة ص ٩٩ دلل.

(جـ) (١) **يترك للطالب حرية الإجابة فى ضوء :**

- يعد ذلك مخالفة لما وعد به نابليون (احترام العهود).
- ما قام به نابليون فى حامية يافا أدى إلى استبسال أهالى عكا فى الدفاع عن مدينتهم.

(٢) أجب بالرجوع إلى المفكرة ص ١٠٢ ماذا يحدث.

٥ محافظة الشرقية

١

(أ) (١) الإقليم الجبلى. (٢) السلالة المغولية.
(٣) سهول نهرى مرى ودارلنج.

(ب) **صواب :** حيث يحدها المحيط الأطلنطى من الشرق والمحيط الهادى من الغرب والمحيط القطبى الشمالى من الشمال.

(جـ) أوروبا.

(د) (١) حيث يتركز السكان فى مصر فى السهل الفيضى الخصب لوادى النيل الذى ينبع روافده من هضبة البحيرات الاستوائية وسط أفريقيا وفى الشرق هضبة الحبشة ويقل عدد السكان فى الصحارى الفقيرة لهضبة الصحراء الكبرى والتى تضم هضبتى الصحراء الشرقية والغربية فى مصر.

(٢) تنقسم دول أوروبا من حيث الدخل إلى :

- دول غرب أوروبا ذات دخل اقتصادى مرتفع.
- دول شرق أوروبا ذات دخل اقتصادى فوق المتوسط.
- دولة أوكرانيا ذات دخل اقتصادى أقل من المتوسط.

٢

(أ) (١) لأنها قارة متجمدة غير مأهولة بالسكان باستثناء مراكز بحوث ومناطق مقسمة بين عدد من الدول التى لها مصالح بها كما يحيط بها محيط واحد (المتجمد الجنوبى).

(٢) بسبب اقتراب حافات الجبال والهضاب من سواحلها.

(٣) حيث تضم الولايات المتحدة الأمريكية سلالات مختلفة وهم :

- **الزنوج :** القادمون نتيجة الهجرات الإجبارية إلى الأمريكتين للعمل فى مزارع القطن وقصب السكر والتبغ التى أنشأها الأوروبيون.
- **القوقازيون :** هم السكان البيض القادمون من أوروبا.

(٤) بسبب الهجرات غير الشرعية التى تخرج من معظم دول آسيا إلى الدول المتقدمة مثل دول أوروبا وذلك نتيجة لزيادة السكان فى معظم دول آسيا.

(ب) (١) **يترك للطالب حرية الإجابة فى ضوء :**

- سيكون مناخ شمال أوروبا حار جاف صيفًا دفئ ممطر شتاءً.
- زيادة عدد السكان فى شمال أوروبا.
- ستنمو غابات البحر المتوسط ومن أشجارها الزيتون بدل من الطحالب.

(٢) يترك للطالب حرية الإجابة فى ضوء :

ستقل فئة صغار السن وستوفر على الدولة ميزانية ضخمة من أجل توفير الغذاء والرعاية الصحية والتعليمية وغيرها من الخدمات وستزيد الفئات المنتجة.

(ج) (١)

الخصائص النباتية لجنوب شرق أفريقيا	الخصائص النباتية لجنوب غرب آسيا
* تنمو غابات الإقليم الصينى وأشجارها دائمة الخضرة ومن أهم أشجارها الصفصاف والبلوط. * تنمو حشائش الإستبس بالقرب من غابات الإقليم الصينى.	* تنمو أشجار أقل كثافة وتشابكًا من الغابات الاستوائية. * تنمو حشائش السافانا وتتدرج فى أطوالها حسب كمية المطر.

(٢)

السهل الأوروبى العظيم	السهول الوسطى بأمريكا الشمالية
* يمتد من المحيط الأطلنطى غربًا حتى جبال الأورال شرقًا. * **أهم الأنهار :** • الفولجا. • الراين. • الدانوب.	* تمتد من المحيط القطبى الشمالى شمالًا إلى خليج المكسيك جنوبًا. * **أهم الأنهار :** • نلسن. • سانت لورانس. • المسيسبى.

٣

(أ) (١) حق الانتفاع. (٢) البدو.
(٣) البكوات المماليك. (٤) شريف باشا.

(ب) **صواب** : نتيجة علو مكانة مصر دوليًا وتفاوض الدول الأوروبية مباشرة مع محمد على لإنهاء الحرب (دون الرجوع إلى السلطان العثمانى).

(ج) (١) حيث وضعوا مشاريع لفتح أسواق لمصر فى بلاد البحر الأحمر وفى دارفور فى السودان والحبشة وبلاد شمال أفريقيا.

(٢) حيث تدخلت الحكومتين البريطانية والفرنسية للضغط على السلطان العثمانى فأصدر فرمانًا بخلع (عزل) الخديو إسماعيل وتولية ابنه توفيق فى يونيه ١٨٧٩م.

٤

(أ) (١) ترتب على ذلك أن اتسمت الحياة الفكرية والثقافية بالجمود والتخلف فاهتزت مكانة الأزهر العلمية ولم يعد هناك اهتمام بالعلوم العقلية أو الرياضية أو الطبيعية وكان الاهتمام بالعلوم الشرعية فقط.
– تدهور الحياة الأدبية.
– انتشار الدجل والشعوذة والخرافات وشاع الجهل والجمود والتخلف.

(٢) أجب بالرجوع إلى المفكرة ص ٦٨ ما النتائج.

(٣) أدى ذلك إلى ظهور بدايات الأزمة المالية فى مصر وعقد أول القروض من أحد البنوك البريطانية عام ١٨٦٢م والاستدانة من المرابين مقابل سندات على حساب الخزانة المصرية.

(٤) أدى ذلك إلى :
– وضع الخديو نفسه تحت حماية إنجلترا وفرنسا.
– ازدياد التدخل الأجنبى والأزمة الاقتصادية.

(ب) (١) يترك للطالب حرية الإجابة فى ضوء :
من المتوقع عدم استبسال أهالى عكا وعدم فشل حملة نابليون على الشام.

(٢) يترك للطالب حرية الإجابة فى ضوء :
– لن يصدر الخديو أمرًا بعزل عرابى من وزارة الحربية.
– لن يحذر المصريين من الانضمام إليه.
– لن يظهر عرابى بمظهر العاصى لأوامر الخديو.
– لن يتمكن العرابيين من التصدى لهجمات الإنجليز فى كفر الدوار.

(ج) (١) أجب بالرجوع إلى المفكرة ص ٧٨ أهم المخططات.
(٢) أجب بالرجوع إلى المفكرة ص ٨٦ أهم الجداول والمقارنات (العوامل).

٦ محافظة المنوفية

١

(أ) (١) المحيط الهندى. (٢) البرازيل.

(ب) **صواب** : بسبب انتشار الأمية والفقر فى معظم دولها والاعتماد على الزراعة البدائية والرعى وانتشار بعض العادات والتقاليد السلبية مثل الزواج المبكر للإناث والرغبة فى إنجاب أكبر عدد من الأبناء.

(ج) حيث يقل سكان أفريقيا عند المناطق ذات المناخ الاستوائى بسبب انتشار الغابات الاستوائية الكثيفة حيث البيئة الطبيعية القاسية وانتشار الأمراض.

(د) (١) **كلاهما :**
– مناطق يسود بها المناخ الاستوائى وشبه الاستوائى.
– يصبان فى المحيط الأطلنطى.
– مناطق يقل بها السكان.

(٢) الإسكيمو من أقسام السلالة المغولية، أما البانتو من أقسام السلالة الزنجية.

٢

(أ) (١) مدغشقر. (٢) الجنوب الشرقى.

(ب) (١)

الإقليم المدارى الحار	إقليم البحر المتوسط
حشائش الساڤانا	حشائش الإستبس

(٢)

سهول اليانجتسى	سهول سيبيريا
يتركز السكان بسبب وجود السهول الفيضية	يقل السكان بسبب برودة الجو

(جـ) (١) السلالة المغولية (الهنود الحمر).
(٢) أمطار طوال العام وخاصة صيفًا.
(٣) المكسيك. (٤) فى الجهة الغربية للقارة.

٣

(أ) (١) جالديران. (٢) محمد على.

(ب) **صواب** : لأن محمد على اهتم بالتعليم فقام بإنشاء المدارس والاستعانة ببعض الأساتذة الأجانب وإنشاء المطبعة الأميرية فى بولاق ولكن سعيد قام بإغلاق ديوان المدارس.

(جـ) (١) **أجب بالرجوع إلى المفكرة ص ٦٤ بم تفسر.**
(٢) بسبب انتقاد الحركة الوطنية للوزارة المختلطة ولتسوية الديون طبقًا لما قررته اللائحة الوطنية (اللائحة الأساسية).
(٣) بسبب إصرار مجلس النواب على مناقشة الميزانية.
(٤) **أجب بالرجوع إلى المفكرة ص ١٠٠ دلل.**

(د) تولى مصطفى النحاس الوزارة أثناء الحرب العالمية الثانية بعد تدخل بريطانيا وحصار قصر عابدين وتهديد الملك فاروق بخلعه من العرش.

٤

(أ) (١) سليم الأول. (٢) زيور باشا.

(ب) (١) **أجب بالرجوع إلى المفكرة ص ٥٧ أهم الجداول والمقارنات (النتائج).**
(٢) أدى ذلك إلى انحصار مهمة هذا الجيش فى إقرار الأمن وحفظ النظام.

(جـ) (١) **يترك للطالب حرية الإجابة فى ضوء :**
- لم يمتد النفوذ المصرى إلى جنوب السودان.
- لن ينشئ مدينة الخرطوم.
- لن يتم اكتشاف منابع نهر النيل.

(٢) **يترك للطالب حرية الإجابة فى ضوء :**
- لم يخترق الإنجليز قناة السويس.
- لن ينجح الإنجليز فى احتلال مصر.

٧ محافظة الغربية

١

(أ) (١) جبال الإنديز.
(٢) السلالة القوقازية.
(٣) جزر اليابان.

(ب) **خطأ** : تزداد نسبة العاملين فى الصناعة والخدمات المرتبطة بها فى الدول المتقدمة الغنية.

(جـ) حوض الكونغو.

(د) (١) حيث تتنوع الأقاليم المناخية نتيجة لعدة عوامل مؤثرة فى المناخ **منها** : الموقع الفلكى - الموقع الجغرافى - التضاريس.
(٢) للعمل فى مزارع القطن وقصب السكر والتبغ التى أنشأها الأوروبيون فى الأمريكتين.

٢

(أ) (١) **أجب بالرجوع إلى المفكرة ص ١٣ بم تفسر.**
(٢) **أجب بالرجوع إلى المفكرة ص ٤٣ بم تفسر.**
(٣) **أجب بالرجوع إلى المفكرة ص ١٤ بم تفسر.**
(٤) **يترك للطالب حرية الإجابة فى ضوء :**
لا أتفق مع هذا الرأى لأن السلالات البشرية لها أصل واحد وأن الأسس التى تم على أساسها تقسيم السلالات هى أسس ظاهرية (حسب الشكل الخارجى) وليست جوهرية.
(٥) آسيا.
(٦) **أجب بالرجوع إلى المفكرة ص ٤٦ ما النتائج.**

(ب) (١) توزيع السكان يرتبط بالتطور الصناعى حيث تزيد الكثافة السكانية فى المناطق الصناعية والمدن الكبرى مثل لندن وباريس وسيدنى ونيويورك حيث وفرة فرص العمل ووفرة الخدمات.

(٢) يترك للطالب حرية الإجابة فى ضوء :
- غرق العديد من المناطق الساحلية والجزر.
- تقلص مساحة بعض الدول.
- زيادة النزوح السكانى نحو الداخل.

٣

(أ) (١) الريدانية. (٢) اتفاقية العريش.
(٣) الخديو إسماعيل.
(٤) الميل للأجانب وسياسة التبعية.

(ب) **خطأ :** منح سعيد باشا عقد امتياز شركة قناة السويس لفرديناند ديليسبس.

(جـ) (١) **أجب بالرجوع إلى المفكرة ص ٦٣ بم تفسر.**
(٢) **أجب بالرجوع إلى المفكرة ص ٨٩ بم تفسر.**

٤

(أ) (١) جالديران. (٢) حزب الوفد.

(ب) (١) محمود سامى البارودى.
(٢) مصطفى النحاس.

(جـ) (١) من أجل تحقيق الاستقلال وإقامة حكومة دستورية.
(٢) لإقناع الشعب المصرى بقبول الحماية البريطانية.

(د) (١) **أجب بالرجوع إلى المفكرة ص ٧٠ دلل.**
(٢) **أجب بالرجوع إلى المفكرة ص ١٠٢ ماذا يحدث.**

٨ محافظة الدقهلية

١

(أ) (١) ③ (٢) ① - جوز الهند. (٣) ②

(ب) البرازيل.

(جـ) **خطأ :** لأن أستراليا تقع فى نصفى الكرة الأرضية الجنوبى والشرقى.

(د) (١) **أجب بالرجوع إلى المفكرة ص ٤٧ دلل.**
(٢) - **التشابه فى التضاريس يتمثل فى :**
وجود جبال (أطلس فى الشمال الغربى ودراكنزبرج فى الجنوب الشرقى).
- **الاختلاف فى المناخ :**
- أقصى شمال غرب أفريقيا يتبع إقليم مناخ البحر المتوسط.
- أقصى جنوب شرق أفريقيا يتبع الإقليم المناخى المعتدل شرق القارات (الصينى).

٢

(أ) (١) لأن سواحلها تتميز بتعرجها وكثرة الجزر مما ساعد على إنشاء الموانئ.
(٢) لوجود هجرات غير شرعية تتجه معظمها إلى الدول المتقدمة مثل أوروبا.
(٣) **أجب بالرجوع إلى المفكرة ص ٤٥ بم تفسر.**

(ب) (١) **حيث :**
- يتركز السكان بالمناطق المرتفعة السطح بالدول المدارية لارتفاعها مثل أوغندا وكينيا.
- يقل السكان فى بعض المناطق الجبلية الوعرة مثل جبال البحر الأحمر.

(٢) أدى التقدم فى الخدمات الصحية فى قارة أوروبا إلى زيادة نسبة كبار السن وبالتالى أصبحت أعلى قارات العالم فى ارتفاع معدل الوفيات.

(جـ) **تؤثر بعض العادات والتقاليد فى معدل تعليم الإناث حيث تتمثل العادات فى :**
- حرمان المرأة من التعليم فى بعض المناطق حفاظًا عليها أو بسبب المعتقدات الخطأ.
- تفضيل الزواج المبكر للإناث.

(د) **أجب بالرجوع إلى المفكرة ص ١٢ ما المقصود.**

٣

(أ) (١) ديو البحرية. (٢) وضع دستور ١٩٣٠م.
(٣) المطبعة الأميرية. (٤) كليبر.

(ب) **خطأ :** طالب سعد زغلول السفر إلى باريس لعرض المطالب الوطنية على مؤتمر الصلح.

(جـ) (١) **أجب بالرجوع إلى المفكرة ص ٨٥ أهم الجداول والمقارنات (مساوئها).**
(٢) حيث استجاب السلطان العثمانى لبريطانيا وقام بإصدار منشور بإعلان عصيان عرابى مما أدى إلى إضعاف الروح المعنوية للمقاتلين وهزيمتهم فى التل الكبير ودخول القاهرة واحتلالها.

٤

(أ) (١) استغل مصطفى كامل حادثة دنشواى للتنديد بالاحتلال البريطانى وسياسته القمعية مما أدى إلى استقالة اللورد كرومر من منصبه.
(٢) من عوامل اندلاع الثورة العرابية اضطهاد عثمان رفقى (ناظر الجهادية) للضباط المصريين وعدم ترقيتهم.

(ب) (١) تشابه طرفى المعركتين (العثمانيين والمماليك) وهزيمة المماليك وانتصار العثمانيين.

(٢) كلاهما تشابه فى التوسع فى الجنوب بقارة أفريقيا والاهتمام بالسيطرة على منابع نهر النيل.

(جـ) (١) - دعا إلى إنشاء مدارس ليلية لتعليم الفقراء والعمال مجانًا.

- دعا إلى جعل التعليم إلزامى ومجانًا بالمرحلة الابتدائية.

(٢) إنشاء محمد على العديد من القناطر على النيل أهمها القناطر الخيرية وقام بحفر ترعة المحمودية.

(د) (١) أجب بالرجوع إلى المفكرة ص ٧٠ دلل.

(٢) أجب بالرجوع إلى المفكرة ص ٦٤ بم تفسر.

٩ محافظة الاسماعيلية

١

(أ) (١) ③. (٢) ②. (٣) ①.

(ب) أوروبا.

(جـ) **صواب** : حيث ينتمى كل منهما إلى إقليم التندرا وكلاهما ينتشر به السلالة المغولية بفروعها (الإسكيمو - التنجوس).

(د) (١) أجب بالرجوع إلى المفكرة ص ١٣ بم تفسر.

(٢) لأنها فئة مستهلكة - غير منتجة - تحمل الدول ميزانية ضخمة فى التعليم والصحة والغذاء والملبس والخدمات.

٢

(أ) أجب بالرجوع إلى المفكرة ص ١٢ ما المقصود.

(ب) (١) أصبحت قارة متجمدة وغير مأهولة بالسكان باستثناء بعض مراكز البحوث.

(٢) أجب بالرجوع إلى المفكرة ص ١٥ ما النتائج.

(٣) ، (٤) أجب بالرجوع إلى المفكرة ص ٤٦ ما النتائج.

(جـ) (١) - يقل السكان فى حوض نهر الأمازون بسبب وجود الغابات الاستوائية.

- يقل عدد السكان فى فنلندا أو النرويج بسبب برودة الجو.

(٢)

	إقليم مناخ البحر المتوسط	إقليم المناخ المعتدل شرق القارات (الصينى)
أوجه التشابه		* من الأقاليم المناخية المعتدلة الدفيئة. * يقعان فى العروض المعتدلة بين دائرتى عرض ٣٠° ، ٤٥° شمالاً وجنوبًا. * **تنمو بهما :** • أشجار دائمة الخضرة. • حشائش الإستبس. * يتميزان بارتفاع درجة الحرارة صيفًا.
أوجه الاختلاف	* يقع غرب معظم القارات.	* يقع فى شرق القارات.
	* يتميز الإقليم بأنه دفىء ممطر شتاءً يسوده الجفاف صيفًا.	* **يتميز الإقليم بـ :** • الحرارة المنخفضة شتاءً. • أمطار طوال العام وتزداد صيفًا ويتعرض لعواصف مدارية مثل التيفون.
	* تنتشر بالإقليم غابات البحر المتوسط ومن أهم أشجارها الزيتون.	* تنتشر بالإقليم غابات الإقليم الصينى ومن أهم أشجارها الصفصاف والبلوط.

٣

(أ) (١) الريدانية. (٢) على بك الكبير.

(٣) السويس. (٤) رياض باشا وشريف باشا.

(ب) **صواب** : حيث شهدت منطقة بولاق إنشاء المطبعة الأميرية لطباعة الكتب وإصدار صحيفة الوقائع المصرية (منشآت ثقافية) وتأسيس أول ترسانة بحرية لصناعة السفن (منشآت عسكرية).

(جـ) (١) كان للزعامة الشعبية دورًا هامًا فى تولية محمد على حكم مصر حيث اجتمعوا فى دار المحكمة وقرروا عزل خورشيد وتولية محمد على واليًا على مصر وسعوا لدى السلطان العثمانى حتى أصدر فرمانًا بذلك.

(٢) أدى تصريح ٢٨ فبراير ١٩٢٢م إلى تغير الأوضاع السياسية حيث أعلن السلطان فؤاد نفسه ملكًا وأُعيد فتح وزارة الخارجية المصرية وتم تشكيل لجنة من ٣٠ عضو لإعداد دستور ١٩٢٣م.

٤

(أ) (١) حيث أعاد فتح المصانع التى أغلقت فى عهد من سبقه من خلفاء محمد على وتوسع فى إنشاء مصانع السكر بالوجه القبلى.

(٢) يترك للطالب حرية الإجابة فى ضوء :

- حيث دعا إلى إنشاء مدارس الشعب الليلية.
- تعليم العمال والفقراء مجانًا - طالب بإلزامية التعليم بالمجان فى المرحلة الابتدائية.

(ب) (١) أجب بالرجوع إلى المفكرة ص ٦٠ بم تفسر.

(٢) أجب بالرجوع إلى المفكرة ص ٧٠ دلل.

(٣) التأثير السلبى :

- توتر العلاقة بين محمد على والسلطان العثمانى.
- تحطيم الأسطول المصرى فى معركة نقارين ١٨٢٧م.

التأثير الإيجابى :

- ارتفاع مكانة مصر دوليًا.
- ضمه جزيرة كريت.

(٤) حيث صمد الضابط محمد عبيد أمام القوات البريطانية وقاتلهم حتى استشهد هو ومعظم رجاله دفاعًا عن مصر فى معركة التل الكبير.

(جـ) (١) حيث فقد مصطفى كامل دولة تسانده وهى فرنسا عام ١٩٠٤م بعد توقيعها الاتفاق الودى مع إنجلترا الذى نص على إطلاق يد إنجلترا فى مصر مقابل إطلاق يد فرنسا فى مراكش.

(٢) أجب بالرجوع إلى المفكرة ص ٨٧ أهم الجداول والمقارنات.

١٠ محافظة السويس

١

(أ) (١) الإنديز. (٢) مدار الجدى. (٣) جيانا.

(ب) أوكرانيا. (جـ) **خطأ** : ... دراسة السكان.

(د) (١) حيث تعرض عدد كبير من الزنوج الأفارقة للهجرات الإجبارية للأمريكتين ضمن تجارة العبيد التى كانت سائدة فى الماضى وذلك للعمل فى مزارع القطن وقصب السكر والتبغ التى أنشأها الأوروبيون فى الأمريكتين.

(٢) حيث كلما زاد عدد الأطباء بالنسبة للسكان فى دولة ما دل ذلك على زيادة الرعاية الطبية بها.

٢

(أ) (١) أجب بالرجوع إلى المفكرة ص ١٣ بم تفسر.

(٢) أجب بالرجوع إلى المفكرة ص ٤٣ بم تفسر.

(٣) لانها تستغل كمراع طبيعية.

(ب) (١) ترتب على ذلك ضيق السهول الساحلية فى شرق قارة أستراليا.

(٢) أجب بالرجوع إلى المفكرة ص ٤٦ ما النتائج.

(جـ) يترك للطالب حرية الإجابة فى ضوء :

لن تتحمل هذه الدول ميزانية ضخمة لتوفير الغذاء والملبس والرعاية الصحية والتعليم وغيرها من الخدمات.

(د) (١) حيث تشغل الهضاب مساحات واسعة بقارة أفريقيا والتى تمتد فى :

- شمال القارة : هضاب الصحراء الكبرى.
- وسط القارة : هضبة البحيرات الاستوائية.
- شرق القارة : هضبة الحبشة.
- جنوب القارة - هضبة جنوب أفريقيا.

(٢) حيث :

- تتشابه المنطقتان مناخيًا فى :

انخفاض الحرارة شتاءً وسقوط الأمطار طوال العام والتى تزداد صيفًا.

- تختلف نباتيًا فى :

شرق الصين : تنمو بها غابات الإقليم الصينى وأهم أشجارها : الصفصاف والبلوط، بالإضافة إلى حشائش الإستبس شمال شرق الصين: تنمو بها الغابات المخروطية ومن أهم أشجارها : الصنوبر والشربين.

٣

(أ) (١) العثمانية. (٢) محمد بك أبو الدهب.

(٣) لجنة التحقيق العليا الأوروبية.

(٤) بريطانيا.

(ب) **خطأ** : ... المماليك.

(جـ) أجب بالرجوع إلى المفكرة ص ٨٦ أهم الجداول والمقارنات (محتواها).

(د) أجب بالرجوع إلى المفكرة ص ٥٣ ما المقصود.

٤

(أ) (١) أجب بالرجوع إلى المفكرة ص ٦٣ بم تفسر.

(٢) حيث دعا إلى :

- إنشاء مدارس الشعب الليلية لتعليم العمال والفقراء مجانًا.
- جعل التعليم إلزاميًا وبالمجان فى المرحلة الابتدائية.

(٣) أجب بالرجوع إلى المفكرة ص ٩٧ بم تفسر.

(ب) (١) أجب بالرجوع إلى المفكرة ص ٩٦ ما النتائج.

(٢) أجب بالرجوع إلى المفكرة ص ٦٨ ما النتائج.

(٣) ترتب على ذلك اتسمت الحياة الفكرية والثقافية فى مصر بالجمود والتخلف اثناء الحكم العثمانى.

(جـ) حيث نتج عن حروب اليونان ارتفاع مكانة مصر الدولية بسبب تفاوض محمد على مع الدول الأوروبية مباشرة لإنهاء الحرب دون الرجوع للسلطان العثمانى.

(د) أجب بالرجوع إلى المفكرة ص ٨٥ أهم الجداول والمقارنات.

١١ محافظة بورسعيد

١

(أ)

(١)

	الإقليم المدارى الحار	إقليم البحر المتوسط
موسم سقوط المطر	الصيف	الشتاء

(٢) حيث يجرى بهما أنهار هامة مثل :

- لمبوبو وأورانج فى هضبة جنوب أفريقيا.
- السين فى هضبة فرنسا الوسطى.

(٣) أدى امتداد القارة فى أقصى جنوب الكرة الأرضية وإحاطة المحيط القطبى الجنوبى من جميع الجهات إلى جعلها قارة متجمدة غير مأهولة بالسكان.

(٤) أجب بالرجوع إلى المفكرة ص ٤٥ بم تفسر.

(٥) حيث يزداد عدد السكان فى كلاهما لوجود المدن الكبرى.

(٦) يترك للطالب حرية الإجابة فى ضوء :

- زيادة المناطق الصناعية لتوفير فرص العمل للشباب.
- العمل على رفع مستوى المعيشة للأفراد.
- العمل على زيادة نصيب الفرد من الدخل القومى.

(ب) أجب بالرجوع إلى المفكرة ص ٤٦ ما النتائج.

(جـ) (١) البلوط والصفصاف.

(٢) تنفض أوراقها شتاءً لشدة البرودة.

٢

(أ) (١) حيث :

- أصلح الطريق البرى بين القاهرة والسويس.
- بدأ فى إنشاء أول خط حديدى بين القاهرة والإسكندرية.

(٢) حيث قام بـ :

- تأمين الطرق البحرية.
- بناء أسطول فى البحرين الأحمر والمتوسط.
- تطهير البحر الأحمر من أعمال القرصنة.

(٣) حيث وضع أول دستور فى مصر عرف باسم (اللائحة الأساسية).

(ب) (١) حيث أنشأ نابليون الديوان العام ودواوين الأقاليم وديوان القاهرة بهدف تدريب الأعيان والعلماء المصريين على نظام مجالس الشورى من حيث الاستشارة وتلقى الآراء فيما يعود على الأهالى بالنفع العام فى المجالات المختلفة.

(٢) أجب بالرجوع إلى المفكرة ص ١٠١ دلل.

(٣) حيث أقنعت بريطانيا السلطان العثمانى بإصدار منشور بإعلان عصيان عرابى فأصدر منشورًا بذلك مما أضعف الروح المعنوية للمقاتلين المصريين مما كان سببًا فى فشل الثورة العرابية.

(جـ) (١) أجب بالرجوع إلى المفكرة ص ٨٤ أهم الجداول والمقارنات.

(٢) حيث قام الشعب المصرى بالعديد من الثورات ضد الولاة العثمانيين وزعماء المماليك كان من أهمها ثورة مارس ١٨٠٤م بسبب فرض الضرائب والإتاوات على الأهالى فخشى محمد على أن تصيب الثورة جنوده، فجاهر بالانضمام إلى العلماء والمشايخ واختلط بالأهالى الساخطين وتعهد للعلماء بأن يبذل قصارى جهده لرفع الضريبة عن الناس فترتب على ذلك أن كسب محمد على عطف الشعب وثقة زعمائه وتم تعيينه واليًا على مصر.

٣

(أ) (١) الانتفاع. (٢) محمود سامى البارودى.
(٣) محمد فريد.

(ب) **صواب** : حيث ترك نابليون الحملة والأخطار تهددها من كل جانب مثل قلة عدد الجنود وثورات المصريين ضده وإرسال العثمانيين لحملة جديدة إلى دمياط والعريش كل ذلك دفع كليبر (قائد الحملة الفرنسية) لعقد معاهدة العريش.

(جـ) (١) حيث أدرك السلطان سليم الأول أن الصدام مع الدول الأوروبية فى ذلك الوقت محفوف بالمخاطر لتفوقها حضاريًا وعسكريًا على العثمانيين ومن هنا كان التوجه نحو الشرق لتحقيق السيطرة على المنطقة.

(٢) أجب بالرجوع إلى المفكرة ص ٩٧ ما النتائج.

٤

(أ) (١) سهل منشوريا. (٢) الإقليم الموسمى.
(٣) سهول سيبيريا الشمالية.

(ب) (ك) الإنديز.

(جـ) **خطأ** : حيث يمتد خط جرينتش فى ثلاث قارات من العالم هى (أوروبا - أفريقيا - القارة القطبية الجنوبية).

(د) (١) **العبارة صادقة** :
حيث تعرض الزنوج الأفارقة للهجرات الإجبارية (القسرية) إلى الأمريكتين فى الماضى للعمل فى مزارع القطن وقصب السكر والتبغ التى أنشأها الأوروبيين فى الأمريكتين كما يوجد عدد كبير منهم فى دول قارة أوروبا وحصلوا على جنسية هذه الدول.

(٢) **العبارة صادقة** :
لأنها تعتمد على التصنيع والتنمية الاقتصادية.

١٢ محافظة دمياط

١

(أ) (١) التبت. (٢) بحر الرمال العظيم.
(٣) الزان.

(ب) **صواب** : حيث تعرض عدد كبير من الزنوج للهجرات الإجبارية (القسرية) إلى الأمريكتين ضمن تجارة العبيد التى كانت سائدة فى الماضى للعمل فى مزارع القطن وقصب السكر والتبغ التى أنشأها الأوروبيون فى الأمريكتين.

(جـ) السين.

(د) (١) حيث يحدها المياه من ثلاث جهات من الشمال المحيط القطبى الشمالى ومن الغرب المحيط الأطلنطى ومن الجنوب البحر المتوسط ويحدها شرقًا قارة آسيا.

(٢) أجب بالرجوع إلى المفكرة ص ٨ قارن بين (السهول).

٢

(أ) (١) لأن جزر إندونيسيا تقع فى نطاق إقليم المناخ الاستوائى وشبه الاستوائى الذى يتميز بارتفاع درجة الحرارة وغزارة الأمطار طوال العام (إقليم المناخ الاستوائى).
(٢) حيث تستغل كمراعى طبيعية .
(٣) لأن الجنوب الشرقى لأستراليا يقع ضمن إقليم المناخ المعتدل شرق القارات (الصينى) الذى يتعرض أحيانًا لعواصف مدارية مثل عواصف التيفون، بينما الجنوب الغربى يقع ضمن إقليم مناخ البحر المتوسط.
(٤) بسبب السهول الساحلية المعتدلة والخصبة.

(ب) (١) حيث تتمثل فى الكوارث الطبيعية مثل الجفاف والزلازل.
(٢) بسبب زيادة عدد الأطباء بالنسبة لعدد سكان فى معظم دول أوروبا وروسيا.

(جـ) (١) حيث تضيق السهول الساحلية بغرب قارة أمريكا الجنوبية بسبب قرب جبال الإنديز من ساحل المحيط الهادى.
(٢) ارتفاع نسبة هذه الفئة تكلف الدولة المصرية ميزانية ضخمة من أجل توفير الغذاء والمسكن والرعاية الصحية.

٣

(أ) (١) كليبر. (٢) نفى عمر مكرم.
(٣) تحسين وسائل المواصلات.
(٤) فرض الحماية البريطانية على مصر.

(ب) **العبارة خطأ** : حيث أنشأ محمد على المطبعة الأميرية فى بولاق (ثقافية) كما أنشأ أول ترسانة بحرية لبناء السفن فى بولاق (عسكرية).

(جـ) (١) أدى ذلك إلى نمو فكرة الانفصال عن الدولة العثمانية والاستقلال بمصر ومواجهة الدولة العثمانية فيما يعرف بحروب الشام الأولى والثانية ووصول القوات المصرية إلى الشام وأعالى الفرات وامتداد النفوذ المصرى إلى بلاد الشام.

(٢) أدى ذلك إلى تنازل المصريين عن حقوقهم لتعذر السفر للخارج.

٤

(أ) (١) **أجب بالرجوع إلى المفكرة ص ٦١ بم تفسر.**

(٢) **لأن :**

– **العوامل البشرية** : اتباع أهالى الصعيد حرب المناوشات والمعارك المتفرقة.

– **العوامل الطبيعية** : طول الوادى.

كانت سببًا فى إخفاق القوات الفرنسية فى إخضاع أهالى الصعيد.

(٣) **أجب بالرجوع إلى المفكرة ص ٩٩ دلل.**

(٤) حيث استجاب الخديو توفيق لمطالب العرابيين وعزل عثمان رفقى ناظر الجهادية وعين محمود سامى البارودى بدلًا منه.

(ب) (١) حيث تم الاتفاق بين إنجلترا و وفرنسا على أن تنفرد إنجلترا بحكم مصرمقابل انفراد فرنسا بحكم مراكش (المغرب حاليًا).

(٢) حيث تجددت ثورة المصريين مرة أخرى وقاطع الشعب المصرى البضائع الإنجليزية مما اضطرت الحكومة البريطانية الإفراج عن سعد زغلول.

(جـ) **سبق إجابته.**

(د)

أحوال الصناعة فى العصر العثمانى	أحوال الصناعة فى عصر محمد على
تأخرت بسبب تدهور الزراعة وانتقال الحرفيين والصناع المهرة إلى الآستانة فأصبحت الصناعات يدوية بسيطة وكانت جميعها رديئة.	تطورت بسبب إقامة المصانع الحكومية والاستعانة بالخبرات الأجنبية وإرسال البعثات للخارج وترجمة الكتب الخاصة بمختلف الصناعات وجمع الصبية للعمل فى مصانع الدولة بأجور رمزية.

١٣ محافظة كفر الشيخ

١

(أ) (١) المعتدل البارد شرق القارات (اللورانسى).

(٢) بتاجونيا. (٣) السلالة المغولية.

(ب) الإنديز.

(جـ) **خطأ** : حيث يعد المحيط الأطلنطى حدًا طبيعيًا لأربع قارات هى (أمريكا الشمالية وأمريكا الجنوبية وأوروبا وأفريقيا).

(د) (١) **أجب بالرجوع إلى المفكرة ص ٤٨ دلل.**

(٢) حيث تعرض عدد كبير من الزنوج للهجرات الإجبارية (القسرية) إلى الأمريكتين ضمن تجارة العبيد وذلك للعمل فى مزارع القطن وقصب السكر والتبغ التى أنشاها الأوروبيون فى الأمريكتين.

٢

(أ) (١) لأنه بالرغم من أن كينيا وأوغندا يقعان فى منطقة مدارية إلا إن لديهما تركز سكانى فوق المرتفعات لاعتدال المناخ.

(٢) لأن يسودها النشاط الزراعى ويتركز معظم سكانها فى الريف ويعتمدون على الزراعة.

(٣) **سبق إجابته.**

(ب) (١) أدى ذلك إلى ضيق السهول الساحلية على المحيط الهادى فى غرب الأمريكتين الشمالية والجنوبية.

(٢) أدى ذلك إلى انخفاض معدلات وفيات الأطفال فى مصر عن المعدل العالمى.

(٣) **أجب بالرجوع إلى المفكرة ص ٤٦ ما النتائج .**

(جـ) (١) حيث أدى مرور دائرة الاستواء فى منتصف القارة إلى تشابه الأقاليم المناخية والنباتية فى النصف الشمالى لأفريقيا مع النصف الجنوبى منها.

(٢) **أجب بالرجوع إلى المفكرة ص ١٧ ما العلاقة.**

٣

(أ) (١) المصريين (أهالى الإسكندرية).

(٢) اليونان. (٣) منابع مياه النيل.

(٤) الجمعية التشريعية.

(ب) **خطأ** : حيث تم الاحتلال البريطانى فى عهد حكومة راغب باشا.

(جـ) (١) **أجب بالرجوع إلى المفكرة ص ٦٥ بم تفسر.**

(٢) **أجب بالرجوع إلى المفكرة ص ٦١ بم تفسر.**

٤

(أ) (١) أدى ذلك إلى تنديد مصطفى كامل بالاحتلال البريطانى وسياسته القمعية مما أدى إلى استقالة اللورد كرومر.

(٢) ترتب على ذلك :

- انتهاء احتلال مصر عسكريًا مع بقاء قوات بريطانية فى قناة السويس .
- تقوية الجيش المصرى حتى يتمكن من الدفاع عن قناة السويس بمفرده وبالتالى تجلو القوات البريطانية عن مصر.
- عودة الجيش المصرى إلى السودان.

(٣) أجب بالرجوع إلى المفكرة ص ٦٨ ما النتائج.

(ب) (١) أجب بالرجوع إلى المفكرة ص ٧٤ ماذا يحدث.

(٢) يترك للطالب حرية الإجابة فى ضوء :

كان إجراء خطأ حيث كان قضاتها من الأجانب والمصريين ورئاسة القضاة الأجانب لها قد أدت إلى تدخلهم فى سلطة القضاء التشريعى وانحيازهم للأجانب.

(٣) من هذه البطولات الضابط محمد عبيد الذى صمد بقواته أمام القوات البريطانية وقاتلهم إلى أن استشهد هو ومعظم رجاله.

(جـ) (١) أجب بالرجوع إلى المفكرة ص ٧٠ دلل.

(٢) حيث قام سعيد باشا بـ :

- إصدار اللائحة السعيدية أغسطس ١٨٥٨م والتى بموجبها أصبح للفلاح الحق فى توريث الأرض الزراعية.
- الاهتمام بتطهير ترعة المحمودية لتفى بحاجة الرى والزراعة.

١٤ محافظة البحيرة

١

(أ) (١) التبت.

(٢) الإقليم الاستوائى وشبه الاستوائى.

(٣) السلالة المغولية.

(ب) (د) جبال دراكنزبرج.

(جـ) صواب : بسبب كثرة تعرج سواحلها وكثرة الجزر.

(د) (١)

	جنوب غرب أستراليا	جنوب غرب أمريكا الجنوبية
الإقليم المناخى الذى ينتمى إليه	إقليم البحر المتوسط.	إقليم غرب أوروبا.
الخصائص النباتية	أجب بالرجوع إلى المفكرة ص ١٠ (الخصائص النباتية).	أجب بالرجوع إلى المفكرة ص ١١ (الخصائص النباتية).

(٢) أجب بالرجوع إلى المفكرة ص ١٨ ما العلاقة.

٢

(أ) (١) أدى ذلك إلى ضيق السهول الساحلية بشكل عام فى قارة أفريقيا.

(٢) أجب بالرجوع إلى المفكرة ص ٤٦ ما النتائج.

(٣) ترتب على ذلك قلة عدد السكان فى فنلندا والنرويج.

(ب) (١) أجب بالرجوع إلى المفكرة ص ٦ أهم الجداول والمقارنات (السهول).

(٢) حيث تكثر الهضاب شرق جبال الإنديز ومنها :

- هضبة جيانا شمال القارة.
- هضبة البرازيل شرق القارة.
- هضبة بتاجونيا جنوب القارة.

(٣) حيث :

- تقل معدلات الوفيات فى الدول التى تراعى مستويات الوقاية الصحية وحماية البيئة من التلوث.
- تزداد معدلات الوفيات فى الدول التى تقل فيها الرعاية الصحية وتنتشر فيها الأمراض.
- الحروب والكوارث الطبيعية (كالجفاف والزلازل) التى تؤدى إلى زيادة معدلات الوفيات.

(جـ) أجب بالرجوع إلى المفكرة ص ٣٨ ما المقصود.

(د) يترك للطالب حرية الإجابة فى ضوء :

- نشر الوعى بأهمية تنظيم الأسرة.
- الاهتمام بالتنمية الاقتصادية وتوفير فرص العمل.
- القضاء على الفقر.

٣

(أ) (١) (جـ) شبراخيت. (٢) (ب) رجال الدين.
(٣) (ب) القلعة. (٤) (أ) المشورة.

(ب) **خطأ** : بسبب ظهور طبقة من كبار الملاك والأعيان استفادت من سياسة الاحتلال الاقتصادية وارتبط نموها الاقتصادى ببقاء الاحتلال واستمراره.

(جـ) (١) ترتب على ذلك خروج السلطان الغورى المملوكى من مصر إلى الشام ودارت معركة مرج دابق ضد العثمانيين بقيادة سليم الأول.

(٢) أجب بالرجوع إلى المفكرة ص ٩٥ ما النتائج.

٤

(أ) (١) بسبب إرسال إنجلترا أسطولًا حربيًا إلى أبى قير فى فبراير ١٨٠١م لإخراج الحملة الفرنسية من مصر وانضم إليه الجيش العثمانى فلم تستطع القوات الفرنسية المقاومة واستسلمت وغادرت مصر.

(٢) لأنها كانت أول مرة فى تاريخ مصر الحديث التى يُعزل فيها الوالى ويُعين آخر بإرادة الشعب.

(٣) لأن عهده يعتبر من :

- أزهى الفترات وأكثرها تقدمًا وعمرانًا فى تاريخ مصر الحديث.
- أخطر الفترات التى تعرضت لها مصر من تدخل أجنبى فى شئونها بسبب الأخطاء التى أدت إلى تدهور مركزها المالى وانهيار الاستقلال السياسى.

(ب) (١) حيث استطاع الأسطول الإنجليزى بقيادة نلسون تحطيم وإغراق الأسطول الفرنسى فى معركة أبى قير البحرية أغسطس ١٧٩٨م مما حرم الحملة من إمدادات فرنسا لها وحصار الأسطول الإنجليزى لشواطئ مصر الشمالية مما ساهم فى فشل الحملة الفرنسية على مصر.

(٢) حيث حقق محمد على عدة مكاسب من حرب اليونان، **أهمها** :

- ضم جزيرة كريت لولاية مصر.
- علو مكانة مصر دوليًا نتيجة تفاوض الدول الأوروبية مع محمد على مباشرة لإنهاء الحرب دون الرجوع للسلطان العثمانى.

(٣) أجب بالرجوع إلى المفكرة ص ٩٩ دلل.

(جـ) (١) يترك للطالب حرية الإجابة فى ضوء :

لم يكن خلفاء (محمد على) على شاكلته من حيث القوة والوعى حيث :

- لم يثبتوا كفاءتهم فى حكم البلاد.
- دهمتهم (صدمتهم) الموجة الغربية فى الوقت الذى لم يمتلك أى منهم الكفاءة على مواجهتها فانفلتت من أيديهم زمام الأمور.
- تأرجحوا بين إبداء مظاهر الميل لكل من فرنسا وبريطانيا والدولة العثمانية وكان ذلك على حساب مصر واستقلالها.

(٢) ترتب على ذلك :

- إبداء ملنر استعداده للتفاوض مع الوفد المصرى.
- حدوث مفاوضات بين ملنر وسعد زغلول انتهت بمشروع معاهدة رفضها الشعب المصرى بجميع طوائف.

١٥ محافظة الفيوم

١

(أ) (١) (٣). (٢) (٥). (٣) (١).

(ب) الأوقيانوسية وآسيا.

(جـ) (١) القارة القطبية الجنوبية (أنتاركتيكا).
(٢) المدن الكبرى والمناطق الصناعية.

(د) (١) حيث يتميز كلاهما بالضيق، فالسهول الساحلية فى شرق أستراليا تضيق لاقتراب جبال الحاجز الكبير من المحيط الهادى وتضيق السهول الساحلية فى غرب أمريكا الجنوبية لاقتراب جبال الإنديز من المحيط الهادى.

(٢) حيث يسودهما إقليم المناخ المعتدل البارد شرق القارات (اللورانسى) الذى يتميز بالاعتدال صيفًا والبرودة شتاءً وسقوط الأمطار طوال العام.

٢

(أ) ترتب على ذلك نمو نباتات الطحالب سريعًا فى فصل ذوبان الجليد.

(ب) لأن الجنوب الشرقى لأفريقيا يقع ضمن إقليم المناخ المعتدل شرق القارات (الصينى) الذى يتعرض لعواصف مدارية مثل عواصف التيفون، بينما الشمال الغربى يقع ضمن إقليم مناخ البحر المتوسط.

(جـ) (١) أدى زيادة عدد السكان فى قارة آسيا إلى وجود هجرات غير شرعية فى معظمها إلى الدول المتقدمة مثل دول قارة أوروبا.

(٢) حيث توجد عادات وتقاليد فى بعض دول العالم تؤثر على معدل التعليم فيها خاصة الإناث مثل :
- بعض المناطق تحرم المرأة من التعليم حفاظًا عليها أو بسبب المعتقدات الخطأ.
- تفضيل الزواج المبكر للإناث.

(د) - شرق الهند (سلالة زنجية).
- الصين (سلالة مغولية).

(هـ) **العبارة صادقة** : لأن الأنهار الشمالية تصب فى المحيط القطبى الشمالى مما يؤدى إلى تجمدها وفقدان أهميتها الاقتصادية.

(و) **يترك للطالب حرية الإجابة فى ضوء :**
- التوعية بمخاطر الزيادة السكانية.
- عدم الزواج المبكر للإناث.
- نشر الوعى بأهمية برامج تنظيم الأسرة.

٣

(أ) (١) رياض باشا. (٢) الكشوف الجغرافية.

(ب) (١) القاهرة. (٢) يافا.

(جـ) (١) السلطان الغورى. (٢) محمد على.

(د) (١) **حيث أرسلت فرنسا حملة على مصر واحتلتها بسبب :**
- تعويض فرنسا عند فقدان مستعمراتها بإنشاء مستعمرة فرنسية فى الشرق تكون قاعدتها مصر.
- قطع الطريق بين إنجلترا ومستعمراتها فى الهند.

(٢) حيث قاطع الشعب المصرى البضائع الإنجليزية مما اضطر الحكومة البريطانية الإفراج عن سعد زغلول.

٤

(أ) - **فى عهد عباس باشا** : تم تخفيض حجم الجيش وعطلت أعمال الترسانة البحرية

- **فى عهد الخديو إسماعيل** : اهتم بتنظيم الجيش وتسليحه ومضاعفة قوته واهتم بنهضة التعليم البحرى.

(ب) **أجب بالرجوع إلى المفكرة ص ٩٥ ما النتائج.**

(جـ) لأن الخديو إسماعيل اعتمد فى علاقته بالسلطان العثمانى على تقديم المال والهدايا من أجل الحصول على الفرمانات التى يوسع بها نطاق حكمه مما أدى إلى زيادة الأزمة المالية فى مصر.

(د) (١) **حيث قام الاحتلال البريطانى بـ :**
- إلغاء مجلس النواب الذى انتخب عام ١٨٨١م.
- إنشاء مجالس صورية لا سلطة لها مثل : (مجلس الشورى القوانين - الجمعية العمومية - الجمعية التشريعية).

(٢) بعد اندلاع الحرب العالمية الثانية طلبت بريطانيا من الملك فاروق تعيين مصطفى النحاس بتشكيل حكومة جديدة فماطل الملك فاروق فقامت بريطانيا بحصار قصر عابدين ٤ فبراير ١٩٤٢م لإرغام الملك فاروق على مطلبها فوافق مضطرًا.

(هـ) **العبارة صادقة** : حيث اتسمت الحياة الفكرية والثقافية خلال فترة الحكم العثمانى بالجمود والتخلف بسبب العزلة التى فرضها العثمانيون على مصر.

(و) حيث قامت الحملة الفرنسية بفتح أسواقًا لمصر فى دارفور فى السودان والحبشة وبلاد شمال أفريقيا مما كان له أثر كبير على دعم العلاقات بين مصر وإفريقيا.

١٦ محافظة بنى سويف

١

(أ) (١) أطلس. (٢) السلالة القوقازية.
(٣) الإقليم المعتدل شرق القارات (الصينى).

(ب) (١)، (٢) **أجب بالرجوع إلى المفكرة ص ١٦ دلل.**
(٣) كلاهما فئة غير منتجة.

(جـ) (١) - **قارة آسيا : أهم الجزر بها :**
- جزر اليابان.
- جزر الفلبين.
- جزر إندونيسيا.

- قارة أوروبا : أهم الجزر بها :

♦ الجزر البريطانية. ♦ جزيرة آيسلندا.

(٢) أجب بالرجوع إلى المفكرة ص ٤٩ ماذا يحدث.

٢

(أ) (١) خطأ : يقل ... **(٢) صواب.**

(ب) (١) أجب بالرجوع إلى المفكرة ص ١٣ بم تفسر.

(٢) أجب بالرجوع إلى المفكرة ص ١٤ بم تفسر.

(٣) أجب بالرجوع إلى المفكرة ص ٤٤ بم تفسر.

(جـ) (١) أجب بالرجوع إلى المفكرة ص ٣٨ ما المقصود.

(٢) أجب بالرجوع إلى المفكرة ص ٤٧ دلل.

٣

(أ) (١) سعيد باشا. **(٢)** كبار الملاك والأعيان.

(٣) معاهدة ١٩٣٦م.

(ب) (١) أجب بالرجوع إلى المفكرة ص ٩٣ ما النتائج.

(٢) أجب بالرجوع إلى المفكرة ص ٩٧ ما النتائج.

(٣) ترتب على ذلك إهمال التعليم وأصبح بمصروفات مرتفعة وحصره فى فئة قليلة.

(جـ) (١) أجب بالرجوع إلى المفكرة ص ٥٣ ما المقصود.

(٢) أجب بالرجوع إلى المفكرة ص ٧٤ ما العلاقة.

٤

(أ) (١) خطأ : تدهورت دولة المماليك اقتصاديًا وعسكريًا ...

(٢) صواب.

(ب) (١) أجب بالرجوع إلى المفكرة ص ٧١ دلل.

(٢) حيث نجح محمد فريد فى إجبار الحكومة المصرية على دعوة مجلس شورى القوانين والجمعية العمومية لمناقشة طلب مد امتياز قناة السويس ٤٠ عامًا أخرى فأدى ذلك إلى رفض الحكومة المصرية طلب الشركة.

(٣) أجب بالرجوع إلى المفكرة ص ٨٦ أهم الجداول والمقارنات (الأسباب).

(جـ) (١) أجب بالرجوع إلى المفكرة ص ١٠١ دلل.

(٢) - الآثار الإيجابية :

♦ ضم محمد على جزيرة كريت لولاية مصر.

♦ علو مكانة مصر دوليًا نتيجة تفاوض الدول الأوروبية مع محمد على مباشرة لإنهاء الحرب دون الرجوع إلى السلطان العثمانى.

- الآثار السلبية :

♦ هزيمة الجيش المصرى وتحطيم الأسطول المصرى فى معركة نقارين عام ١٨٢٧م.

♦ توتر العلاقة بين محمد على والسلطان العثمانى.

١٧ محافظة المنيا

١

(أ) (١) مدار السرطان. **(٢)** آسيا.

(٣) المعتدل شرق القارات (الصينى).

(ب) ⓓ شتاء طويل وصيف قصير.

(جـ) خطأ : لأن البرازيل أكبر دول قارة أمريكا الجنوبية سكانًا ويمثل سكانها ٥٠ ٪ من سكان القارة.

(د) (١) أجب بالرجوع إلى المفكرة ص ٤٩ ماذا يحدث.

(٢) يترك للطالب حرية الإجابة فى ضوء :

لم يتأثر الإنسان بالبيئات المختلفة ويؤثر فيها وبالتالى لم تظهر اختلافات فى المظهر الخارجى للصفات الجسمية ولم تظهر السلالات البشرية.

٢

(أ) (١) لأنها من السلالات النقية التى لم تختلط بغيرها من السلالات مثل سكان غابات حوض الكونغو وصحراء كلهارى بأفريقيا وهى سلالة زنجية قصيرة القامة.

(٢) بسبب كثرة تعاريج السواحل والجزر فى قارة أوروبا.

(٣) أجب بالرجوع إلى المفكرة ص ٤٥ بم تفسر.

(٤) أجب بالرجوع إلى المفكرة ص ١٤ بم تفسر.

(ب) (١) يربط بين البحر الأحمر وخليج عدن وبالتالى المحيط الهندى مما يجعله يتحكم فى طرق الملاحة العالمية.

(٢) يفصل جزر إندونيسيا عن قارة أستراليا.

(جـ) (١)

سهل كلنشو	سهول نهر الكونغو
* من السهول الصحراوية الرملية ويوجد بدولة ليبيا.	* من السهول الفيضية التى تمتد فى غرب أفريقيا. * تنمو به الغابات الاستوائية ويقل به السكان.

(٢) أجب بالرجوع إلى المفكرة ص ٤٢ أهم الجداول والمقارنات.

٣

(أ) (١) محمد على. (٢) الآستانة.

(٣) المحاكم القنصلية. (٤) نلسون.

(ب) **خطأ** : لأن الذى تولى قيادة الحملة بعد سفر نابليون إلى فرنسا هو كليبر.

(جـ) (١) أجب بالرجوع إلى المفكرة ص ٨٤ أهم الجداول والمقارنات.

(٢) أجب بالرجوع إلى المفكرة ص ٥٨ أهم الجداول والمقارنات.

٤

(أ) (١) ترتب على ذلك تأليف وزارة برئاسة زيور باشا (رئيس مجلس الشيوخ) والتى قبلت بالمطالب البريطانية.

(٢) ترتب على ذلك تحطيم الأسطول المملوكى وتدهور الأحوال الاقتصادية لدولة المماليك.

(٣) ترتب على ذلك رفض الشعب المصرى التفاوض معها وقاطعها فأبدى ملنر استعداده للتفاوض مع الوفد المصرى.

(ب) (١) **حيث انقسم المجتمع المصرى إلى فئتين :**

- **فئة الحكام** : تكونت من الأتراك والمماليك وكانت لها كافة السلطات فى شئون الحكم والإدارة والجيش.
- **فئة المحكومين** : وانقسمت إلى طبقة وسطى محدودة تكونت من المشايخ وعلماء الأزهر ورجال الدين وكبار التجار وطبقة دنيا أكثرية تكونت من الفلاحين وصغار الحرفيين وعامة الناس وعانت من الفقر والظلم وتفشى الأمراض والأوبئة.

(٢) أجب بالرجوع إلى المفكرة ص ٩٨ دلل.

(٣) حيث استطاع الخديو إسماعيل التوسع فى الجنوب والسيطرة على مياه نهر النيل مما أدى إلى مد النفوذ المصرى إلى ساحل البحر الأحمر بكامله عام ١٨٧٥م.

(جـ) (١) بعد اندلاع الحرب العالمية الثانية طلبت بريطانيا من الملك فاروق بتعيين حكومة برئاسة مصطفى النحاس فى فبراير ١٩٤٢م فماطل الملك طلبهم فقامت بريطانيا بحصار قصر عابدين للضغط على الملك لتنفيذ مطلبها فوافق الملك مضطرًا وبعد ذلك تدخل فى السياسة الداخلية لمصر.

(٢) قامت الحملة الفرنسية بفتح أسواق لمصر فى بلاد البحر الأحمر ودارفور فى السودان والحبشة وبلاد شمال أفريقيا وكل ذلك تم بعد حصار إنجلترا لشواطئ مصر الشمالية.

١٨ محافظة أسيوط

١

(أ) (١) **أجب بالرجوع إلى المفكرة ص ٦٦ بم تفسر.**

(٢) تشجيعًا لهم على الإقامة والتجارة.

(٣) أجب بالرجوع إلى المفكرة ص ٦١ بم تفسر.

(ب) (١) **سبق إجابته.**

(٢) أجب بالرجوع إلى المفكرة ص ٩٥ ما النتائج.

(٣) أدى ذلك إلى تدخل بريطانيا وفرنسا وقيامهم بالضغط على السلطان العثمانى الذى أصدر فرمان بخلع (عزل) إسماعيل وتولية ابنه توفيق.

(جـ) (١) **يترك للطالب حرية الإجابة فى ضوء :**
- لم تهدد بريطانيا الملك فاروق بخلعه عن العرش.
- لم يؤلف مصطفى النحاس الوزارة.

(٢) أجب بالرجوع إلى المفكرة ص ٩٨ دلل.

٢

(أ) (١) الشام. (٢) عكا. (٣) نقارين.

(ب) مونترو.

(جـ) **خطأ، اتخذ الخديو توفيق سياسة أدت إلى زيادة التدخل الأجنبى فى شئون مصر ومنها :**
- إعادة نظام المراقبة الثنائية ورفض اللائحة الأساسية (الدستور) لمجلس النواب.
- وضع نفسه تحت حماية إنجلترا وفرنسا بإسناد الوزارة لرياض باشا.

(د) (١) حيث أخفقت القوات الفرنسية فى إخضاع أهالى الصعيد الذين اتبعوا حرب المناوشات والمعارك المتفرقة التى أنهكت قوة الفرنسيين نظرًا لطول الوادى وهذا أدى إلى تعاظم الشعور الوطنى والوعى القومى تجاه الاحتلال الفرنسى.

(٢) أجب بالرجوع إلى المفكرة ص ٧١ دلل.

٣

(أ) (١) المحيط الهادى. (٢) لبرادور.

(٣) السلالة المغولية.

(ب) **خطأ** : حيث يتركز السكان فى المناطق مرتفعة السطح فى الدول المدارية لاعتدال المناخ بسبب ارتفاع السطح كما فى أوغندا وكينيا.

(جـ) إندونيسيا.

(د) (١) **أجب بالرجوع إلى المفكرة ص ١٧ دلل.**

(٢) أجب بالرجوع إلى المفكرة ص ٤٧ دلل.

٤

(أ) (١) لأن تعرج السواحل يؤدى إلى سهولة إنشاء الموانئ بها.

(٢) بسبب :
- حرمان المرأة من التعليم فى بعض المناطق حفاظًا عليها أو بسبب المعتقدات الخطأ.
- تفضيل الزواج المبكر للإناث.

(٣) بسبب اقتراب الجبال من ساحل المحيط الهادى.

(ب) (١) حيث إن الدول ذات الدخل الاقتصادى المرتفع تعتمد على النشاط الصناعى بينما الدول ذات الدخل الاقتصادى المنخفض يسودها النشاط الزراعى.

(٢) حيث إن المناخ شديد البرودة فى سيبيريا وفنلندا يؤدى إلى قلة عدد السكان بهم.

(٣) أجب بالرجوع إلى المفكرة ص ١٧ ما العلاقة.

(جـ) (١) **أجب بالرجوع إلى المفكرة ص ٤٦ ما النتائج.**

(٢) أجب بالرجوع إلى المفكرة ص ١١ أهم الجداول والمقارنات (الخصائص النباتية).

الفهـــرس

الموضـــوع	الصفحة
مراجعـــة شـــهرية.	٣
تقييمات الشهر الأول.	٤
تقييمات الشهر الثانى.	١٣
تقييمات الشهر الثالث.	٢١
أسئـــلة عامة وامتحـــانات علـــى الوحـــدات.	٣١
أسئـــلة عامة على الوحدة الأولى.	٣٢
امتحـــان على الوحدة الأولى.	٤٦
أسئـــلة عامة على الوحدة الثانية.	٤٧
امتحـــان على الوحدة الثانية.	٥٩
امتحـــان علـــى الجغرافيـــا.	٦١
أسئـــلة عامة على الوحدة الثالثة.	٦٣
امتحـــان على الوحدة الثالثة.	٧٥
أسئـــلة عامة على الوحدة الرابعة.	٧٦
امتحـــان على الوحدة الرابعة.	٨٨
امتحـــان علـــى التاريـــخ.	٨٩
امتحـــانات نهاية الفصل الدراسى.	٩٠
إجابـــات أســـئلة كتاب الشـــرح.	١٤٦
إجابـــات أســـئلة كتاب المراجعة.	١٨٧

تصريح وزارة التربية والتعليم رقم ١٠٣ - ١١ - ١ - ١٨٠

2026

الدراسات الاجتماعية

المفكرة



الامتحان

الصف الثالث الإعدادى

الفصل الدراسى الأول

محتويات المفكرة



مراجعة على كل وحدة.



الوحدة
الأولى

الجغرافيا الطبيعية للعالم

- أهم الجداول والمقارنات ...
- ما المقصود بـ ...
- بم تفسر ...
- ما النتائج المترتبة على ...
- دلل ...
- ما العلاقة بين ...
- ماذا يحدث إذا ...
- الموقع الفلكى والجغرافى لقارات العالم ...
- أهم الخرائط ...

أهم الجـداول والمقارنات ...

١	قـارة آسيـا	قـارة أفريقيا	قـارة أوروبا
الموقع الفلكى: بين دائرتى عرض	٨١° شمالًا، ١٠° جنوبًا	٣٧ َ٣٠° شمالًا، ٣٤ َ٣٠° جنوبًا	٣٦°، ٧١° شمالًا
الموقع الفلكى: بين خطى طول	٢٦° شرقًا، ١٧٠° غربًا	٥١° شرقًا، ١٧° غربًا	٦٦° شرقًا، ٢٥° غربًا (غرب آيسلندا)
الموقع الجغرافى	* شمالًا: المحيط القطبى الشمالى. * شرقًا: المحيـط الهـادى. * جنوبًا: المحيـط الهنـدى. * غربًا: • قـارة أوروبـا. • البحـر المتوسـط. • البحـر الأحمـر.	* شمالًا: البحـر المتوسـط (يفصلها عن قارة أوروبا). * شرقًا: • المحيـط الهنـدى. • البحـر الأحمـر (يفصلها عن آسيـا). * غربًا: المحيـط الأطلنطى.	* شمالًا: المحيط القطبى الشمالى. * شرقًا: قارة آسيا. * جنوبًا: البحـر المتوسـط. * غربًا: المحيـط الأطلنطى.

٢	قـارة أمريكا الشمالية	قـارة أمريكا الجنوبية	قارة أستراليا (الأوقيانوسية)
الموقع الفلكى: بين دائرتى عرض	٨٣° ٣٠َ، ٧° شمالًا	١٢° شمالًا، ٥٦° جنوبًا	١٠°، ٤٤° جنوبًا
الموقع الفلكى: بين خطى طول	١٦٨°، ١٠° غربًا	٨١°، ٣٥° غربًا	١١٣°، ١٧٨° شرقًا
الموقع الجغرافى	* شمالًا: المحيط القطبى الشمالى. * شرقًا: المحيـط الأطلنطى. * الجنـوب الشرقـى: • خليـج المكسيك. • البحـر الكاريبى. * غربًا: المحيط الهادى.	* شمالًا: البحـر الكاريبـى. * شرقًا: المحيـط الأطلنطى. * غربًا: المحيـط الهـادى.	* شمالًا: بحر آرافورا (يفصلها عن جـزر إندونيسـيا بقـارة آسيا). * شرقًا: المحيـط الهـادى. * جنوبًا وغربًا: المحيـط الهنـدى.

٣	قارة آسيا	قارة أفريقيا	قارة أوروبا
الجبال	* جبال طوروس : في تركيا. * جبال زاجروس : في العراق وإيران. (غرب القارة) * جبال الهيمالايا : أعلى جبال العالم وبها قمة إفرست *(أعلى قمة جبلية فى العالم)* وتوجد *وسط القارة.* * جبال اليابان : توجد شرق القارة.	* جبال أطلس : أقصى شمال غرب القارة، وهى سلاسل جبلية تحصر بينها هضبة الشطوط. * جبال البحر الأحمر : شمال شرق القارة فى مصر والسودان وأريتريا. * جبل كينيا وجبل كلمنجارو : شرق القارة. * جبال دراكنزبرج : أقصى جنوب شرق القارة.	* جبال الألب : تمتد من الغرب إلى الشرق وسط القارة، وتأخذ مسميات مختلفة من دولة لأخرى حيث تعرف بـ : • جبال الألب الدينارية : فى شبه جزيرة البلقان. • جبال البرانس : فى شمال إسبانيا.
الهضاب	* هضبة التبت : أكبر هضاب وسط القارة (أعلى هضاب العالم). * هضبة الدكن : جنوب القارة فى وسط الهند. * هضبة شبه الجزيرة العربية : جنوب غرب القارة.	* هضاب الصحراء الكبرى شمال القارة، ومنها : هضبتى الصحراء الشرقية والغربية : فى مصر. * هضبة البحيرات الاستوائية : وسط القارة. * هضبة إثيوبيا (الحبشة) : شرق القارة. * هضبة جنوب أفريقيا : جنوب القارة ويجرى بها نهرا أورانج ولمبوبو.	* تمتد فى وسط القارة من الشرق إلى الغرب وتقطعها أودية نهرية، ومن أهم الهضاب : • هضبة الميزيتا : تشغل معظم إسبانيا. • هضبة فرنسا الوسطى : تقطعها أنهار مهمة، مثل : نهر السين.

السهول	(١) سهول ساحلية : * تمتد على طول سواحل البحار والمحيطات المحيطة بالقارة، أو متفرقة داخل القارة، مثل : سواحل بحر قزوين. (٢) سهول فيضية منها : * السهول الشمالية : تتمثل فى سهول سيبيريا، وتجرى فيها أنهار: • أوب. • ينسى. • لينا. * السهول الشرقية منها : • سهول شرق الصين. • سهول منشوريا. * سهول نهرى دجلة والفرات. * سهول نهر السند.	(١) سهول ساحلية : * تمتد على طول سواحل البحار والمحيطات التى تحيط بالقارة وتتميز بالضيق وتتسع عند مصبات الأنهار. (٢) سهول فيضية : * سهول حوض نهر النيل. * سهول حوض نهر النيجر. * سهول حوض نهر الكونغو. (٣) سهول صحراوية رملية تنتشر فى : * الصحراء الكبرى، وهى سهول متسعة، مثل السهل الممتد بين مصر وليبيا ويعرف بـ: • سهل كلنشو فى ليبيا. • بحر الرمال العظيم فى مصر. * سهول صحراء كلهارى فى جنوب القارة.	(١) سهول ساحلية : * سهول متسعة متعرجة تمتد على : • المحيط الأطلنطى والبحر البلطى وبحر الشمال فى الغرب والشمال الغربى. • البحر المتوسط فى الجنوب. (٢) سهول فيضية : * السهل الأوروبى العظيم : • يمتد من المحيط الأطلنطى غربًا حتى جبال الأورال شرقًا. • سهول ذات تربة جيدة كونتها الأنهار. • توجد به المدن الأوروبية الرئيسية، مثل : باريس وبرلين.
الأنهار	* أنهار أوب وينسى ولينا : تنبع من الجنوب للشمال وتصب فى المحيط القطبى الشمالى وتتجمد فى الشتاء. * نهر اليانجتسى. * نهرا دجلة والفرات : يصبان فى الخليج العربى. * نهر السند : يصب فى (البحر العربى) المحيط الهندى.	* نهر النيل : يجرى فى مصر وجمهورية السودان وجمهورية جنوب السودان ويصب فى البحر المتوسط. * نهر النيجر : يصب فى خليج غينيا. * نهر الكونغو : يصب فى المحيط الأطلنطى.	* نهر الفولجا : أطول أنهار أوروبا ويصب فى بحر قزوين. * نهر الراين : يصب فى بحر الشمال. * نهر الدانوب : يصب فى البحر الأسود.

٤	قارة أمريكا الشمالية	قارة أمريكا الجنوبية	قارة أستراليا (الأوقيانوسية)
الجبال	* سلاسل جبال الأبلاش : شرق القارة. * سلاسل جبال روكى : غرب القارة، (أعلى جبال القارة) ويغطى قممها الجليد فى فصل الشتاء.	* سلاسل جبال الإنديز : سلاسل جبلية مرتفعة غرب القارة، وتوجد قرب سواحل المحيط الهادى وتمتد من الشمال حتى الأطراف الجنوبية للقارة.	* جبال الحاجز الكبير (جبال الألب الأسترالية) : • تمتد على طول الساحل الشرقى للقارة فى شكل قوس وتتميز بارتفاعها. • تنقسم إلى مجموعتين : - الحاجز الكبير فى الجنوب . - الحاجز الكبير فى الشمال الشرقى. • تقطعها بعض الأنهار.
الهضاب	* هضبة المكسيك : جنوب القارة. * هضبة لبرادور : شمال شرق القارة.	* هضبة جيانا : شمال القارة. * هضبة البرازيل : شرق القارة، (أكبر هضاب القارة وأكثرها ارتفاعًا). * هضبة بتاجونيا : جنوب القارة، (أصغر هضاب القارة مساحة).	* الهضبة الغربية : • تشغل نصف مساحة القارة. • يتميز معظم سطحها بالاستواء.
السهول	(١) سهول ساحلية ، تمتد على : * المحيط الأطلنطى فى الشرق وخليج المكسيك فى الجنوب الشرقى. * خليج هدسن فى الشمال الشرقى. * المحيط الهادى فى الغرب وهى سهول ضيقة.	(١) سهول ساحلية ، تمتد على : * المحيط الهادى فى الغرب وتتميز بالضيق. * المحيط الأطلنطى فى الشرق والشمال وتتميز بالاتساع.	(١) سهول ساحلية : تتسع فى الشمال والغرب والجنوب وتضيق فى الشرق.

تابع... السهول	(٢) سهول فيضية : تتمثل فى السهول الوسطى وتتعدد خصائصها حيث : * تمتد من المحيط القطبى الشمالى شمالًا إلى خليج المكسيك جنوبًا. * تتسع بوسط القارة إلى الشرق من جبال روكى. * يغطى الجليد أطرافها الشمالية. * يوجد بها البحيرات العظمى.	(٢) سهول فيضية : * سهول نهر الأورينوكو: فى الشمال. * سهول نهر الأمازون : أوسع سهول فيضية فى العالم. * سهول لابلاتا (البمباس) : تمتد من الشمال إلى الجنوب ويجرى بها أنهار بارانا وباراجواى ولابلاتا.	(٢) سهول فيضية : * سهول متسعة يجرى بها نهرا مرى ودارلنج. * سهول زراعية وبها الكثير من المدن المهمة. (٣) سهول صحراوية : توجد فى داخل وغرب القارة وهى صحارى رملية تقل بها موارد المياه.
الأنهار	* نهر نلسن : شمال شرق القارة ويصب فى خليج هدسن. * نهر سانت لورانس : شمال شرق القارة ويصب فى خليج سانت لورانس. * نهر المسيسبى : جنوب القارة ويصب فى خليج المكسيك.	* نهر الأورينوكو : يصب فى (البحر الكاريبى) المحيط الأطلنطى. * نهر الأمازون : يصب فى المحيط الأطلنطى. * أنهار بارانا وباراجواى ولابلاتا : تصب فى المحيط الأطلنطى.	* نهرا مرى ودارلنج : يصبان فى الخليج الأسترالى الكبير.

٥ الأقاليم المناخية الحارة

	إقليم المناخ الاستوائى وشبه الاستوائى	إقليم المناخ المدارى الحار (السودانى)	إقليم المناخ الموسمى
الموقع	* يقع فى المناطق القريبة من دائرة الاستواء (من صفر° : ١٠° شمالًا وجنوبًا). * يظهر فى : • آسيا : كما فى جزر إندونيسيا. • أفريقيا : كما فى حوض الكونغو. • أمريكا الجنوبية : كما فى حوض الأمازون.	* من (١٠° : ١٨° شمالًا وجنوبًا). * يظهر فى : • آسيا : جنوبها الغربى. • أفريقيا • أمريكا الجنوبية (شمال وجنوب الإقليم الاستوائى). • أمريكا الشمالية : بعض الأجزاء الجنوبية. • أستراليا : شمالها.	* يظهر فى : • آسيا : الهند، وشبه جزيرة الهند الصينية (جنوب الصين). • أستراليا : أقصى شمالها. • أفريقيا : - هضبة إثيوبيا. - جزيرة مدغشقر.
الخصائص المناخية	* حرارة مرتفعة طوال العام. * أمطار تسقط طوال العام.	* حرارة مرتفعة صيفًا. * أمطار تسقط صيفًا ويسود الجفاف شتاءً.	* حرارة مرتفعة صيفًا. * أمطار غزيرة صيفًا ويسود الجفاف شتاءً.
النبات الطبيعى الذى ينموفيه (الخصائص النباتية)	* غابات استوائية أشجارها كثيفة ومتشابكة وأهمها : الماهوجنى والمطاط، وتكثر بها الزواحف والطيور والحيوانات المتسلقة.	* أشجار أقل كثافة وتشابكًا من أشجار الغابات الاستوائية. * حشائش الساڤانا.	* غابات موسمية من أهم أشجارها : جوز الهند. * حشائش الساڤانا.

٦ الأقاليم المناخية المعتدلة الدفيئة

	إقليم مناخ البحر المتوسط	الإقليم المناخى المعتدل شرق القارات (الصينى)
الموقع	* يقع فى العروض المعتدلة غرب معظم القارات (من ٣٠° : ٤٥° شمالًا وجنوبًا). * يظهر فى : • آسيا : سواحل الشام وتركيا. • أفريقيا : سواحل دول المغرب العربى. • أوروبا : السواحل المطلة على البحر المتوسط. • أمريكا الشمالية : فى الغرب بولاية كاليفورنيا. • أمريكا الجنوبية : الساحل الأوسط فى شيلى. • أستراليا : جنوبها الغربى.	* يقع فى العروض المعتدلة شرق القارات (من ٣٠° : ٤٥° شمالًا وجنوبًا). * يظهر فى : • آسيا : شرق الصين. • أفريقيا • أمريكا الشمالية • أمريكا الجنوبية • أستراليا جنوبها الشرقى.
الخصائص المناخية	* حار صيفًا ودفىء شتاءً. * أمطار تسقط شتاءً ويسود الجفاف صيفًا.	* حرارة مرتفعة صيفًا ومنخفضة شتاءً. * أمطار طوال العام وتزداد صيفًا. * يتعرض أحيانًا لعواصف مدارية مثل : عواصف التيفون.
النبات الطبيعى الذى ينمو فيه (الخصائص النباتية)	* غابات البحر المتوسط «أشجار دائمة الخضرة»، وأهم أشجارها : الزيتون. * حشائش الإستبس : • تنمو بالقرب من غابات البحر المتوسط. • تستغل كمراع طبيعية. • تعرف بـ «حشائش البرارى» فى أمريكا الشمالية.	* غابات الإقليم الصينى «أشجار دائمة الخضرة»، وأهم أشجارها : الصفصاف والبلوط. * حشائش الإستبس : تنمو بالقرب من غابات الإقليم الصينى.

٧ الأقاليم المناخية المعتدلة الباردة

	إقليم مناخ غرب أوروبا	إقليم المناخ المعتدل البارد شرق القارات (اللورانسى)
الموقع	* (من ٤٥° : ٦٠° شمالًا وجنوبًا)، غرب القارات. * يظهر فى : • أوروبا (شمالها الغربى) • أمريكا الشمالية (شمالها الغربى) • أمريكا الجنوبية : أقصى جنوبها الغربى.	* (من ٤٥° : ٦٠° شمالًا)، شرق القارات. * يظهر فى : • آسيا : شمال شرق الصين وشمال اليابان. • أمريكا الشمالية : شمالها الشرقى.
الخصائص المناخية	* دفىء صيفًا وبارد شتاءً. * أمطار تسقط طوال العام وتزداد فى فصلى الشتاء والخريف.	* معتدل صيفًا وبارد شتاءً. * أمطار تسقط طوال العام وخاصةً صيفًا.
النبات الطبيعى الذى ينمو فيه (الخصائص النباتية)	* غابات نفضية، وأهم أشجارها : الزان.	* غابات مخروطية : • أهم أشجارها : الصنوبر والشربين. • يعيش بها : حيوانات ذات فراء كثيف مثل الدب القطبى.

٨ الأقاليم المناخية الباردة

	إقليم مناخ التندرا	الإقليم المناخى الجبلى
الموقع	يقع فيما وراء الدائرتين القطبيتين ٦٠° شمالًا وجنوبًا. * يسود فى المناطق القطبية المتجمدة فى : • آسيا : فى الأجزاء القطبية وشمال سيبيريا. • أوروبا : شمالها. • أمريكا الشمالية : فى شمال كندا. • أمريكا الجنوبية : فى بعض جزر المحيط القطبى الجنوبى. • القارة القطبية الجنوبية *(أنتاركتيكا)* : يسودها كلها.	* يشغل القمم والمنحدرات العليا للمناطق الجبلية فى قارات العالم.
الخصائص المناخية	* شديد البرودة مع شتاء طويل وصيف قصير. * أمطار قليلة تسقط صيفًا وتتساقط الثلوج شتاءً.	* شديد البرودة وكثيرًا ما تغطى القمم الجبلية بالجليد طوال العام مثل قمم جبال الهيمالايا فى آسيا.
النبات الطبيعى الذى ينمو فيه (الخصائص النباتية)	* طحالب تنمو سريعًا فى فصل ذوبان الجليد، ويعيش بها حيوان الرنة.	* تتنوع الحياة النباتية طبقًا لارتفاع السطح وكمية المطر.

ما المقصود بـ ...

موقع فلكى	موقع المكان بالنسبة لخطوط الطول ودوائر العرض.
موقع جغرافى	موقع المكان بالنسبة للأماكن الأخرى من بحار ومحيطات وقارات أو دول مجاورة.
دول جزرية	الدول التى تتكون من جزيرة أو أكثر أو قد تكون جزءًا من جزيرة.
حوض النهر	الأرض التى يجرى فيها النهر أو أحد روافده أو تنحدر مياهه إليه.
إقليم مناخى	منطقة محددة على سطح الأرض لها خصائص مناخية معينة من حيث الحرارة والرياح والأمطار وغيرها من عناصر المناخ.

بم تفسر ...

١ تعتبر قارة أستراليا جزيرة كبيرة.

لأن المياه تحيط بها من جميع الجهات فمن الشمال (بحر آرافورا) ومن الشرق (المحيط الهادى)، ومن الغرب والجنوب (المحيط الهندى).

---

٢ تُعرف هضبة التبت بسقف العالم.

بسبب ارتفاعها عن قمم الجبال.

---

٣ * تفقد أنهار أوب وينسى ولينا أهميتها الاقتصادية فى فصل الشتاء.

* قلة أهمية أنهار شمال آسيا شتاءً.

لأنها تتجمد فى فصل الشتاء.

---

٤ أهمية هضبتى الحبشة (إثيوبيا) والبحيرات الاستوائية لمصر.

لأن روافد نهر النيل تنبع منهما.

---

٥ ضيق السهول الساحلية لقارة أفريقيا.

بسبب اقتراب حافات الجبال والهضاب من الساحل.

---

٦ ضيق السهول الساحلية غرب قارة أمريكا الجنوبية.

بسبب اقتراب جبال الإنديز من ساحل المحيط الهادى.

---

٧ ضيق السهول الساحلية الشرقية لقارة أستراليا.

بسبب اقتراب جبال الحاجز الكبير من ساحل المحيط الهادى.

---

٨ الأهمية الاقتصادية للسهول الفيضية.

لأنها تتكون من رواسب طينية كونتها الأنهار تمثل تربة جيدة صالحة للزراعة.

---

٩ يختلف المناخ داخل القارة الواحدة من منطقة لأخرى.

بسبب عدة عوامل مؤثرة فى مناخ القارة وأهمها، الموقع الفلكى، والموقع الجغرافى، والتضاريس.

١٠ تميز حوض الأمازون بارتفاع درجة الحرارة وسقوط الأمطار طوال العام.

لأن حوض الأمازون يقع فى نطاق إقليم المناخ الاستوائى وشبه الاستوائى الذى يتميز بارتفاع درجة الحرارة وسقوط الأمطار طوال العام.

---

١١ نمو الغابات الموسمية فى شبه جزيرة الهند الصينية (جنوب الصين) وجزيرة مدغشقر.

لأن شبه جزيرة الهند الصينية وجزيرة مدغشقر تقعان فى نطاق إقليم المناخ الموسمى والذى يتميز بسقوط أمطار غزيرة صيفًا، مما يساعد على نمو الغابات الموسمية.

---

١٢ تتدرج حشائش السافانا فى أطوالها كلما ابتعدنا عن دائرة الاستواء.

لأنه كلما ابتعدنا عن دائرة الاستواء شمالًا أو جنوبًا تقل كمية الأمطار وبالتالى تقل أطوال حشائش السافانا.

---

١٣ تعتبر حشائش السافانا حديقة حيوان طبيعية.

لأن يعيش بها أنواع عديدة من الحيوانات، منها حيوانات آكلة العشب وأخرى آكلة اللحوم.

---

١٤ تُسمى الغابات النفضية بهذا الاسم.

لأن أشجارها تنفض أوراقها فى فصل الشتاء لشدة البرودة.

---

١٥ تنوع الحياة النباتية فى إقليم المناخ الجبلى.

يرجع ذلك إلى ارتفاع السطح وكمية المطر.

---

١٦ * تُعد قارة آسيا أكثر القارات تنوعًا فى مناخها.

* امتداد معظم الأقاليم المناخية فى قارة آسيا.

بسبب مساحتها الكبيرة وامتدادها فى عدد كبير من دوائر العرض.

ما النتائج المترتبة على ...

١ كثرة تعاريج السواحل والجزر فى قارة أوروبا.

ترتب على ذلك إنشاء الموانئ بها.

---

٢ وقوع قارة أنتاركتيكا أقصى جنوب الكرة الأرضية.

ترتب على ذلك أن أصبحت قارة متجمدة وغير مأهولة بالسكان.

---

٣ اقتراب جبال الإنديز من ساحل المحيط الهادى.

ترتب على ذلك ضيق السهول الساحلية فى غرب قارة أمريكا الجنوبية.

---

٤ ارتفاع درجة الحرارة وسقوط الأمطار طوال العام فى حوض الكونغو.

أدى ذلك إلى نمو الغابات الاستوائية ذات الأشجار الكثيفة والمتشابكة مثل الماهوجنى والمطاط.

دلل ...

١ تتميز قارة آسيا بكثرة الجزر.

حيث يوجد بها الكثير من الجزر القريبة من سواحلها مثل : جزر اليابان والفلبين.

---

٢ تمتلك قارة آسيا سهول ساحلية داخلية.

حيث يوجد بقارة آسيا سواحل داخلية على بحر قزوين.

---

٣ توجد بقارة آسيا ظواهر تضاريسية تميزها عن غيرها من القارات.

حيث يوجد بها :

- أعلى جبال العالم ومنها سلسلة جبال الهيمالايا التى بها أعلى قمة جبلية فى العالم وهى قمة إفرست.
- أعلى هضاب العالم وهى هضبة التبت والتى تعرف بسقف العالم.
- أكبر بحر مغلق فى العالم وهو بحر قزوين.

٤ توجد دول جزرية فى قارتى أفريقيا وآسيا.

حيث يوجد بـ :

- قارة أفريقيا، دول جزرية مثل مدغشقر وجزر القمر.
- قارة آسيا، دول جزرية مثل اليابان والفلبين وإندونيسيا.

---

٥ أهمية السهل الأوروبى العظيم.

حيث :

- يتكون معظمه من رواسب طينية تمثل تربة جيدة صالحة للزراعة كونتها الأنهار.
- يوجد به المدن الأوروبية الرئيسية، مثل : باريس وبرلين.

---

٦ تتشابه التضاريس فى قارتى أمريكا الشمالية وأمريكا الجنوبية.

حيث :

- وجود جبال تمتد من الشمال إلى الجنوب فى غرب القارتين.
- تمتد السهول الفيضية فى وسط القارتين.
- تضيق السهول الساحلية فى غرب القارتين لإقتراب الجبال من الساحل.

---

٧ تتشابه تضاريس كل من قارة أفريقيا وقارة أستراليا.

حيث يسودهما المظهر الهضبى؛ فتشغل الهضاب مساحات واسعة من قارة أفريقيا وتشغل الهضبة الغربية نصف مساحة قارة أستراليا.

---

٨ يتشابه الإقليم المدارى الحار (السودانى) مع الإقليم الموسمى.

حيث :

- ينتمى كل منهما إلى الأقاليم المناخية الحارة.
- يتشابهان فى الخصائص المناخية فى الصيف الحار الممطر والشتاء الجاف.
- يتشابهان فى الخصائص النباتية فى نمو حشائش الساڤانا.

٩ اختلاف إقليم المناخ الصينى عن إقليم مناخ البحر المتوسط رغم وقوعهما فى نفس دوائر العرض.

حيث :

- يقع الإقليم الصينى شرق القارات، بينما يقع إقليم البحر المتوسط غرب معظم القارات.
- الإقليم الصينى ممطر طوال العام وتزداد الأمطار صيفًا، بينما إقليم البحر المتوسط ممطر شتاءً ويسود الجفاف صيفًا.
- تنمو فى إقليم المناخ الصينى غابات الإقليم الصينى ومن أهم أشجارها البلوط والصفصاف، بينما تنمو فى إقليم مناخ البحر المتوسط غابات البحر المتوسط ومن أهم أشجارها الزيتون.

---

١٠ لمنطقة البرارى بأمريكا الشمالية أهمية اقتصادية.

حيث تستغل حشائش الإستبس (البرارى) كمراعٍ طبيعية.

---

١١ يتشابه المناخ المعتدل البارد شرق القارات (اللورانسى) مع مناخ غرب أوروبا.

حيث :

- ينتمى كل منهما إلى الأقاليم المناخية المعتدلة الباردة.
- يتشابهان فى الخصائص المناخية فى سقوط الأمطار طوال العام، والشتاء البارد.

ما العلاقة بين ...

١ المناخ، والأهمية الاقتصادية لسهول سيبيريا.

حيث تتجمد أنهار سهول سيبيريا (مثل أوب وينسى ولينا) فى فصل الشتاء لذلك تقل أهميتها الاقتصادية.

---

٢ هضاب وسط وشرق أفريقيا، ونهر النيل بمصر.

حيث تنبع روافد نهر النيل من هضبة البحيرات الاستوائية وسط القارة وهضبة الحبشة شرق القارة.

---

٣ الخصائص النباتية للغابات الاستوائية، والحيوانات التى تعيش بها.

أثر تشابك وكثافة الغابات الاستوائية على أنواع الحيوانات التى تعيش فيها، حيث يعيش بها الزواحف والحيوانات المتسلقة والطيور.

٤ ارتفاع السطح، والحياة النباتية للإقليم الجبلى.

تتنوع الحياة النباتية للإقليم الجبلى طبقًا لارتفاع السطح وكمية المطر.

ماذا يحدث إذا ...

١ أصبحت سواحل قارة أفريقيا مثل سواحل قارة أوروبا.

لأصبحت السهول الساحلية بقارة أفريقيا متسعة ومتعرجة مما يؤدى إلى كثرة الموانئ بها.

٢ كان الحد الفاصل بين آسيا وأوروبا بحريًا بالنسبة للمناخ.

سوف يظهر مناخ غرب أوروبا فى شمال غرب قارة آسيا كما سيظهر المناخ المعتدل البارد شرق القارات (اللورانسى) فى شمال شرق أوروبا.

٣ أصبح مناخ مصر ضمن المناخ المعتدل شرق القارات (الصينى).

سوف يؤدى ذلك إلى :

- سقوط الأمطار طوال العام على مصر.
- تعرض مصر لعواصف مدارية مثل عواصف التيفون.



آسيا

بين دائرتى عرض ٨١° شمالًا، ١٠° جنوبًا، خطى طول ٢٦° شرقًا، ١٧٠° غربًا.



أمريكا الشمالية

بين دائرتى عرض ٧° ٣٠، ٨٣° شمالًا، خطى طول ١٠°، ١٦٨° غربًا.



أفريقيا

بين دائرتى عرض ٣٠° ٣٧ شمالًا، ٣٤° ٣٠ جنوبًا، خطى طول ٥١° شرقًا، ١٧° غربًا.



أمريكا الجنوبية

بين دائرتى عرض ١٢° شمالًا، ٥٦° جنوبًا، خطى طول ٣٥°، ٨١° غربًا.



أوروبا

بين دائرتى عرض ٣٦°، ٧١° شمالًا، خطى طول ٦٦° شرقًا، ٢٥° غربًا.



أستراليا

بين دائرتى عرض ١٠°، ٤٤° جنوبًا، خطى طول ١١٣°، ١٧٨° شرقًا.



القارة القطبية الجنوبية

* تمر بأطرافها الدائرة القطبية الجنوبية ٦٦,٥° جنوبًا وتمتد حول القطب الجنوبى ٩٠° جنوبًا.
* تمتد أقصى جنوب الكرة الأرضية ويحيط بها المحيط القطبى الجنوبى من جميع الجهات.

أهم الخرائط ...

١ العالم (اليابس والماء)

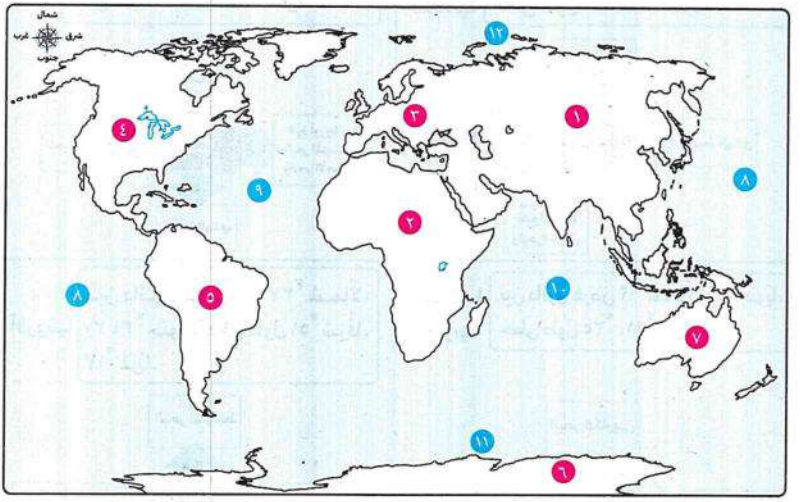

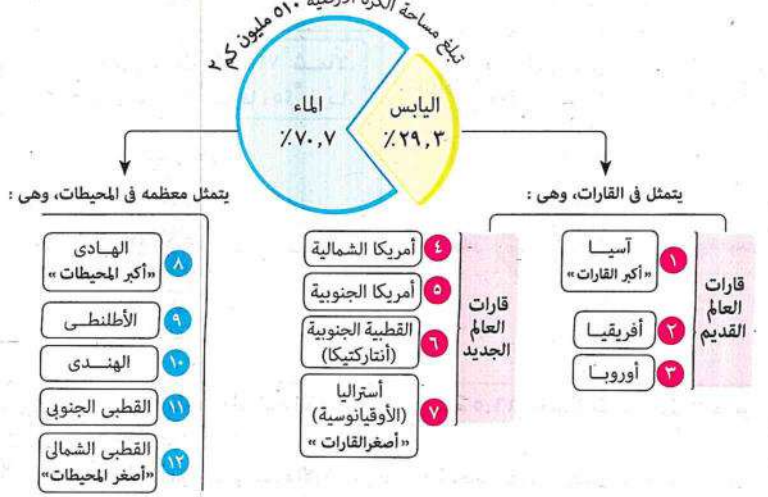

٢ العالم (بحار - مضايق - خلجان)

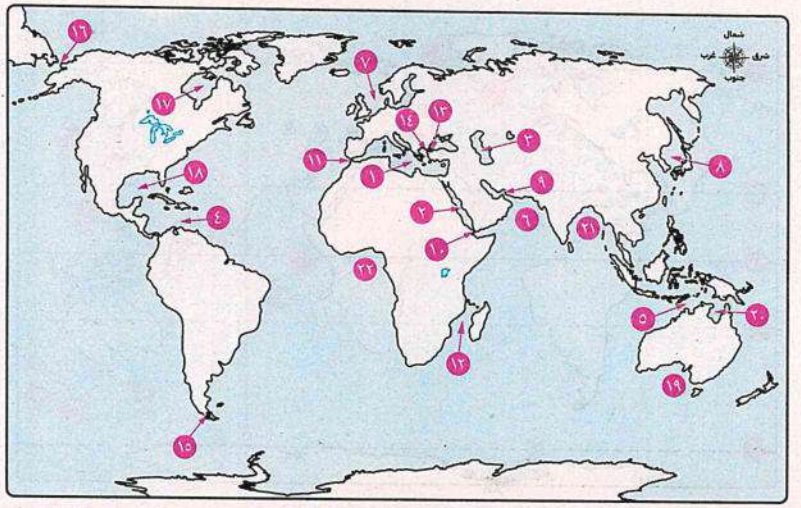

١ البحر : المتوسط. (يفصل بين قارتى أفريقيا وأوروبا)

٢ البحر : الأحمر. (يفصل بين قارتى آسيا وأفريقيا)

٣ بحر : قزوين.

٤ البحر : الكاريبى.

٥ بحر : آرافورا.

٦ البحر : العربى.

٧ بحر : الشمال.

٨ بحر : اليابان.

٩ مضيق : هرمز.

١٠ مضيق : باب المندب. (تقترب عنده قارة آسيا من قارة أفريقيا)

١١ مضيق : جبل طارق.

١٢ مضيق : موزمبيق.

١٣ مضيق : البسفور.

١٤ مضيق : الدردنيل.

١٥ مضيق : ماجلان.

١٦ مضيق : بيرنج. (تقترب عنده قارة آسيا من قارة أمريكا الشمالية)

١٧ خليج : هدسن.

١٨ خليج : المكسيك.

١٩ الخليج : الأسترالى الكبير.

٢٠ خليج : كاربنتاريا.

٢١ خليج : البنغال.

٢٢ خليج : غينيا.

٣ العالم (دوائر العرض الرئيسية - جزر - أشباه جزر)

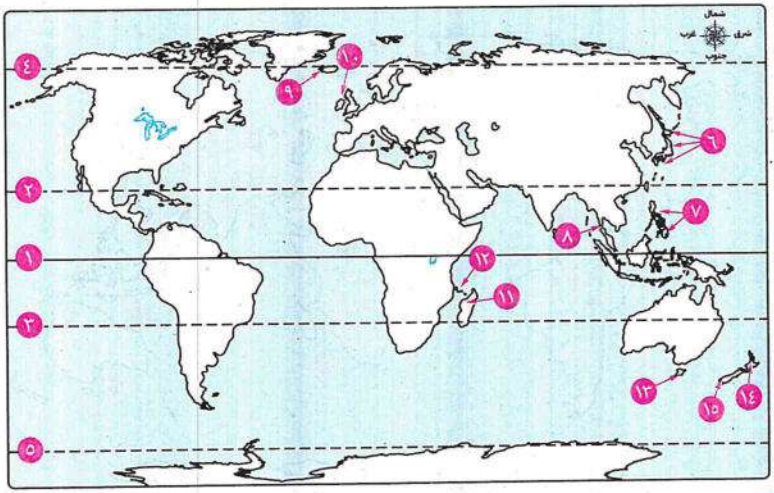

١ دائرة : الاستواء.

٢ مدار : السرطان.

٣ مدار : الجدى.

٤ الدائرة : القطبية الشمالية.

٥ الدائرة : القطبية الجنوبية.

٦ جزر : اليابان

٧ جزر : الفلبين

٨ شبه جزيرة : الملايو

(بقارة آسيا).

٩ جزيرة : آيسلندا

١٠ الجزر : البريطانية

(بقارة أوروبا).

١١ جزيرة : مدغشقر

١٢ جزر : القمر

(بقارة أفريقيا).

١٣ جزيرة : تسمانيا

١٤ جزيرة : نيوزيلندا الشمالية

١٥ جزيرة : نيوزيلندا الجنوبية

(بقارة أستراليا).

٤ العالم (أقاليم مناخية)

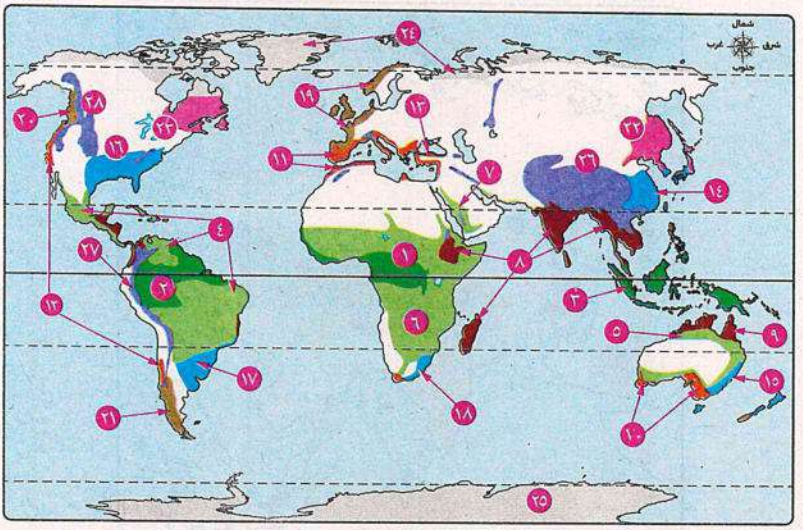

- الإقليم الاستوائى وشبه الاستوائى ١ ، ٢ ، ٣
- الإقليم المدارى الحار (السودانى) ٤ ، ٥ ، ٦ ، ٧
- الإقليم الموسمى ٨ ، ٩
- إقليم البحر المتوسط ١٠ ، ١١ ، ١٢ ، ١٣
- الإقليم المعتدل شرق القارات (الصينى) ١٤ ، ١٥ ، ١٦ ، ١٧ ، ١٨
- إقليم غرب أوروبا ١٩ ، ٢٠ ، ٢١
- الإقليم المعتدل البارد شرق القارات (اللورانسى) ٢٢ ، ٢٣
- إقليم التندرا ٢٤ ، ٢٥
- الإقليم الجبلى ٢٦ ، ٢٧ ، ٢٨

٥ أهم تضاريس قارة آسيا

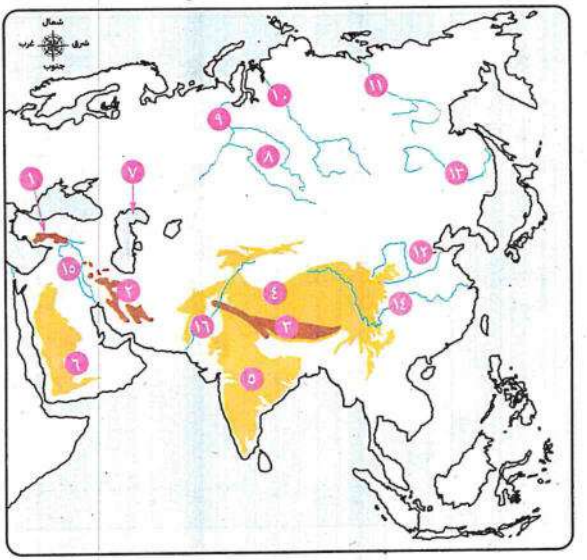

* الجبال : ١ جبال طوروس. ٢ جبال زاجروس.
٣ جبال الهيمالايا (أعلى جبال العالم).

* الهضاب : ٤ هضبة التبت. ٥ هضبة الدكن.
٦ هضبة شبه الجزيرة العربية.

* السهول :

• سهول ساحلية : مثل سواحل ٧ بحر قزوين.

• سهول فيضية :

٨ سهول سيبيريا ويجرى فيها :
٩ نهر أوب. ١٠ نهر ينسى. ١١ نهر لينا.
١٢ سهول شرق الصين. ١٣ سهل منشوريا.

* الأنهار :
١٤ نهر اليانجتسى. ١٥ نهرا دجلة والفرات. ١٦ نهر السند.

٦ الأقاليم المناخية فى قارة آسيا

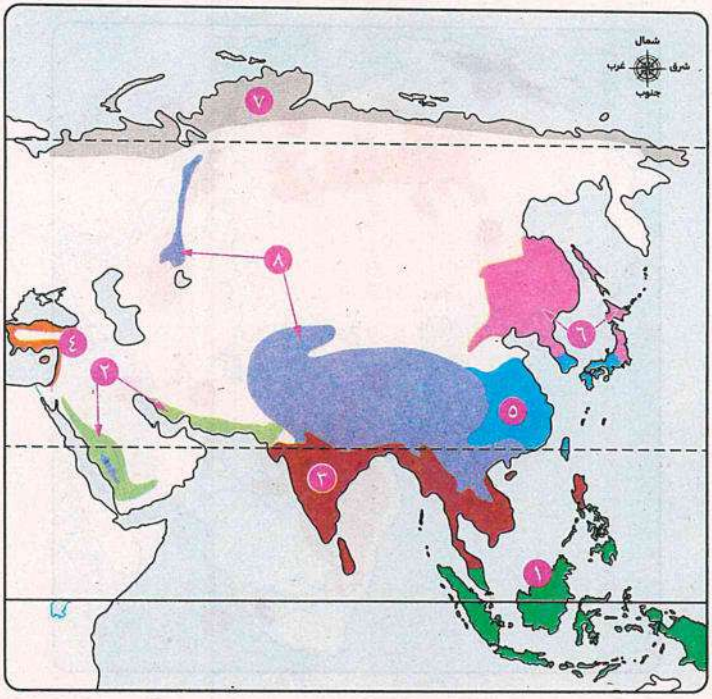

١ الإقليم الاستوائى وشبه الاستوائى.

٢ الإقليم المدارى الحار (السودانى).

٣ الإقليم الموسمى.

٤ إقليم البحر المتوسط.

٥ الإقليم المعتدل شرق القارات (الصينى).

٦ الإقليم المعتدل البارد شرق القارات (اللورانسى).

٧ إقليم التندرا.

٨ الإقليم الجبلى.

٧ أهم تضاريس قارة أفريقيا

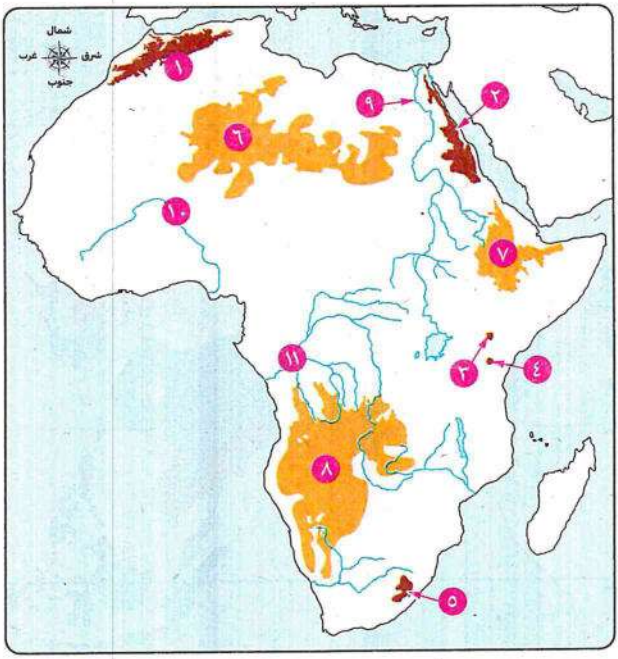

* **الجبال :**

١ جبال أطلس.
٢ جبال البحر الأحمر.
٣ جبل كينيا .
٤ جبل كلمنجارو.
٥ جبال دراكنزبرج.

* **الهضاب :**

٦ هضاب الصحراء الكبرى.
٧ هضبة الحبشة (إثيوبيا).
٨ هضبة جنوب أفريقيا.

* **السهول : سهول فيضية كونتها الأنهار مثل :**

٩ نهر النيل.
١٠ نهر النيجر.
١١ نهر الكونغو.

٨ الأقاليم المناخية فى قارة أفريقيا

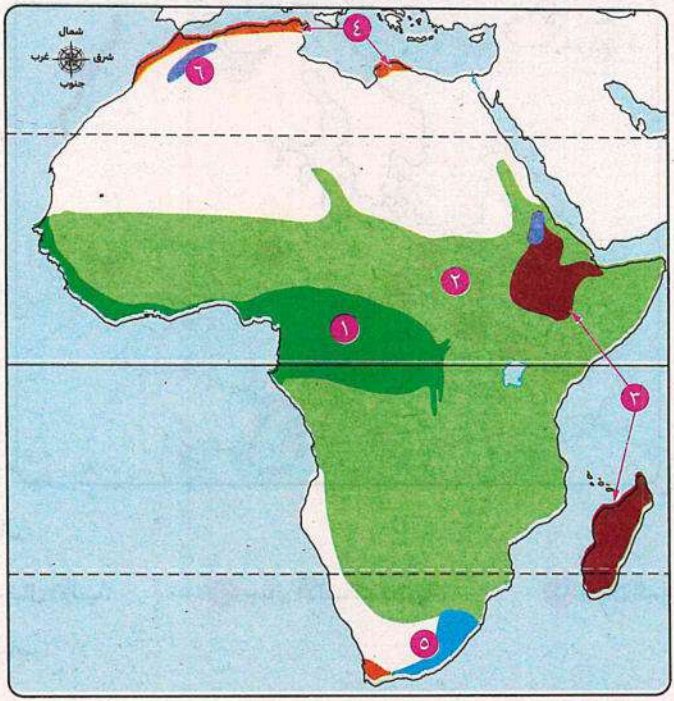

١ الإقليم الاستوائى وشبه الاستوائى.

٢ الإقليم المدارى الحار (السودانى).

٣ الإقليم الموسمى.

٤ إقليم البحر المتوسط.

٥ الإقليم المعتدل شرق القارات (الصينى).

٦ الإقليم الجبلى.

٩ أهم تضاريس قارة أوروبا

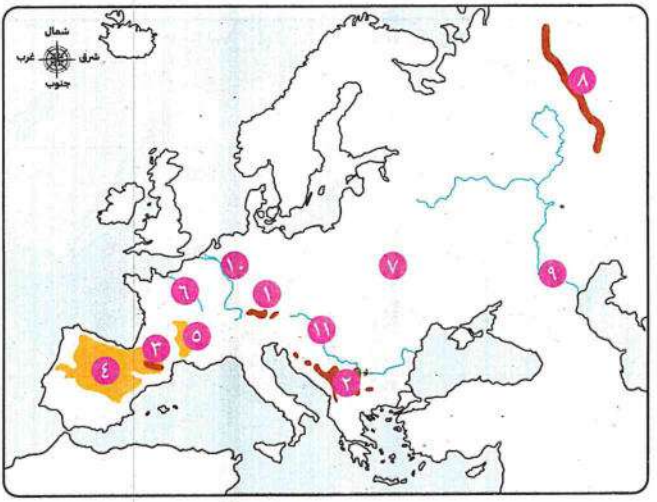

* **الجبال :**

١ جبال الألب. ٢ جبال الألب الدينارية. ٣ جبال البرانس.

* **الهضاب :**

٤ هضبة الميزيتا.

٥ هضبة فرنسا الوسطى : تقطعها أنهار مهمة مثل ٦ نهر السين.

* **السهول : سهول فيضية :**

٧ السهل الأوروبى العظيم : يمتد من المحيط الأطلنطى غربًا إلى ٨ جبال الأورال شرقًا.

* **الأنهـار :**

٩ نهر الفولجا. ١٠ نهر الراين. ١١ نهر الدانوب.

١٠ الأقاليم المناخية فى قارة أوروبا

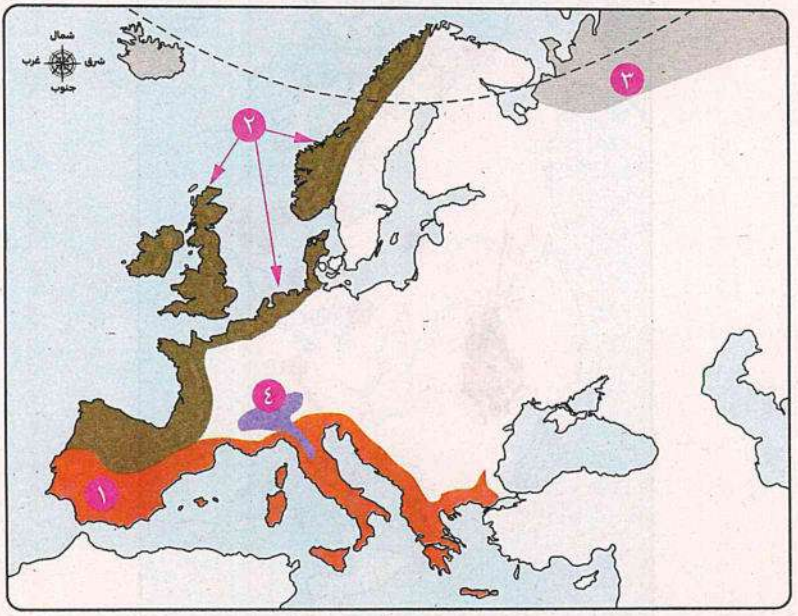

١ إقليم البحر المتوسط.

٢ إقليم غرب أوروبا.

٣ إقليم التندرا.

٤ الإقليم الجبلى.

١١ أهم تضاريس قارة أمريكا الشمالية

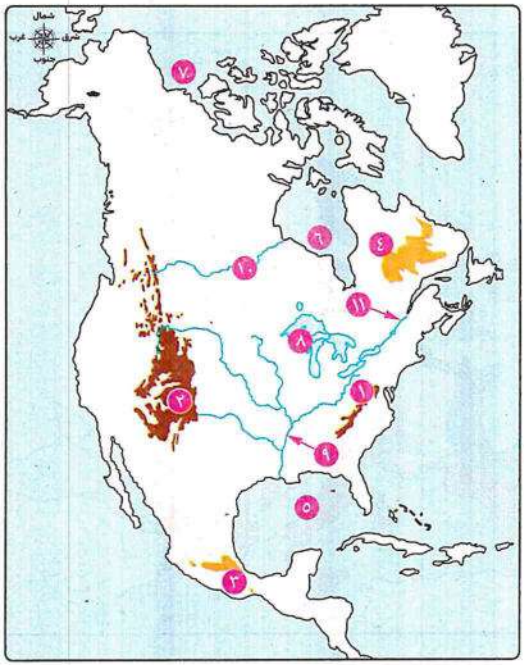

* الجبال : ١ سلاسل جبال الأبلاش. ٢ سلاسل جبال روكى.

* الهضاب : ٣ هضبة المكسيك. ٤ هضبة لبرادور.

* السهول :

• سهول ساحلية : سهول تمتد على

٥ خليج المكسيك وعلى ٦ خليج هدسن.

• سهول فيضية :

تتمثل فى السهول الوسطى تمتد من ٧ المحيط القطبى الشمالى شمالًا إلى خليج المكسيك جنوبًا، يوجد بها ٨ البحيرات العظمى.

* الأنهار: ٩ نهر المسيسبى. ١٠ نهر نلسن. ١١ نهر سانت لورانس.

١٢ الأقاليم المناخية فى قارة أمريكا الشمالية

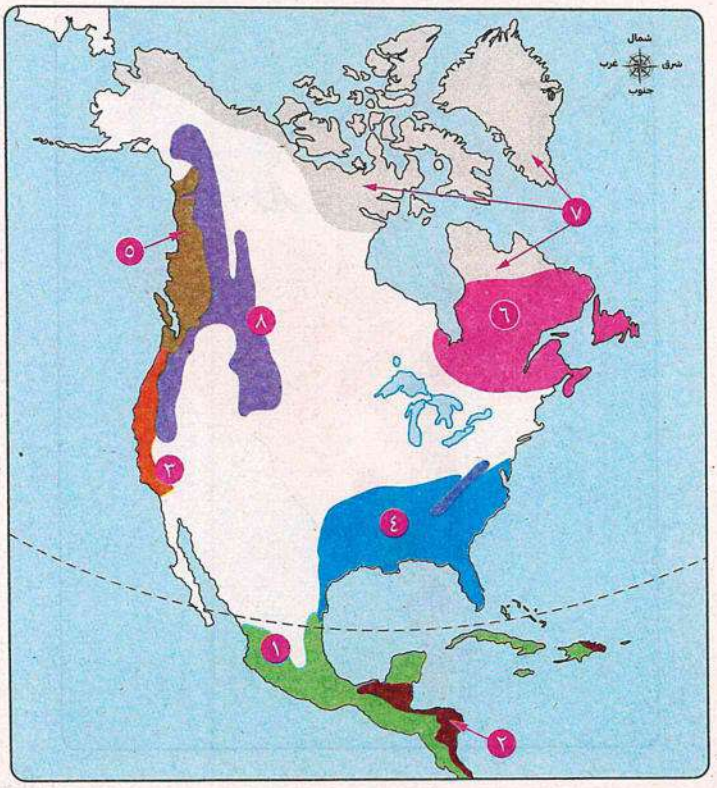

١ الإقليم المدارى الحار (السودانى).

٢ الإقليم الموسمى.

٣ إقليم البحر المتوسط.

٤ الإقليم المعتدل شرق القارات (الصينى).

٥ إقليم غرب أوروبا.

٦ الإقليم المعتدل البارد شرق القارات (اللورانسى).

٧ إقليم التندرا.

٨ الإقليم الجبلى.

١٣ أهم تضاريس قارة أمريكا الجنوبية



* **الجبال :**

١ سلاسل جبال الإنديز.

* **الهضاب :**

٢ هضبة جيانا. ٣ هضبة البرازيل. ٤ هضبة بتاجونيا.

* **الأنهار:**

٥ نهر أورينوكو. ٦ نهر الأمازون. ٧ نهر بارانا.

٨ نهر باراجواى. ٩ نهر لابلاتا.

١٤ الأقاليم المناخية فى قارة أمريكا الجنوبية

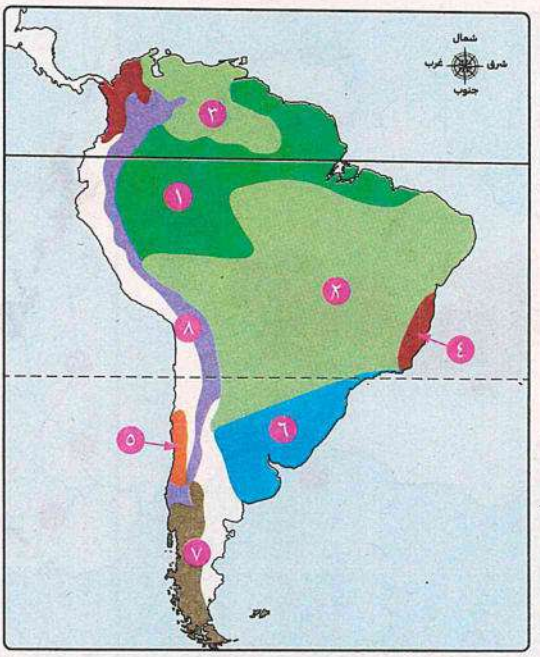

١ الإقليم الاستوائى وشبه الاستوائى.

٢ ، ٣ الإقليم المدارى الحار (السودانى).

٤ الإقليم الموسمى.

٥ إقليم البحر المتوسط.

٦ الإقليم المعتدل شرق القارات (الصينى).

٧ إقليم غرب أوروبا.

٨ الإقليم الجبلى.

١٥ أهم تضاريس قارة أستراليا (الأوقيانوسية)

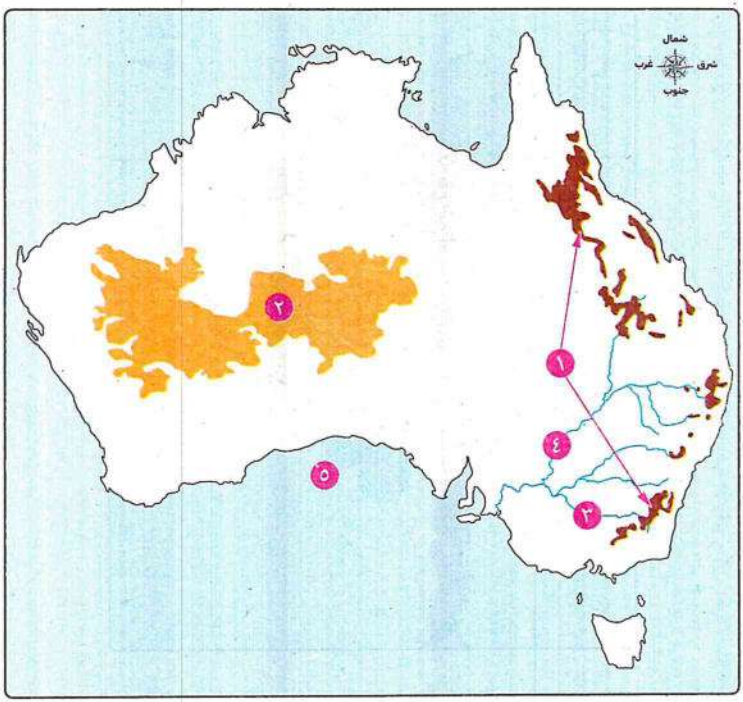

* الجبال : ١ جبال الحاجز الكبير (الألب الأسترالية).

* الهضاب : ٢ الهضبة الغربية.

* السهول : سهول فيضية :

يجرى بها ٣ نهر مرى و ٤ نهر دارلنج ويصبان فى ٥ الخليج الأسترالى الكبير.

١٦ الأقاليم المناخية فى قارة أستراليا (الأوقيانوسية)

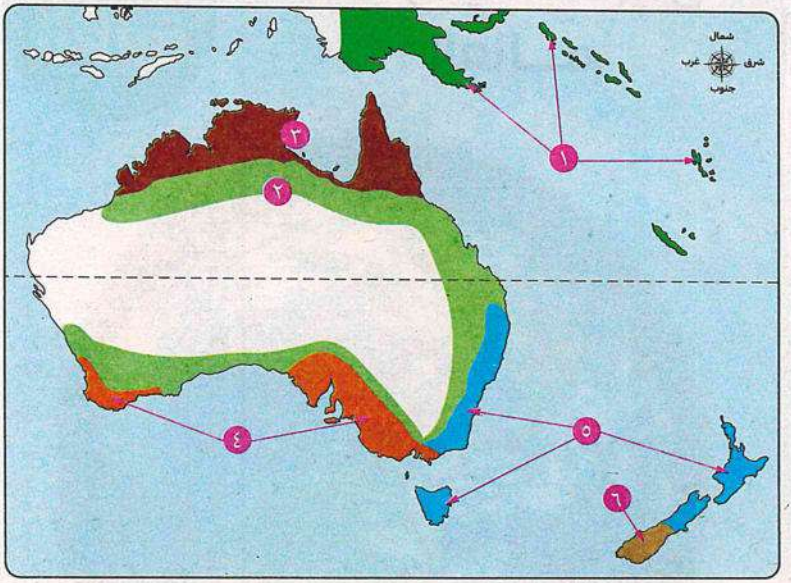

١ الإقليم الاستوائى وشبه الاستوائى.

٢ الإقليم المدارى الحار (السودانى).

٣ الإقليم الموسمى.

٤ إقليم البحر المتوسط.

٥ الإقليم المعتدل شرق القارات (الصينى).

٦ إقليم غرب أوروبا.

الوحدة
الثانية

جغرافية سكان العالم



- أهم المخططات ...
- أهم الجداول والمقارنات ...
- ما النتائج المترتبة على ...
- ما العلاقة بين ...
- أهم الخرائط ...
- ما المقصود بـ ...
- بم تفسر ...
- دلل ...
- ماذا يحدث إذا ...

أهم المخططات ...

١ دول العالم من حيث الدخل الاقتصادى

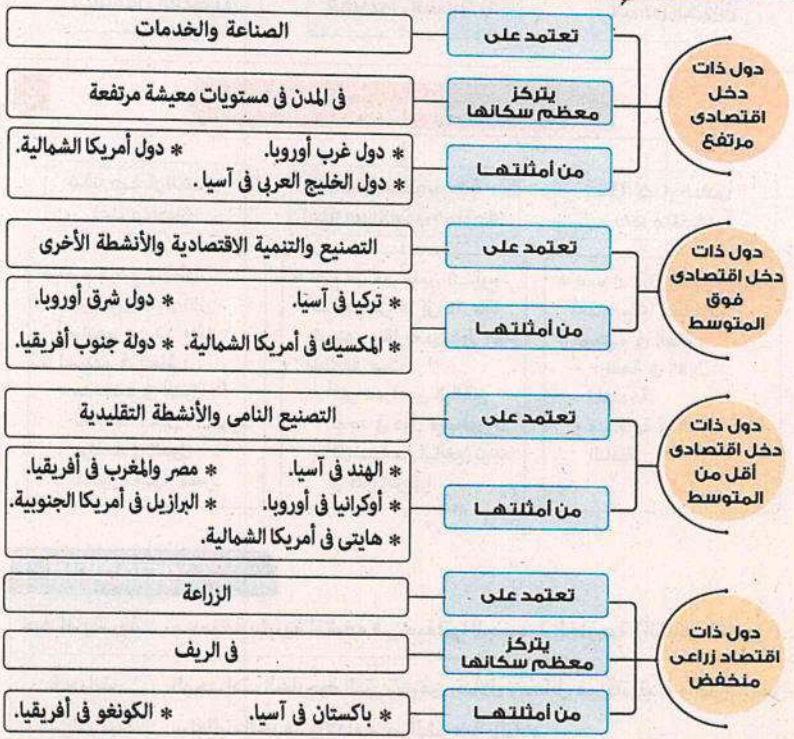

٢ دول العالم من حيث نسب المتعلمين

أكثر من ٩٥ ٪	نحو ٧٥ ٪	ما بين ٤٠ : ٦٠ ٪
فى	فى	فى
* دول أمريكا الشمالية. * دول أوروبا. * أستراليا. * اليابان. * روسيا.	* معظم دول أمريكا الجنوبية. * دولة جنوب أفريقيا. * الصين.	* معظم دول قارة أفريقيا. * الهند.

٣ مناطق تركز السكان فى العالم

- السهول الفيضية
- السهول الساحلية
- المدن الكبرى

٤ التركيب العمرى (الفئات العمرية)

فئة صغار السن (غير منتجة)	الفئة المتوسطة (فئة سن العمل المنتجة)	فئة كبار السن (غير منتجة)
* تضم الرضع والأطفال والمراهقين الذين تقل أعمارهم عن ١٥ عامًا. * نسبتهم فى العالم : • منخفضة فى الدول المتقدمة ، مثل : السويد. • مرتفعة فى الدول النامية ، مثل : مصر.	* تضم البالغين الذين تتراوح أعمارهم من ١٥ إلى ٦٤ عامًا ونسبتهم متقاربة بين دول العالم المختلفة حيث: • أعلى نسبة من البالغين توجد فى دول غرب أوروبا. • أقل نسبة من البالغين توجد فى قارة أفريقيا.	* تضم السكان الذين وصلت أعمارهم ٦٥عامًا فأكثر. * نسبتهم فى العالم : • مرتفعة فى الدول المتقدمة. • منخفضة فى الدول النامية.

ما المقصود بـ ...

سلالة بشرية	مجموعة بشرية تتشابه فى صفاتها الجسمية الخارجية (الشكل الخارجى).
هجرات غيرشرعية	الهجرات الخارجية التى تتم من خلال وسائل غيرقانونية والهروب من سلطات الحدود والإقامة غير الشرعية بالبلاد.
ديموجرافيا	علم دراسة السكان من حيث النمو والتوزيع والتركيب السكانى.
زيادة طبيعية	ناتج الفرق بين معدلات المواليد ومعدلات الوفيات.
تركيب عمرى	دراسة عدد ونسبة كل مجموعة من سكان منطقة ما وفقًا لفئات عمرية محددة.
قوة العمل	عدد الأفراد فى سن العمل والقادرين عليه والذين يعملون فعليًا أو يبحثون عن عمل.

أهم الجداول والمقارنات ...

١	السلالة الزنجية	السلالة المغولية	السلالة القوقازية
المميزات	* البشرة الداكنة. * الأنف العريض. * الشعر الأجعد. * الشفاه الغليظة.	* البشرة الصفراء. * العيون المنحرفة. * الشعر الأسود المسترسل.	* البشرة البيضاء الوردية. * الشعر المتموج. * الشفاه الرفيعة.
النسبة من سكان العالم	١٠ ٪	٤٠ ٪	٥٠ ٪
أماكن الانتشار (توزيعها)	* تتركز فى أفريقيا خاصة قرب دائرة الاستواء ويمثلون حوالى : • ٧٥ ٪ من زنوج العالم. • ٧٠ ٪ من سكان أفريقيا. * توجد فى : • آسيا (جنوب شرق الهند). • أوروبا. • الأمريكتين. • أستراليا.	* تتركز فى آسيا فى : • الصين. • اليابان. • كوريا. • منغوليا. • سيبيريا. • دول جنوب شرق القارة. * توجد فى : بعض المناطق فى الأمريكتين.	* تنتشر فى قارات العالم المختلفة فى : • أوروبا. • أمريكا الشمالية. • أمريكا الجنوبية. • أستراليا. • آسيا. • أفريقيا : شمال الصحراء الكبرى فى الدول العربية، مثل مصر وليبيا والجزائر وتونس والمغرب.
أهم الأقسام	* الزنوج السودانيون. * البانتو. * الأقزام. * النيليون الحاميون. * البوشمن والهوتنتوت.	* الإسكيمو (فى شمال كندا وألاسكا). * الهنود الحمر (فى الأمريكتين). * جماعة التنجوس (فى سيبيريا).	* مجموعة سكان حوض البحر المتوسط (ينتمى لها العرب وعدد كبير من سكان جنوب أوروبا). * المجموعة الألبية (هم سكان غرب ووسط أوروبا). * المجموعة النوردية الشمالية (ينتمى لها معظم سكان دول شمال أوروبا).

٢	قارة آسيا (أكثر القارات سكانًا)	قارة أفريقيا	قارة أوروبا
مناطق تركز السكان	* السهول الفيضية، مثل : • سهول نهر الجانج بالهند. • سهول نهر يانجتسى بالصين. * الجزر ذات التربة الجيدة، مثل : • جزيرة جاوة. • جزر اليابان. • جزر الفلبين.	* السهول الفيضية الخصبة، مثل سهول وادى النيل فى مصر والسودان. * السهول الساحلية المعتدلة الخصبة، مثل : • سواحل البحر المتوسط فى مصر ودول المغرب العربى. • سواحل دولة جنوب أفريقيا. * المناطق مرتفعة السطح فى الدول المدارية، مثل : • كينيا. • أوغندا.	* دول غرب ووسط القارة، مثل : بريطانيا وألمانيا وفرنسا وهولندا وإسبانيا فى : المدن والمناطق الصناعية الضخمة، مثل : لندن وباريس. * السهول الزراعية الخصبة، مثل السهل الأوروبى العظيم. * دول شرق القارة.
مناطق قلة السكان	* المناطق الشمالية مثل سهول سيبيريا. * المناطق الصحراوية مثل شبه الجزيرة العربية. * المناطق الجبلية والهضبية (وسط القارة).	* المناطق الاستوائية ذات الغابات الكثيفة. * النطاقات الصحراوية الفقيرة، مثل : • الصحراء الكبرى. • صحراء كلهارى. * بعض المناطق الجبلية الوعرة، مثل جبال البحر الأحمر.	* المناطق الشمالية، مثل : • فنلندا. • النرويج. * المناطق الجبلية الوعرة مثل جبال الألب.

٣	قارة أمريكا الشمالية	قارة أمريكا الجنوبية	قارة أستراليا (أقل القارات سكانًا)
أولى دول القارة سكانًا	الولايات المتحدة الأمريكية (٥٧٪ من سكان القارة)	البرازيل (٥٠٪ من سكان القارة)	أستراليا (٦٠٪ من سكان القارة)
مناطق تركز السكان	* الولايات المتحدة الأمريكية فى : • الساحل الشمالى الشرقى. • ولايات الوسط. • منطقة البحيرات العظمى. * المكسيك (بها ٢١٪ من سكان القارة) فى المدن الرئيسية مثل مدينة مكسيكو «العاصمة». * كندا فى المدن الكبرى مثل مونتريال.	* السهول الساحلية. * السهول الفيضية، مثل : • سهول نهر الأورينوكو فى فنزويلا. • سهول لابلاتا والتى تعرف فى الأرجنتين بـ «سهول البمباس». * هضبة البرازيل وسواحلها حيث المدن الكبرى.	* السواحل الشرقية حيث المدن الكبرى، مثل : سيدنى، والمناطق الصناعية الكبرى. * جنوب شرق القارة حيث الأراضى الزراعية الخصبة وسهول نهرى مرى ودارلنج.
مناطق قلة السكان	* دول البرزخ، مثل : • هندوراس. • كوستاريكا. * بعض الجزر الصغيرة.	* سهول الأمازون الاستوائية. * قمم جبال الإنديز. * هضبة بتاجونيا فى جنوب القارة.	* شمال القارة فى مناطق حشائش الساڤانا والغابات الموسمية. * داخل (وسط) وغرب القارة لسيادة الظروف الصحراوية.

٤	قوة العمل فى الدول المتقدمة الغنية	قوة العمل فى الدول النامية الفقيرة
	* تزداد نسبة العاملين فى الصناعة والخدمات المرتبطة بها. * تقل نسبة العاملين فى مجال الزراعة لتصل إلى أقل من ١٠ ٪ من قوة العمل كما فى : • دول غرب أوروبا. • دول أمريكا الشمالية. • أستراليا.	* تزداد نسبة العاملين فى مجال الزراعة من إجمالى قوة العمل حيث : • تتراوح ما بين ٣٠ : ٦٠ ٪ فى مصر وتركيا. • تتراوح ما بين ٦٠ : ٨٠ ٪ فى السودان والهند. • تصل إلى ٨٠ ٪ فى إثيوبيا. * تقل نسبة العاملين فى مجال الصناعة. * هناك أنشطة أولية وثانوية يعمل بها السكان إلى جانب الزراعة، **مثل :** الصيد، وقطع الغابات، والرعى.

بم تفسر ...

١ نشأة السلالات البشرية المختلفة.

بسبب انتشار الإنسان فى قارات العالم المختلفة خاصة قارات العالم القديم أواخر عصر البلايستوسين، ومع استقرار الإنسان فى هذه البيئات المختلفة بدأ يتأثر بها ويؤثر فيها فظهرت اختلافات فى الصفات الوراثية ميزت كل مجموعة من البشر ومن هنا نشأت السلالات البشرية.

---

٢ وجود عدد كبير من زنوج أفريقيا فى الأمريكتين.

بسبب تعرض عدد كبير من الزنوج الأفارقة للهجرات الإجبارية (القسرية) للأمريكتين ضمن تجارة العبيد التى كانت سائدة فى الماضى وذلك للعمل فى مزارع القطن وقصب السكر والتبغ التى أنشأها الأوروبيون فى الأمريكتين.

---

٣ زيادة نسبة الجنس المغولى عن ٤٠ ٪ من سكان العالم.

لأن النسبة الكبرى من سكان الصين ودول شرق وجنوب شرق آسيا (أكثر دول العالم سكانًا) ينتمون إلى السلالة المغولية.

٤ ندرة وجود السلالات النقية فى الوقت الحاضر.

بسبب انصهار السلالات واختلاط الصفات الطبيعية التى تميزكل سلالة عن الأخرى.

---

٥ العرب ليسوا من سلالة بشرية واحدة.

بسبب اختلاطهم مع السلالات الأخرى بعد حدوث الفتوحات والهجرات على مر التاريخ وإن كانت الأغلبية العظمى منهم ينتمون للسلالة القوقازية.

---

٦ تركز السكان فى العالم فى السهول الفيضية وفى السهول الساحلية.

- فى السهول الفيضية بسبب : وفرة المياه وخصوبة التربة.
- فى السهول الساحلية بسبب : المناخ المعتدل والنشاط السياحى.

---

٧ تركز سكان العالم فى المدن الكبرى.

بسبب :

- وفرة فرص العمل.
- وفرة الخدمات والمناطق الصناعية.

---

٨ تعد جزيرة جاوة أكثر مناطق العالم ازدحامًا بالسكان.

بسبب تربتها الجيدة الصالحة للزراعة.

---

٩ قلة عدد السكان فى شمال قارة آسيا (سهول سيبيريا) ووسط القارة.

- فى شمال قارة آسيا (سهول سيبيريا) بسبب : برودة الجو.
- فى وسط قارة آسيا بسبب : وجود المناطق الجبلية والهضبية حيث وعورة السطح.

---

١٠ * يتركز السكان فى المناطق مرتفعة السطح بالدول المدارية فى قارة أفريقيا.

* يتركز السكان فى دولتى أوغندا وكينيا بقارة أفريقيا.

بسبب اعتدال المناخ نتيجة ارتفاع السطح.

---

١١ يتركز السكان فى دول غرب ووسط أوروبا أكثر من شرقها.

لأن دول شرق أوروبا تُعد أقل فى درجة تقدمها عن دول غرب ووسط أوروبا.

١٢ قلة السكان بفنلندا والنرويج فى شمال قارة أوروبا.
بسبب شدة البرودة.

---

١٣ تركز السكان فى الساحل الشمالى الشرقى للولايات المتحدة الأمريكية.
بسبب وجود الموارد الاقتصادية الضخمة والمدن الكبرى ومن أكبرها مدينة نيويورك.

---

١٤ تركز السكان فى ولايات الوسط بالولايات المتحدة الأمريكية.
بسبب وجود الأقاليم الزراعية حيث سهول المسيسبى.

---

١٥ تركز السكان فى منطقة البحيرات العظمى بالولايات المتحدة الأمريكية.
لأنها منطقة ذات موارد اقتصادية ضخمة.

---

١٦ قلة عدد السكان فى المناطق الاستوائية بأفريقيا وأمريكا الجنوبية.
بسبب انتشار الغابات الاستوائية الكثيفة حيث البيئة الطبيعية القاسية وانتشار الأمراض.

---

١٧ يتركز السكان على السواحل الشرقية لقارة أستراليا وفى جنوبها الشرقى.
- فى السواحل الشرقية بسبب : وجود المدن الكبرى، مثل سيدنى، والمناطق الصناعية الكبرى.
- فى الجنوب الشرقى بسبب : الأراضى الزراعية الخصبة وسهول نهرى مرى ودارلنج.

---

١٨ قلة السكان فى شمال وفى غرب ووسط أستراليا.
- فى شمال أستراليا بسبب : انتشار الغابات الموسمية وحشائش الساڤانا.
- فى غرب ووسط أستراليا بسبب : سيادة الظروف الصحراوية.

---

١٩ ارتفاع معدلات المواليد فى قارة أفريقيا بشكل كبير.
بسبب :
- انتشار الأمية والفقر فى معظم دول القارة.
- الاعتماد على الزراعة البدائية والرعى.
- انتشار بعض العادات والتقاليد السلبية، مثل : الزواج المبكر للإناث والرغبة فى إنجاب أكبر عدد من الأبناء.

---

٢٠ ارتفاع معدل الوفيات فى قارة أوروبا.
بسبب: زيادة عدد كبار السن.

٢١ ارتفاع معدل الزيادة الطبيعية فى قارة أفريقيا.

بسبب زيادة عدد المواليد وقلة عدد الوفيات نسبيًا.

---

٢٢ تقل معدلات الزيادة الطبيعية فى الدول المتقدمة.

بسبب قلة معدلات المواليد والوفيات معًا.

---

٢٣ انخفاض معدلات الوفيات فى مصر إلى ٦,١ فى الألف.

بسبب : - الرعاية الصحية.

- الاهتمام بصحة الأطفال.

---

٢٤ زيادة عدد كبار السن فى الدول المتقدمة مقارنة بالدول النامية.

بسبب التقدم فى مجالات الخدمات الصحية والتعليمية.

---

٢٥ * تصل نسبة المتعلمين فى مصر إلى ٦٥ ٪ من السكان.

* انخفاض نسبة الأمية فى السنوات الأخيرة فى مصر.

بسبب : - زيادة الاهتمام بالتعليم فى مراحله المختلفة.

- جهود الدولة فى مجالات محو الأمية وتحقيق مبدأ تكافؤ الفرص فى التعليم.

---

٢٦ اختلاف الخصائص الاقتصادية لسكان العالم.

لأنها تتوزع وفقًا لـ :

- تنوع الأنشطة الاقتصادية التى يقوم بها السكان فى كل دولة.

- دخل السكان.

---

٢٧ تُعد دول الخليج العربى من الدول ذات الدخل الاقتصادى المرتفع.

لأنها تعتمد على استخراج البترول وتصديره إلى الخارج وتصنيع مشتقاته.

---

٢٨ معظم دول أفريقيا ذات دخل اقتصادى منخفض.

بسبب :

- اعتمادها على الزراعة والتى تحقق دخل اقتصادى منخفض.

- تصدير ثرواتها المعدنية والزراعية على شكل مواد خام بدلًا من تصنيعها.

ما النتائج المترتبة على ...

١ انصهار السلالات البشرية واختلاط صفاتها الطبيعية.

ترتب على ذلك :

- عدم وجود دولة فى العالم يتكون شعبها من سلالة واحدة.
- ندرة وجود السلالات النقية فى الوقت الحاضر.

---

٢ زيادة عدد السكان فى معظم دول قارة آسيا.

ترتب على ذلك مشكلات عديدة منها :

- نقص الغذاء.
- قلة نصيب الفرد من الدخل القومى.
- انخفاض مستوى المعيشة.
- وجود هجرات غير شرعية تتجه معظمها إلى الدول المتقدمة مثل دول أوروبا.

---

٣ وقوع قارة أنتاركتيكا أقصى جنوب الكرة الأرضية (بالنسبة لتوزيع السكان).

ترتب على ذلك أنها أصبحت خالية من السكان لأنها قارة متجمدة.

---

٤ ارتفاع معدلات المواليد وانخفاض معدلات الوفيات فى مصر.

ترتب على ذلك ارتفاع معدل الزيادة الطبيعية فى مصر حيث وصل إلى ٢٫٢٥ فى الألف عام ٢٠١٤م.

---

٥ تساوى معدلات المواليد مع معدلات الوفيات فى قارة أوروبا.

ترتب على ذلك أن وصلت معدلات الزيادة الطبيعية إلى صفر وبالتالى ثبات عدد السكان.

---

٦ ارتفاع نسبة فئة صغار السن فى الدول النامية.

يترتب على ذلك تحمل هذه الدول ميزانية ضخمة لتوفير الغذاء والملبس والرعاية الصحية والتعليم وغيرها من الخدمات.

دلل ...

١ يوجد فى الوقت الحاضر بعض السلالات النقية فى بعض المجتمعات البدائية.

حيث تتمثل هذه السلالات فى :

- بعض الزنوج قصار القامة التى تسكن غابات حوض الكونغو وصحراء كلهارى بأفريقيا.
- الإسكيمو وهم سلالة مغولية تعيش فى صحارى التندرا الباردة شمال كندا.
- الهنود الحمر وهم سلالة مغولية يعيشون فى غابات وجبال أمريكا الجنوبية.
- الأستراليون الأصليون.

---

٢ يتكون شعب الولايات المتحدة الأمريكية من سلالات مختلفة.

حيث يضم :

- السلالة الزنجية وهم القادمون عن طريق الهجرة الإجبارية من أفريقيا.
- السلالة القوقازية وهم السكان البيض القادمون من أوروبا.
- السلالة المغولية وهم الهنود الحمر الذين يمثلون السكان الأصليين.

---

٣ تقسيم السلالات البشرية أمر ظاهرى وليس جوهرى.

حيث يتم التقسيم على أسس ظاهرية حسب الشكل الخارجى وليست جوهرية فلا توجد سلالة أكثر ذكاءً من سلالة أخرى أو أكثر منها قدرة على العمل والإبداع.

---

٤ تُعد قارة آسيا أكبر قارات العالم سكانًا.

حيث :

- يسكنها نحو ٦٠ ٪ من سكان العالم.
- يوجد بها أكبر دولتين فى العالم سكانًا هما الهند والصين.

---

٥ يؤثر المناخ فى توزيع سكان قارة أفريقيا.

حيث :

- يتركز السكان فى المناطق ذات المناخ المعتدل كما فى السواحل والمناطق مرتفعة السطح.
- يقل السكان فى المناطق الاستوائية الحارة والمناطق الصحراوية.

٦ هناك عدة عوامل تؤثر فى معدلات الوفيات فى العالم.

حيث تتمثل فى :

- مستوى السكن والتغذية والخدمات الصحية العامة فنجد أن :

♦ معدلات الوفيات تقل فى الدول التى تراعى مستويات الوقاية الصحية وحماية البيئة من التلوث.

♦ معدلات الوفيات تزداد فى الدول التى تقل فيها الرعاية الصحية وتنتشر فيها الأمراض.

- الحروب والكوارث الطبيعية (كالجفاف والزلازل) التى تؤدى إلى زيادة معدلات الوفيات.

---

٧ تؤثر بعض العادات والتقاليد فى معدل تعليم الإناث.

حيث تتمثل فى :

- حرمان المرأة من التعليم فى بعض المناطق حفاظًا عليها أو بسبب المعتقدات الخطأ.
- تفضيل الزواج المبكر للإناث.

---

٨ يُعد عدد الأطباء مؤشرًا مهمًا على الرعاية الطبية فى دول العالم.

حيث كلما زاد عدد الأطباء بالنسبة للسكان فى دولة ما، دل ذلك على زيادة الرعاية الطبية بها فتوجد :

- دول ذات رعاية طبية فائقة، مثل : معظم دول أوروبا وروسيا ودول أمريكا الشمالية.
- دول ذات رعاية طبية مرتفعة، مثل : مصر والأردن والإمارات.
- دول ذات رعاية طبية منخفضة، مثل : النيجر وإثيوبيا فى أفريقيا، نيبال فى آسيا.

ما العلاقة بين ...

١ المناطق مرتفعة السطح بأفريقيا، وتوزيع السكان.

يتركز السكان فى المناطق مرتفعة السطح فى الدول المدارية لاعتدال المناخ مثل دولتى كينيا وأوغندا، كما يقل السكان فى بعض المناطق الجبلية الوعرة مثل جبال البحر الأحمر.

---

٢ النبات الطبيعى بأستراليا، وتوزيع السكان فيها.

أدى نمو الغابات الموسمية وحشائش الساڤانا فى شمال أستراليا إلى قلة المسكان بهذه المنطقة.

ماذا يحدث إذا ...

استفادت دول أفريقيا «النامية والفقيرة» من ثرواتها المعدنية فى التصنيع.

لأصبحت دول أفريقيا النامية والفقيرة ذات دخل اقتصادى مرتفع.

أهم الخرائط ...

١ السلالات البشرية فى العالم

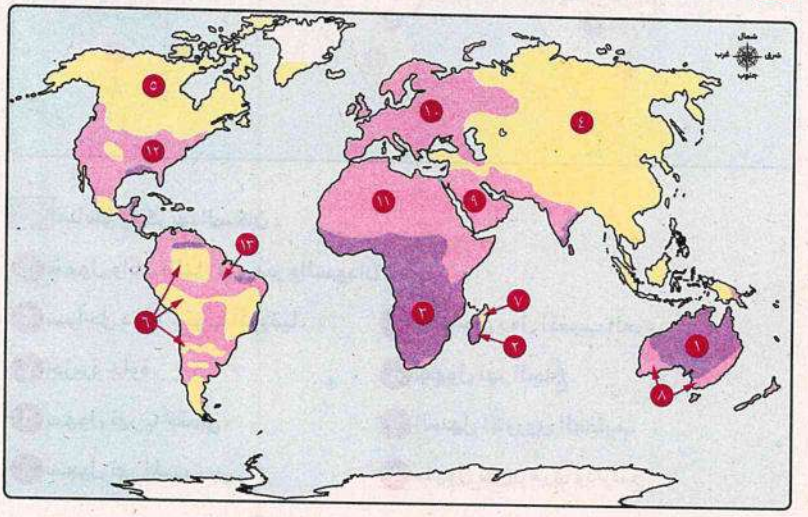

السلالة : الزنجية ١ : ٣

السلالة : المغولية ٤ : ٧

السلالة : القوقازية ٨ : ١٣

٢ توزيع السكان فى العالم

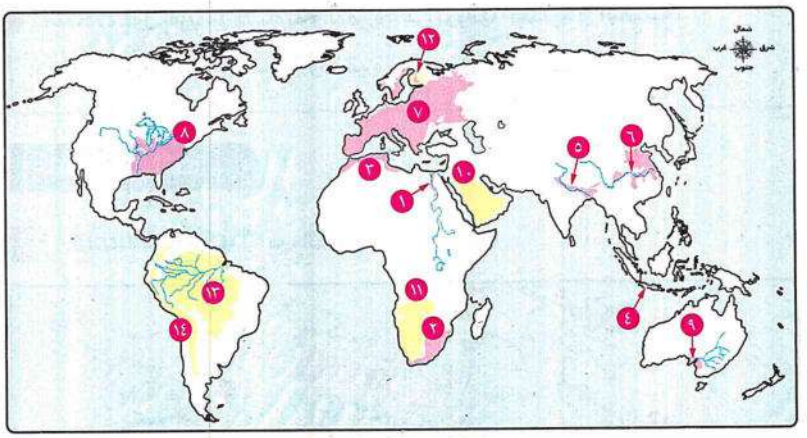

مناطق يتركز بها السكان :

١ سهول وادى النيل فى مصر والسودان.

٢ سواحل دولة جنوب أفريقيا.

٣ سواحل دول المغرب العربى.

٤ جزيرة جاوة.

٥ سهول نهر الجانج.

٦ سهول نهر يانجتسى.

٧ السهل الأوروبى العظيم.

٨ سهول نهر المسيسبى.

٩ سهول نهرى مرى ودارلنج.

مناطق يقل بها السكان :

١٠ شبه الجزيرة العربية.

١١ صحراء كلهارى.

١٢ شمال فنلندا.

١٣ سهول الأمازون الاستوائية.

١٤ قمم جبال الإنديز.

الوحدة
الثالثة

مصر تحت الحكم العثمانى



- أهم المخططات ...
- من هو ...
- بم تفسر ...
- دلل ...
- ماذا كان يحدث إذا ...
- ما المقصود بـ ...
- أهم الجداول والمقارنات ...
- ما النتائج التى ترتبت على ...
- ما العلاقة بين ...

أهم المخططات ...

١ نظام الحكم والإدارة فى مصر أثناء الحكم العثمانى

تمثل فى

- الوالى (الباشا)
- الديوان (ديوان القاهرة)
- الحامية العثمانية
- إدارة الأقاليم

٢ المشكلات التى واجهت محمد على فى بداية حكمه

محاولة نقله من مصر إلى ولاية سالونيك (فرمان يوليو ١٨٠٦م)	حملة فريزر (مارس ١٨٠٧م)	الزعامة الشعبية (بقيادة عمر مكرم)	المماليك
تغلب عليها بمساعدة	فشلت ولم تحقق أهدافها	تخلص منها عن طريق	تخلص منها عن طريق
الزعامة الشعبية	حيث هُزمت فى رشيدوالحماد وتم جلاء الحملة مقابل الإفراج عن الأسرى	خلع عمر مكرم من نقابة الأشراف ونفيه إلى دمياط عام ١٨٠٩م -	* حرمانهم من تولى المناصب الرفيعة فى الدولة، مثل: مشيخة البلد. * مطاردتهم فى كل مكان. * تدبير مذبحة القلعة للتخلص منهم مارس ١٨١١م.

٣ أهم الفرمانات العثمانية

٩ يوليو ١٨٠٥م	يوليو ١٨٠٦م	يونيه ١٨٤١م	١٨٤١م
تضمن	تضمن	تضمن	تضمن
عزل خورشيد باشا وتعيين محمد على واليًا على مصر	* عزل محمد على عن ولاية مصر ونقله إلى ولاية سالونيك فى مقدونيا. * تسليم السلطة دون معارضة أو مقاومة إلى والٍ عثمانى جاء مع الأسطول العثمانى.	جعل حق وراثة حكم مصر لأكبر أبناء محمد على سنًا من الذكور	ولاية « محمد على » على السودان

ما المقصود بـ ...

حق الانتفاع	نظام طبقه العثمانيون يجعل الأرض الزراعية ملكًا للدولة (ممثلة فى السلطان العثمانى) ويتم تكليف الفلاح بزراعتها وليس له حق التصرف فيها.
مقاومة	رفض الشعوب للاحتلال ومظاهره ودفعه «إخراجه» عن البلاد بمختلف الوسائل.
جلاء	رحيل قوات الاحتلال عن البلد المحتل.
فرمان	أمر سلطانى يصدر من قِبَل سلطان الدولة العثمانية واجب التنفيذ.
نظام الاحتكار	نظام تقوم فيه الحكومة ممثلة فى (محمد على) بتحديد نوع الغلات التى تُزرع ونوع المصنوعات التى تُنتج وتحديد أثمان شرائها وأثمان بيعها فى السوق.

من هو ...

سليم الأول	* أحد سلاطين العثمانيين، اتجه فى توسعاته نحو الشرق مع بداية القرن الـ١٦م. * انتصر على الصفويين فى معركة جالديران ودخل عاصمتهم تبريز. * استولى على إمارة ذى القادر المملوكية الواقعة بين حدود الدولتين المملوكية والعثمانية. * انتصر على المماليك فى معركتى مرج دابق والريدانية وأنهى دولتهم فى الشام ومصر. * أعلن نفسه الحامى الوحيد للحرمين الشريفين ولجميع رعاياه فى العالم الإسلامى.
السلطان الغورى	أحد سلاطين المماليك، هُزم من العثمانيين فى معركة مرج دابق.
طومان باى	قاد المماليك فى معركة الريدانية ضد العثمانيين، وانتهت هذه المعركة بهزيمته.

على بك الكبير	* أحد بكوات المماليك (حكام الأقاليم)، قام بحركة استقلالية ضد الحكم العثمانى. * أصبح الحاكم الفعلى بمصر عام ١٧٦٨م. * قام بإخضاع الحجاز لنفوذه. * فشلت حركته الاستقلالية وعادت مصر ولاية عثمانية.
الشيخ ظاهر العمر	حاكم جنوب الشام الذى تحالف معه على بك الكبير ضد الدولة العثمانية.
محمد بك أبو الدهب	* نائب على بك الكبير الذى أرسله لغزو الشام واستطاع دخول دمشق. * انحاز للسلطان العثمانى واتفق معه ضد على بك الكبير. * تولى منصب شيخ البلد بعد فشل حركة على بك الكبير الاستقلالية.
نابليون بونابرت	* قائد فرنسى، قام بإعداد وقيادة الحملة الفرنسية التى جاءت إلى مصر عام ١٧٩٨م. * عند إعداده للحملة الفرنسية قام بإحضار مطبعتين إحداهما فرنسية والأخرى عربية لطبع المنشورات للأهالى. * استطاع دخول القاهرة فى يوليو ١٧٩٨م بعد معركة إمبابة. * قاد الحملة الفرنسية على الشام فى مارس ١٧٩٩م. * قام بإنشاء الديوان العام ودواوين الأقاليم وديوان القاهرة.
محمد كُريم	* حاكم مدينة الإسكندرية، قاد مقاومة الأهالى ضد الحملة الفرنسية عند وصولها إلى الإسكندرية. * اعتقلته القوات الفرنسية وأعدمته رميًا بالرصاص فى سبتمبر ١٧٩٨م.
مراد بك	أحد زعماء المماليك، هُزم أمام قوات الحملة الفرنسية فى معركة إمبابة، وهرب إلى الصعيد.
إبراهيم بك	أحد زعماء المماليك، هُزم أمام القوات الفرنسية فى معركة إمبابة وهرب إلى الشام مع الوالى العثمانى.
نلسون	قائد الأسطول الإنجليزى، حطم وأغرق الأسطول الفرنسى فى معركة أبى قير البحرية فى أغسطس ١٧٩٨م.

أحمد باشا الجزار	قاد مقاومة أهالى عكا ضد قوات الحملة الفرنسية على الشام عام ١٧٩٩م.
كليبر	* قائد فرنسى، تولى قيادة الحملة الفرنسية بعد رحيل نابليون إلى فرنسا سرًا. * تفاوض مع الدولة العثمانية فيما عُرف باتفاقية العريش عام ١٨٠٠م. * قُتل فى يونيه ١٨٠٠م على يد سليمان الحلبى أحد طلاب الأزهر.
مينو	* قائد فرنسى، تولى قيادة الحملة الفرنسية بعد مقتل كليبر. * كان ينوى الإقامة فى مصر وتحويلها إلى مستعمرة فرنسية كبرى فقام بوضع خطة إصلاحية فى مجالات الزراعة والصناعة والتجارة والصحة والنظام القضائى. * استسلم للقوات الإنجليزية والجيش العثمانى وخرج بالحملة الفرنسية من مصر فى سبتمبر ١٨٠١م.
عمر مكرم	* نقيب الأشراف، تزعم ثورة القاهرة الثانية مارس ١٨٠٠م. * أحد قادة الزعامة الشعبية، لعب دورًا مهمًا فى تولية محمد على حكم مصر عام ١٨٠٥م. * خلعه محمد على من نقابة الأشراف، ونفاه إلى دمياط عام ١٨٠٩م.
خورشيد باشا	أحد الولاة العثمانيين فى مصر، قام زعماء الشعب بعزله وتعيين محمد على مكانه عام ١٨٠٥م.
محمد على	* استطاع كسب عطف الشعب المصرى وثقة زعمائه بعد موقفه من ثورة الشعب المصرى مارس ١٨٠٤م. * اختارته الزعامة الشعبية واليًا على مصر بعد اجتماعهم فى دار المحكمة (بيت القاضى) فى ١٣ مايو ١٨٠٥م وتم تعيينه حاكمًا على مصر بموجب فرمان من السلطان العثمانى فى ٩ يوليو ١٨٠٥م. * ألغى نظام الالتزام وقام بتوزيع مساحات من الأراضى على الفلاحين. * فرض نظام الاحتكار على الزراعة والصناعة والتجارة.
محمد بك الألفى	أحد زعماء المماليك، سعت بريطانيا لإسناد ولاية مصر إليه بدلًا من محمد على.
فريزر	قائد الحملة البريطانية (الإنجليزية) على مصر فى مارس ١٨٠٧م.

رفاعة رافع الطهطاوى - على مبارك	من أبرز أعضاء بعثات محمد على إلى أوروبا وساهما فى استمرار النهضة التعليمية بعد عودتهما.
الكولونيل سيف	ضابط فرنسى من ضباط جيش نابليون، استعان به محمد على فى المدارس العسكرية لخبرته.

أهم الجداول والمقارنات ...

١	معركة جالديران ١٥١٤م	معركة مرج دابق بالشام أغسطس ١٥١٦م	معركة الريدانية بمصر يناير ١٥١٧م
الأطراف	العثمانيون بقيادة سليم الأول ضد الصفويين	العثمانيون بقيادة سليم الأول ضد المماليك بقيادة السلطان الغورى	العثمانيون بقيادة سليم الأول ضد المماليك بقيادة طومان باى
النتائج	* هزيمة الصفويين ودخول السلطان سليم الأول عاصمتهم تبريز.	* هزيمة المماليك وانتصار العثمانيين. * أصبحت الشام تحت الحكم العثمانى.	* انتصار العثمانيين ودخولهم القاهرة. * انتهاء دولة المماليك، وأصبحت مصر ولاية عثمانية.

٢	معركة شبراخيت (بالبحيرة) يوليو ١٧٩٨م	معركة إمبابة (بالقرب من القاهرة) يوليو ١٧٩٨م
الأطراف	المماليك ضد قوات الحملة الفرنسية بقيادة نابليون	
النتائج	* هزيمة المماليك وفرارهم جنوبًا للدفاع عن القاهرة ورابطوا عند إمبابة.	* هزيمة المماليك وفرار كل من : • مراد بك إلى الصعيد. • إبراهيم بك ومعه الوالى العثمانى إلى الشام.

٣	معركة أبى قير البحرية أغسطس ١٧٩٨م	معركة أبى قير البرية يوليو ١٧٩٩م
الأطراف	الأسطول الإنجليزى (بقيادة نلسون) ضد أسطول الحملة الفرنسية	قوات الحملة الفرنسية (بقيادة نابليون) ضد القوات العثمانية
النتائج	* تحطيم وإغراق الأسطول الفرنسى. * حصار الأسطول الإنجليزى لشواطئ مصر الشمالية مما أدى إلى : • القضاء على آمال فرنسا فى السيطرة على سواحل البحر المتوسط. • حرمان الحملة فى مصر من إمدادات فرنسا لها. • شعور الجنود الفرنسيين بأنهم محاصرون داخل مصر. • توقف حركة التجارة الخارجية لمصر.	* هزيمة القوات العثمانية.

٤	ثورة القاهرة الأولى أكتوبر ١٧٩٨م	ثورة القاهرة الثانية مارس ١٨٠٠م
مركز المقاومة	الأزهر الشريف	حى بولاق
قائد الحملة الفرنسية أثناء الثورة	نابليون بونابرت	كليبر
النتائج	* إعدام الكثير من الأهالى والثوار. * فرض غرامات مالية على التجار والعلماء. * شروع القوات الفرنسية فى تحصين مدينة القاهرة.	* أخمدت القوات الفرنسية الثورة ودمرت حى بولاق. * اشتد كليبر فى فرض المزيد من الضرائب ومصادرة الأموال.

٥	الحملة الفرنسية ١٧٩٨م - ١٨٠١م	حملة فريزر (الحملة الإنجليزية) مارس ١٨٠٧م
القائد	نابليون بونابرت ثم كليبر ثم مينو	فريزر
الأسباب (الأهداف)	* تعويض فرنسا عن فقدان مستعمراتها بإنشاء مستعمرة فرنسية فى الشرق تكون قاعدتها مصر. * قطع الطريق بين إنجلترا ومستعمراتها فى الهند.	* احتلال مصر. * خلع محمد على من الحكم. * تولية محمد بك الألفى (تابع إنجلترا المملوكى) الحكم.
النتائج	* تركت الحملة نتائج بعيدة المدى تمثلت فى : • نمو الروح القومية لدى المصريين. • توجيه أنظار الدول الأوروبية خاصة إنجلترا لأهمية موقع مصر الجغرافى والاستراتيجى. • تنظيم أمور الحكم والإدارة. • قيام علماء الحملة الفرنسية بـ : - دراسة شق قناة تربط بين البحر الأحمر والبحر المتوسط. - تأليف كتاب وصف مصر. - اكتشاف حجر رشيد. - إنشاء المجمع العلمى المصرى. • الاهتمام بالناحية الاقتصادية والاجتماعية حيث وضعت الحملة بعض المشروعات للإصلاح فى الزراعة والتجارة والصناعة والصحة العامة.	* هزيمة الحملة الإنجليزية فى رشيد والحماد. * جلاء الحملة من مصر مقابل الإفراج عن الأسرى. * دخول محمد على الإسكندرية منتصرًا.

٦	مذبحة يافا البشرية ١٧٩٩م	مذبحة القلعة مارس ١٨١١م
قام بها	نابليون قائد الحملة الفرنسية ضد حامية مدينة يافا	محمد على والى مصر ضد المماليك
النتائج	* استبسال أهالى عكا فى الدفاع عن مدينتهم ضد قوات الحملة الفرنسية.	* تخلص محمد على من خطر المماليك وانفرد تمامًا بحكم مصر.

٧	اتفاقية العريش ١٨٠٠م	معاهدة لندن الدولية ١٨٤٠م
الأطراف	كليبر قائد الحملة الفرنسية و العثمانيون	السلطان العثمانى و الدول الأوروبية
الأسباب	* إدراك كليبر استحالة بقاء الحملة الفرنسية فى مصر فى ظل الأخطار التى تهددها من كل جانب.	* إدراك الدول الأوروبية أن محمد على يمثل خطرًا على التوازن الدولى نتيجة انتصاراته على السلطان العثمانى وازدياد نفوذه.
الشروط	* خروج الحملة الفرنسية بجنودها إلى فرنسا على نفقة الدولة العثمانية.	* إعادة بلاد الشام وشبه الجزيرة العربية إلى السلطان العثمانى. * تثبيت محمد على فى حكم مصر. * إعلان خضوع محمد على للسلطان العثمانى.

٨	حروب محمد على			
	حروب شبه الجزيرة العربية ١٨١١م : ١٨١٩م (الحروب الوهابية)	ضم السودان ١٨٢٠م : ١٨٢٢م	حروب اليونان ١٨٢١م : ١٨٢٨م	حروب الشام ١٨٣١م : ١٨٣٩م
الأسباب	* القضاء على الحركة الوهابية التى تهدد نفوذ الدولة العثمانية فى شبه الجزيرة العربية (تنفيذًا لأوامر السلطان العثمانى).	* رغبة محمد على فى تحقيق مكاسب سياسية واقتصادية وعسكرية.	* القضاء على ثوار اليونان فى المورة الذين طالبوا بالاستقلال عن الدولة العثمانية (تنفيذًا لأوامر السلطان العثمانى).	* توتر العلاقات بين محمد على والسلطان العثمانى بعد تفاوضه مع الدول الأوروبية لتأمين انسحاب الجيش المصرى من المورة. * تصميم «محمد على» على الانفصال عن الدولة العثمانية والاستقلال بمصر.
النتائج	* سيطرة «محمد على» على شبه الجزيرة العربية.	* امتداد النفوذ المصرى إلى جنوب السودان. * إنشاء مدينة الخرطوم (العاصمة). * اكتشاف منابع نهر النيل.	* هزيمة الجيش وتحطيم الأسطول المصرى فى معركة نفارين عام ١٨٢٧م. * ضم جزيرة كريت لولاية مصر. * علو مكانة مصر دوليًا نتيجة تفاوض الدول الأوروبية مع محمد على مباشرة لإنهاء الحرب دون الرجوع للسلطان العثمانى.	* وصول القوات المصرية إلى الشام وأعالى الفرات. * امتداد النفوذ المصرى فى بلاد الشام.

بم تفسر ...

١ تدهور دولة المماليك اقتصاديًا منذ أواخر القرن الـ ١٥م.

بسبب :

- اكتشاف طريق رأس الرجاء الصالح عام ١٤٩٨م.
- تحطم الأسطول المملوكى فى معركة ديو البحرية عام ١٥٠٩م.

---

٢ تعرضت دولة المماليك لأزمات سياسية أواخر القرن الـ ١٥م وبداية القرن الـ ١٦م.

بسبب :

- اضطراب الأمن.
- الصراع المستمر بين المماليك.
- كثرة الفتن والثورات الداخلية.

---

٣ * اتجاه العثمانيين للاستيلاء على الشام ومصر.

* رغبة سليم الأول فى الاستيلاء على أراضى الدولة المملوكية.

بسبب :

- إدراك السلطان سليم الأول خطورة التوسع والصدام مع دول أوروبا لتفوقها حضاريًا وعسكريًا على العثمانيين.
- رغبة السلطان سليم الأول فى توسيع ممتلكات الدولة العثمانية فى الشرق عن طريق الاستيلاء على مصر التى تمثل قلب العالم الإسلامى.

---

٤ خروج السلطان الغورى من مصر للشام عام ١٥١٦م.

لأن السلطان العثمانى سليم الأول بادر بالاستيلاء على إمارة ذى القادر المملوكية فخرج إليها السلطان الغورى من مصر إلى الشام ودارت بينهما معركة عند مرج دابق عام ١٥١٦م.

---

٥ * هزيمة الجيوش المملوكية أمام الجيش العثمانى بالشام ومصر.

* انتصار العثمانيين على المماليك فى معركتى مرج دابق والريدانية.

بسبب :

- عدم الاستقرار الداخلى للمماليك ونزاعهم المستمر على السلطة.
- التفوق العسكرى للجيش العثمانى واستخدام أساليب القتال الحديثة والأسلحة المتطورة.

٦ **حمل نظام الحكم العثمانى بمصر فى ثناياه (داخله) عوامل ضعفه.**

بسبب : - قصر مدة حكم الوالى التى تتراوح ما بين سنة وثلاث سنوات.

- زيادة سلطة الديوان والحامية العثمانية.

---

٧ **فشل حركة على بك الكبير الاستقلالية بمصر.**

بسبب انحياز نائبه محمد بك أبو الدهب للسلطان العثمانى واتفاقه معه ضد على بك الكبير.

---

٨ **تطلع البكوات المماليك للانفراد بحكم مصر فى النصف الثانى من القرن الـ ١٨م.**

بسبب ضعف الدولة العثمانية منذ منتصف القرن الـ ١٧م.

---

٩ * **تدهور الزراعة فى مصر خلال العصر العثمانى.**

* **تدهور أحوال المجتمع الريفى فى مصر أثناء الحكم العثمانى.**

بسبب معاناة الفلاحين من :

- كثرة الضرائب المفروضة على الأراضى الزراعية، وتعسف وظلم الملتزمين فى جمعها.
- إهمال الطبقة الحاكمة لتنظيم الرى وإقامة السدود وحفر الترع.

---

١٠ **تدهور الصناعة فى مصر أثناء العصر العثمانى.**

بسبب :

- تدهور الزراعة.
- إرسال أمهر الحرفيين والصناع المصريين إلى الآستانة عاصمة الدولة العثمانية.

---

١١ **تدهور التجارة الداخلية فى مصر تحت الحكم العثمانى.**

بسبب :

- تدهور الزراعة والصناعة.
- افتقاد الأمن.
- إهمال الطرق البرية، والإغارات المتلاحقة لبدو الصحراء عليها.

---

١٢ **تدهورت التجارة الخارجية لمصر أثناء الحكم العثمانى.**

بسبب :

- تحول الطريق التجارى بين الشرق والغرب إلى طريق رأس الرجاء الصالح.
- منح الدولة العثمانية الامتيازات الأجنبية للدول الأوروبية.

---

١٣ **اتسمت الحياة الفكرية والثقافية فى مصر بالجمود والتخلف أثناء الحكم العثمانى.**

بسبب العزلة التى فرضها العثمانيون على مصر.

١٤ اصطحاب نابليون لمجموعة من العلماء عند قدوم الحملة الفرنسية إلى مصر.
بهدف دراسة أحوال مصر من جميع النواحى، وكيفية استغلال مواردها.

---

١٥ هزيمة المماليك أمام قوات الحملة الفرنسية.
بسبب اعتماد المماليك على الفروسية، بينما استخدم الفرنسيون المدافع والمعدات الحديثة.

---

١٦ فشل القوات الفرنسية فى إخضاع أهالى الصعيد.
بسبب اتباع أهالى الصعيد حرب المناوشات والمعارك المتفرقة التى أنهكت قوة الفرنسيين نظرًا لطول الوادى.

---

١٧ قيام ثورة القاهرة الأولى فى أكتوبر ١٧٩٨م.
بسبب :
- فرض نابليون ضرائب فادحة على المصريين.
- قيام جنود الحملة بـ :
  - ♦ تفتيش البيوت بحثًا عن الأموال.
  - ♦ هدم أبواب الحارات لمطاردة عناصر المقاومة.
  - ♦ هدم كثير من المبانى والآثار والمساجد بحجة تحصين القاهرة.

---

١٨ تحالف الدولة العثمانية مع إنجلترا وروسيا عام ١٧٩٩م.
بهدف إخراج الفرنسيين من مصر بالقوة العسكرية، ولتحقيق ذلك أعدوا حملتين :
- حملة بحرية : تتوجه إلى مصر من جهة الشمال (البحر المتوسط) عن طريق جزيرة رودس.
- حملة برية : تتوجه إلى مصر من جهة الشرق عن طريق الشام.

---

١٩ الحملة الفرنسية على الشام فى مارس ١٧٩٩م.
بسبب رغبة نابليون فى القضاء على الجيش العثمانى القادم من الشام (الحملة البرية) قبل أن يصل إلى مصر.

---

٢٠ فشل نابليون بونابرت فى دخول مدينة عكا.
بسبب :
- مقاومة واستبسال أهالى عكا بقيادة أحمد باشا الجزار.
- مساعدة الأسطول البريطانى وإمداده لأهالى عكا بالمؤن والذخائر.

٢١ رحيل نابليون سرًا إلى فرنسا بعد معركة أبى قير البرية.

بسبب تحالف الدول الأوروبية ضد فرنسا.

---

٢٢ * رغبة كليبر فى عقد اتفاقية العريش عام ١٨٠٠م.

* كان كليبر من أنصار جلاء الحملة عن مصر.

لأن كليبر أدرك استحالة بقاء الحملة الفرنسية فى مصر فى ظل الأخطار التى تهددها من كل جانب.

---

٢٣ فشل اتفاقية العريش عام ١٨٠٠م.

بسبب رفض حكومة بريطانيا الاتفاق الذى تم بين كليبر والعثمانيين ومطالبتها باستسلام الجيش الفرنسى كأسرى حرب فرفض كليبر.

---

٢٤ اهتمام نابليون بإنشاء الدواوين فى مصر.

بهدف تدريب الأعيان والعلماء المصريين على نظام مجالس الشورى من حيث الاستشارة وتلقى الآراء فيما يعود على الأهالى بالنفع العام فى المجالات المختلفة.

---

٢٥ شهدت مصر فترة فوضى واضطرابات بعد خروج الحملة الفرنسية (١٨٠١م) وحتى تولية محمد على الحكم (١٨٠٥م).

بسبب الصراعات بين المماليك والعثمانيين وإنجلترا رغبة فى استئثار كل منهم فى السيطرة وبسط النفوذ على مصر.

---

٢٦ ثورة الشعب المصرى فى مارس ١٨٠٤م.

بسبب فرض الضرائب والإتاوات على الأهالى.

---

٢٧ نجاح محمد على فى كسب عطف الشعب المصرى وثقة زعمائه عام ١٨٠٤م.

لأنه أثناء ثورة الشعب المصرى مارس ١٨٠٤م قام محمد على بما يلى :

- جاهر بالانضمام إلى العلماء والمشايخ.
- اختلط بالأهالى الساخطين.
- تعهد للعلماء بأن يبذل قصارى جهده لرفع الضريبة عن الناس.
- اقترح تعيين خورشيد باشا واليًا على مصر والذى تم تعيينه من قبل السلطان العثمانى.

٢٨ كان محمد على مقيدًا فى بداية حكمه لمصر.
لأنه عندما اجتمع زعماء الشعب من العلماء ونقباء الطوائف بدار المحكمة وقرروا تعيين محمد على واليًا على مصر أخذوا عليه العهود والمواثيق بأن يحكم بالعدل وألا يُبرم (يصدر) أمرًا إلا بموشورتهم.

---

٢٩ رغبة بريطانيا فى تولية محمد بك الألفى حكم مصر.
لكى تطمئن على مصالحها الاقتصادية فى المنطقة.

---

٣٠ * نفى محمد على للسيد عمر مكرم إلى مدينة دمياط عام ١٨٠٩م.
* تغير موقف محمد على من الزعامة الشعبية بعد توليه الحكم.
لأن محمد على أراد أن ينفرد بالحكم دون وصاية أو رقابة شعبية لذا قرر التخلص من قوة الزعامة الشعبية الممثلة فى السيد عمر مكرم، بعد أن أدرك دورها فى توليه الحكم وفرض قيود عليه عند قبوله الولاية.

---

٣١ * تخلص محمد على من المماليك.
* تدبير محمد على مذبحة القلعة ضد المماليك.
بسبب : - أنهم يمثلون مصدرًا للقلق والفوضى بالنسبة لمحمد على.
- رغبة محمد على فى الانفراد بحكم مصر.

---

٣٢ تنظيم محمد على الاقتصاد المصرى على أساس نظام الاحتكار.
لكى يضمن الدخول فى سوق التجارة الدولية منافسًا لغيره من الدول.

---

٣٣ نشطت التجارة الداخلية والخارجية لمصر فى عهد محمد على.
بسبب : - ازدهار الزراعة والصناعة. - الاستقرار الداخلى للبلاد.

---

٣٤ تدهور طبقة التجار فى مصر أثناء عهد محمد على.
بسبب تطبيق محمد على لنظام الاحتكار فى التجارة.

---

٣٥ اهتمام محمد على بالتعليم والثقافة فى مصر.
بسبب حاجته إلى :
- موظفين لسد حاجة المصالح الحكومية.
- فنيين ومتخصصين فى مختلف الفروع لسد حاجة الجيش والأسطول.

---

٣٦ استعانة محمد على ببعض الأساتذة الأجانب.
بهدف : - التدريس فى المدارس العليا. - المساهمة فى الترجمة.

٣٧ إنشاء محمد على للمطبعة الأميرية فى بولاق.

بهدف :

- طبع الكتب اللازمة للمدارس.
- طبع الكتب الأدبية والفنية.
- إصدار صحيفة الوقائع المصرية.

---

٣٨ اهتمام محمد على ببناء القوة العسكرية لمصر.

لأنه أدرك أن القوة العسكرية هى الدعامة الأساسية لتحقيق أهدافه فى بناء الدولة الحديثة فكانت جميع مشروعاته العمرانية والتعليمية بهدف سد حاجات الجيش.

---

٣٩ نجاح محاولة محمد على فى تجنيد المصريين.

لأنهم أثبتوا كفاءتهم فى :

- الانتظام فى التدريب.
- إطاعة الأوامر العسكرية.
- ميادين القتال الخارجية.

---

٤٠ اهتمام محمد على بالتنظيمات الإدارية فى مصر.

لكى يضمن السيطرة الكاملة على شئون البلاد.

---

٤١ توتر العلاقة بين محمد على والسلطان العثمانى فى نهاية حروب اليونان.

بسبب تفاوض محمد على مع الدول الأوروبية مباشرة دون الرجوع إلى السلطان العثمانى لتأمين انسحاب الجيش المصرى من المورة أثناء حروب اليونان.

---

٤٢ * عقد معاهدة لندن الدولية عام ١٨٤٠م.

* تدخل الدول الأوروبية أمام ازدياد نفوذ محمد على.

بسبب إدراك الدول الأوروبية أن محمد على أصبح يمثل خطرًا على التوازن الدولى نتيجة انتصاراته على السلطان العثمانى وازدياد نفوذه.

ما النتائج التى ترتبت على ...

١ اكتشاف طريق رأس الرجاء الصالح عام ١٤٩٨م.

ترتب على ذلك : - تعرض دولة المماليك لأزمات مالية وتدهور اقتصادى.

- تدهور التجارة الخارجية لمصر أثناء العصر العثمانى.

---

٢ صراع المماليك المستمر فيما بينهم على السلطة.

ترتب على ذلك إضعاف القوة العسكرية لدولة المماليك وبالتالى هزيمتهم وانتهاء دولتهم على يد العثمانيين.

---

٣ * استيلاء العثمانيين على أراضى الدولة المملوكية (الشام ومصر).

* هزيمة الجيوش المملوكية أمام العثمانيين فى معركتى مرج دابق والريدانية.

ترتب على ذلك :

- تحول مصر من دولة مستقلة إلى ولاية عثمانية.
- انتقال خلافة العالم الإسلامى الدينية والسياسية إلى الدولة العثمانية وإعلان سليم الأول نفسه الحامى الوحيد للحرمين الشريفين ولجميع رعاياه فى العالم الإسلامى.
- سيطرة العثمانيين على العالم العربى من الاتجاهين الآسيوى والأفريقى.

---

٤ فشل حركة على بك الكبير الاستقلالية بمصر.

ترتب على ذلك عودة مصر ولاية عثمانية تحت حكم شيخ البلد محمد بك أبو الدهب.

---

٥ انتقال أمهر الحرفيين والصناع المصريين إلى الآستانة أثناء الحكم العثمانى لمصر.

ترتب على ذلك تدهور وتأخر الصناعة المصرية حيث أصبحت الصناعات يدوية بسيطة وكانت جميعها رديئة.

---

٦ حصار الأسطول الإنجليزى لشواطئ مصر الشمالية عام ١٧٩٨م.

ترتب على ذلك :

- القضاء على آمال فرنسا فى السيطرة على سواحل البحر المتوسط.
- حرمان الحملة من إمدادات فرنسا لها.
- شعور الجنود الفرنسيين بأنهم محاصرون داخل مصر.
- توقف حركة التجارة الخارجية لمصر.

٧ * مقاومة أبناء الصعيد للاحتلال الفرنسى.
* فشل القوات الفرنسية فى إخضاع أهالى الصعيد.
نتج عن ذلك تعاظم الشعور الوطنى ونمو الوعى القومى تجاه الاحتلال الفرنسى.

٨ دخول الفرنسيين الجامع الأزهر بخيولهم أثناء ثورة القاهرة الأولى ١٧٩٨م.
ترتب على ذلك إثارة الشعور الدينى لدى المصريين.

٩ مذبحة يافا البشرية.
أدى ذلك إلى مقاومة واستبسال أهالى عكا فى الدفاع عن مدينتهم.

١٠ قيام نابليون بحملة على الشام.
ترتب على ذلك : - فشلت الحملة لعدم دخولها عكا. - اضطر نابليون للعودة إلى مصر.

١١ اتفاقية العريش عام ١٨٠٠م.
ترتب على ذلك :
- فشلت الاتفاقية ولم تخرج الحملة الفرنسية من مصر.
- هاجم كليبر القوات العثمانية بعد أن سمح بدخولها القاهرة وأعادها متقهقرة إلى الشام مرة أخرى.

١٢ اكتشاف حجر رشيد عام ١٧٩٩م.
ترتب على ذلك التعرف على التاريخ المصرى القديم.

١٣ وقوف الزعامة الشعبية بجانب محمد على عام ١٨٠٦م.
ترتب على ذلك رضوخ السلطان العثمانى وتخليه عن فكرة نقل محمد على من ولاية مصر وقام بتثبيته عليها فتدهورت العلاقة بين بريطانيا والسلطان العثمانى.

١٤ معركة نفارين البحرية عام ١٨٢٧م.
ترتب على ذلك تحطيم الأسطول المصرى.

١٥ مفاوضات محمد على مع القوى الأوروبية لتأمين انسحاب جيشه من المورة.
ترتب على ذلك :
- علو مكانة مصر دوليًا.
- توتر العلاقات بين محمد على والسلطان العثمانى.
- نمو فكرة الانفصال عن الدولة العثمانية لدى محمد على وتحقيق استقلال مصر.

دلل ...

١ انقسم المجتمع المصرى أثناء الحكم العثمانى إلى فئتين.

حيث :

(١) **فئة الحكام** : تكونت من الأتراك (العثمانيين) والمماليك، وكان لها كافة السلطات فى شئون الحكم والإدارة والجيش.

(٢) **فئة المحكومين، انقسمت إلى :**

- ♦ **طبقة وسطى (محدودة)** : تكونت من المشايخ وعلماء الأزهر ورجال الدين وكبار التجار.
- ♦ **طبقة دنيا (أكثرية)** : تكونت من الفلاحين وصغار الحرفيين وعامة الناس، وقد عانت من الفقر والظلم وتفشى الأمراض والأوبئة.

٢ اتسمت الحياة الفكرية والثقافية فى مصر بالجمود والتخلف أثناء الحكم العثمانى.

حيث :

- اهتزت مكانة الأزهر العلمية فى ذلك الوقت ولم يعد هنالك اهتمام بالعلوم العقلية والرياضية والطبيعية واقتصر الاهتمام على العلوم الشرعية.
- تدهورت الحياة الأدبية.
- انتشر الجهل والدجل والشعوذة والخرافات.

٣ ترك نابليون قيادة الحملة الفرنسية لنائبه كليبر فى مصر والأخطار تهددها من كل جانب.

حيث تمثلت الأخطار فى :

- تناقص عدد جنود الجيش الفرنسى بسبب المعارك والحروب الداخلية والخارجية.
- إرسال الدولة العثمانية حملة جديدة إلى العريش ودمياط.
- عودة المماليك للمقاومة.
- تجدد ثورات المصريين فى الشرقية وامتدادها إلى وسط الدلتا وغربها.

٤ تشابهت سياسة نابليون وكليبر فى التعامل مع ثورات المصريين.

حيث قام كل من نابليون وكليبر بإخماد ثورتى القاهرة الأولى والثانية بالقوة والقمع والإرهاب وفرضهم للغرامات المالية والضرائب.

٥ كان لإنجلترا دور كبير فى فشل الحملة الفرنسية على مصر.

حيث :

- انتصر الأسطول الإنجليزى على أسطول الحملة الفرنسية فى معركة أبى قير البحرية والذى أثر على أحوال الحملة فى مصر.
- أرسلت إنجلترا أسطولًا حربيًا إلى أبى قير فى فبراير ١٨٠١م لإخراج الحملة الفرنسية من مصر، وانضم إليه الجيش العثمانى، فلم تستطع القوات الفرنسية المقاومة فاستسلمت وغادرت مصر.

٦ كان لرفض إنجلترا اتفاقية العريش آثار عسكرية سلبية على العثمانيين.
حيث هاجم كليبر القوات العثمانية بعد أن سمح لهم بدخول القاهرة وأعادهم متقهقرين إلى الشام مرة أخرى.

---

٧ لم تكن الحملة الفرنسية على مصر مجرد حملة عسكرية تقليدية.
حيث :
- اصطحب نابليون مجموعة من العلماء فى مختلف العلوم والفنون.
- عمل نابليون على تطوير نظم الحكم والإدارة.
- اهتم الفرنسيون بوضع مشروعات إصلاحية فى المجالات الاقتصادية والاجتماعية.

---

٨ أيقظت الحملة الفرنسية على مصر الروح القومية لدى المصريين.
حيث ظهر ذلك واضحًا بعد خروج الحملة الفرنسية من مصر عندما تمسك المصريون بحقهم فى الحرية وفى اختيار حاكمهم.

---

٩ قام علماء الحملة الفرنسية بعدد من الأعمال أثناء وجود الحملة بمصر.
حيث قاموا بـ :
- دراسة شق قناة تربط بين البحر الأحمر والبحر المتوسط.
- إنشاء المجمع العلمى المصرى.
- تأليف كتاب وصف مصر. - اكتشاف حجر رشيد ١٧٩٩م.

---

١٠ كان للحملة الفرنسية على مصر آثار اقتصادية واجتماعية.
حيث اهتم الفرنسيون بوضع مشروعات للإصلاح فى المجالات التالية :
- الزراعة : من خلال تنويع المحاصيل الزراعية والاهتمام بمشاريع الرى.
- الصناعة : من خلال إنشاء مصانع للنسيج وبعض الصناعات الدقيقة والدباغة وصناعة حروف الطباعة.
- التجارة : من خلال فتح أسواقًا لمصر فى بلاد البحر الأحمر ودارفور فى السودان والحبشة وبلاد شمال أفريقيا.
- الصحة العامة : أنشأ الفرنسيون المحاجر الصحية فى القاهرة، والعديد من المدن الأخرى.

---

١١ * نجاح الإرادة الشعبية فى تغيير المشهد السياسى بمصر فى ١٣ مايو ١٨٠٥م.
* لعبت الزعامة الشعبية دورًا مهمًا فى تولية محمد على حكم مصر.
حيث اجتمع زعماء الشعب من العلماء ونقباء الطوائف فى ١٣ مايو ١٨٠٥م بدار المحكمة «بيت القاضى» وقرروا عزل خورشيد باشا من ولاية مصر وتولية محمد على بدلًا منه (وأخذوا عليه العهود والمواثيق أن يحكم بالعدل وألا يبرم أمرًا إلا بمشورتهم) فكانت هذه أول مرة يُعزل فيها الوالى ويعين آخر بإرادة الشعب وشروطه.

١٢ * وجود تواطؤ بين الإنجليز والمماليك للسيطرة على مصر فى بداية حكم محمد على.
* حاولت بريطانيا التخلص من محمد على أكثر من مرة منذ توليه حكم مصر حتى ١٨٠٧م.

حيث :

- حاولت بريطانيا إقناع السلطان العثمانى بعزل محمد على وتولية محمد بك الألفى (تابعها المملوكى) أو أى والٍ عثمانى آخر فاستجاب السلطان وأصدر فرمان عام ١٨٠٦م يتضمن نقل محمد على واليًا على سالونيك ولكنه لم ينفذ الفرمان بسبب وقوف الزعامة الشعبية بجانبه.
- أرسلت بريطانيا حملة عسكرية بقيادة فريزر عام ١٨٠٧م لخلع محمد على وتولية محمد بك الألفى الحكم لكنها فشلت.

---

١٣ تغير موقف محمد على من الزعامة الشعبية بعد توليه الحكم.

حيث أدرك دور الزعامة الشعبية فى توليته الحكم والقيود التى فرضتها عليه عند قبوله الولاية لذلك أخذ يترقب الوقت المناسب للتخلص من الزعامة الشعبية الممثلة فى السيد (عمر مكرم) فقام بخلعه من نقابة الأشراف وإبعاده «نفيه» إلى دمياط عام ١٨٠٩م.

---

١٤ اتخذ محمد على عدة أساليب للتخلص من المماليك.

حيث قام بـ :

- حرمانهم من تولى المناصب الرفيعة فى الدولة، مثل مشيخة البلد.
- مطاردتهم فى كل مكان. - تدبير مذبحة القلعة فى مارس ١٨١١م.

---

١٥ * اتبع محمد على سياسة زراعية تهدف إلى توفير أكبر قدر من الإنتاج الزراعى.
* تعددت أساليب محمد على لتطوير الزراعة فى مصر.

حيث قام بـ :

- تزويد الفلاحين بكل ما يلزم الزراعة.
- إدخال أساليب حديثة وغلات زراعية جديدة.
- إنشاء مدرسة للزراعة واستقدام الخبراء الزراعيين من الخارج.
- تحسين طرق الرى فقام بحفر ترعة المحمودية، وإنشاء العديد من القناطر على النيل وأهمها القناطر الخيرية.

---

١٦ طبق محمد على نظام الاحتكار فى الزراعة.

حيث قام بتحديد نوع الغلات التى تُزرع كما حدد أثمان شرائها وأثمان بيعها فى السوق.

١٧ قام محمد على بتطوير وتحديث الإنتاج الصناعى فى مصر.

حيث اتبع الإجراءات التالية :

- إقامة المصانع الحكومية مثل مصانع الغزل والنسيج، والورق، والسكر.
- جمع الصبية للعمل فى مصانع الدولة بأجور رمزية فأصبحت بمثابة مدارس صناعية.
- الاستعانة بالخبرات الأجنبية وإرسال بعثات للخارج وترجمة الكتب الخاصة بمختلف الصناعات.

---

١٨ طبق محمد على نظام الاحتكار فى الصناعة.

حيث اتبع سياسة تهدف إلى السيطرة على الإنتاج الصناعى وتوزيعه من خلال :

- إمداد الصناع بالمواد الخام اللازمة للصناعة.
- شراء المنتجات الصناعية بالثمن الذى تحدده الحكومة.

---

١٩ طبق محمد على نظام الاحتكار فى التجارة.

حيث قام بـ :

- تسويق جميع الحاصلات الزراعية والمنتجات الصناعية بعد شرائها وجمعها فى مخازن الدولة.
- البيع للتجار الأجانب فى مصر.
- البيع فى الخارج لحساب الحكومة المصرية.
- احتكار تجارة الواردات.

---

٢٠ اهتم محمد على بالنقل والمواصلات فى مصر.

حيث قام بـ :

- تمهيد وتأمين الطرق البرية والبحرية.
- بناء أسطول فى البحرين الأحمر والمتوسط.
- تطهير البحر الأحمر من القرصنة.
- حفر الترع والاهتمام بالموانئ المصرية.

---

٢١ أثرت سياسة محمد على الاقتصادية فى تشكيل وبناء القوى الاجتماعية فى مصر.

حيث :

- انتهى نفوذ المماليك كهيئة حاكمة وحل محلها أسرة محمد على وبعض العناصر التركية.
- تضاءل نفوذ علماء الأزهر والقيادات الشعبية وتدهور طبقة التجار.
- ظهرت طبقة الأعيان وطبقة عمال الصناعة مع استمرار طوائف الحرف كوسطاء للحكومة.
- ظهر البدو كقوة اجتماعية مستقرة.

٢٢ اهتمام محمد على بالتعليم والثقافة فى مصر.

حيث قام بـ:

- إنشاء المدارس الحديثة، مثل: الطب والزراعة والمهندسخانة وغيرها.
- إرسال البعثات العلمية إلى أوروبا.
- الاستعانة ببعض الأساتذة الأجانب.
- إنشاء المطبعة الأميرية فى بولاق.

---

٢٣ اهتم محمد على ببناء القوة العسكرية لمصر.

حيث قام بـ:

- إنشاء المدارس العسكرية لإعداد الضباط، مثل المدرسة العسكرية بأسوان واستقدام ضباط ومعلمين ذوى خبرة ودراية من أوروبا وكان أشهرهم الكولونيل سيف.
- إعداد الجنود فبدأ بتجنيد السودانيين ثم اتجه لتجنيد المصريين.
- إنشاء الأسطول فأسس ترسانة بحرية لصناعة السفن فى بولاق ثم فى الإسكندرية.
- إنشاء ترسانة فى القلعة لتصنيع الأسلحة.
- إنشاء القلاع فى الإسكندرية ورشيد ودمياط للدفاع عن البلاد.

---

٢٤ اهتمام محمد على بإنشاء الأسطول.

حيث:

- أسس ترسانة بحرية لصناعة السفن فى بولاق ثم فى الإسكندرية وزودها بكافة أنواع الأسلحة.
- أعد أماكن لتدريب وتعليم البحارة والجنود.

---

٢٥ أعاد محمد على تنظيم الإدارة فى مصر.

حيث:

- قسم مصر إداريًا إلى سبع مديريات، وعلى رأس هذا النظام الإدارى حكومة مركزية فى القاهرة وتصدر منها جميع الأوامر واجبة التنفيذ.
- أنشأ عدة مجالس ودواوين، منها مجلس المشورة والديوان العالى.
- أصدر لائحة جديدة عام ١٨٣٧م لإعادة تنظيم الإدارة إلى سبعة دواوين (وزارات) وحدد اختصاصاتها.

ما العلاقة بين ...

١ **معركة أبى قير البحرية، وثورة القاهرة الأولى أكتوبر ١٧٩٨م.**
أدت نتائج معركة أبى قير البحرية من حرمان الحملة من إمدادات فرنسا لها إلى قيام نابليون بفرض الضرائب الفادحة على المصريين وقيام الجنود بتفتيش بيوت المصريين بحثًا عن الأموال فقام المصريون بالثورة ضد الحملة الفرنسية.

٢ **مذبحة يافا، ونتائج الحملة الفرنسية على الشام ١٧٩٩م.**
أدى قيام نابليون بمذبحة يافا إلى استبسال أهالى عكا بقيادة أحمد باشا الجزار وبالتالى فشل نابليون فى دخول عكا وفشل الحملة الفرنسية على الشام.

٣ **الحملة الفرنسية على مصر، وتاريخ مصر القديم.**
أدى اكتشاف قوات الحملة الفرنسية لحجر رشيد عام ١٧٩٩م إلى التعرف على التاريخ المصرى القديم.

ماذا كان يحدث إذا ...

١ *** نجحت حركة على بك الكبير الاستقلالية فى مصر.**
*** لم ينحاز محمد بك أبو الدهب للسلطان العثمانى ضد على بك الكبير.**
لاستطاع على بك الكبير الاستقلال بمصر عن الدولة العثمانية وإعادة دولة المماليك التى تضم مصر والشام والحجاز.

٢ **قبلت الحكومة البريطانية اتفاقية العريش ١٨٠٠م.**
لخرجت الحملة الفرنسية من مصر عام ١٨٠٠م على نفقة الدولة العثمانية أثناء قيادة كليبر للحملة.

٣ **لم تقف الزعامة الشعبية بجانب محمد على ضد فرمان ١٨٠٦م.**
لتم نقل محمد على من ولاية مصر إلى ولاية سالونيك فى مقدونيا وتولى الحكم الوالى العثمانى الذى جاء مع الأسطول العثمانى.

٤ **لم تفرض الدول الأوروبية معاهدة لندن ١٨٤٠م على (محمد على).**
- لم يتم إعادة بلاد الشام وشبه الجزيرة العربية إلى السلطان العثمانى.
- استقل محمد على عن الدولة العثمانية.
- كان سيصبح محمد على قوى عظمى تخشاها الدول الأوروبية.

الوحدة
الرابعة

مصر والزحف الاستعمارى ومحاولات التحرر الوطنى



- أهم المخططات ...
- من هو ...
- بم تفسر ...
- دلل ...
- ماذا كان يحدث إذا ...
- ما المقصود بـ ...
- أهم الجداول والمقارنات ...
- ما النتائج التى ترتبت على ...
- ما العلاقة بين ...

أهم المخططات ...

١ أهم الوزارات فى مصر منذ عهد إسماعيل وحتى ثورة ٢٣ يوليو ١٩٥٢ م

فى عهد الخديو إسماعيل

- **وزارة نوبار** أغسطس ١٨٧٨م ← تألفت بناءً على طلب لجنة التحقيق العليا الأوروبية وعُرفت بـ(الوزارة المختلطة) حيث كان بها وزيران أجنبيان أحدهما بريطانى للمالية والآخر فرنسى للأشغال.

فى عهد الخديو توفيق

- **وزارة رياض** ← ساءت فى عهدها أحوال مصر الاقتصادية وقد تم إسقاطها نتيجة لمظاهرة عابدين ٩ سبتمبر ١٨٨١م.
- **وزارة شريف ١٨٨١م**
  - ← تألفت بعد مظاهرة عابدين.
  - ← أجرت الانتخابات لاختيار أعضاء مجلس النواب الجديد وافتتح فى ديسمبر ١٨٨١م.
  - ← أصدرت اللائحة الأساسية (الدستور) والتى لم تتضمن حق مجلس النواب فى مناقشة الميزانية ونتيجة لإصرار المجلس على ذلك قدمت الوزارة استقالتها.
- **وزارة البارودى** فبراير ١٨٨٢م
  - ← تشكلت بعد استقالة وزارة شريف وعرفت بـ (وزارة الثورة).
  - ← أصدرت اللائحة الأساسية (الدستور) والتى نصت على مبدأ مسئولية الوزارة أمام مجلس النواب وأقرت حق المجلس فى مناقشة الميزانية .
- **وزارة راغب** ٢٠ يونيه ١٨٨٢م ← تشكلت عقب استقالة وزارة البارودى بعد أن ظلت البلاد بدون وزارة لمدة أسبوعين، وظل عرابى وزيرًا للحربية فى هذه الوزارة.

فى عهد فؤاد الأول (سلطانًا ١٩١٧ م : ١٩٢٢ م) (ملكًا ١٩٢٢م : ١٩٣٦م)

- **وزارة عدلى يكن** مارس ١٩٢١م ← استقالت لفشل مفاوضاتها مع كيرزون وزير خارجية بريطانيا.
- **وزارة عبدالخالق ثروت** ← شكلت لجنة من ثلاثين عضوًا لإعداد الدستور الذى عُرف بدستور ١٩٢٣م.
- **وزارة سعد زغلول** يناير ١٩٢٤م
  - ← أول وزارة برلمانية فى مصر وعرفت بـ **(وزارة الشعب)**.
  - ← استقالت اعتراضًا على إنذار المندوب السامى البريطانى (اللورد اللنبى) فى ٢٢ نوفمبر ١٩٢٤م الذى كان من مطالبه سحب الجيش المصرى من السودان.
- **وزارة زيور**
  - ← تشكلت بعد استقالة وزارة سعد زغلول.
  - ← وافقت على المطالب التى جاءت فى الإنذار البريطانى والتى سبق ورفضها سعد زغلول.
- **وزارة إسماعيل صدقى** يونيه ١٩٣٠م ← ألغت دستور ١٩٢٣م ووضعت مكانه دستور ١٩٣٠م.

فى عهد الملك فاروق

- **وزارة مصطفى النحاس**
  - ← تشكلت بعد حادث ٤ فبراير ١٩٤٢م.
  - ← ألغت معاهدة ١٩٣٦م فى أكتوبر ١٩٥١م بعد توليه الوزارة مرة أخرى.

٢ أهم شروط الامتياز الثانى لحفر قناة السويس يناير ١٨٥٦ م

١ **تمنح الحكومة المصرية الشركة الحق فى :**
- إنشاء قناة السويس.
- حفر ترعة المياه الصالحة للملاحة النيلية (سميت بترعة الإسماعيلية فيما بعد).
- إنشاء فرعين للرى والشرب يستمدان مياههما من ترعة الإسماعيلية.

٢ تتنازل الحكومة المصرية للشركة مجانًا عن جميع الأراضى المملوكة لها والمطلوبة لإنشاء القناة المالحة وترعة المياه العذبة

٣ تفرض الشركة ما تشاء من رسوم على السفن التى تمر فى القناة المالحة أو ترعة المياه العذبة

٤ يكون أربعة أخماس (٨٠ ٪) العمال من المصريين

٥ تحصل مصر على ١٥ ٪ من صافى الأرباح مقابل الأراضى والامتيازات الممنوحة للشركة

٦ يصدق السلطان العثمانى على امتياز حفر القناة شرطًا لصحته

٣ مظاهر ازدياد التدخل الأجنبى فى شئون مصر فى عهد الخديو إسماعيل

١ المحاكم القنصلية

٢ الامتيازات الأجنبية

٣ المحاكم المختلطة (١٨٧٥م)

٤ بعثة كيف (ديسمبر ١٨٧٥م)

٥ صندوق الدين (مايو ١٨٧٦م)

٦ المراقبة الثنائية (نوفمبر ١٨٧٦م)

٧ لجنة التحقيق العليا الأوروبية (يناير ١٨٧٨م)

٨ الوزارة المختلطة (أغسطس ١٨٧٨م)

٤ أهم مطالب لجنة التحقيق العليا الأوروبية يناير ١٨٧٨ م

١ تنازل الخديو إسماعيل عن سلطته المطلقة لوزارة مسئولة عن الحكم فى البلاد

٢ تنازل الخديو إسماعيل عن أطيانه وأطيان عائلته ووضعها تحت الرقابة الدولية مقابل مخصصات مالية تصرف لهم

٥ مطالب الأمة التى قدمها عرابى للخديو توفيق ٩ سبتمبر ١٨٨١ م

١ إسقاط حكومة رياض باشا المستبدة

٢ تشكيل مجلس نواب على النسق الأوروبى

٣ زيادة عدد الجيش إلى ١٨ ألف جندى

٦ كفاح مصطفى كامل ضد الاحتلال البريطانى

داخل مصر

* وجّه خطبه ومقالاته للمصريين فكانت بمثابة :
  - الحث على التمسك بالوحدة الوطنية والإخلاص لمصر.
  - محاربة اليأس واستثارة روح الكرامة فى نفوسهم.
* طالب بالدستور.
* أسس جريدة اللواء عام ١٩٠٠م.
* أعلن تأسيس الحزب الوطنى رسميًا عام ١٩٠٧م.
* دعا إلى إنشاء الجامعة المصرية عام ١٩٠٨م «جامعة القاهرة حاليًا».

خارج مصر

* دعا إلى رفض اتفاقية الحكم الثنائى للسودان التى عقدت فى يناير ١٨٩٩م.
* عرّف الرأى العام الأوروبى والقوى الدولية خاصة فرنسا بحق مصر فى الاستقلال ورفضها للاحتلال وسياساته.
* استغل حادثة دنشواى عام ١٩٠٦م للتنديد بالاحتلال البريطانى وسياسته القمعية.

ما المقصود بـ ...

اللائحة السعيدية	لائحة أصدرها محمد سعيد باشا فى أغسطس ١٨٥٨م والتى بموجبها أصبح للفلاح الحق فى توريث الأرض الزراعية.
محاكم قنصلية	محاكم ظهرت بعد أن زادت قبضة القناصل الأجانب واختصت بالنظر فى الجرائم التى يرتكبها الرعايا الأجانب ضد المصريين والحكومة المصرية نفسها.
امتيازات أجنبية	تسهيلات منحتها الدولة العثمانية لرعايا بعض الدول الأوروبية تشجيعًا لهم على الإقامة والتجارة وتعهدت لهم بالمحافظة على أموالهم وأرواحهم وإعطائهم حق الرجوع إلى قناصلهم فى شئونهم التجارية والشخصية.
محاكم مختلطة	محاكم أنشأها الخديو إسماعيل عام ١٨٧٥م بهدف الحد من مساوئ المحاكم القنصلية وكان قضاتها أجانب ومصريين.
مراقبة ثنائية	نظام اقترحته الدول الأوروبية لفرض رقابة على المالية المصرية عن طريق تعيين مراقبين أجنبيين أحدهما بريطانى للإيرادات والآخر فرنسى للمصروفات.
احتلال	الاستيلاء على أرض الغير بالقوة.

الاتفاق الودى	اتفاق عُقد بين إنجلترا وفرنسا عام ١٩٠٤م نص على انفراد إنجلترا بحكم مصر مقابل انفراد فرنسا بحكم مراكش «المغرب حاليًا».
حماية بريطانية	خضوع مصر المطلق للاحتلال البريطانى.
حق تقرير المصير للشعوب	مبدأ من المبادئ الأربعة عشر التى دعا إليها الرئيس الأمريكى ولسن أثناء الحرب العالمية الأولى.

من هو ...

عباس باشا الأول	* تولى حكم مصر فى الفترة (١٨٤٨م : ١٨٥٤م). * فى عهده توقفت حركة النهضة التى ظهرت فى عهد محمد على.
محمد سعيد باشا	* تولى حكم مصر فى الفترة (١٨٥٤م : ١٨٦٣م). * منح فرديناند ديليسبس عقدين لامتياز حفر قناة السويس الأول نوفمبر ١٨٥٤م والثانى فى يناير ١٨٥٦م. * شهدت البلاد فى عهده بداية الأزمة المالية حيث عقد أول قرض مع أحد البنوك البريطانية عام ١٨٦٢م.
الخديو إسماعيل	* تولى حكم مصر فى الفترة (١٨٦٣م : ١٨٧٩م). * قام بافتتاح قناة السويس فى ١٧ نوفمبر ١٨٦٩م. * أنشأ دار الأوبرا وقصر عابدين. * مد نفوذ مصر إلى ساحل البحر الأحمر بكامله عام ١٨٧٥م. * فى عهده ازدادت الأزمة المالية والتدخل الأجنبى فى شئون مصر. * أصدر مرسومًا بإنشاء صندوق الدين بمصر فى مايو ١٨٧٦م. * أصدر مرسومًا بإنشاء المراقبة الثنائية فى نوفمبر ١٨٧٦م. * أصدر مرسومًا بتأليف لجنة تحقيق عليا أوروبية فى يناير ١٨٧٨م ووافق على مطالبها. * أصدر مرسومًا بتأليف وزارة مسئولة (الوزارة المختلطة) برئاسة نوبار. * أصدر مرسومًا فى أبريل ١٨٧٩م بتسوية الديون طبقًا لما قررته اللائحة الوطنية (اللائحة الأساسية). * عُزل عن الحكم بفرمان من السلطان العثمانى فى يونيه ١٨٧٩م.

المستر كييف	موظف كفء أرسلته بريطانيا إلى مصر فى ديسمبر ١٨٧٥م بناءً على طلب الخديو إسماعيل لدراسة أسباب سوء الأوضاع المالية فى مصر وتقديم المقترحات لعلاج الأزمة المالية.
الخديو توفيق	* تولى حكم مصر فى يونيه ١٨٧٩م : ١٨٩٢م بعد عزل أبيه الخديو إسماعيل. * أعاد نظام المراقبة الثنائية، ورفض اللائحة الأساسية (الدستور) لمجلس النواب. * ازداد فى عهده التدخل الأجنبى فى شئون البلاد، وقامت الثورة العرابية. * أصدر أمرًا بعزل عرابى من وزارة الحربية فى يوليو ١٨٨٢م. * فى عهده تم الاحتلال البريطانى لمصر سبتمبر ١٨٨٢م.
عثمان رفقى	* كان ناظرًا للجهادية (وزير الحربية) فى وزارة رياض باشا. * عزله الخديو توفيق بناءً على تحرك رجال الجيش وعلى رأسهم عرابى مطالبين بعزله فيما عرف بـ (حادثة قصر النيل منتصف يناير ١٨٨١م).
أحمد عرابى	* أحد ضباط الجيش المصرى وقائد الثورة العرابية. * قاد مظاهرة عابدين فى ٩ سبتمبر ١٨٨١م. * عُين وزيرًا للجهادية والبحرية فى وزارة محمود سامى البارودى. * عقد مجلسًا عسكريًا للنظر فى أمر قناة السويس عندما تحركت القوات البريطانية إليها بعد انسحابها من الإسكندرية وقد أجمع المجلس على تعطيل الملاحة فى القناة. * أُعتقل مع زملائه بعد فشل الثورة العرابية وحُكم عليهم بالإعدام فى ديسمبر ١٨٨٢م، ثم عُدل الحكم بالنفى المؤبد إلى جزيرة سيلان بالهند ومصادرة أملاكهم.
فرديناند ديليسبس	* فرنسى حصل من سعيد باشا على امتيازين لحفر قناة السويس. * منع عرابى من تعطيل الملاحة فى القناة مؤكدًا له على حيادية القناة وفقًا للاتفاقيات الدولية ورغم ذلك تواطأ مع الإنجليز وسهل دخول أسطولهم إلى مياه القناة.
محمد عبيد	ضابط فى الجيش المصرى صمد بقواته أمام القوات البريطانية فى معركة التل الكبير إلى أن استشهد هو ومعظم رجاله.

عبدالله النديم	* خطيب الثورة العرابية. * لم يُعتقل مع زعماء الثورة حيث لم تستطع الحكومة أن تصل إليه.
مصطفى كامل	* زعيم مصرى تولى قيادة الحركة الوطنية ضد الاحتلال البريطانى فى أواخر القرن الـ ١٩م. * دعا إلى رفض اتفاقية الحكم الثنائى فى السودان يناير ١٨٩٩م. * أسس جريدة اللواء عام ١٩٠٠م. * أسس الحزب الوطنى عام ١٩٠٧م. * دعا إلى إنشاء الجامعة المصرية «جامعة القاهرة حاليًا» فأنشئت عام ١٩٠٨م. * توفى عام ١٩٠٨م.
اللورد كرومر	المعتمد البريطانى فى مصر الذى استقال نتيجة تنديد مصطفى كامل بحادثة دنشواى.
محمد فريد	* زعيم مصرى، تولى رئاسة الحزب الوطنى بعد وفاة مصطفى كامل. * طالب بإنشاء مجلس نيابى له سلطات واسعة وإنشاء نقابات للعمال. * دعا لإنشاء مدارس الشعب الليلية لتعليم العمال والفقراء مجانًا. * دعا إلى جعل التعليم إلزاميًا وبالمجان فى المرحلة الابتدائية. * عارض مشروع مد امتياز قناة السويس ٤٠ عامًا أخرى. * توفى فى نوفمبر ١٩١٩م.
الخديوعباس حلمى الثانى	كان مؤازرًا للحركة الوطنية فى بداية حكمه ثم تحول إلى موالاة الاحتلال الإنجليزى.
ولسن	الرئيس الأمريكى الذى اعترف بالحماية البريطانية على مصر فى مؤتمر الصلح بباريس، وهو صاحب المبادئ الأربعة عشر ومنها مبدأ حق الشعوب فى تقرير مصيرها.
أحمد فؤاد الأول	* أعلن نفسه ملكًا على مصر فى مارس ١٩٢٢م. * أعاد العمل بدستور ١٩٢٣م وألغى دستور ١٩٣٠م رضوخًا لمطالب الأمة.
سعد زغلول	* زعيم مصرى، رأس الوفد المصرى الذى قابل المندوب السامى البريطانى فى مصر نوفمبر ١٩١٨م وطلب منه إلغاء الحماية البريطانية والسماح للوفد بالسفر إلى باريس لحضور مؤتمر الصلح لعرض المطالب الوطنية. * تم نفيه إلى جزيرة مالطة فى مارس ١٩١٩م، ثم أفرجت عنه الحكومة البريطانية وسمحت له بالسفر لمؤتمر الصلح. * تم نفيه مرة أخرى إلى جزيرة سيشل بعد فشل مفاوضات عدلى/كيرزون.

السير ونجت	* المندوب السامى البريطانى فى مصر الذى رفض السماح للوفد المصرى بالسفر إلى باريس لعرض المطالب الوطنية على مؤتمر الصلح وألقى القبض على سعد زغلول وزملائه. * تم عزله بعد ثورة المصريين عام ١٩١٩م.
الجنرال اللنبى	* المندوب السامى البريطانى فى مصر الذى عُين بعد عزل السير ونجت. * قدم إنذارًا للحكومة المصرية فى ٢٢ نوفمبر ١٩٢٤م بعد مقتل السير لى ستاك.
اللورد ملنر	* وزير المستعمرات البريطانية، أرسلته الحكومة البريطانية فى ديسمبر ١٩١٩م على رأس لجنة لإقناع الشعب المصرى بقبول الحماية البريطانية ورفض الشعب التفاوض. * تفاوض مع الوفد المصرى برئاسة سعد زغلول وانتهت المفاوضات بمشروع معاهدة رفضها الشعب المصرى بجميع طوائفه.
كيرزون	وزير خارجية بريطانيا الذى دارت المفاوضات بينه وبين رئيس الوزراء المصرى عدلى يكن مارس ١٩٢١م.
السير لى ستاك	القائد العام للجيش المصرى والحاكم العام للسودان والذى أغتيل فى ١٩ نوفمبر ١٩٢٤م.
الملك فاروق	* تولى حكم مصر بعد الملك فؤاد الأول. * قامت بريطانيا بتوجيه إنذار له فى ٤ فبراير ١٩٤٢م وحاصرت قصره بالدبابات وهددت بخلعه عن العرش.
مصطفى النحاس	* رأس الجانب المصرى فى المفاوضات مع بريطانيا التى انتهت بعقد معاهدة ١٩٣٦م. * فى أكتوبر ١٩٥١م أطلق الحرية للشعب المصرى للنضال المسلح ضد القوات البريطانية فى القناة.

١ أحوال مصر الاقتصادية فى عصر خلفاء محمد على

عباس باشا الأول	محمد سعيد باشا	الخديو إسماعيل	الخديو توفيق حتى قيام ثورة يوليو ١٩٥٢م «مصر تحت الاحتلال البريطانى»
* أغلقت معظم المصانع التى أنشأها محمد على.	* اهتم بإصلاح أحوال الفلاحين حيث أصدر فى أغسطس ١٨٥٨م اللائحة السعيدية، والتى بموجبها أصبح للفلاح الحق فى توريث الأرض الزراعية. * اهتم بتطهير ترعة المحمودية لتفى بحاجة الرى والزراعة.	* **الزراعة :** • زادت مساحة الأراضى الزراعية. • تم حفر العديد من الترع، أهمها : ترعة الإبراهيمية. • تم إنشاء قناطر على النيل. * **الصناعة :** • أعاد نشاط الكثير من المصانع. • توسع فى إنشاء مصانع السكر فى الوجه القبلى.	* فرضت سلطات الاحتلال سياسة اقتصادية تخدم المصالح البريطانية **حيث قاموا بـ :** • التوسع فى زراعة القطن لتوفير المادة الخام اللازمة للمصانع البريطانية. • محاربة الصناعة المصرية بتسويق المنتجات البريطانية والأجنبية فى السوق المصرية. ونتج عن هذه السياسة ظهور طبقة من كبار الملاك والأعيان تستفيد من هذه السياسة، ويرتبط نموها الاقتصادى باستمرار بقاء الاحتلال.

٢ أحوال مصر التعليمية والثقافية فى عصر خلفاء محمد على

عباس باشا الأول	محمد سعيد باشا	الخديو إسماعيل	الخديو توفيق «مصر تحت الاحتلال البريطانى»
* أُغلقت معظم المدارس.	* ألغى ديوان المدارس وفى نفس الوقت شجع البعثات الأجنبية فى مصر على فتح مدارس لها بالقاهرة والإسكندرية.	* أعاد فتح ديوان المدارس. * توسع فى إنشاء المدارس المختلفة. * أنشأ دار الرصد بالعباسية، ودار الكتب، ومصلحة الإحصاء والمساحة والجمعية الجغرافية عام ١٨٧٥م.	* أهمل الاحتلال البريطانى التعليم وجعله بمصروفات مرتفعة وحصره فى فئة قليلة بهدف تخريج مجموعة من الموظفين للعمل فى الإدارات والمصالح الحكومية.

٣ الجيش والبحرية فى مصر خلال عصر خلفاء محمد على

عباس باشا الأول	محمد سعيد باشا	الخديو إسماعيل	الخديو توفيق «مصر تحت الاحتلال البريطانى»
* تم تخفيض حجم الجيش. * عُطلت أعمال الترسانة البحرية.	* جعل مدة الخدمة العسكرية سنة واحدة إجبارية للجميع. * فتح باب الترقى أمام الضباط المصريين. * اعتنى بالترسانة البحرية فبدأ فى إصلاح السفن وتجديد الأسطول.	* اهتم بتنظيم الجيش وتسليحه ومضاعفة قوته. * اهتم بنهضة التعليم البحرى.	* أنشأ الإنجليز جيش مصرى لا يتجاوز عدده ستة آلاف جندى يتولى قيادته ضابط إنجليزى. * انحصرت مهمة الجيش فى إقرار الأمن وحفظ النظام.

٤ وسائل النقل والمواصلات والاتصالات فى مصر خلال عصر خلفاء محمد على		
عباس باشا الأول	محمد سعيد باشا	الخديو إسماعيل
* أصلح الطريق البرى بين القاهرة والسويس. * بدأ فى إنشاء أول خط حديدى بين القاهرة والإسكندرية عام ١٨٥٢م.	* أتم الخط الحديدى بين القاهرة والإسكندرية. * أنشأ خط حديدى من القاهرة إلى السويس. * مد الخطوط التلغرافية على الطريقة الحديثة بين الإسكندرية والقاهرة والسويس.	* مد الخطوط التلغرافية بين مختلف محافظات مصر. * أنشأ مصلحة بريد مصرية لها مكاتب فى الإسكندرية والقاهرة والأقاليم.

٥	المحاكم القنصلية	المحاكم المختلطة
اختصاصها	* النظر فى الجرائم التى يرتكبها الرعايا الأجانب ضد المصريين والحكومة المصرية نفسها.	* الفصل فى القضايا المدنية والمنازعات العقارية بين المصريين والأجانب. * الفصل فى المنازعات التى تنشأ بين الأجانب والحكومة المصرية نفسها.
مساوئها	* أحكامها لا تستأنف إلا فى الخارج مما كان يدفع المصريين إلى التنازل عن حقوقهم.	* رئاسة القضاة الأجانب لها أدى إلى تدخلهم فى سلطة القضاء التشريعى المصرى. * انحيازها للأجانب.

٦	المذكرة المشتركة الأولى يناير ١٨٨٢م	المذكرة المشتركة الثانية مايو ١٨٨٢م
سببها	* رغبة بريطانيا وفرنسا فى تقوية مركز الخديو توفيق فى مواجهة الحركة الوطنية.	* رغبة بريطانيا وفرنسا فى مساندة الخديو توفيق أمام العسكريين.
محتواها	* أبدت بريطانيا وفرنسا فيها : • رغبتهما الصريحة فى حل مجلس النواب. • تأييدهما التام لموقف الخديو ومساندته ضد الحركة الوطنية.	* طالبت بريطانيا وفرنسا فيها بـ : • إقالة وزارة البارودى. • إبعاد عرابى وزملائه خارج البلاد.

٧	الثورة العرابية	ثورة ١٩١٩م
العوامل (الأسباب)	(١) ازدياد التدخل الأجنبى فى شئون مصر نتيجة للقروض وفقدان مصر نصيبها من أسهم شركة قناة السويس. (٢) المؤثرات الفكرية الغربية التى أدت إلى نمو الوعى القومى وتطورت إلى المطالبة بالدستور والحكم النيابى. (٣) سوء أحوال مصر الاقتصادية فى عهد وزارة رياض باشا. (٤) اضطهاد عثمان رفقى باشا ناظر الجهادية للضباط المصريين وعدم ترقيتهم.	(١) ازدياد نمو الوعى الوطنى لدى المصريين من أجل الاستقلال. (٢) الإجراءات العنيفة التى اتخذتها سلطات الاحتلال البريطانى أثناء الحرب العالمية الأولى (١٩١٤م - ١٩١٨م). (٣) ادعاء إنجلترا وحلفائها بأنها تحارب من أجل حرية الشعوب واستقلالها. (٤) إعلان الرئيس الأمريكى ولسن المبادئ الأربعة عشر ومنها حق الشعوب فى تقرير مصيرها.
النتائج	* فشلت الثورة واحتلت بريطانيا مصر فى سبتمبر ١٨٨٢م. * محاكمة أحمد عرابى وزملائه حيث حكم عليهم بالإعدام، ثم عُدلت الأحكام إلى النفى المؤبد إلى جزيرة سيلان بالهند ومصادرة أملاكهم.	* قامت الحكومة البريطانية بـ : • عزل السير ونجت وتعيين الجنرال اللنبى. • الإفراج عن سعد زغلول ورفاقه فى أبريل ١٩١٩م والسماح لهم بالسفر إلى باريس لعرض قضية استقلال مصر على مؤتمر الصلح.

٨	تصريح ٢٨ فبراير ١٩٢٢م	معاهدة ١٩٣٦م
المزايا	(١) الاعتراف بمصر دولة مستقلة ذات سيادة. (٢) إنهاء الحماية البريطانية على مصر. (٣) إلغاء الأحكام العرفية.	(١) انتهاء احتلال مصر عسكريًا. (٢) إلغاء الامتيازات الأجنبية، وفقًا لمؤتمر مونترو ١٩٣٧م. (٣) انضمام مصر إلى عضوية عصبة الأمم باعتبارها دولة مستقلة ذات سيادة. (٤) حرية مصر فى عقد المعاهدات السياسية مع الدول الأجنبية بشرط ألا تتعارض مع هذه المعاهدة. (٥) تقوية الجيش المصرى لكى يتمكن من الدفاع عن قناة السويس بمفرده. (٦) عودة الجيش المصرى إلى السودان واعتراف بريطانيا بالإدارة المشتركة مع مصر للسودان.
العيوب	لم يحقق الاستقلال الكامل لمصر بسبب احتفاظ بريطانيا بالتحفظات الأربعة والتى تمثلت فى : (١) تأمين المواصلات البريطانية فى مصر. (٢) الدفاع عن مصر ضد أى اعتداء أو تدخل أجنبى. (٣) حماية المصالح الأجنبية وحماية الأقليات فى مصر. (٤) استمرار أوضاع السودان على ما كانت عليه وفقًا لاتفاقية الحكم الثنائى عام ١٨٩٩م.	(١) وجود قوات بريطانية فى منطقة قناة السويس. (٢) تعهد الحكومة المصرية ببناء الثكنات والمعسكرات والطرق والكبارى اللازمة للقوات البريطانية وصيانتها. (٣) طول مدة سريان المعاهدة (٢٠ عامًا). (٤) وضع موانئ مصر ومطاراتها وطرق مواصلاتها تحت تصرف بريطانيا فى حالة الحرب. (٥) استمرار إدارة السودان وفقًا لاتفاقية الحكم الثنائى يناير ١٨٩٩م.

بم تفسر ...

١ توقف حركة النهضة فى عهد عباس باشا الأول.

بسبب :

- إغلاق معظم المدارس.
- إغلاق معظم المصانع التى أنشأها محمد على.
- تخفيض حجم الجيش.
- تعطيل أعمال الترسانة البحرية.

---

٢ يعد عهد الخديو إسماعيل من أخطر الفترات التى تعرضت لها مصر من تدخل أجنبى فى شئونها.

بسبب الأخطاء التى أدت إلى تدهور مركزها المالى وما تبعه من انهيار استقلالها السياسى.

---

٣ توجيه الخديو إسماعيل حملات عسكرية إلى الأقاليم الاستوائية فى أفريقيا.

بهدف : - منع تجارة الرقيق.

- التوسع فى الجنوب والسيطرة على مياه النيل.

---

٤ ازدياد الأزمة المالية والتدخل الأجنبى فى عهد الخديو إسماعيل.

بسبب :

- سياسة الاقتراض التى اتبعها من الدول الأجنبية للوفاء بالتزاماته ومشروعاته.
- الإنفاق ببذخ على احتفالات افتتاح قناة السويس.
- اعتماده فى علاقته بالسلطان العثمانى على تقديم المال والهدايا (للحصول على الفرمانات التى يوسع بها نطاق حكمه).
- الامتيازات الأجنبية التى زادت فى عهده بسبب مشروعاته فى كافة المجالات.

---

٥ اعتمد الخديو إسماعيل فى علاقته بالسلطان العثمانى على تقديم المال والهدايا.

من أجل الحصول على الفرمانات التى يوسع بها نطاق حكمه، ومن ضمن هذه الفرمانات :

- جعل وراثة العرش فى أكبر أبنائه.
- زيادة عدد الجيش المصرى.

---

٦ إصدار الخديو إسماعيل اللائحة الأساسية.

بهدف إقامة حياة دستورية سليمة.

٧ إنشاء الخديو إسماعيل للمحاكم المختلطة عام ١٨٧٥م.

بهدف الحد من مساوئ المحاكم القنصلية.

---

٨ إنشاء الخديو إسماعيل لصندوق الدين فى مايو ١٨٧٦م.

بهدف : - تسلم المبالغ المخصصة للديون من المصالح المختلفة.

- الإشراف على تسديد الديون لأصحابها.

لذلك كان بمثابة خزانة فرعية للخزانة المصرية.

---

٩ إنشاء لجنة التحقيق العليا الأوروبية فى مصر يناير ١٨٧٨م.

بسبب زيادة الأمور المالية فى مصر سوءًا وارتباكًا مما أدى إلى مطالبة الرقيبان الأجنبيان بإنشاء لجنة دولية للتحقيق فى جميع الشئون المالية والإدارية لمصر فوافق الخديو إسماعيل وأصدر مرسومًا بتأليف اللجنة والموافقة على مطالبها.

---

١٠ يعتبر عهد إسماعيل بداية لتقلص الحكم المطلق.

بسبب إنشاء لجنة التحقيق العليا الأوروبية فى مصر والتى كان من أهم مطالبها تنازل الخديو إسماعيل عن سلطته المطلقة لوزارة مسئولة عن الحكم فى البلاد.

---

١١ عزل الخديو إسماعيل فى يونيه ١٨٧٩م وتولية ابنه الخديو توفيق.

بسبب قيام الخديو إسماعيل بـ :

- إقصاء الوزيرين الأجنبيين عن الوزارة المختلطة.
- إصدار مرسوم فى أبريل ١٨٧٩م بتسوية الديون طبقًا لما قررته اللائحة الوطنية (اللائحة الأساسية).

لذلك قامت الحكومتان البريطانية والفرنسية بالضغط على السلطان العثمانى، فأصدر فرمانًا بخلع الخديو إسماعيل وتولية ابنه توفيق.

---

١٢ حادثة قصر النيل منتصف يناير ١٨٨١م.

بسبب تقدم أحمد عرابى وزملائه بشكوى إلى رياض باشا رئيس مجلس الوزراء طالبوا فيها بإقالة عثمان رفقى ناظر الجهادية فأمر الخديو توفيق بالقبض عليهم واعتقالهم وتقديمهم للمحاكمة أمام مجلس عسكرى.

---

١٣ رغبة شريف باشا فى تأجيل مناقشة مجلس النواب للميزانية.

لكى يتجنب الاصطدام بالدول الأوروبية.

١٤ تدبير الضباط الشراكسة لمؤامرة عام ١٨٨٢م.

بهدف اغتيال عرابى والضباط الوطنيين للإطاحة بوزارة محمود سامى البارودى.

---

١٥ حدوث توتر بين عرابى والخديو توفيق بعد احتلال الإنجليز مدينة الإسكندرية.

بسبب :

- رفض عرابى تنفيذ مطالب الخديو توفيق وهى :
  - ♦ الكف عن استعداداته الحربية.
  - ♦ الحضور لسراى رأس التين لتلقى تعليماته.
- اتهام عرابى للخديو توفيق بمحاباة البريطانيين.

---

١٦ فشل الثورة العرابية.

بسبب :

- عدم تكافؤ القوة العسكرية بين قوات الاحتلال البريطانى، والقوات المصرية.
- تواطؤ إدارة شركة قناة السويس الأجنبية (ديليسبس) مع قيادة الجيش البريطانى.
- إصدار السلطان العثمانى منشورًا بإعلان عصيان عرابى.
- عدم إدراك قيادة الثورة العرابية (عرابى) لأهمية التعبئة الشعبية لمساندة القوات المصرية فى معاركها.
- ميول بعض عناصر القوات المصرية للخديو والبريطانيين.
- الظروف الدولية فى عام ١٨٨٢م، لم تكن فى صالح الحركات الوطنية.

---

١٧ اهتمام الاحتلال البريطانى بالتوسع فى زراعة القطن فى مصر.

بهدف توفير المادة الخام اللازمة للمصانع البريطانية.

---

١٨ استمرار المصريين فى مواصلة الكفاح ضد الاحتلال البريطانى ومواجهة الحكام المستبدين من أسرة محمد على.

من أجل : - تحقيق الاستقلال.

- إقامة حكومة دستورية.

---

١٩ تخلى فرنسا عن مساندة مصطفى كامل.

بسبب عقدها الاتفاق الودى مع إنجلترا عام ١٩٠٤م، والذى نص على انفراد إنجلترا بحكم مصر مقابل انفراد فرنسا بحكم مراكش (المغرب حاليًا).

٢٠ توجه أعضاء الوفد المصرى لمقابلة المندوب السامى البريطانى فى مصر (السيرونجت).

للمطالبة بـ:

- إلغاء الحماية البريطانية.
- إنهاء الأحكام العرفية.
- إلغاء الرقابة على الصحف والمطبوعات.
- الاستقلال التام.
- السماح لهم بالسفر إلى باريس لعرض المطالب الوطنية على مؤتمر الصلح هناك.

---

٢١ نفى سعد زغلول ورفاقه إلى جزيرة مالطة فى مارس ١٩١٩م.

بسبب:

- قيام الوفد المصرى بجمع التوكيلات من الأمة للسعى إلى استقلال مصر استقلالًا تامًا فأصبح الوفد بزعامة سعد زغلول يمثل الأمة المصرية.
- رفض سلطات الاحتلال البريطانى مطالب الوفد المصرى.

---

٢٢ * فشل مهمة الوفد المصرى فى باريس عام ١٩١٩م.

* صُدم أعضاء الوفد المصرى بعد وصولهم إلى باريس لحضور مؤتمر الصلح ١٩١٩م.

بسبب اعتراف كل من الدول الموجودة بالمؤتمر والرئيس الأمريكى ولسن بالحماية البريطانية على مصر مما أصاب أعضاء الوفد المصرى بإحباط كبير.

---

٢٣ رفض الشعب المصرى التفاوض مع لجنة ملنر وقاطعها.

لأن تفاوض الشعب مع لجنة ملنر يعنى التنازل عن الوكالة للوفد المصرى برئاسة سعد زغلول.

---

٢٤ انتهت مفاوضات سعد / ملنر بمشروع معاهدة رفضها الشعب بجميع طوائفه.

لأنها كانت ستؤدى إلى استقلال مصر استقلالًا صوريًا.

---

٢٥ لم يحقق تصريح ٢٨ فبراير ١٩٢٢م للمصريين أمانيهم الوطنية الكاملة.

لأن بريطانيا احتفظت بعدة أمور قيدت استقلال مصر وهى التحفظات الأربعة، والتى تمثلت فى:

(١) تأمين المواصلات البريطانية فى مصر.

(٢) الدفاع عن مصر ضد أى اعتداء أو تدخل أجنبى.

(٣) حماية المصالح الأجنبية وحماية الأقليات فى مصر.

(٤) استمرار أوضاع السودان على ما كانت عليه وفقًا لاتفاقية الحكم الثنائى عام ١٨٩٩م.

٢٦ استقالة وزارة سعد زغلول عام ١٩٢٤م.

بسبب رفضها المطالب التى تضمنها الإنذار الذى أرسله المندوب السامى البريطانى اللورد اللنبى فى ٢٢ نوفمبر ١٩٢٤م للحكومة المصرية (برئاسة سعد زغلول) بعد مقتل السير لى ستاك ومنها سحب الجيش المصرى من السودان.

---

٢٧ معارضة الشعب المصرى لدستور ١٩٣٠م.

لأن دستور ١٩٣٠م :

- أعطى الملك مزيدًا من السلطات.
- أهدر سلطة الأمة وحقوقها فى مواضع كثيرة.

---

٢٨ عدم إثراء الحياة النيابية فى مصر رغم تعدد الأحزاب منذ دستور ١٩٢٣م.

لأن الأحزاب كانت أداة للقصر الملكى ولبريطانيا لتحقيق مصالحهما دون النظر لمصالح الشعب المصرى.

---

٢٩ حدوث خلافات بين الحكومة المصرية وبريطانيا عقب اندلاع الحرب العالمية الثانية.

بسبب إصرار بريطانيا على أن تعلن مصر الحرب على دول المحور أثناء الحرب العالمية الثانية وهو ما كانت ترفضه الحكومة المصرية (لاتباع سياسة تجنب مصر ويلات الحرب).

---

٣٠ * حصار الدبابات الإنجليزية لقصر عابدين فى ٤ فبراير ١٩٤٢م.

* وقوع حادث ٤ فبراير ١٩٤٢م.

بسبب مماطلة الملك فاروق فى مطلب بريطانيا بتشكيل حكومة جديدة برئاسة مصطفى النحاس باشا.

---

٣١ يوم ٢٥ يناير من كل عام يوم مهم فى تاريخ الشرطة المصرية.

بسبب المقاومة الباسلة لرجال الشرطة فى هذا اليوم من عام ١٩٥٢م عندما حاصرت القوات البريطانية مبنى محافظة الإسماعيلية لنزع سلاح جنود الشرطة المصرية فرفضوا التسليم فوقع الصدام بين عناصر الشرطة المصرية وقوات الاحتلال واستشهد الكثير من المصريين.

ما النتائج التى ترتبت على ...

١ إصدار اللائحة السعيدية أغسطس ١٨٥٨م.
ترتب على ذلك أن أصبح للفلاح بموجبها الحق فى توريث الأرض الزراعية.

٢ إنشاء المحاكم القنصلية.
ترتب على ذلك تنازل المصريين عن حقوقهم لأن أحكامها لا تُستأنف إلا فى الخارج.

٣ إنشاء المحاكم المختلطة عام ١٨٧٥م.
ترتب على ذلك :
- تدخل القضاة الأجانب فى سلطة القضاء التشريعى المصرى.
- انحيازها للأجانب.

٤ صدور مرسوم نوفمبر ١٨٧٦م من قبل الخديو إسماعيل.
ترتب على ذلك تعيين مراقبين أجنبيين على المالية المصرية أحدهما بريطانى لمراقبة الإيرادات والآخر فرنسى لمراقبة المصروفات وعرف ذلك بنظام (المراقبة الثنائية).

٥ الانتقادات التى وجهتها الحركة الوطنية للوزارة المختلطة.
ترتب على ذلك قيام الخديو إسماعيل بـ :
- إقصاء الوزيرين الأجنبيين عن الوزارة.
- إصدار مرسوم فى أبريل ١٨٧٩م بتسوية الديون طبقًا لما قررته اللائحة الوطنية (اللائحة الأساسية).

٦ حادثة قصر النيل منتصف يناير ١٨٨١م.
ترتب على ذلك استجابة الخديو توفيق لمطالب الضباط فقام بعزل عثمان رفقى وتعيين محمود سامى البارودى بدلًا منه ناظرًا للجهادية.

٧ مظاهرة عابدين ٩ سبتمبر ١٨٨١م.
ترتب على ذلك :
- موافقة الخديو توفيق مضطرًا على مطالب الأمة والجيش.
- إسناد الخديو الوزارة إلى شريف باشا بعد عزل رياض باشا.

٨ إصرار مجلس النواب أثناء وزارة شريف باشا على مناقشة الميزانية.
ترتب على ذلك :
- قيام كل من بريطانيا وفرنسا بإرسال المذكرة المشتركة الأولى.
- استقالة وزارة شريف باشا.

٩ تولى محمود سامى البارودى رئاسة الوزارة فبراير ١٨٨٢م.

ترتب على ذلك :

- تعيين أحمد عرابى وزيرًا للجهادية والبحرية.
- إصدار الوزارة اللائحة الأساسية (الدستور)، والتى نصت على :
  - ♦ مبدأ مسئولية الوزارة أمام مجلس النواب.
  - ♦ حق مجلس النواب فى مناقشة الميزانية وإقرارها.

---

١٠ اكتشاف مؤامرة الضباط الشراكسة لاغتيال عرابى والضباط الوطنيين عام ١٨٨٢م.

ترتب على ذلك محاكمة المشتركين فى المؤامرة بالنفى إلى أقاصى السودان ولكن رفض الخديو توفيق التصديق على الحكم فأدى ذلك إلى زيادة التوتر بين الوزارة (العرابيين) والخديو.

---

١١ حادثة الإسكندرية فى ١١ يونيه ١٨٨٢م.

ترتب على ذلك :

- اجتماع قناصل الدول الأجنبية بالإسكندرية.
- سفر الخديو توفيق إلى الإسكندرية بحجة تهدئة الأوضاع.
- عقد ممثلو الدول العظمى مؤتمر بالآستانة للنظر فى المسألة المصرية.

---

١٢ عقد مؤتمر الآستانة «بالنسبة للمسألة المصرية».

قررت الدول العظمى فى المؤتمر ما يلى :

- إرسال تركيا «الدولة العثمانية» قوة لإعادة الأمن والنظام فى مصر.
- عدم تدخل أى من الدول الأجنبية منفردة فى المسألة المصرية.

---

١٣ ضرب القوات البريطانية لمدينة الإسكندرية يوليو ١٨٨٢م.

ترتب على ذلك :

- احتلال القوات البريطانية مدينة الإسكندرية.
- عدم مغادرة الخديو توفيق لقصر رأس التين (بالإسكندرية) هو وأسرته.
- انسحاب العرابيين من الإسكندرية إلى كفر الدوار لمواجهة زحف الجيش البريطانى.

١٤ صد العرابيين هجمات الإنجليز عند كفر الدوار.

ترتب على ذلك انسحاب قوات الإنجليز من كفر الدوار إلى الإسكندرية ثم تحركها نحو منطقة قناة السويس واجتياحها دون مراعاة لوضعها بالنسبة للملاحة الدولية.

---

١٥ * خيانة ديليسبس لعرابى (بالنسبة لأمر قناة السويس).

* تواطؤ ديليسبس مع قيادة الجيش الإنجليزى ضد عرابى.

ترتب على ذلك اجتياح السفن البريطانية لقناة السويس دون مراعاة لوضعها بالنسبة للملاحة الدولية (حيادية القناة) حتى وصلت القوات البريطانية إلى الإسماعيلية واحتلتها.

---

١٦ إصدار السلطان العثمانى منشور بإعلان عصيان عرابى.

أدى ذلك إلى إضعاف الروح المعنوية للمقاتلين المصريين مما كان سببًا فى هزيمتهم فى معركة التل الكبير وفشل الثورة العرابية.

---

١٧ معركة التل الكبير عام ١٨٨٢م.

ترتب على ذلك :

- هزيمة الجيش المصرى على الرغم من البطولات والمقاومة الباسلة للعرابيين.
- اتجاه القوات البريطانية إلى القاهرة لاحتلالها.

---

١٨ السياسة الاقتصادية للاحتلال البريطانى فى مصر.

ترتب على ذلك :

- تدهور الاقتصاد المصرى عامة والصناعة خاصة بتسويق المنتجات البريطانية والأجنبية فى السوق المصرية.
- ظهور طبقة من كبار الملاك والأعيان تستفيد من هذه السياسة ويرتبط نموها الاقتصادى باستمرار بقاء الاحتلال.

---

١٩ تنديد مصطفى كامل بحادثة دنشواى عام ١٩٠٦م.

ترتب على ذلك استقالة اللورد كرومر (المعتمد البريطانى فى مصر).

٢٠ معارضة محمد فريد مشروع مد امتياز قناة السويس.

ترتب على ذلك إجبار الحكومة المصرية على دعوة مجلس شورى القوانين والجمعية العمومية لمناقشة طلب الشركة (مد امتياز قناة السويس ٤٠ عامًا أخرى) وأدى ذلك إلى رفض الحكومة المصرية طلب الشركة.

---

٢١ قيام ثورة ١٩١٩م.

ترتب على ذلك قيام الحكومة البريطانية بـ:

- عزل السير ونجت (المندوب السامى البريطانى) وتعيين الجنرال اللنبى.
- الإفراج عن سعد زغلول ورفاقه فى أبريل ١٩١٩م والسماح لهم بالسفر إلى باريس لعرض قضية استقلال مصر على مؤتمر الصلح.

---

٢٢ فشل مفاوضات عدلى / كيرزون عام ١٩٢١م.

ترتب على ذلك:

- استقالة عدلى يكن من رئاسة الوزارة.
- رفض رجال السياسة تشكيل حكومة جديدة.
- القبض على سعد زغلول ونفيه للمرة الثانية إلى جزيرة سيشل.

---

٢٣ إلقاء القبض على سعد زغلول ونفيه للمرة الثانية إلى جزيرة سيشل.

ترتب على ذلك تجدد ثورة المصريين ومقاطعتهم للبضائع الإنجليزية مما اضطر الحكومة البريطانية للإفراج عن سعد زغلول.

---

٢٤ إصدار تصريح ٢٨ فبراير ١٩٢٢م.

ترتب على ذلك أن:

- أعلن السلطان فؤاد نفسه ملكًا لمصر فى مارس ١٩٢٢م.
- أُعيدت وزارة الخارجية المصرية.
- شكلت وزارة عبدالخالق ثروت لجنة من ثلاثين عضوًا لإعداد الدستور الذى عُرف بدستور ١٩٢٣م.

٢٥ صدور دستور ١٩٢٣م.

ترتب على ذلك إجراء الانتخابات العامة فى مصر وحصول حزب الوفد على الأغلبية، وبناءً على ذلك :

- شكل سعد زغلول فى يناير ١٩٢٤م أول وزارة برلمانية عرفت بوزارة الشعب.
- افتتح أول برلمان مصرى فى مارس ١٩٢٤م.

---

٢٦ اغتيال السير لى ستاك القائد العام للجيش المصرى.

ترتب على ذلك تقديم المندوب السامى البريطانى اللورد اللنبى إنذارًا للحكومة المصرية فى ٢٢ نوفمبر ١٩٢٤م وطلب عدة مطالب منها سحب الجيش المصرى من السودان، فرفضت وزارة سعد زغلول المطالب واستقالت وتألفت وزارة برئاسة زيور باشا (رئيس مجلس الشيوخ) والتى قبلت المطالب البريطانية.

---

٢٧ معارضة الشعب المصرى لدستور ١٩٣٠م.

ترتب على ذلك أن اضطر الملك فؤاد للرضوخ لمطالب الأمة وإعادة دستور ١٩٢٣م.

---

٢٨ معاهدة ١٩٣٦م.

ترتب على ذلك :

- انتهاء احتلال مصر عسكريًا مع بقاء قوات بريطانية فى قناة السويس.
- انضمام مصر إلى عضوية عصبة الأمم باعتبارها دولة مستقلة ذات سيادة.
- إلغاء الامتيازات الأجنبية وفقًا لمؤتمر مونترو ١٩٣٧م.
- تقوية الجيش المصرى لكى يتمكن من الدفاع عن قناة السويس بمفرده، وبالتالى تجلو القوات البريطانية عن مصر.
- حرية مصر فى عقد المعاهدات السياسية مع الدول الأجنبية بشرط ألا تتعارض مع هذه المعاهدة.
- عودة الجيش المصرى إلى السودان واعتراف بريطانيا بالإدارة المشتركة مع مصر للسودان.

---

٢٩ حادث ٤ فبراير ١٩٤٢م.

ترتب على ذلك :

- قبول الملك فاروق الإنذار البريطانى.
- تأليف وزارة برئاسة مصطفى النحاس باشا.

٣٠ إلغاء مصطفى النحاس لمعاهدة ١٩٣٦م فى أكتوبر ١٩٥١م.

ترتب على ذلك :

- إطلاق الحرية للشعب للنضال المسلح ضد القوات البريطانية فى القناة فقامت جماعات الفدائيين بمهاجمة المعسكرات البريطانية.
- عمدت الحكومة المصرية إلى زيادة عدد جنود الشرطة لمساعدة الفدائيين.

دلل ...

١ لم يكن خلفاء «محمد على» على شاكلته من حيث القوة والوعى.

حيث :

- لم يثبتوا كفاءتهم فى حكم البلاد.
- دهمتهم «صدمتهم» الموجة الغربية فى الوقت الذى لم يمتلك أى منهم الكفاءة على مواجهتها فانفلتت من أيديهم زمام الأمور.
- تأرجحوا بين إبداء مظاهر الميل لكل من فرنسا وبريطانيا والدولة العثمانية وكان ذلك على حساب مصر واستقلالها.

٢ يُعد عهد محمد سعيد باشا بداية الأزمة المالية فى مصر.

حيث :

- اعتمد على رءوس أموال أجنبية فعقد أول قرض من أحد البنوك البريطانية عام ١٨٦٢م.
- اندفع فى طلب الاستدانات، ثم لجأ للمرابين يستدين منهم مقابل سندات على حساب الخزانة المصرية.

٣ كانت معظم شروط عقد الامتياز الثانى لحفر قناة السويس مجحفة (ظالمة) لمصر والمصريين.

حيث كانت لصالح الشركة الأجنبية، فكان من أهم شروطها :

- تنازل الحكومة المصرية للشركة مجانًا عن جميع الأراضى المملوكة لها والمطلوبة لإنشاء القناة المالحة وترعة المياه العذبة.
- للشركة الحق فى فرض ما تشاء من رسوم على السفن التى تمر بالقناة المالحة أو الترعة العذبة.
- يكون أربعة أخماس (٨٠٪) العمال من المصريين.
- تحصل مصر على ١٥٪ من صافى الأرباح مقابل الأراضى والامتيازات الممنوحة للشركة.

٤ شهد عهد الخديو إسماعيل نهضة علمية.

حيث :

- أعاد فتح ديوان المدارس.
- توسع فى إنشاء المدارس المختلفة.
- أنشأ دار الرصد بالعباسية، ودار الكتب ومصلحة الإحصاء والمساحة.
- أنشأ الجمعية الجغرافية عام ١٨٧٥م.

---

٥ شهدت مصر فى عهد الخديو إسماعيل نهضة عمرانية كبرى.

حيث :

- اهتم بإنشاء القصور المعروفة حتى الآن، مثل : قصر عابدين.
- أنشأ دار الأوبرا المصرية.
- أقام الجسور والكبارى.

---

٦ يعتبر عهد الخديو إسماعيل بداية الإصلاح النيابى فى مصر.

حيث :

- أسس مجلس شورى النواب عام ١٨٦٦م الذى يُعد بداية تاريخ المؤسسات النيابية فى مصر الحديثة.
- وضع أول دستور فى مصر والذى عُرف بـ «اللائحة الأساسية».
- أدخل نظام الوزارة المسئولة عام ١٨٧٨م.

---

٧ * اتخذ الخديو توفيق عدة سياسات أدت إلى زيادة التدخل الأجنبى فى شئون مصر.

* رضوخ الخديو توفيق للنفوذ الأجنبى منذ بداية حكمه.

حيث :

- أعاد نظام المراقبة الثنائية.
- رفض اللائحة الأساسية «الدستور» لمجلس النواب.
- وضع نفسه تحت حماية إنجلترا وفرنسا بإسناد الوزارة إلى رياض باشا.

٨ عبرت وزارة البارودى عن آمال الوطنيين.

حيث :

- تم إسناد وزارتا الجهادية والبحرية لأحمد عرابى.
- أصدرت وزارة البارودى اللائحة الأساسية «الدستور» والتى نصت على : مبدأ مسئولية الوزارة أمام مجلس النواب، حق مجلس النواب فى مناقشة الميزانية وإقرارها.

---

٩ تعددت الحجج التى اتخذتها إنجلترا لاحتلال مصر.

حيث تمثلت الحجج فى :

- حماية الخديو وتدعيم سلطته.
- تأمين حياة الأجانب ومصالحهم.
- القضاء على الثورة العرابية.

---

١٠ عمل الإنجليز منذ احتلالهم لمصر على فرض سيطرتهم على البلاد.

حيث :

- أصبحت السلطة الفعلية للمعتمد البريطانى وانحصرت سلطة الخديو فى التصديق على قرارات سلطات الاحتلال.
- ألغت سلطات الاحتلال مجلس النواب المنتخب عام ١٨٨١م وأنشأت مجالس صورية لا سلطة لها (مجلس شورى القوانين والجمعية العمومية ثم الجمعية التشريعية).
- أنشأ الإنجليز جيشًا مصريًا لا يتجاوز عدده ستة آلاف جندى يتولى قيادته ضابط إنجليزى وانحصرت مهمة هذا الجيش فى إقرار الأمن وحفظ النظام.
- عملت بريطانيا على فرض سياسة اقتصادية تخدم مصالحها.
- أهمل الاحتلال البريطانى التعليم وجعله بمصروفات مرتفعة وحصره فى فئة قليلة.

---

١١ عملت بريطانيا على فرض سياسة اقتصادية فى مصر تخدم مصالحها.

حيث قامت بـ:

- التوسع فى زراعة القطن لتوفير المادة الخام اللازمة للمصانع البريطانية.
- محاربة الصناعة المصرية بتسويق المنتجات البريطانية والأجنبية فى السوق المصرية.

---

١٢ * تولى محمد فريد رئاسة الحزب الوطنى فى ظروف صعبة.

* اتجه محمد فريد إلى الكفاح ضد الاحتلال البريطانى والخديو فى آن واحد.

حيث تحول الخديو عباس حلمى الثانى عن مؤازرة «تأييد» الحركة الوطنية إلى موالاة الاحتلال.

١٣ أكدت ثورة ١٩١٩م على الوحدة الوطنية بين أبناء الأمة المصرية.

حيث امتدت الثورة من القاهرة إلى كافة المدن والأقاليم واشترك فيها جميع فئات وعناصر الشعب المصرى.

---

١٤ كان لدستور عام ١٩٢٣م العديد من المزايا ولكنه لم يخل من العيوب.

- تمثلت المزايا فى أنه :

♦ كان خطوة فى تقرير مبدأ الأمة مصدر السلطات.

♦ وضع نهاية للحكم المطلق.

♦ قرر مبدأ المساواة بين جميع المصريين فى الحقوق والواجبات واحترام الحريات العامة.

- تمثلت العيوب فى أنه :

أعطى للملك سلطات واسعة إزاء السلطتين التشريعية والتنفيذية فكان من حقه حل البرلمان والدعوة لانتخابات جديدة.

ما العلاقة بين ...

١ سعيد باشا، وأحوال الفلاح المصرى.

تحسنت أحوال الفلاح المصرى فى عهد سعيد باشا نتيجة إصداره اللائحة السعيدية أغسطس ١٨٥٨م والتى بموجبها أصبح للفلاح الحق فى توريث الأرض الزراعية كما اهتم بتطهير ترعة المحمودية.

---

٢ مظاهرة عابدين، والحياة النيابية فى مصر.

حيث كان من مطالب مظاهرة عابدين تشكيل مجلس النواب على النسق الأوروبى والذى يعد أحد مظاهر الحياة النيابية حيث تم إجراء انتخابات لاختيار أعضاء مجلس النواب الجديد الذى أُفتتح فى ديسمبر ١٨٨١م.

---

٣ إدارة شركة قناة السويس، وفشل الثورة العرابية.

قامت إدارة شركة القناة «ديليسبس» بالتواطؤ مع الإنجليز وسمحت للسفن البريطانية باجتياح القناة دون مراعاة لوضعها بالنسبة للملاحة الدولية مما كان سببًا فى تسهيل احتلال بريطانيا لمصر عام ١٨٨٢م وبالتالى فشلت الثورة العرابية.

ماذا كان يحدث إذا ...

١ لم يتم إنشاء لجنة التحقيق العليا الأوروبية عام ١٨٧٨م.

لم يتنازل الخديو إسماعيل عن سلطته المطلقة لوزارة مسئولة عن الحكم فى البلاد، كما لم يتنازل عن أطيانه وأطيان عائلته ووضعها تحت الرقابة الدولية مقابل مخصصات مالية تصرف لهم.

٢ رفض الخديو توفيق مطالب الوطنيين فى ٩ سبتمبر ١٨٨١م.

لم يتم عزل وزارة رياض باشا ولم يتم إجراء انتخابات لاختيار أعضاء مجلس النواب الجديد وبالتالى استمر التوتر بين الخديو توفيق والوطنيين.

٣ انتصر عرابى فى معركة التل الكبير.

لم تتجه القوات البريطانية نحو القاهرة لاحتلالها ولم تفشل الثورة العرابية.

٤ نجح عرابى فى تعطيل الملاحة فى قناة السويس أثناء حربه مع الإنجليز عام ١٨٨٢م.

لم تجتاح السفن البريطانية قناة السويس ولم تحتل القوات البريطانية الإسماعيلية وتتخذها قاعدة لتقدمهم داخل مصر.

٥ لم يتضمن تصريح ٢٨ فبراير ١٩٢٢م التحفظات الأربعة.

لحصلت مصر على استقلال حقيقى فى ٢٨ فبراير ١٩٢٢م وأصبحت مصر دولة مستقلة.